1. 다음 그림과 같은 $\triangle ABC$ 에서 $\angle B = \angle C$ 일 때, $\overline{AC}$ 의 길이는?

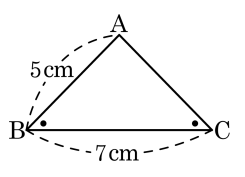

① 4cm ② 4.5cm ③ 5cm

④ 5.5cm ⑤ 6cm

2. 다음 그림의 $\triangle ABC$에서, $\overline{AB} = \overline{AC}$, $B = 60°$이고, 꼭지각의 이등분선이 밑변과 만나는 점을 D라고 할 때, $\angle BAD$의 크기는?

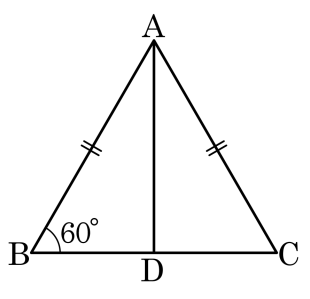

① 30° ② 45° ③ 60° ④ 85° ⑤ 90°

3. 다음 그림의 직각삼각형 ABC 에서 점 O 가 빗변의 중점일 때, $\angle x$ 의 크기를 구하면?

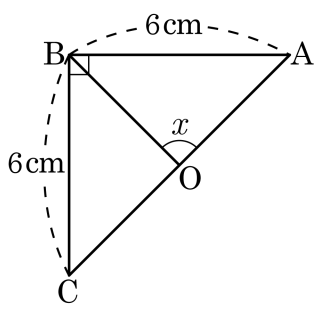

① 70° ② 75° ③ 80° ④ 85° ⑤ 90°

4. 다음 그림에서 점 O는 $\triangle ABC$의 외심이다. $\angle OCB$의 크기는?

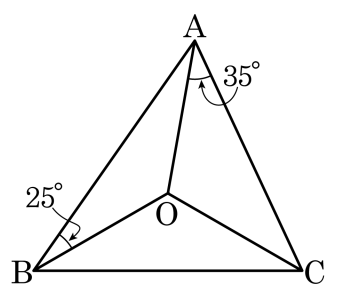

① 20° ② 25° ③ 30° ④ 35° ⑤ 40°

5. 다음 그림과 같은 $\triangle ABC$ 에서 $\overline{AB} = 5\text{cm}$, $\overline{AC} = 4\text{cm}$, $\overline{BC} = 3\text{cm}$ 이고, $\angle C = 90^\circ$ 일 때, 내접원 I 의 반지름의 길이는?

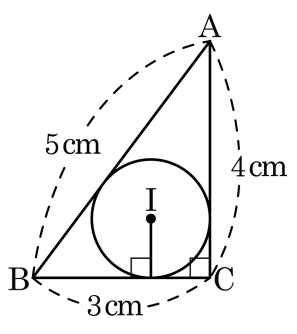

① 1cm ② 2cm ③ 3cm ④ 4cm ⑤ 5cm

6. 다음 그림과 같은 이등변삼각형ABC 에서 $\overline{AD} = \overline{AE}$ 일 때, $\triangle FBC$ 는 어떤 삼각형인지 구하여라.

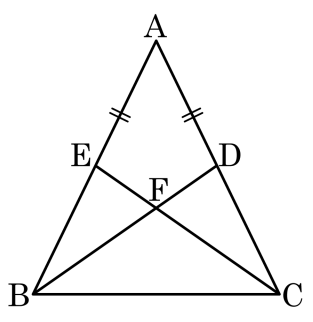

답: _____

7. 두 직각삼각형 ABC, DEF 가 다음 그림과 같을 때, $x+y$ 의 값은?

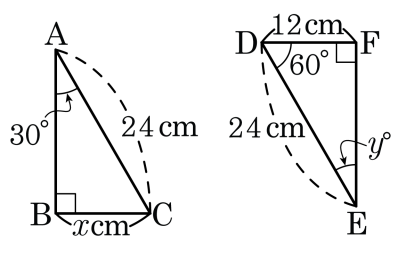

① 12 ② 36 ③ 42 ④ 48 ⑤ 60

8. 다음 그림과 같은 직각이등변삼각형 ABC 의 꼭짓점 B, C 에서 직선 l 위에 내린 수선의 발을 각각 D, E 라 하자. $\overline{BD} = 2\text{cm}$, $\overline{CE} = 4\text{cm}$ 일 때, $\triangle ABD$ 의 넓이를 구하여라.

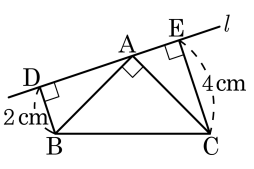

답: _____ cm^2

9. 다음 그림에서 $\triangle$ABC 와 $\triangle$ADE 가 정삼각형일 때, $\angle x$ 의 크기는?

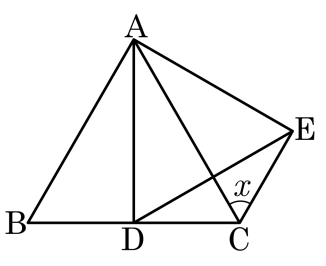

① 50° ② 55° ③ 60° ④ 65° ⑤ 70°

10. 다음 그림에서 점 O 가 $\overline{AC}$, $\overline{BC}$ 의 수직이등분선의 교점일 때, $\angle x$ 의 크기는?

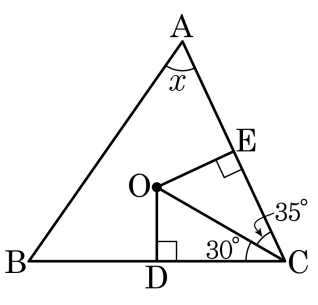

① 40° ② 50° ③ 60° ④ 70° ⑤ 80°

11. 다음 그림에서 점 O 는 직각삼각형 ABC 의 외심일 때, x 의 값은?

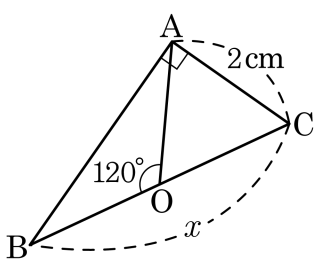

① 2cm ② 3cm ③ 4cm ④ 5cm ⑤ 6cm

12. 다음은 삼각형의 모양의 종이를 오려서 최대한 큰 원을 만들려고 할 때의 과정이다. 그 순서를 찾아 차례대로 써라.

보기

㉠ $\triangle ABC$ 의 세 변의 수직이등분선의 교점을 찾아 O 라고 한다.

㉡ 점 O 를 중심으로 하고 $\overline{OA}$ 를 반지름으로 하는 원을 그린다.

㉢ 세 내각의 이등분선의 교점을 I 라고 한다.

㉣ 점 I 를 중심으로 하고 점 I 에서 한 변까지의 거리를 반지름으로 하는 원을 그려 오린다.

㉤ 세 내각의 이등분선을 찾는다.

답: _____

답: _____

답: _____

13. 다음 그림에서 점 I 는 $\triangle ABC$ 의 내심이고, 점 D, E, F 는 접점이다. 내접원의 반지름의 길이가 2cm 일 때, $\triangle ABC$ 의 넓이는?

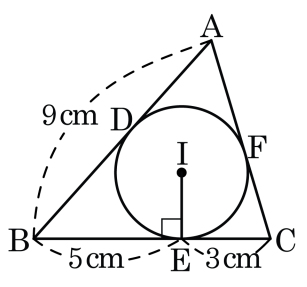

① $22cm^2$ ② $23cm^2$ ③ $24cm^2$

④ $25cm^2$ ⑤ $26cm^2$

14. 다음 그림에서 $\angle C = 32°$ 인 삼각형 ABC 의 외심이 M 이고, 삼각형 ABM 의 외심을 O 라 할 때, $\angle AOM$ 의 크기를 구하여라.

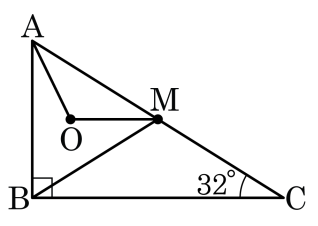

답: _____ °

15. 다음 그림과 같이 $\angle A = \angle B$ 인 삼각형 ABC 의 변 AB 에 수직인 직선이 변 AB , 변 AC 와 변 BC 의 연장선과 만나는 점을 각각 D, E, F 라 정한다. $\overline{BF} = 7\text{cm}$, $\overline{AE} = 2.5\text{cm}$ 일 때, 선분 EC 의 길이를 구하여라.

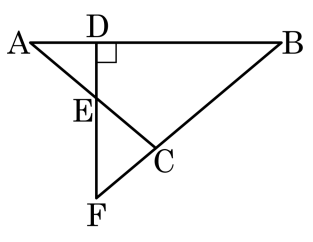

답: _____ cm

16. 직사각형 모양의 종이를 다음 그림과 같이 접었을 때, $\angle BCD = 30°$ 이다. 이때, $\angle BAC$ 의 크기를 구하여라.

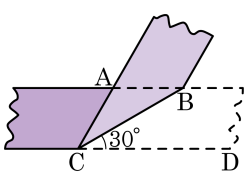

① $100°$ ② $110°$ ③ $120°$

④ $130°$ ⑤ $140°$

17. 다음 그림의 $\triangle ABC$ 에서 변 BC 의 중점을 D 라 하자. 점 D 에서 변 AB, AC 에 내린 수선의 발을 각각 E, F 라 하고, $\overline{DE} = \overline{DF}$ 일 때, 다음 중 옳지 <u>않은</u> 것은?

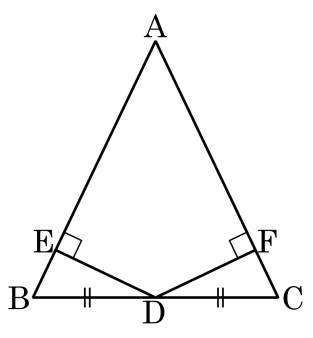

① $\overline{EB} = \overline{FC}$

② $\angle EBD = \angle FCD$

③ $\triangle ABC$ 는 이등변삼각형

④ $\triangle EBD \equiv \triangle FCD$ (RHA 합동)

⑤ $\triangle AED \equiv \triangle AFD$ (RHS 합동)

18. 다음 그림과 같이 $\triangle ABC$의 외심을 O라 하고, $\angle A + \angle B = 2\angle C$일 때, $\angle AOB$의 크기를 구하여라.

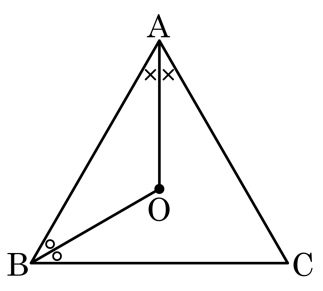

답: _____ °

19. $\triangle$ABC 에서 점 I 는 내심일 때, $\angle x + \angle y$의 크기는?

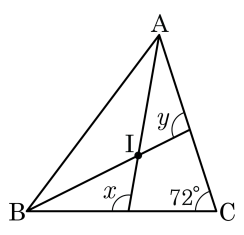

① 190° ② 191° ③ 192° ④ 194° ⑤ 198°

20. 다음 그림에서 점 I 는 정삼각형 ABC 의 내심이다. $\overline{AB}//\overline{ID}$, $\overline{AC}//\overline{IE}$ 이고 $\overline{AB} = 11\text{cm}$ 일 때, $\triangle IDE$ 의 둘레의 길이는?

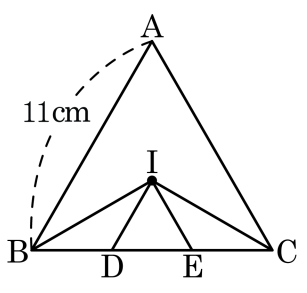

① $\frac{11}{3}$cm ② $\frac{11}{2}$cm ③ 11cm
④ 12cm ⑤ 13cm

21. 다음 그림의 반원 O 에서 $\overline{AC} = \overline{OC}$ 일 때, $\frac{\angle BOE}{\angle COD}$ 의 값을 구하여라.

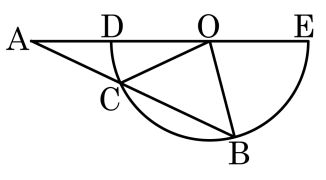

답: _____

22. 다음 그림과 같은 사다리꼴 ABCD 에서 $\overline{AE} = 5\text{cm}, \overline{EB} = 3\text{cm}$ 일 때, $\triangle DEC$ 의 넓이를 구하여라.

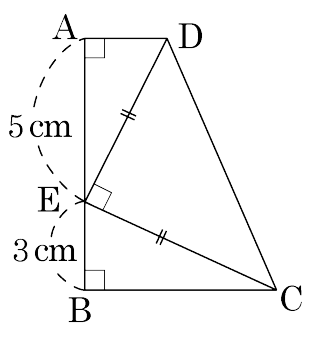

답: _____ cm^2

23. 정삼각형 ABC 에서 $\overline{AD} = \overline{CE}$ 이고, $\triangle FBC = 35\text{cm}^2$ 이다. □ADFE 의 넓이를 구하여라.

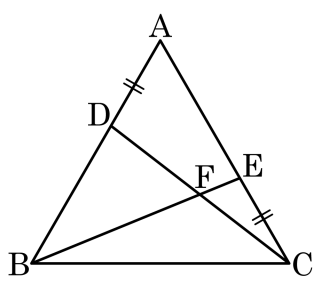

답: _____ cm^2

24. 평행사변형 ABCD 에서 점 I, I′ 은 각각 △ABC , △ACD 의 내심이다. ∠B = 48° 일 때, ∠AIC 와 ∠IAI′ 의 크기의 차를 구하여라.

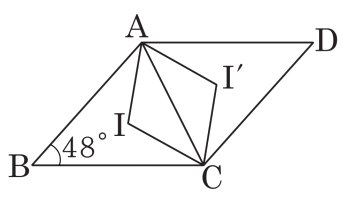

답: _____ °

25. 다음 그림의 $\triangle ABC$ 에서 점 O 는 외심, 점 I 는 내심이다. $\angle BOC = 120°$, $\angle ICA = 35°$ 일 때, $\angle AIC$ 의 크기를 구하여라.

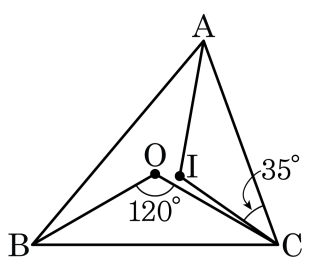

답: _____ °