1. 서로 다른 두 개의 주사위를 던질 때, 눈의 합이 5 이하인 경우의 수를 구하면?

① 4가지 ② 5가지 ③ 8가지
④ 10가지 ⑤ 12가지

해설

합이 5인 경우 : (1, 4), (2, 3), (3, 2), (4, 1)
합이 4: (1, 3), (2, 2), (3, 1)
합이 3: (1, 2), (2, 1)
합이 2: (1, 1)
모두 10가지

2. 1부터 12까지 적힌 정십이면체 주사위를 던질 때, 3의 배수 또는 5의 배수가 나올 경우의 수를 구하면?

① 2가지 ② 3가지 ③ 5가지
④ 6가지 ⑤ 8가지

해설
3의 배수의 눈 4가지, 5의 배수의 눈 2가지
따라서 모두 6가지.

3. 집에서 은행까지 가는 길은 4가지이고, 은행에서 백화점까지 가는 길은 3가지이다. 집에서 은행을 들러 백화점까지 가는 방법은 모두 몇 가지인지 구하여라.

▶ 답 : _____ 가지

▷ 정답 : 12 가지

해설

$4 \times 3 = 12$(가지)

4. A, B 두 개의 주사위를 동시에 던질 때, A 주사위의 눈이 B 주사위의 눈의 약수가 되는 경우의 수를 구하여라.

▶ 답 : _____ 가지

▷ 정답 : 14 가지

해설

주사위의 눈을 순서쌍 (A, B) 로 나타내면

$(1,1), (1,2), (1,3), (1,4), (1,5), (1,6)$
$(2,2), (3,3), (4,4), (5,5), (6,6)$
$(2,4), (2,6), (3,6) \Rightarrow 14$ 가지

5. 어느 중학교의 탁구 선수는 남자 5 명, 여자 3 명으로 구성되어 있다. 남녀 각 한 사람씩 뽑아 2 명의 혼성팀을 만드는 모든 경우의 수를 구하여라.

▶ 답 :

▷ 정답 : 15 가지

해설

$5 \times 3 = 15$ (가지)

6. 1에서 12까지 숫자가 적힌 카드가 12장이 있다. 이 카드를 임의로 한 장을 뽑을 때, 짝수 또는 5의 배수가 나올 경우의 수를 구하여라

▶ 답 : _____ 가지

▷ 정답 : 7가지

해설

짝수 : 2, 4, 6, 8, 10, 12
5의 배수 : 5, 10
∴ 2, 4, 5, 6, 8, 10, 12의 7가지

7. 1에서 20까지의 숫자가 각각 적힌 20장의 카드에서 한 장의 카드를 뽑을 때, 그 카드의 수가 소수 또는 4의 배수가 나올 경우의 수는?

① 5가지 ② 8가지 ③ 13가지
④ 15가지 ⑤ 17가지

해설

1에서 20까지 중에 소수는 2, 3, 5, 7, 11, 13, 17, 19로 8가지이고, 4의 배수는 4, 8, 12, 16, 20으로 5가지이므로 $8+5=13$(가지)이다.

8. 주간지가 2 종류, 월간지가 3 종류 있다. 이 중 한 종류의 잡지를 구독하려고 할 때, 그 경우의 수는?

① 3 가지 ② 4 가지 ③ 5 가지
④ 7 가지 ⑤ 12 가지

해설

주간지가 2 종류, 월간지가 3 종류 있으므로 주간지 또는 잡지를 구독하는 경우의 수는 $2+3=5$(가지) 이다.

9. 책상 위에 체육책, 미술책, 수학책, 영어책, 과학책, 국어책이 각각 1 권씩 있다. 이 중에서 2 권을 뽑아 책꽂이에 꼽을 때, 체육책을 제외하는 경우의 수를 구하여라.

▶ 답 : _____ 가지

▷ 정답 : 20 가지

해설

체육책을 제외한 나머지 5 권 중에서 2 권을 뽑아 책꽂이에 꼽는 경우의 수이므로 $5 \times 4 = 20$ (가지) 이다.

10. 1, 2, 3, 4, 5 의 숫자가 각각 적힌 5 장의 카드에서 2 장을 뽑아 만들 수 있는 두 자리의 정수 중 짝수는 모두 몇 가지인가?

① 8 가지 ② 25 가지 ③ 20 가지
④ 12 가지 ⑤ 10 가지

해설

짝수는 끝자리가 2와 4로 끝나면 되므로
일의 자리가 2 인 경우에 만들 수 있는 정수는 12, 32, 42, 52 의 4가지이고, 일의 자리가 4 인 경우에 만들 수 있는 정수는 14, 24, 34, 54 의 4가지이다.
따라서 구하는 경우의 수는 $4 + 4 = 8$ (가지) 이다.

11. 0, 1, 2, 3, 4 의 숫자가 적힌 5장의 카드 중에서 3장을 뽑아서 만들 수 있는 세 자리의 정수는 모두 몇 가지인지 구하여라.

▶ 답 : _____ 가지

▷ 정답 : 48 가지

해설

백의 자리에 올 수 있는 숫자는 0을 제외한 1, 2, 3, 4 의 4가지
십의 자리에 올 수 있는 숫자는 백의 자리의 숫자를 제외한 4가지
일의 자리에 올 수 있는 숫자는 백의 자리와 십의 자리의 숫자를 제외한 3가지이다.
$\therefore\ 4 \times 4 \times 3 = 48$ (가지)

12. 다음 보기 중 경우의 수가 가장 많은 것을 고르면?

① 동전 한 개를 던질 때 나오는 면의 수

② 주사위 한 개를 던질 때 나오는 눈의 수

③ 동전 두 개를 던질 때 나오는 모든 면의 수

④ 두 사람이 가위, 바위, 보를 할 때 나오는 모든 경우의 수

⑤ 주사위 한 개와 동전 한 개를 동시에 던질 때 나오는 모든 경우의 수

해설

① 2 가지
② 6 가지
③ 4 가지
④ 9 가지
⑤ 12 가지

13. 100 원짜리, 50 원짜리, 10 원짜리 동전이 각각 5 개씩 있다. 이 동전을 이용하여 250 원을 지불하는 방법의 수를 구하여라.

① 6 가지 ② 7 가지 ③ 8 가지
④ 9 가지 ⑤ 10 가지

해설

100 원짜리를 x 개, 50 원짜리를 y 개, 10 원짜리를 z 개라 하면 순서쌍 (x, y, z) 는 $(2, 1, 0)$, $(2, 0, 5)$, $(1, 3, 0)$, $(1, 2, 5)$, $(0, 5, 0)$, $(0, 4, 5)$ 로 6 가지이다.

14. 서울에서 대전까지 가는데 기차로는 고속철도(KTX), 새마을호, 무궁화호 3가지가 있고, 버스로는 우등고속, 일반고속 2가지가 있다. 이 때, 서울에서 대전까지 가는 경우의 수는?

① 5 ② 6 ③ 7 ④ 8 ⑤ 9

해설

기차를 이용하는 방법과 버스를 이용하는 방법은 동시에 일어나는 사건이 아니므로 경우의 수는 $3+2=5$(가지) 이다.

15. 햄버거 가게에서 5종류의 햄버거와 3종류의 음료수 그리고 2종류의 디저트가 있다. 햄버거와 음료수, 디저트를 한 세트로 팔 때, 판매할 수 있는 경우의 수는?

① 10가지 ② 15가지 ③ 17가지
④ 20가지 ⑤ 30가지

해설

햄버거를 고르는 경우의 수 : 5가지
음료를 고르는 경우의 수 : 3가지
디저트를 고르는 경우의 수 : 2가지
$\therefore 5 \times 3 \times 2 = 30$(가지)

16. 다음 그림과 같이 A, B, C, D의 각 부분에 다섯 가지의 색의 물감을 칠하는 방법의 수를 구하여라. (단, 같은 색을 여러 번 사용해도 좋지만 인접하는 부분은 서로 다른 색을 칠해야 한다.)

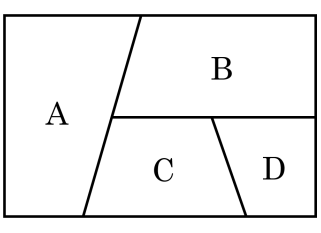

▶ 답 : _____ 가지

▷ 정답 : 180 가지

해설

같은 색을 여러번 반복하여 사용해도 되므로
$5 \times 4 \times 3 \times 3 = 180$ (가지)

17. 네 개의 숫자 1, 2, 3, 4를 한 번씩 사용하여 만든 네 자리 정수 중 3000 보다 큰 정수는 몇 가지인가?

① 3 가지 ② 6 가지 ③ 12 가지
④ 18 가지 ⑤ 24 가지

해설

3000 보다 큰 정수를 만들기 위해서는 $3\times\times\times$ 또는 $4\times\times\times$ 형태이어야 한다.
$3\times\times\times$ 인 경우는 $3\times2\times1=6$ (가지), $4\times\times\times$ 인 경우는 $3\times2\times1=6$ (가지) 이다.
따라서 구하는 경우의 수는 $6+6=12$ (가지) 이다.

18. A, B, C, D, E 다섯 명이 일렬로 설 때 B가 맨 앞에, C는 맨 뒤에 서는 경우의 수는?

① 3가지 ② 4가지 ③ 5가지
④ 6가지 ⑤ 12가지

해설

B, C의 자리가 고정되어 있으므로 A, D, E를 일렬로 세우는 경우의 수는 $3 \times 2 \times 1 = 6$ (가지)

19. 국어사전 2종류, 영어사전 1종류, 백과사전 1종류 일 때, 종류가 같은 것끼리 이웃하도록 세우는 방법의 수는?

① 8가지 ② 12가지 ③ 16가지
④ 24가지 ⑤ 32가지

해설

종류가 같은 것끼리 이웃하도록 세울 때의 방법의 수를 구한다.
$\therefore\ (3 \times 2 \times 1) \times 2 = 12$(가지)

20. 남자 5명, 여자 4명 중에서 남자 1명, 여자 1명의 대표를 뽑는 경우의 수는?

① 12 ② 16 ③ 20 ④ 24 ⑤ 28

해설

$5 \times 4 = 20$

21. 다음 그림과 같이 원 위에 6개의 점 A, B, C, D, E, F가 있을 때, 2개의 점을 연결하여 만들 수 있는 선분의 개수를 m이라고 하고, 3개의 점을 연결하여 그릴 수 있는 삼각형의 개수를 n이라고 할 때, $n-m$의 값은?

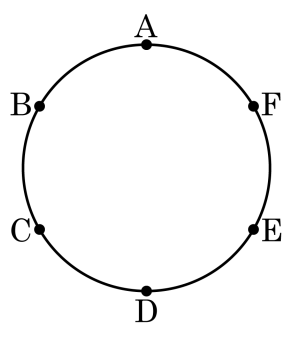

① 5　　② 9　　③ 10　　④ 12　　⑤ 16

해설

A, B, C, D, E, F 의 6개의 점 중에서 2개를 뽑아 나열하는 경우의 수는 $6 \times 5 = 30$(가지)이다. 이때, $\overline{AB} = \overline{BA}$이므로 구하는 선분의 개수는 $\frac{6 \times 5}{2 \times 1} = 15$(개)이므로 $m = 15$이다.

6개의 점 중에서 3개의 점을 차례로 뽑는 경우의 수는 $6 \times 5 \times 4 = 120$(가지)이다. 삼각형의 세 점의 순서가 바뀌어도 같은 삼각형이므로 구하는 삼각형의 개수는 $\frac{6 \times 5 \times 4}{3 \times 2 \times 1} = 20$(개)이므로 $n = 20$이다.

따라서 $n - m = 20 - 15 = 5$이다.

22. 주사위 한 개를 연속으로 두 번 던질 때, 처음 나온 수를 x, 두 번째 나온 눈의 수를 y 라고 할 때, $2x + 4y = 12$ 가 되는 경우의 수를 구하면?

① 2가지 ② 3가지 ③ 4가지
④ 5가지 ⑤ 6가지

해설

$x = 6 - 2y$ 이므로 x, y 의 순서쌍은 $(4, 1), (2, 2)$
$\therefore$ 2가지

23. 점 S에서 점 F까지 최단 거리로 이동할 때, 점 P를 거쳐 갈 경우의 수는?

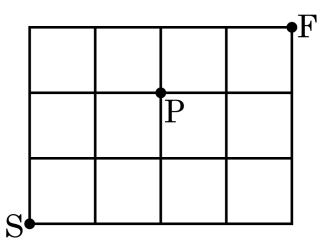

① 6가지 ② 9가지 ③ 12가지
④ 15가지 ⑤ 18가지

해설

S → P : 6 가지
P → F : 3 가지
따라서 구하는 경우의 수는 $6 \times 3 = 18$(가지) 이다.

24. 예지는 문방구에 필기도구를 사러 갔다. 볼펜 3개와 화이트 1개를 사면 1000원을 할인해 준다고 한다. 8종류의 볼펜 중 3개와 5종류의 화이트 중 1개를 사는 방법의 수는?

① 150가지 ② 250가지 ③ 270가지
④ 280가지 ⑤ 300가지

해설

$\frac{8 \times 7 \times 6}{3 \times 2 \times 1} \times 5 = 280$ (가지)

25. 다음 그림과 같이 선분 AB 를 지름으로 하는 반원 위에 9 개의 점이 있다. 이 점 중 3 개를 이어서 만든 삼각형 중에서 한 변이 지름 위에 있는 삼각형의 개수를 구하여라.

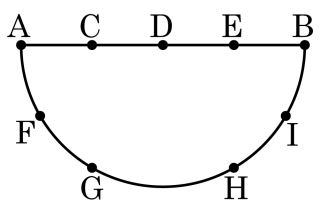

▶ 답 : _____ 개

▷ 정답 : 40 개

해설

삼각형의 한 변이 AC, AD, AE, AB, CD, CE, CB, DE, DB, EB 일 때 각각의 경우에 점 F, G, H, I 중 하나를 선택하여 연결하면 삼각형이 되므로 구하는 경우의 수는 $10 \times 4 = 40$(개) 이다.