1. 다음 중 이차함수인 것은?

① 자동차가 시속 50km 로 x 시간 동안 달린 거리는 $y$km 이다.

② 반지름의 길이가 $x$cm 인 원의 둘레의 길이는 $y$cm 이다.

③ 한 변의 길이가 $x$cm 인 정사각형의 넓이는 $y\text{cm}^2$ 이다.

④ x 개의 물건을 y 명이 나누어 가진다.

⑤ 한 변의 길이가 $x$cm 인 정삼각형의 둘레의 길이는 $y$cm 이다.

2. 다음 함수에서 그래프의 폭이 가장 넓은 것은?

① $y = -5x^2$
② $y = \frac{2}{3}(x+1)^2$
③ $y = -\frac{1}{2}x^2 + 3$
④ $y = 4(x+2)^2 - 7$
⑤ $y = \frac{3}{4}x^2 - 2x + 1$

3. 다음의 이차함수 중에서 그래프가 아래로 볼록한 것은?

① $y=-x^2$ ② $y=4x^2$ ③ $y=-\frac{1}{4}x^2$
④ $y=-3x^2$ ⑤ $y=-\frac{1}{3}x^2$

4. 다음 중 이차함수 $y = \frac{1}{2}x^2 + 1$ 의 y의 값의 범위는?

① $y \geq 1$ ② $y \leq 1$ ③ $y \geq -2$
④ $y \leq -2$ ⑤ $y \geq 0$

5. 이차함수 $y = -(x+1)^2$ 의 y의 값의 범위는?

① $y \geq -1$ ② $y \leq -1$ ③ $y \geq 0$
④ $y \leq 0$ ⑤ $y \geq 1$

6. 다음 $\boxed{}$ 안을 알맞게 채워라.

이차함수 $y = ax^2 + bx + c$ 가 성립하기 위한 조건은 $\boxed{}$ 이다.

다음 중 알맞은 것을 고르면?

① $\frac{a}{c} < 0$　② $b > 0$　③ $a \neq 0$
④ $ab > 0$　⑤ $a > 0$

7. 이차함수 $y = 2x^2 - 12x + 5$ 을 $y = a(x+p)^2 + q$ 의 꼴로 고칠 때, $a + p + q$ 의 값을 구하면?

① -11 ② -12 ③ -13 ④ -14 ⑤ -15

8. 이차함수 $y = 2x^2 - 8x + 2$ 의 그래프에 대한 설명 중 옳은 것을 모두 고르면? (정답 2개)

① 위로 볼록하다.

② 축의 방정식은 $x = 2$ 이다.

③ y 축과 점 $(0, 5)$ 에서 만난다.

④ 제 $2, 3, 4$ 사분면을 지난다.

⑤ 평행이동하면 $y = 2x^2 + 1$ 의 그래프와 완전히 포개어진다.

9. 이차함수 $f(x) = -x^2 + 3x + a$ 에서 $f(-2) = -15$ 일 때, $f(2)$ 의 값은?

① -4 ② -3 ③ 2 ④ 9 ⑤ 11

10. 이차함수 $y = ax^2$ 의 그래프가 다음 그림과 같을 때, 상수 a 의 값은?

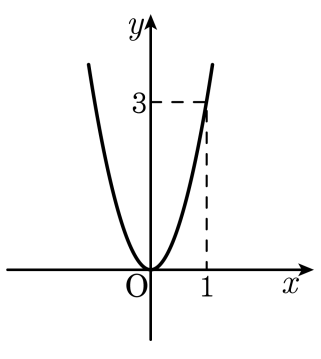

① 1 ② 2 ③ 3 ④ 4 ⑤ 5

11. 이차함수 $y=-\frac{1}{2}x^2+3$ 의 그래프를 y 축의 방향으로 -5 만큼 평행이동시킨 함수의 식은?

① $y=-\frac{1}{2}x^2+1$ ② $y=-\frac{1}{2}x^2+2$ ③ $y=-\frac{1}{2}x^2-1$
④ $y=-\frac{1}{2}x^2-2$ ⑤ $y=-\frac{1}{2}x^2$

12. 다음 중 이차함수 $y = 3x^2$ 의 그래프를 x 축의 방향으로 1 만큼 평행 이동한 그래프는?

①
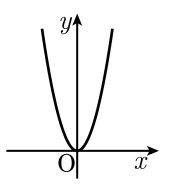

②
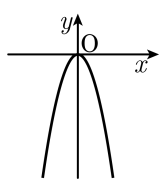

③
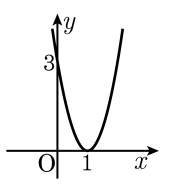

④
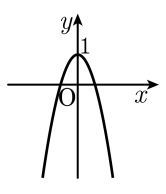

⑤
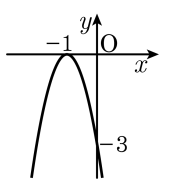

13. 다음 이차함수의 그래프 중 폭이 가장 좁은 것은?

① $y = \frac{1}{2}x^2 - 1$
② $y = 3x^2$
③ $y = -\frac{1}{2}x^2 + 5$
④ $y = 2x^2 + 5x - 8$
⑤ $y = x^2 + 4x - 1$

14. $y = 3x^2 + 6ax + 4$ 의 그래프에서 $x < 1$ 이면 x 의 값이 증가할 때 y 의 값은 감소하고, $x > 1$ 이면 x 의 값이 증가할 때 y 의 값은 증가한다. 이때, 상수 a 의 값은?

① 0　　② -1　　③ 2　　④ 3　　⑤ 4

15. 이차함수 $y=-4x^2+8x-4$ 의 그래프가 x 축과 만나는 점의 좌표는?

① $(1,\ 0)$ ② $(-1,\ 0)$ ③ $(0,\ 1)$
④ $(2,\ 0)$ ⑤ $(-2,\ 0)$

16. 다음 중 이차함수 $y = x^2 - 4x + 7$ 의 그래프로 적당한 것은?

①
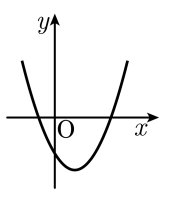

②
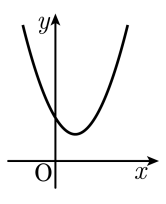

③
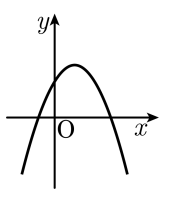

④
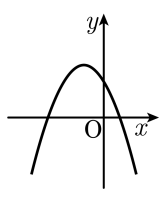

⑤
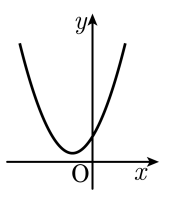

17. 다음 그림과 같이 y 가 x 의 제곱에 정비례하는 이차함수 $y = f(x)$ 에 대하여 $f(-3) = 6$ 일 때, $f(-1)$ 의 값은?

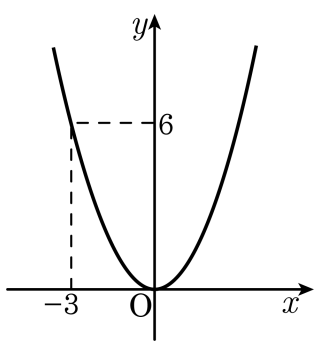

① -2 ② $-\frac{3}{2}$ ③ $\frac{2}{3}$ ④ $\frac{1}{2}$ ⑤ $\frac{1}{3}$

18. 이차함수 $y=(x-2)^2+1$ 의 그래프를 x 축에 대하여 대칭이동한 다음, y 축의 방향으로 1 만큼 평행이동시킨 포물선의 꼭짓점의 좌표는?

① $(2,\ 2)$ ② $(2,\ -1)$ ③ $(2,\ 0)$
④ $(2,\ -2)$ ⑤ $(2,\ 1)$

19. 이차함수 $y = -2x^2 - 4x + k$ 의 그래프가 x 축과 두 점에서 만나게 되는 k 의 값의 범위를 구하면?

① $k > 2$ ② $k < 2$ ③ $k > 4$
④ $k < -2$ ⑤ $k > -2$

20. 이차함수 $y = a(x-p)^2 + q$ 의 그래프가 다음과 같을 때, $a,\ p,\ q$ 의 부호는?

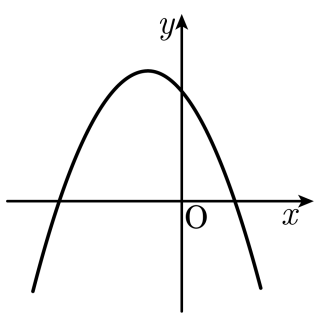

① $a > 0,\ p > 0,\ q > 0$　　② $a < 0,\ p < 0,\ q < 0$

③ $a > 0,\ p < 0,\ q < 0$　　④ $a < 0,\ p < 0,\ q > 0$

⑤ $a < 0,\ p > 0,\ q > 0$