1. 다음 그림에서 모눈종이의 한 눈금은 1 이다. 각 점과 직선 l 사이의 거리가 점 C 와 직선 l 사이의 거리와 같은 점을 찾으면?

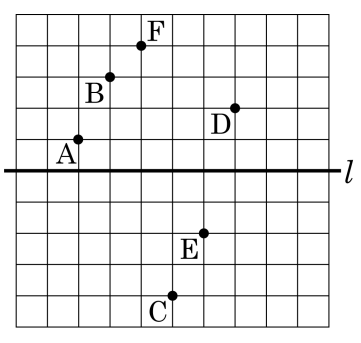

① 점 A ② 점 B ③ 점 D ④ 점 E ⑤ 점 F

2. 다음 중 작도할 때의 자의 용도는?

① 두 점을 이을 때
② 선분의 길이를 잴 때
③ 각도를 잴 때
④ 눈금을 표시할 때
⑤ 길이를 옮길 때

3. 다음 그림에서 □ABCD ≡ □EFGH 일 때, $x+y$ 의 값은?

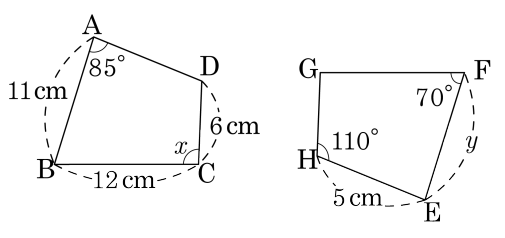

① 98 ② 100 ③ 102 ④ 104 ⑤ 106

4. 다음과 같은 성질을 가진 다각형은 무엇인가?

· 모든 변의 길이가 같고 내각의 크기가 같다. · 한 꼭짓점에서 그을 수 있는 대각선의 개수는 5 개이다.

① 정오각형 ② 정육각형 ③ 정팔각형
④ 정십이각형 ⑤ 정이십각형

5. 다음 설명 중 정다각형에 대한 특징으로 옳지 <u>않은</u> 것은?

① 모든 변의 길이가 같다.

② 모든 내각의 크기가 같다.

③ 정n 각형의 한 내각의 크기는 $\frac{180° \times (n-2)}{n}$ 이다.

④ 정n 각형의 한 외각의 크기는 $\frac{360°}{n}$ 이다.

⑤ 정다각형의 모든 대각선의 길이는 같다.

6. 다음 중 옳지 <u>않은</u> 것을 고르면?

① 정삼각형의 한 내각의 크기는 $60°$ 이다.

② 정팔각형의 내각의 합은 $1080°$ 이다.

③ 정삼각형의 한 외각의 크기와 정육각형의 한 내각의 크기는 같다.

④ 도형의 내각과 외각의 값은 항상 같다.

⑤ 정오각형의 외각의 크기는 $72°$ 이다.

7. 다음 그림에서 두 점을 지나는 직선을 그었을 때, 만들 수 있는 직선의 개수는?

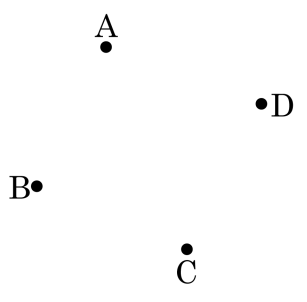

① 4개 ② 5개 ③ 6개 ④ 7개 ⑤ 8개

8. 다음 그림에 대한 설명으로 옳지 <u>않은</u> 것은?

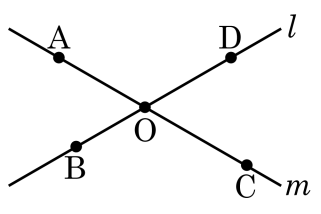

① 점 A 와 점 C 는 직선 l 위에 있다.

② 점 E 는 직선 l 위에도 없고 직선 m 위에도 없다.

③ 점 O 는 두 직선 l , m 위에 있다.

④ 점 A 는 직선 l 위에는 있지만 직선 m 위에는 있지 않다.

⑤ 세 점 B, O, D 를 지나는 직선은 l 이다.

9. 모서리 AD 와 평행한 모서리는?

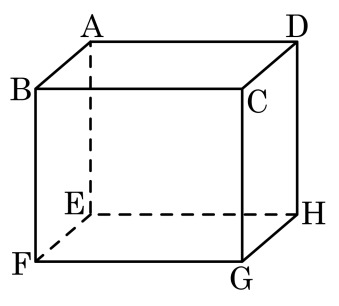

① 모서리 AB ② 모서리 EF ③ 모서리 GH
④ 모서리 CD ⑤ 모서리 BC

10. 다음 그림과 같은 삼각기둥에서 $\overline{AB}$ 와 꼬인 위치에 있는 모서리는 모두 몇 개인가?

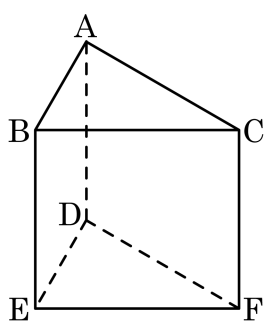

① 3 개 ② 4 개 ③ 5 개 ④ 6 개 ⑤ 7 개

11. 어떤 다각형의 한 꼭짓점에서 각 꼭짓점에 선분을 그었을 때 생기는 삼각형의 개수가 10개 일 때, 이 다각형의 변의 개수는?

① 10 개 ② 11 개 ③ 12 개 ④ 13 개 ⑤ 14 개

12. 어떤 다각형의 한 꼭짓점에서 그을 수 있는 대각선이 9 개일 때, 이 다각형의 대각선의 총수는?

① 50 개 ② 52 개 ③ 54 개 ④ 56 개 ⑤ 58 개

13. 육각형의 외각의 크기의 합은?

① $300°$ ② $340°$ ③ $360°$ ④ $380°$ ⑤ $400°$

14. 정팔각형의 한 외각의 크기는?

① 45° ② 48° ③ 50° ④ 55° ⑤ 60°

15. 다음 그림과 같이 네 점 A, B, C, D가 한 직선 위에 있다. 다음 중 옳지 <u>않은</u> 것은?

① $\overleftrightarrow{AB} = \overleftrightarrow{CD}$ ② $\overline{AB} = \overline{BA}$ ③ $\overrightarrow{AC} = \overrightarrow{AD}$
④ $\overrightarrow{BC} = \overrightarrow{CB}$ ⑤ $\overleftrightarrow{BC} = \overleftrightarrow{AD}$

16. 다음 설명 중 옳은 것을 모두 고르면?

㉠ 두 직선이 한 점에서 만날 때, 그 만나는 점을 두 직선의 교점이라 한다. ㉡ 반직선 AB와 반직선 BA는 겹치는 부분이 없다. ㉢ 두 점 사이의 최단 거리는 두 점을 잇는 선분의 길이이다. ㉣ 한 점을 지나는 직선은 한개 뿐이다. ㉤ 두 개의 점을 지나는 직선은 무수히 많다.

① ㉠, ㉡ ② ㉠, ㉢ ③ ㉠, ㉣ ④ ㉡, ㉢ ⑤ ㉡, ㉣

17. 다음 그림에서 $l // m$ 일 때 $\angle x + \angle y$ 의 값을 구하면?

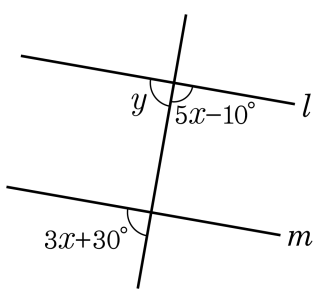

① 110° ② 113° ③ 115° ④ 117° ⑤ 120°

18. 다음 두 직선 l 과 m 이 평행하지 <u>않는</u> 것은?

①
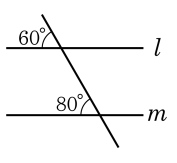

②
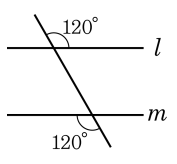

③
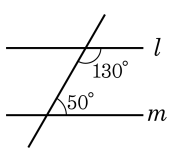

④
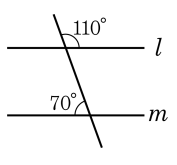

⑤
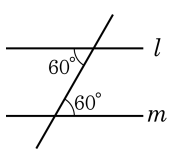

19. 다음 그림은 밑면이 정육각형인 육각기둥이다. 면 ABCDEF 와 수직인 면은 모두 몇 개인가?

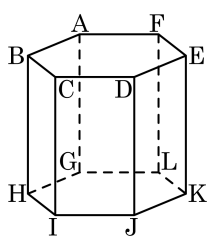

① 6 개 ② 5 개 ③ 4 개

④ 3 개 ⑤ 2 개

20. 다각형의 한 꼭짓점에서 대각선을 그었더니 10개의 삼각형이 생겼다. 이 다각형의 대각선의 총수는?

① 54개 ② 64개 ③ 74개 ④ 84개 ⑤ 94개