1. 이차방정식 $x^2 - 16x + a = 0$ 의 해가 $x = 8 \pm \sqrt{59}$ 일 때, 상수 a 의 값을 구하여라.

① 1 ② 2 ③ 3 ④ 4 ⑤ 5

2. 이차방정식 $0.1x^2 = 1 - 0.3x$ 의 해를 구하면?

① $x = 2$ 또는 $x = 5$
② $x = 2$ 또는 $x = -5$
③ $x = -1$ 또는 $x = 5$
④ $x = -1$ 또는 $x = -3$
⑤ $x = 1$ 또는 $x = -3$

3. $(x+y)(x+y-3)-28=0$ 일 때, $x+y$ 의 값을 모두 구하여라.

답: $x+y=$ _____

답: $x+y=$ _____

4. 다음 보기에서 이차방정식 중에서 중근을 갖는 것을 모두 고르면?

보기

㉠ $(x-4)(x-4)=0$

㉡ $x^2-4x=0$

㉢ $x^2+9=6x$

㉣ $2x^2+12x=-9$

㉤ $(x-1)(x+1)=12x^2-5x$

① ㉠, ㉡ ② ㉠, ㉢ ③ ㉡, ㉢ ④ ㉢, ㉣ ⑤ ㉢, ㉤

5. 다음 이차방정식이 해를 1 개 가질 때 k 의 값은?

$x^2 - 8x + 9 - k = 0$

① -7 ② -2 ③ 7 ④ 17 ⑤ 25

6. 이차방정식 $x^2+5x+2-k=0$ 의 해가 없도록 하는 k 값의 범위는?

① $k \geq -\frac{17}{4}$ ② $k > -\frac{17}{4}$ ③ $k = -\frac{17}{4}$
④ $k < -\frac{17}{4}$ ⑤ $k \leq -\frac{17}{4}$

7. 이차방정식 $x^2 - (k+2)x + 4 = 0$ 이 중근을 가질 때의 k의 값이 $x^2 + ax + b = 0$ 의 두 근일 때, $a + b$ 의 값은?

① -4 ② -8 ③ -2 ④ 4 ⑤ 8

8. 이차방정식 $x^2+3x+1-k=0$이 서로 다른 두 근을 갖도록 하는 k의 값의 개수는?

$-3,\ -2,\ -1,\ 0,\ 1,\ 3,\ 4$

① 2 개 ② 3 개 ③ 4 개 ④ 5 개 ⑤ 7 개

9. 다음은 이차방정식 $ax^2 + 2bx + c = 0 \ (a \neq 0)$을 푸는 과정이다. ① ~ ⑤에 들어갈 식이 바르지 못한 것은? (단, $b^2 - ac \geq 0$)

$ax^2 + 2bx + c = 0 \, (a \neq 0)$

$x^2 + \frac{2b}{a}x = -\frac{c}{a}$

$x^2 + \frac{2b}{a}x + ① = -\frac{c}{a} + ①$

$(x + ②)^2 = ③$

$x = ④ \pm ⑤$

① $\frac{b^2}{a^2}$ ② $\frac{b}{a}$ ③ $\frac{b^2 - ac}{a^2}$
④ $-\frac{b}{a}$ ⑤ $\frac{\sqrt{b^2 - ac}}{a^2}$

10. 근의 공식을 이용하여 이차방정식 $x^2 - 4x - 3 = 0$의 양의 근을 구하면?

① $2 + \sqrt{7}$ ② $2 \pm \sqrt{7}$ ③ $2 - \sqrt{7}$
④ $-2 + \sqrt{7}$ ⑤ $-2 \pm \sqrt{7}$

11. 이차방정식 $0.2x^2 - 0.3x - 1 = 0$ 의 두 근 중에서 큰 근을 k 라고 할 때, k 보다 크지 않은 최대의 정수를 구하여라.

답: _____

12. 이차방정식 $3x^2 - 16x - ax + 4a + 15 = 0$ 이 정수의 근을 가질 때, 정수 a 의 값을 구하여라.

답: $a =$ _____

답: $a =$ _____

13. 두 실수 x, y 에 대하여 $x = \dfrac{-m+\sqrt{2}}{2}$, $y = 3+\sqrt{2}$ 일 때, $4x^2 - 4xy + y^2 + 4x - 2y - 24 = 0$ 이 성립하는 m 의 값들의 합은?

① -3 ② -4 ③ 5 ④ -5 ⑤ 6

14. 이차방정식 $x^2-8x-3+a=0$ 가 중근을 갖도록 a 의 값을 구하여라.

답: _____

15. 이차방정식 $x^2+6x+k+1=0$ 이 중근을 가질 때, k 의 값을 구하여라.

답: _____

16. 다음은 이차방정식 $x^2 - 6x + a = 0$ 에 대한 설명이다. 옳은 것은 몇 개인가?

㉠ $a = 0$ 이면 중근을 갖는다.
㉡ $a = 9$ 이면 근은 없다.
㉢ $a \le 9$ 이면 적어도 하나의 근을 갖는다.
㉣ $a > 9$ 이면 근이 2개이다.
㉤ a 의 값에 관계없이 두 근을 갖는다.

① 5개 ② 4개 ③ 3개 ④ 2개 ⑤ 1개

17. 연속하는 세 자연수가 있다. 가장 큰 수의 제곱이 다른 두 수의 제곱의 합보다 3만큼 더 클 때, 이 세 자연수의 합을 구하여라.

답: _____

18. 이차방정식 $\left\{1+(a+b)^2\right\}x^2-2(1-a-b)x+2=0$ 의 근이 실수일 때, 실수 $a+b+2$ 의 값을 구하면?

① -1 ② 0 ③ 1 ④ 2 ⑤ 3

19. 이차방정식 $x^2+(-m+3)x+24=0$의 두 근의 차가 2일 때, 다음 중 옳은 것의 개수는?

㉠ 주어진 이차방정식의 해는 $4, 6$밖에 없다.
㉡ 작은 근을 α라 하고 $\alpha<0$이면 $m>0$이다.
㉢ 작은 근을 α라 하고 $\alpha>0$이면 $m=13$이다.
㉣ 주어진 식을 만족하는 모든 m의 값의 합은 6이다.

① 0개 ② 1개 ③ 2개 ④ 3개 ⑤ 4개

20. 그림과 같이 꼭짓점을 점으로 표현한 삼각형을 규칙적으로 이어 붙여서 n 번째 순서의 삼각형을 만드는데 사용한 점의 개수는 $\frac{(n+1)(n+2)}{2}$ 개일 때, 점의 개수가 21 개인 삼각형의 순서는?

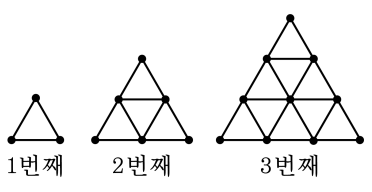

① 5번 째 ② 6번 째 ③ 7번 째

④ 8번 째 ⑤ 9번 째

21. 지면으로부터 100m 되는 건물의 높이에서 초속 40m 로 위에 던져 올린 물체의 t 초 후의 높이를 hm 라고 하면 t 와 h 사이에는 $h = -5t^2 + 40t + 100$ 인 관계가 성립한다. 이 물체가 지면으로부터 160m 인 지점을 지날 때부터 최고점에 도달하기까지 걸리는 시간과 최고점의 높이는?

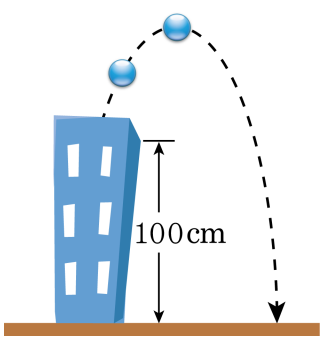

① 2 초, 170m ② 3 초, 175m ③ 2 초, 175m

④ 3 초, 180m ⑤ 2 초, 180m

22. 가로, 세로 길이가 각각 9 cm, 6 cm 인 직사각형 모양의 종이를 다음 그림과 같이 일정한 폭으로 오려내어 조각의 합이 12 cm^2 가 되도록 하려고 한다. 오려낸 부분의 폭은?

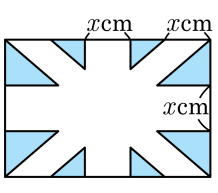

① 2 cm
② 3 cm
③ 4 cm
④ 2 cm 또는 7 cm
⑤ 3 cm 또는 6 cm

23. 세 이차방정식 $px^2+qx+1=0$, $qx^2+2(p+1)x+q=0$, $px^2+2qx+r=0$ 의 실근의 개수는 각각 a, b, c 이다. $a^2+b^2+c^2=2a+2b+2c-3$ 일 때, $p^2+q^2+r^2$ 의 값을 구하여라.

답: _____

24. 다음 그림과 같이 직사각형 ABCD 에서 점 P 는 선분 AD 위에 있고, 점 Q 는 선분 CD 위에 있다. 삼각형 ABP, PDQ, BCQ 의 넓이가 각각 2.5, 4.5, 4 일 때, 삼각형 PBQ 의 넓이를 구하여라.

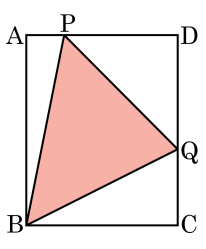

답: _____

25. 어떤 원의 반지름의 길이를 3 cm 만큼 늘였더니, 그 넓이는 처음 원의 넓이의 4 배가 되었다. 이때, 처음 원의 반지름의 길이를 구하여라.

답: _____ cm