1. 다음 그림은 $\triangle ABC$ 를 점 A 를 기준으로 $42°$ 만큼 회전하여 점 B, C 가 각각 B′, C′ 으로 이동한 것이다. 이때, $\angle AB'C'$ 의 크기를 구하여라.

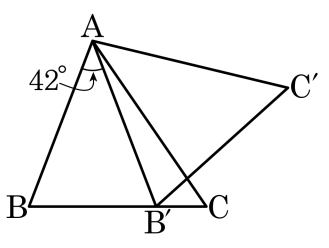

답: _____ °

2. 다음은 「$\overline{AB} = \overline{AC}$ 인 이등변삼각형 ABC의 두 밑각 $\angle B$, $\angle C$의 이등분선의 교점을 P라 하면 $\triangle PBC$도 이등변삼각형이다.」를 보이는 과정이다.

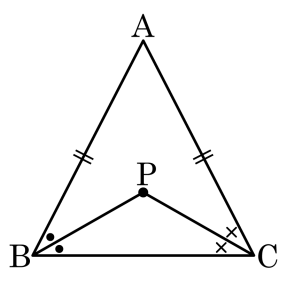

$\overline{AB} = \overline{AC}$ 이므로
$\angle ABC =$ (가)
$\angle PBC =$ (나) $\angle ABC$, $\angle PCB =$ (나) $\angle ACB$
$\therefore$ (다)
즉, $\triangle PBC$ 의 두 내각의 크기가 같으므로 (라) 이다.
따라서 (마) 는 이등변삼각형이다.

(가) ~ (마)에 들어갈 것으로 옳지 <u>않은</u> 것은?

① (가) $\angle ACB$
② (나) 2
③ (다) $\angle PBC = \angle PCB$
④ (라) $\overline{PB} = \overline{PC}$
⑤ (마) $\triangle PBC$

3. 직사각형 모양의 종이를 다음 그림과 같이 접었을 때, $\angle BCD = 30°$ 이다. 이때, $\angle BAC$ 의 크기를 구하여라.

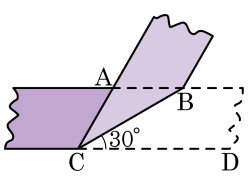

① 100°　② 110°　③ 120°

④ 130°　⑤ 140°

4. 다음 그림에서 $\triangle ABC$ 는 이등변삼각형이다. $\overline{BC}$ 위의 한 점 D 에서 $\overline{AB}$, $\overline{AC}$ 에 내린 수선의 발을 각각 P, Q 라 할 때, $\overline{DP} = 7\text{cm}$, $\overline{DQ} = 3\text{cm}$ 이다. 점 B 에서 $\overline{AC}$ 에 내린 수선의 길이는?

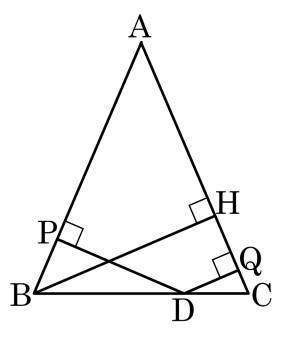

① 7cm ② 8cm ③ 9cm ④ 10cm ⑤ 11cm

5. 다음 직각이등변삼각형에서 $\overline{AD} = \overline{AC}$, $\overline{ED} \perp \overline{AB}$ 일 때, $\overline{AD}$ 의 길이를 a 로 나타내면?

① $2a$ ② $a+2$ ③ $\frac{a+10}{2}$

④ $10-2a$ ⑤ $10-a$

6. 다음 그림과 같은 직각삼각형 ABC 에서 $\angle A$ 의 이등분선과 $\overline{AB}$ 의 수직이등분선이 $\overline{BC}$ 위의 점 N 에서 만날 때, $\angle ANB$ 의 크기를 구하면?

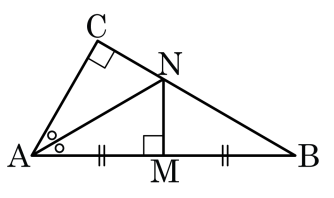

① 110° ② 120° ③ 130° ④ 140° ⑤ 150°

7. 다음 그림과 같은 직각삼각형 ABC의 빗변의 중점을 M이라고 할 때, $\overline{MC}$의 길이는?

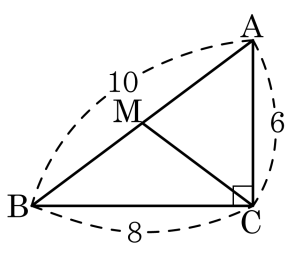

① 2 ② 3 ③ 4 ④ 5 ⑤ 6

8. 다음 그림에서 원 O는 $\triangle ABC$의 외접원이다. $\angle OCB = 35°$일 때, $\angle BAC$의 크기를 구하여라.

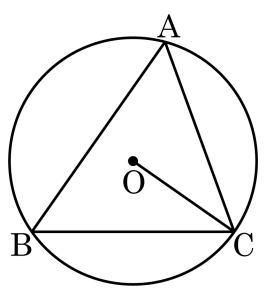

답: _____ °

9. 다음 그림에서 점 I 는 $\triangle ABC$ 의 내심이다. $\angle x + \angle y$ 의 크기를 구하여라.

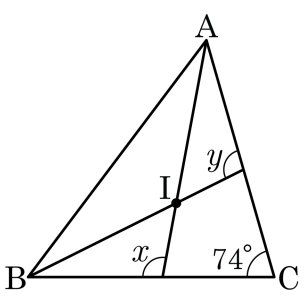

답: _____ °

10. 다음 그림에서 점 I 는 직각삼각형 ABC 의 내심이고, 점 D, E, F 는 접점이다. $\overline{AC} = 15\text{cm}$, $\overline{AB} + \overline{BC} = 21\text{cm}$ 일 때, $\triangle ABC$ 의 내접원의 반지름의 길이를 구하여라.

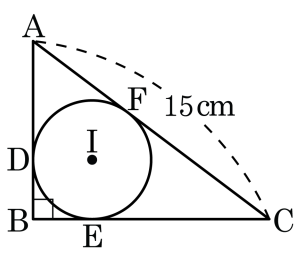

답: _____ cm

11. 다음 중 평행사변형의 정의를 그림으로 알맞게 나타낸 것은?

①
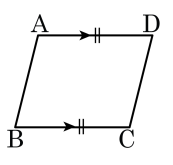

②
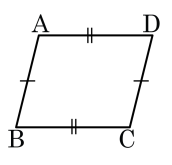

③
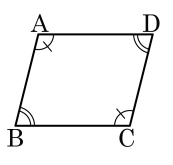

④
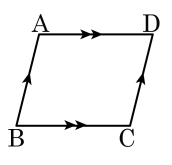

⑤
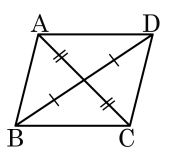

12. 다음 그림과 같은 평행사변형 ABCD 에서 점 M 은 변 BC 의 중점이고, 점 D 에서 선분 AM 에 내린 수선의 발을 E 라 한다. $\angle MAB = 20°$, $\angle B = 110°$ 일 때, $\angle ECM$ 의 크기를 구하여라.

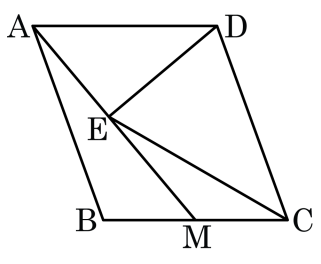

답: _____ °

13. 다음 그림의 □ABCD 는 $\overline{AB} = 6\text{cm}$, $\overline{AD} = 8\text{cm}$ 인 평행사변형이고, $\overline{DF}$ 는 $\angle D$ 의 이등분선, $\overline{AE} \perp \overline{DF}$ 이다. 이 때, $\overline{EF}$ 의 길이는?

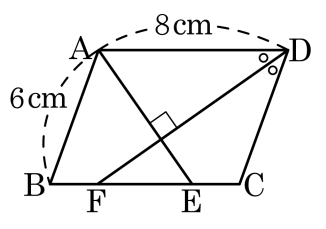

① 2cm ② 2.5cm ③ 3cm

④ 3.5cm ⑤ 4cm

14. 평행사변형 ABCD 에서 $\overline{AF}$, $\overline{BE}$ 는 각각 $\angle A$ 와 $\angle B$ 의 이등분선이다. $\angle AEB + \angle AFB$ 의 크기는?

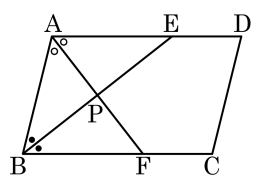

① 70° ② 75° ③ 80°

④ 85° ⑤ 90°

15. 다음 □ABCD 는 평행사변형이다. 대각선 $\overline{AC}$, $\overline{BD}$ 의 교점을 O 라고 할 때, 보기 중 옳은 것을 모두 고른 것은?

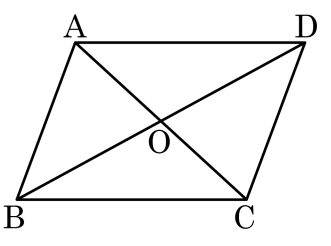

보기

㉠ △OAB 와 △OAD 의 넓이가 같다.

㉡ △OAB ≡ △OCD

㉢ ∠BAD = ∠BCD

㉣ ∠ABO = ∠OBC

㉤ $\overline{OA} = \overline{OC}$

㉥ $\overline{AB} = \overline{BC}$

① ㉠, ㉡, ㉣, ㉤　② ㉠, ㉡, ㉢, ㉥　③ ㉠, ㉡, ㉢, ㉤
④ ㉡, ㉢, ㉣, ㉤　⑤ ㉢, ㉣, ㉤, ㉥

16. 다음 사각형 ABCD 가 평행사변형이 되도록 $\angle x, \angle y$ 의 값을 구하여라.

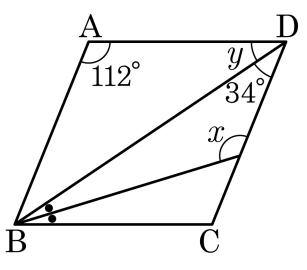

답: $\angle x =$ _____ °

답: $\angle y =$ _____ °

17. 다음 그림과 같이 평행사변형 ABCD 의 두 대각선의 교점을 O 라 하자. $\triangle AOD = 18cm^2$ 일 때, □ABCD 의 넓이는?

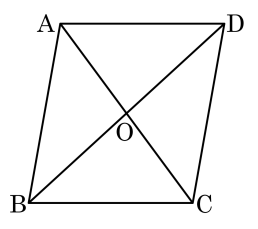

① $36cm^2$ ② $54cm^2$ ③ $72cm^2$
④ $90cm^2$ ⑤ $108cm^2$

18. 다음 그림과 같이 평행사변형 ABCD 의 내부에 한 점 P 를 잡을 때, $\triangle ABP = 32\text{cm}^2$, $\triangle BCP = 28\text{cm}^2$, $\triangle ADP = 24\text{cm}^2$ 이다. $\triangle CDP$ 의 넓이를 구하여라.

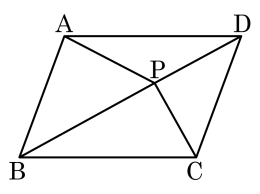

답: _____ cm^2

19. 다음 그림과 같이 직사각형 ABCD 의 꼭짓점 C 가 A 에 오도록 접었다. $\angle GAF = 10°$ 일 때, $\angle x$ 의 값을 구하여라.

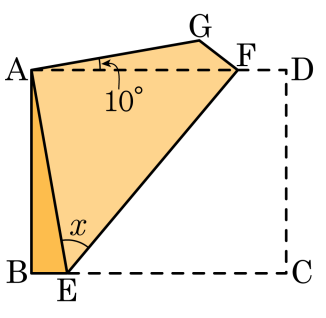

답: _____ °

20. 다음 그림 □ABCD 는 평행사변형이라고 할 때, 직사각형이 되기 위한 조건을 나타낸 것은?

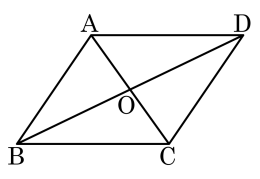

① $\overline{AB} = 8\text{cm},\ \overline{CD} = 8\text{cm}$

② $\angle A = \angle C = 80°$

③ $\overline{BO} = \overline{DO} = 4\text{cm}$

④ $\overline{AO} = 5\text{cm},\ \overline{BO} = 5\text{cm},\ \overline{CO} = 5\text{cm},\ \overline{DO} = 5\text{cm}$

⑤ $\angle A + \angle B = 180°$

21. □ABCD 가 마름모일 때, $x+y$ 의 값을 구하여라.

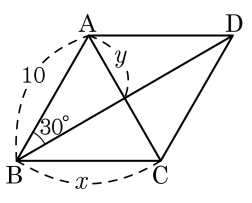

답: _____

22. 다음 보기 중 그림과 같은 마름모 ABCD 가 정사각형이 되도록 하는 조건의 개수는?

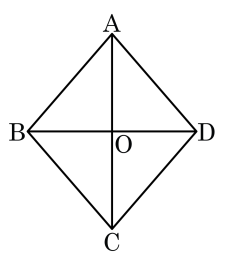

보기

㉠ $\overline{AC} \perp \overline{BD}$

㉡ $\overline{AO} = \overline{DO}$

㉢ $\overline{AB} = \overline{AD}$

㉣ $\angle ADC = 90°$

㉤ $\angle ABC = \angle BCD$

① 0 개 ② 1 개 ③ 2 개 ④ 3 개 ⑤ 4 개

23. 다음 그림의 □ABCD는 $\overline{AD} // \overline{BC}$인 등변사다리꼴이다. $\overline{AB} // \overline{DE}$일 때, 다음 중 옳지 <u>않은</u> 것은?

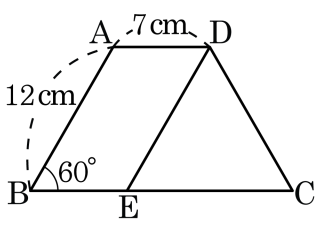

① $\overline{DE} = 12\text{cm}$

② $\overline{BC} = 19\text{cm}$

③ △DEC는 정삼각형

④ △DEC의 둘레의 길이는 21cm

⑤ □ABCD의 둘레의 길이는 50cm

24. 다음 그림에서 $\overline{BD} : \overline{DC} = 2 : 3$, $\overline{CE} : \overline{EA} = 1 : 2$이다. $\triangle ABC = 15$일 때, $\triangle DCE$의 넓이는?

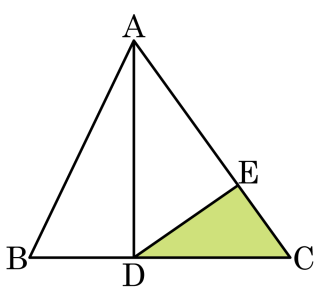

① 2 ② 3 ③ 4 ④ 5 ⑤ 6

25. 다음 그림의 평행사변형 ABCD의 넓이가 120cm^2이고 $\overline{BC}$의 삼등분 점을 E, F, $\overline{CD}$의 중점을 G라 할 때, $\triangle AFG$의 넓이를 구하여라.

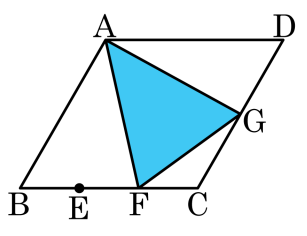

답: _____ cm^2