1. P$(a,\ b)$가 제 4사분면의 점일 때, 점 Q$(ab,\ a-b)$가 위치하는 사분면은?

① 제 1사분면 ② 제 2사분면 ③ 제 3사분면
④ 제 4사분면 ⑤ 제 5사분면

2. 다음은 태양이가 집에서 4km 떨어진 학교까지 자전거를 타고 갈 때와 걸어서 갈 때의 시간에 따른 이동 거리를 나타낸 그래프이다. 집에서 학교까지 걸어서 갈 때는 자전거를 타고 갈 때보다 몇 분 더 걸리는지 구하여라.

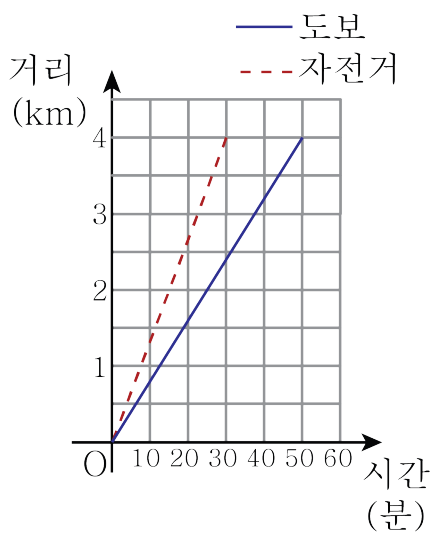

① 10분 ② 20분 ③ 30분 ④ 40분 ⑤ 50분

3. 다음에서 두 변수 x 와 y 사이에 정비례 관계가 있는 것은 모두 몇 개인가?

㉠ 한 개 200 원인 사탕 x 개의 값 y 원
㉡ 넓이가 $6\,\mathrm{cm}^2$ 인 직사각형의 가로의 길이 $x\,\mathrm{cm}$, 세로의 길이 $y\,\mathrm{cm}$
㉢ 한 자루에 x 원인 색연필 y 자루의 값은 3000 원이다.
㉣ 한 변의 길이가 $x\,\mathrm{cm}$ 인 정사각형의 둘레의 길이 $y\,\mathrm{cm}$
㉤ 밑변의 길이가 $x\,\mathrm{cm}$, 높이가 $y\,\mathrm{cm}$ 인 삼각형의 넓이는 $18\,\mathrm{cm}^2$ 이다.

① 1개 ② 2개 ③ 3개 ④ 4개 ⑤ 5개

4. 거리가 20 km 인 두 지점 A, B 를 왕복하는 데, 갈 때에는 시속 4 km 로 걷고, 올 때에는 시속 a km 로 걸어 왔다. 왕복하는 동안의 평균 속력을 a 의 식으로 나타낸 것은?

① $\frac{4+a}{2}$(km/h)

② $\frac{20}{5+\frac{20}{a}}$(km/h)

③ $5+\frac{20}{a}$(km/h)

④ $\frac{40}{5+\frac{20}{a}}$(km/h)

⑤ $\frac{40}{4+a}$(km/h)

5. $x = -1$ 일 때, $|x^3 + 4|$ 의 값과 같은 것은?

① $-3x$ ② $x^2 - x^3$ ③ $2x^2 + x$
④ x^3 ⑤ $2x^3 + x$

6. 다항식 $5x^2 - x + 6$ 의 항의 개수를 a, 일차항의 계수를 b, 상수항을 c 라 할 때, $a - bc$ 의 값을 구하여라.

답: _____

7. 다음 중 계산 결과가 $\left(-\frac{10}{3}\right) \times (0.2x + 0.5)$ 와 <u>다른</u> 하나는?

① $\left(-\frac{1}{3}\right) \times (2x + 5)$

② $\left(-\frac{2}{5}x - 1\right) \div 0.6$

③ $4 \times \left(-\frac{1}{6}x - \frac{5}{12}\right)$

④ $(-10) \times \left(\frac{2}{15}x + \frac{1}{8}\right)$

⑤ $\left(\frac{2}{5}x + 1\right) \div \left(-\frac{3}{5}\right)$

8. x의 계수가 6인 일차식이 있다. $x=2$일 때의 식의 값을 a , $x=4$일 때의 식의 값을 b 라 할 때, $3a-3b$ 의 값은?

① -36 ② -24 ③ -12 ④ 0 ⑤ 12

9. 다음 다항식이 x 에 관한 일차식일 때, 일차항의 계수를 구하여라.

$$-4x^2 + ax - 8 + \frac{2}{a}x^2 + \left(\frac{a}{2}\right)^2 x$$

답: _____

10. 다음 좌표 평면을 보고 옳지 않은 것은?

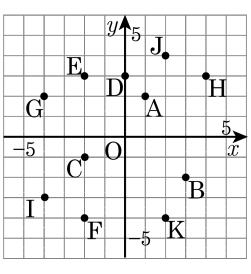

① 점 A 로부터 오른쪽으로 3칸, 위로 1칸 간 곳에 있는 점은 점 H 이다.

② 점 B 로부터 왼쪽으로 1칸, 아래로 2칸 간 곳에 있는 점은 점 K 이다.

③ 점 C 로부터 왼쪽으로 2칸, 위로 3칸 간 곳에 있는 점은 점 I 이다.

④ 점 A 로부터 왼쪽으로 3칸, 위로 1칸 간 곳에 있는 점은 점 E 이다.

⑤ 점 B 로부터 왼쪽으로 5칸, 위로 1칸 간 곳에 있는 점은 점 C 이다.

11. 두 점 $\mathrm{A}(a-2,\ 4a-1)$, $\mathrm{B}(3-2b,\ b-1)$ 이 각각 x 축, y 축 위에 있을 때, $\frac{b}{a}$ 의 값은?

① $\frac{1}{2}$ ② $\frac{3}{4}$ ③ $\frac{8}{3}$ ④ 6 ⑤ 5

12. 점 $\mathrm{P}(a,\ b)$ 가 제 4 사분면 위의 점일 때, 점 $\mathrm{A}(ab,\ a-b)$ 는 제 몇 사분면 위의 점인지 구하여라.

답: 제 _____ 사분면

13. 점 $A(-2, 3)$ 의 x축에 대하여 대칭인 점을 B라 하고 y축에 대하여 대칭인 점을 C라 할 때, $\triangle ABC$ 의 넓이는?

① 10 ② 12 ③ 14 ④ 16 ⑤ 18

14. 동현이와 재영이 두 사람이 원 모양 트랙 둘레를 같은 지점에서 출발하여 서로 반대 방향으로 걷다가 중간에 마주치면 걷기를 끝낸다고 한다. 경과 시간 x에 따른 두 사람 사이의 거리를 y라 할 때, 다음 중 x와 y 사이의 관계를 나타낸 그래프로 알맞은 것은? (단, 두 사람 사이의 거리는 직선 거리로 생각한다.)

①
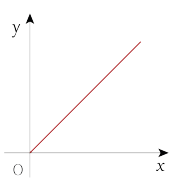

②
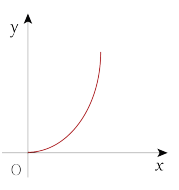

③
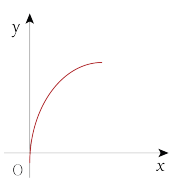

④
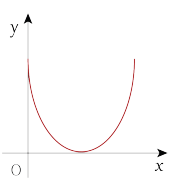

⑤
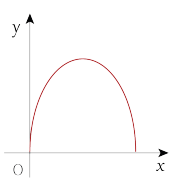

15. 다음은 어떤 그릇에 시간당 일정한 양의 물을 넣을 때, 경과 시간 x에 따른 물의 높이 y의 변화를 나타낸 그래프이다. 다음 중 이 그릇의 모양으로 가장 알맞은 것은?

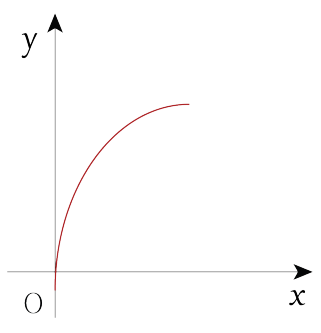

① 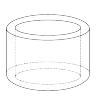

②

③

④

⑤

16. 어느 날 정오에 운동장을 보니, 수직으로 세워 놓은 30 cm 막대의 그림자의 길이가 20 cm 였다. 같은 시각에 운동장에 세워 놓은 막대의 길이 x cm 와 그 그림자의 길이 y cm 사이의 관계식을 구하여라.

답: _____

17. 다음 [보기] 중 y 가 x 에 반비례하는 것은 모두 몇 개인가?

보기

㉠ 자동차가 시속 x km 로 3 시간 동안 달린 거리는 y km 입니다.

㉡ 넓이가 $10\,\text{cm}^2$ 인 삼각형의 밑변의 길이가 x cm 일 때, 높이는 y cm 입니다.

㉢ 한 변의 길이가 x cm 인 정사각형의 둘레의 길이는 y cm 입니다.

㉣ 1 분에 5 L 씩 나오는 수도꼭지로 x 분 동안 받는 물의 양은 y L 입니다.

㉤ 가로의 길이가 4 cm, 세로의 길이가 x cm 인 직사각형의 넓이는 $y\,\text{cm}^2$ 입니다.

① 1 개 ② 2 개 ③ 3 개 ④ 4 개 ⑤ 5 개

18. 영수는 서로 맞물려 돌아가는 톱니바퀴를 관찰하였더니 A의 톱니의 수는 50개이고, 1분에 30번 회전 하였다. 이 때, B의 톱니 수는 x개이고, 1분에 y번 회전 하였다. B의 톱니의 수가 30개일 때, B톱니의 1분 동안 회전수를 구하면?

① 30 ② 50 ③ 70 ④ 90 ⑤ 100

19. 다음 그림은 $y=-\frac{4}{3}x$와 $y=\frac{a}{x}$의 그래프이다. 두 그래프가 만나는 점 P의 x좌표가 -1일 때, a의 값은?

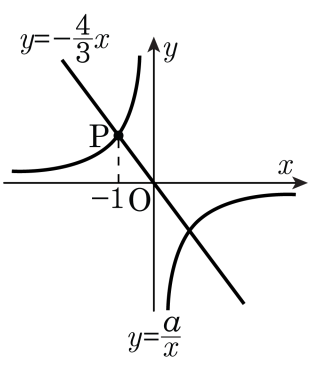

① $-\frac{2}{3}$ ② $-\frac{4}{3}$ ③ $-\frac{5}{3}$ ④ $-\frac{7}{3}$ ⑤ $-\frac{8}{3}$

20. 연속하는 세 개의 3 의 배수를 각각 a, b, c $(a > b > c)$라고 할 때, $a + 12 = c + \frac{1}{3}b$을 만족한다. 이때 $a + b + c$ 의 값을 구하여라.

답: _____

21. 아영이와 동생이 저금통에 저축을 하기로 하였다. 아영이는 8 월 1 일에 2500 원을 저축하고 그 다음날부터는 매일 x 원씩 저축액을 줄여나가고, 동생은 8 월 3 일에 y 원을 저축한 후, 그 다음날부터 매일 400 원씩 저축액을 늘려나간다. 8 월 8 일에 두 사람의 저축액이 14400 원으로 같아진다면, 8 월 6 일에 두 사람이 저축한 액수의 차는 얼마였는지 구하여라.

답: _____ 원

22. 10% 의 소금물 400 g 에서 한 컵의 소금물을 떠내고, 떠낸 양만큼의 물을 부은 다음 다시 4% 의 소금물을 넣었더니 5% 의 소금물 600 g 이 되었다. 컵으로 떠낸 소금물의 양은?

① 100 g ② 130 g ③ 150 g ④ 180 g ⑤ 200 g

23. 두 점 $\mathrm{P}(a,\ b), \mathrm{Q}(-2a,\ 3b)$에 대하여 $\triangle\mathrm{OPQ}$의 넓이가 15일 때, ab의 값은?(단, $a>0, b>0$)

① 2 ② 3 ③ 4 ④ 5 ⑤ 6

24. 점 $\left(4,\ \frac{7}{2}\right)$ 을 지나고 y 축에 평행한 직선이 두 정비례 관계 $y = \frac{7}{4}x,\ y = -\frac{3}{4}x$ 의 그래프와 만나는 점을 각각 P, Q 라고 할 때, $\triangle$PQO 의 넓이를 구하여라.(단,O는 원점)

답: _____

25. 거리가 4.5km 인 원 모양의 산책로를 도는데 준희는 자전거를 타고, 준수는 걸어가기로 했다. 두 사람이 동시에 출발했을 때, 시간과 거리 사이의 관계를 나타내면 다음 그래프와 같다. 준희가 4.5km 를 다 돈 다음 준수가 올 때까지 몇 분 동안 기다려야 하는지 구하여라.

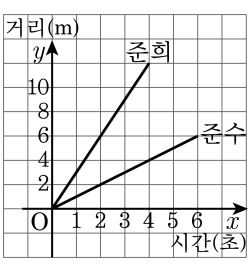

답: _____ 분