1. 다음 그림과 같이 $\overline{AB} = \overline{AC}$ 인 이등변삼각형 ABC 에서 $\angle A = 40°$ 일 때, $\angle x$ 의 크기를 구하여라.

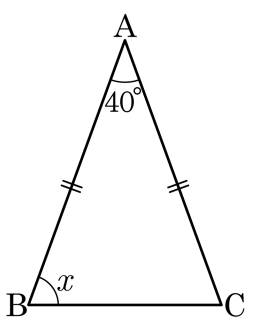

▶ 답 : _____ °

▷ 정답 : 70°

해설

$2\angle x = 180° - 40° = 140°$

$\therefore \angle x = 70°$

2. 다음 그림에 대한 설명으로 옳은 것을 모두 고르면?

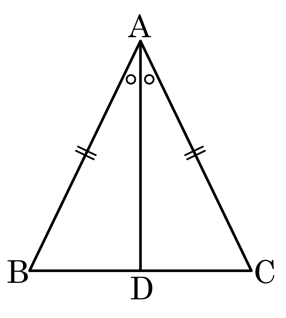

① $\angle A = 80°$ 이면 $\angle B = 60°$ 이다.

② $\angle B = \angle C$

③ $\angle A = 50°$ 이면 $\angle B = 45°$ 이다.

④ $\overline{BD} = \overline{DC}$

⑤ $\angle A = 60°$ 이면 $\triangle ABC$ 는 정삼각형이다.

해설

$\triangle ABC$ 가 이등변삼각형이므로 $\angle B = \angle C$ 이고,
$\angle A = 80°$ 일 때,$\angle B = (180° - 80°) \div 2 = 50°$
이등변삼각형에서 꼭지각의 이등분선은 밑변을 수직이등분하므로,
$\angle ADC = 90°$ 이고 $\overline{BD} = \overline{DC}$ 이다.
그리고 $\angle A = 60°$ 이면, $\angle B = \angle C = (180° - 60°) \div 2 = 60°$ 이므로 $\triangle ABC$ 는 정삼각형이 된다.

3. 다음 그림에서 점 O는 삼각형 △ABC의 외심일 때, x의 값을 구하여라.

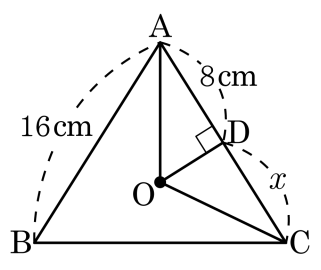

▶ 답 :

▷ 정답 : 8 cm

해설

△ADO ≡ △CDO(RHS 합동)

$\therefore\ x = \overline{AD} = 8\,\text{cm}$

4. 다음 그림의 직각삼각형 ABC 에서 점 D 는 빗변의 중심이다. $\overline{BD} = \overline{DC} = 5\,\text{cm}$ 일 때, $\overline{AD}$ 의 길이를 구하여라.

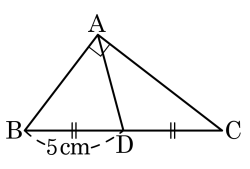

▶ 답 : _____ cm

▷ 정답 : 5 cm

해설

삼각형의 외심으로부터 각 꼭짓점까지의 거리는 같다.
$\overline{BD} = \overline{DC} = \overline{AD} = 5\,\text{cm}$

5. 다음 그림에서 점 I가 $\triangle ABC$의 내심일 때 $\angle x = (\quad\quad)^\circ$ 이다. ( ) 안에 들어갈 알맞은 수를 구하여라.

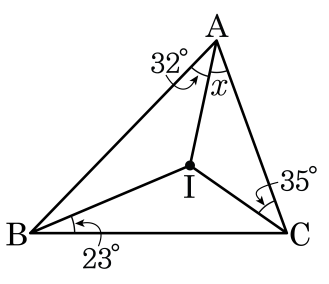

▶ 답 :

▷ 정답 : 32

해설

삼각형의 세 내각의 이등분선의 교점이 삼각형의 내심이다. 따라서 $\angle BAI = \angle CAI = 32^\circ$이다.

6. 다음 그림과 같이 폭이 일정한 종이 테이프를 접었다. $\angle ACB = 50°$ 일 때, $\angle x$의 크기는?

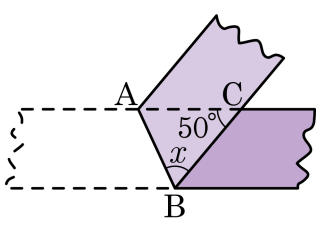

① 45° ② 50° ③ 55° ④ 60° ⑤ 65°

해설

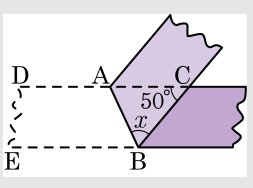

종이 테이프를 접으면 $\angle ABE = \angle ABC = \angle x$이고

$\angle ABE = \angle BAC = \angle x$(엇각)

$\triangle ABC$의 내각의 합은 $180°$이므로

$\therefore\ 2\angle x + 50° = 180°$

$\angle x = 65°$

7. 다음 중 서로 합동인 것끼리 바르게 짝지어진 것은? (정답 2 개)

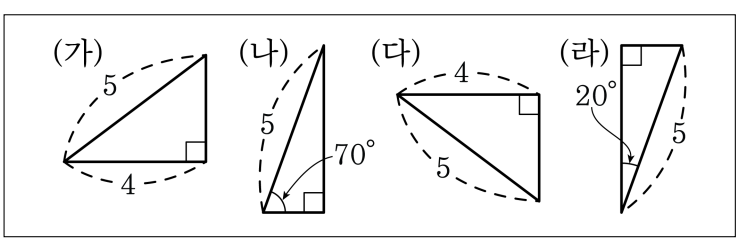

① (가) 와 (라)　② (가) 와 (다)　③ (나) 와 (라)
④ (가) 와 (나)　⑤ (나) 와 (다)

해설

(가) 와 (다) ⇒ RHS 합동
(나) 와 (라) ⇒ RHA 합동

8. 다음 그림과 같이 $\overline{AB} = \overline{AC}$ 인 이등변삼각형 ABC 에서 $\overline{BC}$ 의 중점을 M 이라 하자. 점 M 에서 $\overline{AB}, \overline{AC}$ 에 내린 수선의 발을 각각 D, E 라 할 때, $\overline{MD} = \overline{ME}$ 임을 나타내는 과정에서 필요한 조건이 <u>아닌</u> 것은?

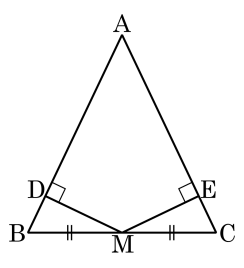

① $\overline{BM} = \overline{CM}$
② $\angle B = \angle C$
③ $\overline{BD} = \overline{CE}$
④ $\angle BDM = \angle CEM$
⑤ RHA 합동

해설

$\triangle BMD$ 와 $\triangle CME$ 에서 $\angle B = \angle C$, $\angle BDM = \angle CEM = 90°$, $\overline{BM} = \overline{MC}$

$\therefore \triangle BMD \equiv \triangle CME$ (RHA 합동)

9. 다음 그림에서 점 M 은 $\angle A = 90°$ 인 직각삼각형 ABC 의 빗변의 중점이다. $\angle AMB : \angle AMC = 5 : 4$ 일 때, $\angle x$ 의 크기를 구하여라.

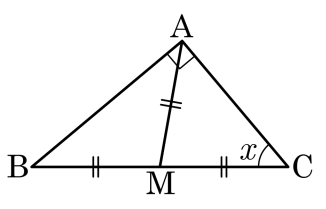

① 30° ② 40° ③ 50° ④ 60° ⑤ 70°

해설

$\angle AMB : \angle AMC = 5 : 4$ 이므로 $\angle AMB = 100°$, $\angle AMC = 80°$
$\overline{AM} = \overline{CM}$ 이므로 $\triangle AMC$ 는 이등변삼각형, $\angle MAC = \angle MCA$ 이다.
$\angle AMC = 80°$ 이므로 $\angle MAC = (180° - 80°) \div 2 = 50°$ 이다.

10. 다음 그림에서 점 O는 $\triangle ABC$의 외심이다. $\angle OCB$의 크기는?

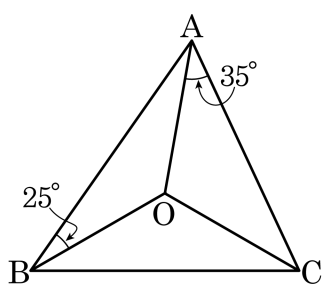

① $20°$ ② $25°$ ③ $30°$ ④ $35°$ ⑤ $40°$

해설

$\angle OAC + \angle OBA + \angle OCB = 90°$

$\therefore \angle OCB = 90° - 35° - 25° = 30°$

11. 다음 그림에서 점 O 는 $\triangle ABC$ 의 외심이다. $\angle ACB = 66°$ 일 때 $\angle BAO$ 의 크기는?

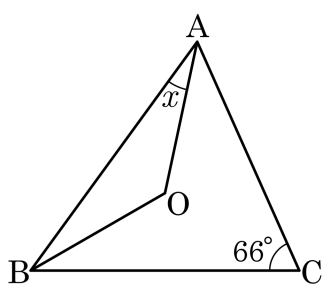

① $16°$ ② $20°$ ③ $24°$ ④ $30°$ ⑤ $33°$

해설

$\angle AOB = 66° \times 2 = 132°$

$\overline{OA} = \overline{OB}$ 이므로 $\triangle ABO$ 에서 $2x + 132° = 180°$

$\therefore\ x = 24°$

12. 다음 그림에서 점 I는 $\triangle ABC$의 내심이다. $\angle IBA = 30°$, $\angle C = 70°$일 때, $\angle x$의 크기는?

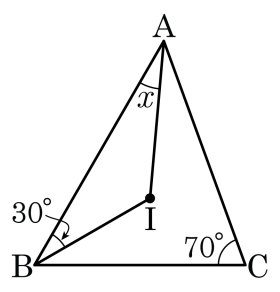

① 20° ② 25° ③ 30° ④ 35° ⑤ 40°

해설

$\angle B = 2 \times 30° = 60°$

$\angle A = 180° - (60° + 70°) = 50°$

$\therefore \angle x = \angle IAB = \frac{1}{2} \times 50° = 25°$

13. 다음 그림에서 점 I가 삼각형의 내심일 때, $\angle x$의 크기는?

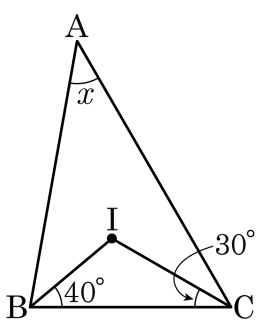

① $20°$ ② $30°$ ③ $40°$ ④ $50°$ ⑤ $60°$

해설

$\angle x = 180° - (40° + 30°) \times 2 = 40°$

14. 다음 그림에서 원 I 는 직각삼각형 ABC 의 내접원이고, 점 D, E, F 는 각각 접점이다. 이 때, 내접원 I 의 반지름의 길이는? (단, $\overline{AB} = 6$, $\overline{BC} = 8$, $\overline{AC} = 10$)

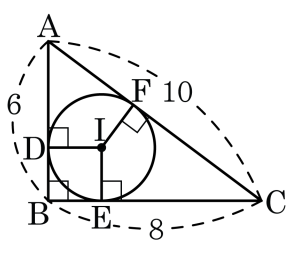

① 1　　② 1.5　　③ 2　　④ 2.5　　⑤ 3

해설

내접원의 반지름의 길이를 r이라 하면

$\triangle ABI + \triangle BCI + \triangle ACI = \frac{1}{2} \times 8 \times 6 = 24$,

$\frac{1}{2} \times (6 + 8 + 10) \times r = 24 \therefore r = 2$

15. 다음 그림에서 $\overline{AB} = \overline{AC}$, $\overline{BC} = \overline{BD}$ 이고, $\angle BCD = 75°$ 일 때, $\angle ABD$ 의 크기를 구하여라.

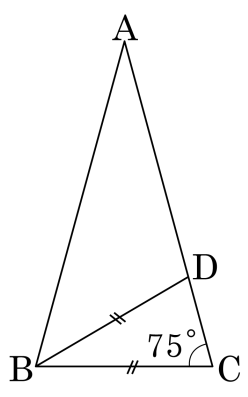

▶ 답 : °

▷ 정답 : 45°

해설

$\angle DBC = 180° - 75° \times 2 = 30°$
$\angle ABD = 75° - 30° = 45°$

16. 그림과 같이 직각삼각형 ABC 에서 $\angle C$ 를 지나는 직선 l 을 $\angle ACB = \angle DCB$ 가 성립하도록 그렸다. 점 B 에서 직선 l 로 내린 수선의 발을 D 라 할 때, $\overline{BD}$ 의 길이를 구하여라.

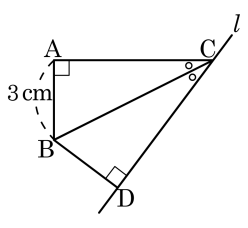

▶ 답 : _____ cm

▷ 정답 : 3 cm

해설

$\triangle ABC$ 와 $\triangle DBC$ 에서
$\overline{BC}$ 는 공통 $\cdots$ ㉠
$\angle ACB = \angle DCB \cdots$ ㉡
$\angle CAB = \angle CDB = 90°\cdots$ ㉢
㉠, ㉡, ㉢에 의해 $\triangle ABC \equiv \triangle DBC$ (RHA 합동) 이다.
그러므로 $\overline{AB} = \overline{BD} = 3\text{cm}$

17. 다음 그림과 같이 $\overline{AB} = \overline{AC}$ 인 $\triangle ABC$ 에서 $\angle BAC = 90°$ 일 때, $\overline{DE}$ 의 길이를 구하여라.

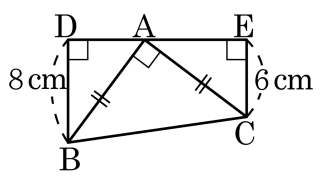

▶ 답 : _____ cm

▷ 정답 : 14 cm

해설

$\triangle DBA \equiv \triangle EAC$ 이므로
$\overline{DA} = \overline{EC} = 6\,\text{cm}$
$\overline{AE} = \overline{BD} = 8\,\text{cm}$
$\therefore \overline{DE} = 6 + 8 = 14(\text{cm})$

18. 다음 그림에서 점 I는 $\triangle ABC$의 내심이다. $\angle IBC = 20°$, $\angle ACI = 30°$일 때, $\angle A = (\quad\quad)°$의 크기는 얼마인지 구하여라.

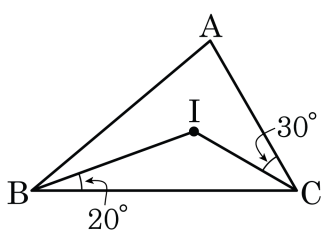

▶ 답 :

▷ 정답 : 80

해설

점 I가 $\triangle ABC$의 내심일 때, $\angle BIC = 90° + \frac{1}{2}\angle A$이다.

점 I가 세 내각의 이등분선의 교점이므로 $\angle ACI = \angle ICB = 30°$이다.

삼각형의 내각의 합은 $180°$이므로 $\angle BIC = 180° - 20° - 30° = 130°$이다.

$\angle BIC = 90° + \frac{1}{2}\angle A$,

$130° = 90° + \frac{1}{2}\angle A$

$\therefore\ \angle A = 80°$

19. 다음 그림과 같은 직각삼각형에서 내접원의 넓이는?

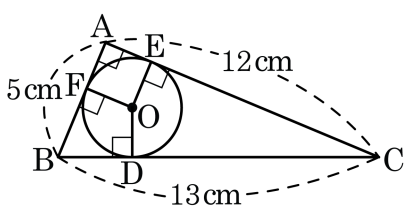

① $2\pi\,\mathrm{cm}^2$　② $4\pi\,\mathrm{cm}^2$　③ $9\pi\,\mathrm{cm}^2$
④ $16\pi\,\mathrm{cm}^2$　⑤ $25\pi\,\mathrm{cm}^2$

해설

내접원의 반지름의 길이를 $x\,\mathrm{cm}$ 라 하면,
$\overline{AF} = \overline{AE} = x$, $\overline{BF} = \overline{BD} = 5 - x$,
$\overline{CE} = \overline{CD} = 12 - x$ 이므로
$(5 - x) + (12 - x) = 13$
$\therefore x = 2$
따라서 내접원의 넓이는 $4\pi\,\mathrm{cm}^2$

20. 다음 그림과 같은 이등변삼각형 ABC 에서 외심을 O, 내심을 I라 할 때, $\angle OBI$ 의 크기를 구하여라.

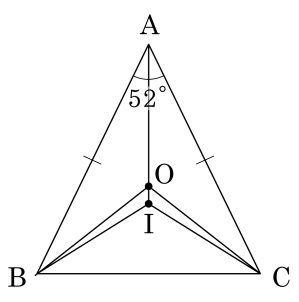

▶ 답 :

▷ 정답 : $6°$

해설

점 I가 내심이므로 $\angle OAB = \frac{1}{2} \times 52° = 26°$

또한, 점 O가 외심이므로 $\angle OAB = \angle OBA = 26°$

이등변삼각형이므로

$\angle ABC = \angle ACB = \frac{1}{2} \times (180° - 52°) = 64°$

점 I가 내심이므로

$\angle IBA = \angle IBC = \frac{1}{2} \times \angle ABC = \frac{1}{2} \times 64° = 32°$

$\therefore\ \angle OBI = 32° - 26° = 6°$

21. 다음 그림에서 $\triangle ABC$ 는 $\overline{AB} = \overline{BC}$ 인 이등변삼각형이다. 다음 그림을 보고 옳지 <u>않은</u> 것을 모두 고르면?(정답 2 개)

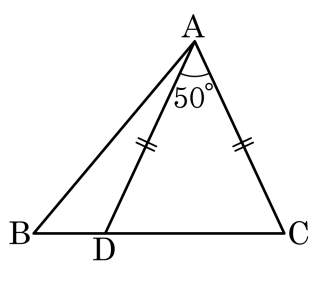

① $\angle B = \angle CAD$ 이다.

② $\angle B$ 와 $\angle BAD$ 의 크기의 합은 $65°$ 이다.

③ $\overline{BD}$ 와 $\overline{AD}$ 의 길이는 서로 같다.

④ $\triangle ABC$ 와 $\triangle ACD$ 의 밑각의 크기는 모두 같다.

⑤ $\angle B$ 와 $\angle BAD$ 의 크기는 같다.

해설

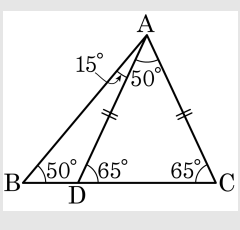

③ $\triangle ABD$ 에서 $\angle B$ 와 $\angle BAD$ 의 크기가 다르므로 $\overline{BD}$ 와 $\overline{AD}$ 의 길이는 서로 다르다.
⑤ $\angle B = 50°$ $\angle BAD = 15°$ 이므로 크기는 다르다.

22. 다음 그림에서 $\triangle ABC$ 는 $\overline{AB} = \overline{AC}$ 인 이등변삼각형이다. $\angle B$ 의 이등분선이 $\overline{AC}$ 와 만나는 점을 D 라 할 때, x 의 길이를 구하여라.

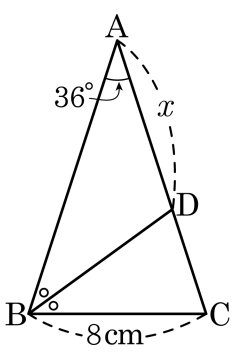

▶ 답 : _____ cm

▷ 정답 : 8 cm

해설

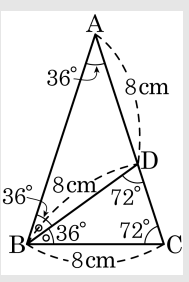

$\angle A = 36°$ 이고, $\triangle ABC$ 가 이등변삼각형이므로 $\angle B = \angle C = \frac{1}{2} \times (180° - 36°) = 72°$ 이다.

$\angle ABD = \angle CBD = 36°$ 이므로 $\triangle ABD$ 는 두 내각의 크기가 같게 되고, $\angle BCD = \angle BDC = 72°$ 이므로 $\triangle BCD$ 도 두 내각의 크기가 같으므로, 이등변삼각형이다.

따라서 $\overline{BC} = \overline{BD} = \overline{AD} = 8\,\text{cm}$ 이다.

23. 다음 그림의 $\triangle ABC$ 에서 $\angle A = 70°$, 변 BC 의 중점 M 에서 $\overline{AB}$ 와 $\overline{AC}$ 에 내린 수선의 발을 각각 D, E 라 하면 $\overline{MD} = \overline{ME}$ 이다. $\angle BMD$ 의 크기는?

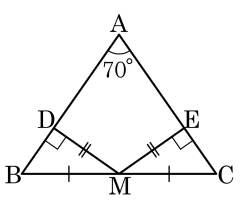

① 35° ② 30° ③ 25°

④ 20° ⑤ 15°

해설

$\triangle BMD$ 와 $\triangle CME$ 는 RHS 합동조건에 의해 합동이 된다.
따라서 $\angle B$ 와 $\angle C$ 는 같게 되고 $\triangle ABC$ 는 이등변삼각형이 되어 $\angle B$ 와 $\angle C$ 는 $55°$ 가 된다.
따라서 $\angle BMD$ 는 $35°$ 이다.

24. 다음 그림과 같이 $\angle A = 90°$ 인 직각삼각형의 변 $\overline{AC}$ 위의 한 점 D 에서 변 $\overline{BC}$ 에 수선을 그어 그 교점을 E 라 할 때, $\overline{AD} = \overline{ED}$ 이면, $\overline{BD}$ 는 $\angle B$ 의 이등분선임을 증명할 때, 이용되는 합동 조건은?

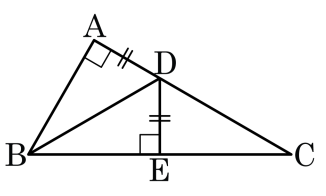

① SSS 합동 ② SAS 합동 ③ ASA 합동
④ RHA 합동 ⑤ RHS 합동

해설

$\angle A = \angle E = 90°$
$\overline{AD} = \overline{ED}$
$\overline{BD}$ 는 공통
$\triangle ABD \equiv \triangle EBD$ (RHS 합동)
$\therefore \angle ABD = \angle DBE$

25. 다음 그림에서 점 O 는 $\triangle ABC$ 의 외심이고, 점 I 는 $\triangle OBC$ 의 내심이다. $\angle A = 60°$ 일 때, $\angle BIC - \angle BOC$ 의 크기는?

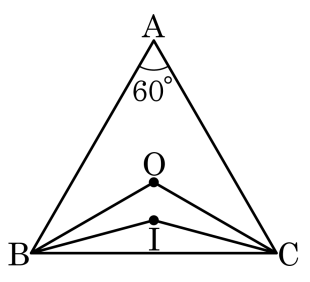

① 0° ② 10° ③ 20° ④ 30° ⑤ 40°

해설

$\triangle ABC$ 의 외심이 점 O 일 때, $\frac{1}{2}\angle BOC = \angle A$, $\angle A = 60°$ 이므로 $\angle BOC = 120°$ 이다.

$\triangle OBC$ 의 내심이 점 I 일 때, $\frac{1}{2}\angle BOC + 90° = \angle BIC$ 이므로 $\angle BIC = \frac{1}{2} \times 120° + 90° = 150°$ 이다. 따라서 $\angle BIC - \angle BOC = 150° - 120° = 30°$ 이다.