1. 다음 중에서 이차함수인 것은?

① $y = x^2 - (x-1)^2$ ② $y = \frac{1}{x} - 1$

③ $y = -\frac{1}{2}x(x-2) - 5$ ④ $y = \frac{1}{x^2}$

⑤ $y = -3x + 5$

2. 다음 그래프의 이차함수가 점 $(a,\ 10)$ 을 지날 때, a 의 값을 구하여라. (단, $a > 0$)

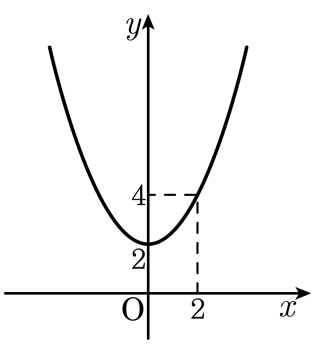

답: $a =$ _____

3. 다음 그림과 같이 $x = 4$ 일 때, $y = -12$ 인 이차함수 $y = ax^2$ 이 있다. 이 이차함수와 x 축 대칭인 그래프의 이차함수의 식은?

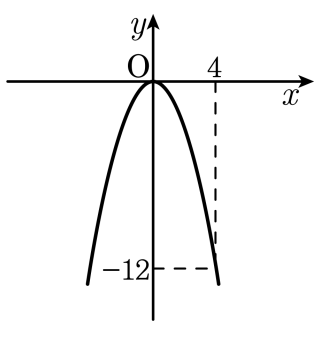

① $y = -\frac{3}{4}x^2$ ② $y = \frac{1}{3}x^2$ ③ $y = \frac{3}{4}x^2$
④ $y = -x^2$ ⑤ $y = -\frac{1}{3}x^2$

4. 점$(2,\ 5)$ 는 이차함수 $y = 2x^2 + q$ 위의 점일 때, 이 포물선의 꼭짓점의 좌표는?

① $(-3,\ 0)$ ② $(0,\ 3)$ ③ $(0,\ -3)$
④ $(3,\ 0)$ ⑤ $(-3,\ 3)$

5. 이차함수 $y = 3x^2$ 의 그래프를 x 축의 방향으로 5 만큼, y 축의 방향으로 -6 만큼 평행이동하면 점 $(6,\ k)$ 을 지난다고 할 때, k 의 값은?

① 1 ② -1 ③ 3 ④ -3 ⑤ 5

6. 다음 이차함수의 그래프 중 직선 $x = -3$을 축으로 하는 것은?

① $y = x^2 - 3$
② $y = (x-3)^2 + 1$
③ $y = 3x^2$
④ $y = \frac{1}{2}(x+3)^2 - 1$
⑤ $y = -x^2 + 3$

7. 다음 이차함수 $y = a(x-p)^2 + q$ 의 그래프이다. a , p , q 의 부호를 각각 구하면?

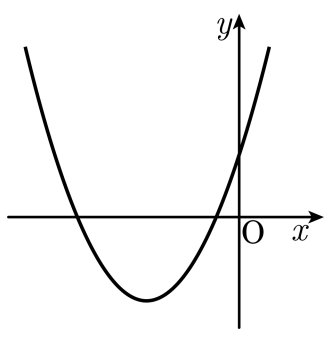

① $a > 0, p > 0, q > 0$
② $a > 0, p > 0, q < 0$
③ $a > 0, p < 0, q < 0$
④ $a < 0, p < 0, q < 0$
⑤ $a < 0, p > 0, q < 0$

8. 이차함수 $y = -3x^2 + 6x + 2 + k$ 의 그래프가 x 축과 만나지 않도록 하는 k 의 값의 범위를 구하여라.

답: _____

9. 이차함수 $y = f(x)$ 에서 $f(x) = x^2 - 2x + 3$ 일 때, $2f(1) - f(-1) \cdot f(2)$ 의 값을 구하여라.

답: _____

10. 원점을 꼭짓점으로 하는 이차함수 $y = f(x)$ 의 그래프가 x 의 값이 -1 에서 5 까지 증가할 때, y 의 값은 24 만큼 감소한다. 다음 중 이 그래프 위에 있는 점은?

보기

㉠ $(2,\ -4)$ ㉡ $(-4,\ -16)$ ㉢ $(3,\ 9)$

㉣ $(-4,\ -32)$ ㉤ $(4,\ -2)$

① ㉠,㉡ ② ㉠,㉣ ③ ㉡,㉣ ④ ㉢,㉤ ⑤ ㉣,㉤

11. 이차함수 $y = ax^2$ 의 그래프에 대한 설명 중 <u>틀린</u> 것은?

① 원점이 꼭짓점이고 y축을 축으로 하는 포물선이다.

② $a > 0$ 일 때는 아래로 볼록이다.

③ $a < 0$ 일 때는 위로 볼록이다.

④ a 의 절댓값이 클수록 그래프의 폭이 넓어진다.

⑤ $y = ax^2$ 과 $y = -ax^2$ 의 그래프는 x축에 대하여 대칭이다.

12. 이차함수 $y = \frac{1}{5}x^2$ 의 그래프를 x 축의 방향으로 -4 만큼 평행이동시키면 점 $(1,\ a)$ 를 지난다. 이때, a 의 값을 구하여라.

답: _____

13. 이차함수 $y = -x^2$ 의 그래프를 x 축의 방향으로 4 만큼 평행이동한 그래프에서 x 의 값이 증가할 때 y 의 값도 증가하는 x 의 값의 범위는?

① $x > -4$ ② $x < -4$ ③ $x < 4$

④ $x > 4$ ⑤ $x > -5$

14. $y = 2x^2$ 의 그래프를 x 축의 방향으로 3 만큼 평행이동한 후 다시 x 축에 대하여 대칭이동 한 그래프의 식을 구하면?

① $y = -2(x+3)^2$
② $y = -2(x-3)^2$
③ $y = 2(x-3)^2$
④ $y = 2(x+3)^2$
⑤ $y = -2(3x-1)^2$

15. $y = x^2 + 4x - 7$ 을 $y = a(x-p)^2 + q$ 의 꼴로 고쳤을 때, $a + p + q$ 의 값을 구하여라.

답: _____

16. 이차함수 $y = -x^2 + 5x - 4$ 의 그래프가 지나지 않는 사분면은?

① 제 1 사분면 ② 제 2 사분면 ③ 제 3 사분면
④ 제 4 사분면 ⑤ 제 2, 4 사분면

17. 이차함수 $y = -\frac{1}{3}(x-1)^2 + 10$ 의 그래프를 x 축의 방향으로 p 만큼, y 축의 방향으로 q 만큼 평행이동하였더니 $y = -\frac{1}{3}(x+4)^2 - 2$ 와 포개어졌다. pq 의 값을 구하여라.

답: _____

18. 이차함수 $y = ax^2$ 의 그래프가 $y = -\frac{3}{2}x^2$ 의 그래프보다 폭이 좁고, $y = 2x^2$ 의 그래프보다 폭이 넓다고 할 때, 음수 a 의 값의 범위는?

① $-\frac{3}{2} < a < 2$ ② $-\frac{3}{2} < a < -2$ ③ $\frac{3}{2} < a < 2$
④ $-2 < a < -\frac{3}{2}$ ⑤ $-2 < a < \frac{3}{2}$

19. 이차함수 $y = -\frac{3}{4}x^2 + 3$ 의 그래프가 $y = a(x+p)^2$ 의 꼭짓점을 지나고 $y = a(x-p)^2$ 의 그래프가 $y = -\frac{3}{4}x^2 + 3$ 의 꼭짓점을 지날 때, ap 의 값을 구하여라. (단, $p < 0$)

답: _____

20. 이차함수 $y = 3x^2 + 2x + a$ 의 그래프가 점 $(a, a^2 + 2)$ 를 지나고 x 축과 두 점에서 만나도록 a 의 값을 정하여라.

답: $a =$ _____

21. 포물선 $y = x^2 + 2ax + a - \frac{1}{2}$ 이 x 축과 만나는 두 점의 사이의 거리가 1 일 때, a 의 값을 구하여라.

답: _____

22. 다음 포물선 $y = x^2 - 2x - 3$ 의 꼭짓점을 A 라 하고, x 축과의 교점을 B, C 라 할 때, △ABO 의 넓이는?

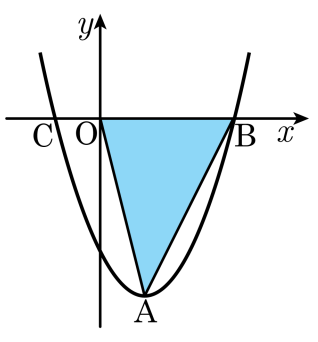

① 16 ② 8 ③ 12 ④ 6 ⑤ 10

23. 다음 보기 중 이차함수에 대한 설명이 옳은 것을 모두 고르면?

보기

㉠ $y = ax^2 + b(a \neq 0)$는 $x = b$ 를 축으로 하고 점 $(0,\ a)$ 를 꼭짓점으로 하는 포물선이다.

㉡ $y = ax^2 + bx + c(a \neq 0)$ 에서 $|a|$ 의 값이 같으면 폭도 같다.

㉢ $y = ax^2$ 에서 $a < 0$ 일 때, a 가 커지면 폭이 좁아진다.

㉣ $y = -x^2$ 에서 $x < 0$ 일 때, x 값이 증가하면 y 값도 증가한다.

㉤ $y = ax^2$ 과 $y = -ax^2$ 의 그래프는 x 축에 대하여 대칭이다.

① ㉠,㉡,㉠　② ㉠,㉡,㉣　③ ㉠,㉡,㉤

④ ㉡,㉢,㉣　⑤ ㉡,㉣,㉤

24. 이차함수 $y = ax^2 + bx + c$ 의 그래프가 다음 그림과 같을 때, 이차함수 $y = cx^2 + ax + b$ 의 그래프의 꼭짓점은 제 몇 사분면에 있는가?

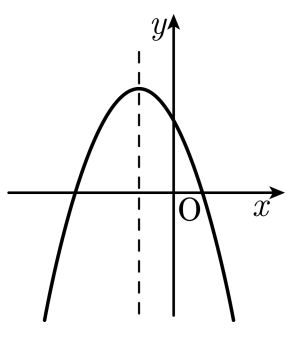

① 제1 사분면 ② 제2 사분면 ③ 제3 사분면
④ 제4 사분면 ⑤ 답이 없다.

25.

직사각형의 넓이를 구하려고 합니다. □ 안에 알맞은 수를 써넣으시오.

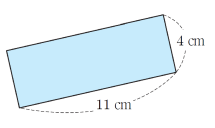

(넓이)=□×□=□(cm^2)

답: _____