1. $(2x+1)^2$ 을 전개한 것은?

① $4x^2+4x+1$ ② $4x^2-4x+1$ ③ $2x^2+4x+1$

④ $2x^2-4x+1$ ⑤ $4x^2+2x+1$

2. $(3x+y)^2$ 을 전개한 것은?

① $3x^2+3xy+y^2$ ② $3x^2+6xy+y^2$ ③ $9x^2+3xy+y^2$

④ $9x^2+6xy+y^2$ ⑤ $9x^2+9xy+y^2$

3. $(-4x-5)^2$ 을 전개하면?

① $-8x^2-20x-25$

② $-8x^2-40x-25$

③ $16x^2+20x+25$

④ $16x^2+40x+25$

⑤ $20x^2+10x+5$

4. $(-3x-2)^2$ 을 전개하면?

① $3x^2+2x+2$ ② $3x^2+12x+2$ ③ $9x^2+2x+2$

④ $9x^2+10x+4$ ⑤ $9x^2+12x+4$

5. $(3x+4y)^2 = ax^2 + bxy + cy^2$ 일 때, 상수 a , b , c 의 합 $a+b+c$ 의 값은?

① 11 ② 19 ③ 25 ④ 31 ⑤ 49

6. $(3x-4)^2 + a = 9x^2 + bx + 10$ 일 때, $a+b$ 의 값은? (단, a, b 는 상수이다.)

① -36 ② -30 ③ -24 ④ -18 ⑤ -12

7. $\left(6a+\frac{1}{3}\right)^2$ 을 전개하면?

① $6a^2+2a+\frac{1}{3}$ ② $6a^2+4a+\frac{1}{9}$ ③ $36a^2+2a+\frac{1}{9}$

④ $36a^2+4a+\frac{1}{9}$ ⑤ $36a^2+4a+\frac{2}{3}$

8. 다음 중 $(x-3)^2$ 을 전개한 것은?

① x^2-3x-3 ② x^2-3x-6 ③ x^2-3x+6

④ x^2-6x+9 ⑤ x^2+6x+9

9. $\left(4a+\frac{1}{5}\right)^2$ 을 전개하면?

① $16a^2+\frac{4}{5}a+\frac{1}{25}$

② $16a^2+\frac{8}{5}a+\frac{1}{25}$

③ $4a^2+\frac{4}{5}a+\frac{1}{5}$

④ $4a^2+\frac{4}{5}a+\frac{1}{25}$

⑤ $4a^2+\frac{8}{5}a+\frac{1}{25}$

10. $\left(2a+\frac{1}{2}\right)^2$을 전개하면?

① $2a^2+\frac{1}{2}$ ② $4a^2+\frac{1}{4}$ ③ $4a^2+a+\frac{1}{2}$

④ $4a^2+2a+\frac{1}{2}$ ⑤ $4a^2+2a+\frac{1}{4}$

11. $(2x+3y)^2 = ax^2 + bxy + cy^2$ 일 때, 상수 a , b , c 의 합 $a+b+c$ 의 값은?

① 21 ② 25 ③ 29 ④ 32 ⑤ 35

12. $\left(x+\frac{1}{3}\right)^2 = x^2 - ax + \frac{1}{9}$ 일 때, 상수 a 의 값은?

① $-\frac{1}{9}$ ② $-\frac{1}{3}$ ③ $-\frac{4}{9}$ ④ $-\frac{5}{9}$ ⑤ $-\frac{2}{3}$

13. $\left(-\frac{1}{2}x-\frac{3}{5}y\right)^2$ 을 전개하면?

① $\frac{1}{2}x^2+\frac{3}{5}xy+\frac{3}{20}y^2$

② $\frac{1}{2}x^2+\frac{3}{5}xy+\frac{3}{5}y^2$

③ $\frac{1}{4}x^2+\frac{3}{5}xy+\frac{9}{25}y^2$

④ $\frac{1}{4}x^2+3xy+\frac{3}{20}y^2$

⑤ $\frac{1}{4}x^2+9xy+\frac{9}{20}y^2$

14. $(2x+a)^2 = 4x^2 + bx + 9$ 일 때, ab 의 값은? (단, a, b 는 상수)

① 12 ② 24 ③ 30 ④ 36 ⑤ 40

15. 다음 그림에서 정사각형 ABCD 의 넓이는 사각형 P, Q, R, S 의 넓이의 합과 같다. 이 사실을 이용하여 나타낼 수 있는 곱셈 공식을 골라라.

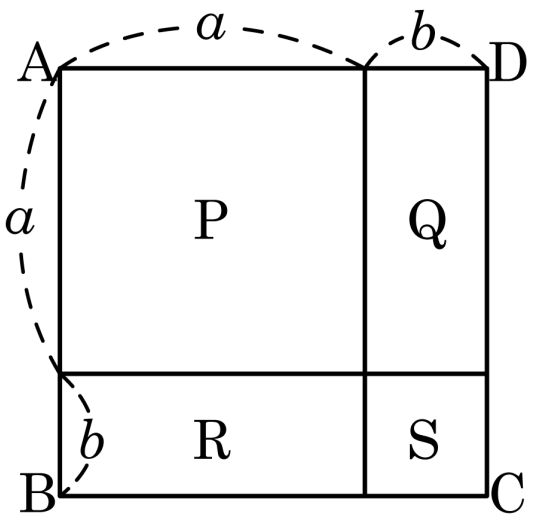

① $(a+b)^2 = a^2 + 2ab + b^2$

② $(a-b)^2 = a^2 - 2ab + b^2$

③ $(a+b)(a-b) = a^2 - b^2$

④ $(x+a)(x+b) = x^2 + (a+b)x + ab$

⑤ $(ax+b)(cx+d) = acx^2 + (ad+bc)x + bd$

16. $(2x+b)^2 = ax^2 + 4x + 1$ 일 때, 상수 a, b 의 합 $a+b$ 의 값은?

① 1 ② 2 ③ 3 ④ 4 ⑤ 5

17. $(3x+b)^2 = ax^2 + 6x + 1$ 일 때, 상수 a, b 의 합 $a+b$ 의 값은?

① 10 ② 12 ③ 14 ④ 16 ⑤ 18

18. 다음 그림에서 색칠한 부분의 넓이를 x, y 에 대한 식으로 바르게 나타낸 것은?

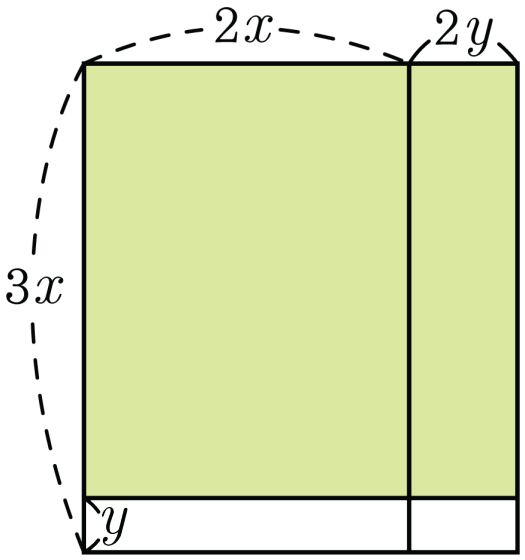

① $(2x+2y)(3x+y)=6x^2+8xy+2y^2$

② $(2x-2y)(3x+y)=6x^2-4xy-2y^2$

③ $(2x+2y)(3x-y)=6x^2+4xy-2y^2$

④ $(3x+2y)(2x-y)=6x^2+xy-2y^2$

⑤ $(3x-2y)(2x+y)=6x^2-xy-2y^2$

19. 다음 그림과 같이 한 변의 길이가 am 인 정사각형의 모양의 화단을 가로와 세로를 각각 1m, 2m 만큼 늘릴 때, 화단의 넓이는?

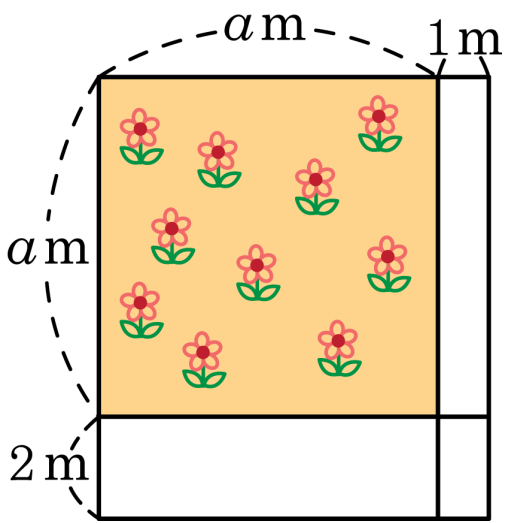

① $(a^2-3a+2)\mathrm{m}^2$

② $(a^2+3a+2)\mathrm{m}^2$

③ $(a^2+2a+1)\mathrm{m}^2$

④ $(a^2-4a+4)\mathrm{m}^2$

⑤ $(a^2+6a+9)\mathrm{m}^2$

20. $(x-4)(x-6)=x^2+Ax+B$ 일 때, 상수 A, B 의 합 $A+B$ 의 값은?

① -24 ② -10 ③ 4 ④ 10 ⑤ 14

21. $(3x-2)(7x+1)$ 을 전개한 식은?

① $21x^2+11x-2$

② $21x^2+9x+2$

③ $21x^2+21x-11$

④ $21x^2-11x-2$

⑤ $21x^2-11x-21$

22. $(5x-6)(4x+3)$ 을 전개한 식은?

① $20x^2+2x-18$

② $20x^2+4x-18$

③ $20x^2+6x-18$

④ $20x^2-9x+18$

⑤ $20x^2-9x-18$

23. $(2x+1)(5x+A)=10x^2+Bx-2$ 일 때, $A+B$ 의 값은?

① -10 ② -5 ③ -1 ④ 1 ⑤ 5

24. $(x+3)(x-2)+(x-3)(x+5)$ 를 간단히 하면?

① $x^2+3x-21$ ② $x^2+6x-15$ ③ $2x^2+3x-15$

④ $2x^2+3x-21$ ⑤ $2x^2+6x-6$

25. $(3x-2)^2 = px^2 + qx + 4$ 일 때, 상수 p, q 에 대하여 $p-q$ 의 값은?

① -49 ② -14 ③ 7 ④ 14 ⑤ 21

26. $(2x-5)^2 = px^2 + qx + 25$ 일 때, 상수 p, q 에 대하여 $p-q$ 의 값은?

① 24 ② 30 ③ 36 ④ 42 ⑤ 48

27. $(x+2y)(x-2y)$ 를 전개하면?

① $x-4y$ ② x^2-2y^2 ③ $2x^2-4y^2$

④ x^2-4y^2 ⑤ x^2+4y^2

28. $(x+3y)(x-3y)$ 를 전개하면?

① $x-3y$ ② x^2-3y^2 ③ x^2-9y^2

④ x^2+9y^2 ⑤ $2x^2-9y^2$

29. $\left(3a-\frac{1}{2}b\right)\left(3a+\frac{1}{2}b\right)$ 를 전개하면?

① $3a^2-\frac{1}{4}b^2$ ② $3a^2-\frac{1}{2}b^2$ ③ $6a^2-\frac{1}{4}b^2$

④ $9a^2-\frac{1}{2}b^2$ ⑤ $9a^2-\frac{1}{4}b^2$

30. $\left(5a-\frac{1}{3}b\right)\left(5a+\frac{1}{3}b\right)$ 를 전개하면?

① $5a^2-\frac{1}{3}b^2$ ② $5a^2-\frac{2}{3}b^2$ ③ $10a^2-\frac{1}{9}b^2$

④ $25a^2-\frac{2}{3}b^2$ ⑤ $25a^2-\frac{1}{9}b^2$

31. $(2x-5)^2 + a = 4x^2 + bx + 21$ 일 때, $a+b$ 의 값은? (단, a, b 는 상수이다.)

① -24 ② -11 ③ 3 ④ 8 ⑤ 19

32. $\left(2x-\frac{1}{4}\right)\left(3x+\frac{1}{2}\right)$ 을 전개하였을 때, x 의 계수와 상수항의 합은?

① $-\frac{1}{2}$ ② $-\frac{7}{16}$ ③ $-\frac{3}{8}$ ④ $\frac{1}{8}$ ⑤ $\frac{3}{8}$

33. $\left(2x-\frac{1}{3}\right)\left(4x+\frac{1}{2}\right)$ 을 전개하였을 때, x 의 계수는?

① $-\frac{1}{9}$ ② $-\frac{1}{6}$ ③ $-\frac{1}{3}$ ④ 2 ⑤ 8

34. $\left(x-\frac{1}{3}\right)\left(x+\frac{1}{7}\right) = x^2+ax+b$ 일 때, 상수 a, b 의 합 $a+b$ 의 값은?

① $-\frac{5}{21}$ ② $-\frac{4}{21}$ ③ $-\frac{1}{21}$ ④ $\frac{1}{7}$ ⑤ $\frac{4}{21}$

35. $(x-3)\left(x+\frac{1}{2}\right)$ 의 전개식에서 x 의 계수와 상수항의 합은?

① -4 ② $-\frac{1}{4}$ ③ 0 ④ $\frac{1}{2}$ ⑤ 3