1. 100 원짜리, 50 원짜리, 10 원짜리 동전이 각각 5 개씩 있다. 이 동전을 이용하여 250 원을 지불하는 방법의 수를 구하여라.

① 6 가지 ② 7 가지 ③ 8 가지
④ 9 가지 ⑤ 10 가지

2. A, B, C, D, E 의 5명이 일렬로 설 때, A 가 맨 앞에 C 가 맨 뒤에 서는 경우의 수는?

① 5가지 ② 6가지 ③ 10가지
④ 24가지 ⑤ 60가지

3. 부모님과 나, 친구 5 명이 놀이동산에 놀러갔을 때, 우리 가족끼리 항상 이웃하여 서게 되는 경우의 수를 구하여라.

답: _____ 가지

4. 1 에서 8 까지 적힌 자물쇠가 있다. 이 자물쇠는 순서대로 입력해야 열리는 자물쇠이다. 4 자리의 비밀번호를 만들 때, 만들 수 있는 비밀번호의 경우의 수를 구하여라.

답: _____ 가지

5. 0, 1, 2, 3, 4의 숫자가 적힌 다섯 장의 카드가 있다. 이 중 2장을 뽑아 두 자리의 정수를 만들 때 5의 배수가 될 경우의 수는?

① 2가지 ② 3가지 ③ 4가지
④ 5가지 ⑤ 6가지

6. 남자 3명과 여자 4명으로 이루어진 모임에서 대표 1명, 남녀 부대표를 각각 1명씩 뽑는 경우의 수는?

① 48가지 ② 60가지 ③ 72가지
④ 90가지 ⑤ 120가지

7. A, B 두 개의 주사위를 동시에 던져서 나온 눈의 수를 각각 a, b 라 할 때, 방정식 $ax - b = 0$ 의 해가 1이 되는 경우의 수는?

① 1 가지 ② 2 가지 ③ 3 가지
④ 4 가지 ⑤ 6 가지

8. 정육면체의 한 점 A 에서 모서리를 따라 갔을 때 가장 멀리 있는 점을 B 라고 하자. A 를 출발하여 모서리를 따라 B 에 도착하는 길 중, 길이가 가장 짧은 길은 모두 몇 가지인지 구하여라.

답: _____ 가지

9. 몇 개의 배구팀이 서로 한 번씩 돌아가며 경기를 했더니 28경기가 이루어졌다. 경기에 참가한 배구팀은 모두 몇 팀인가?

① 6팀 ② 8팀 ③ 10팀 ④ 12팀 ⑤ 14팀

10. 정십각형의 꼭짓점 중 3 개의 점을 이어서 만들 수 있는 서로 다른 삼각형의 개수를 구하여라.

답: _____ 개

11. 민준, 호영, 형윤, 연상 4명이 한 줄로 서서 사진을 찍으려고 한다. 이들 4명이 한 줄로 설 때 민준이와 호영이가 서로 이웃할 확률은?

① $\frac{1}{2}$ ② $\frac{1}{3}$ ③ $\frac{2}{3}$ ④ $\frac{1}{4}$ ⑤ $\frac{3}{4}$

12. 주사위 두 개를 동시에 던져서 나온 눈의 수를 각각 a, b라 할 때, $4a+b<12$일 확률을 구하여라.

답: _____

13. 공장에서 생산되는 제품 중 임의로 한 개를 뽑았을 때, 불량품일 확률이 $\frac{1}{5}$ 이라고 한다. 제품 중 3개를 택했을 때, 적어도 한 개의 불량품이 들어 있을 확률을 구하면?

① $\frac{1}{125}$ ② $\frac{3}{125}$ ③ $\frac{32}{125}$ ④ $\frac{61}{125}$ ⑤ $\frac{64}{125}$

14. 윷놀이에서 앞면과 뒷면이 나올 확률이 같은 윷짝을 한 번 던졌을 때, 도 또는 윷이 나올 확률을 구하여라.

답: _____

15. 100 원짜리 동전과 50 원짜리 동전 그리고 주사위 1 개를 동시에 던질 때, 동전은 모두 뒷면이 나오고, 주사위는 3 의 눈이 나올 확률을 구하면?

① $\frac{5}{12}$ ② $\frac{1}{24}$ ③ $\frac{1}{12}$ ④ $\frac{1}{6}$ ⑤ $\frac{1}{8}$

16. 1에서 10까지의 수가 각각 적혀 있는 10장의 카드가 있다. 이 중에서 한 장의 카드를 뽑을 때, 다음 중 경우의 수가 가장 적은 것은?

① 4의 배수의 눈이 나오는 경우의 수

② 10의 약수인 눈이 나오는 경우의 수

③ 홀수인 눈이 나오는 경우의 수

④ 소수인 눈이 나오는 경우의 수

⑤ 5보다 큰 수의 눈이 나오는 경우의 수

17. 다음 그림과 같은 길이 있다. A 에서 B 까지 가는 최단 거리의 수를 구하여라.

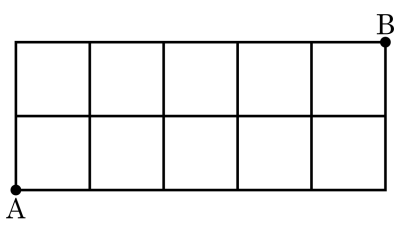

답: _____ 가지

18. 다음 그림과 같이 8가지의 길이 있다. A 지점에서 출발하여 B지점까지 갔다가 돌아오는 데, P지점을 반드시 한번만 지나는 방법의 수를 구하여라.

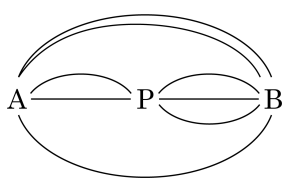

답: _____ 가지

19. 다음 그림과 같은 A, B, C, D, E의 각 부분에 빨강, 파랑, 노랑, 초록, 보라의 5가지 색을 칠하려고 한다. 같은 색을 두 번 이상 사용할 수는 있으나 이웃한 면은 반드시 다른 색을 칠하는 방법의 수를 구하여라.

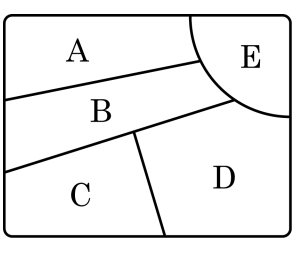

답: _____ 가지

20. $0, 1, 2, 3, 4$ 의 숫자가 각각 적힌 5 장의 카드에서 2 장을 뽑아 두 자리의 정수를 만들려고 한다. 두 자리의 정수가 32 이상일 확률을 구하면?

① $\frac{3}{10}$ ② $\frac{1}{4}$ ③ $\frac{5}{16}$ ④ $\frac{3}{8}$ ⑤ $\frac{7}{16}$

21. 한 개의 주사위를 던져 나온 눈의 수만큼 $\triangle ABC$ 의 꼭짓점 A 에서 출발하여 삼각형의 변을 따라 화살표 방향으로 점이 이동한다고 하자. 예를 들어, 주사위를 던져 4 가 나왔다면 점이 $'A \to B \to C \to A \to B'$ 의 순서로 이동하여 B 의 위치에 놓이게 된다. 주사위를 두 번 던질 때, 첫번째 던진 후에는 A, 두번째 던진 후에는 B 에 놓일 확률을 구하면?

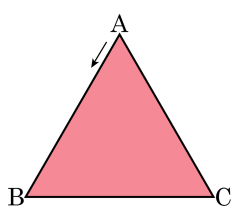

① $\frac{1}{6}$ ② $\frac{1}{9}$ ③ $\frac{1}{12}$ ④ $\frac{1}{18}$ ⑤ $\frac{1}{36}$

22. 주머니 속에 검은 공 3개, 파란 공 2개, 흰 공 2개가 들어 있다. 이 주머니에서 차례로 한 개씩 두 번 꺼낼 때, 두 개의 공이 같은 색일 확률이 높은 순서대로 나열한 것은?

① 흰 공 > 검은 공 > 파란 공　② 파란 공 > 흰 공 = 검은 공
③ 검은 공 > 파란 공 > 흰 공　④ 파란 공 = 흰 공 > 검은 공
⑤ 검은 공 > 파란 공 = 흰 공

23. 두 개의 주머니 A, B가 있다. A에는 6개의 제비가 들어 있고 이 중 4개가 당첨 제비이다. B에는 5개의 제비가 들어 있다. A에서 두 번 연속하여 제비를 꺼낼 때(첫 번째 뽑은 제비를 넣지 않음), 두 개 모두 당첨 제비일 확률과 B에서 임의로 한 개를 꺼낼 때, 당첨 제비가 나올 확률은 같다고 한다. B에서 제비를 한 개 꺼내 확인한 후 B주머니에 넣은 다음 다시 제비 한 개를 꺼낼 때, 두 번 모두 당첨 제비가 나올 확률을 구하면?

① $\frac{2}{3}$ ② $\frac{5}{9}$ ③ $\frac{2}{27}$ ④ $\frac{2}{25}$ ⑤ $\frac{4}{25}$

24. 양궁 선수 A 가 목표물을 명중시킬 확률은 $\frac{2}{5}$ 이고, A, B 중 적어도 한 명이 목표물을 명중시킬 확률은 $\frac{3}{5}$ 이다.

B, C 중 적어도 한 명이 목표물을 명중시킬 확률이 $\frac{5}{7}$ 일 때, A, C 가 함께 목표물을 향하여 화살을 쏜다면 적어도 한 명이 명중시킬 확률은?

① $\frac{10}{35}$ ② $\frac{14}{35}$ ③ $\frac{18}{35}$ ④ $\frac{22}{35}$ ⑤ $\frac{26}{35}$

25. 다음 그림과 같이 $\overline{AB}$ 를 지름으로 하는 반원 위에 일곱 개의 점이 있다. 세 점을 이어서 만들 수 있는 삼각형을 만들 수 있는 확률을 구하여라.

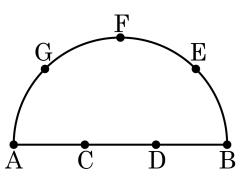

답: _____