1. 다음은 학생 9명의 철봉 매달리기 기록이다. 이 때, 중앙값과 최빈값을 차례대로 구하여라.

12, 5, 13, 10, 8, 20, 22, 18, 5

▶ 답 :

▶ 답 :

▷ 정답 : 중앙값 : 12

▷ 정답 : 최빈값 : 5

해설

변량을 크기의 순서로 나열하면 다음과 같다.
5, 5, 8, 10, 12, 13, 18, 22, 20
따라서 중앙값은 12 이고, 최빈값은 5 이다.

2. 다음은 희정이네 학급 43 명의 일주일 동안의 운동시간을 조사하여 나타낸 그래프이다. 학생들의 운동시간의 중앙값과 최빈값은?

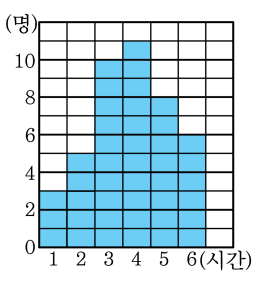

① 중앙값 : 3, 최빈값 : 3

② 중앙값 : 3, 최빈값 : 4

③ 중앙값 : 4, 최빈값 : 3

④ 중앙값 : 4, 최빈값 : 4

⑤ 중앙값 : 5, 최빈값 : 5

해설

최빈값은 학생 수가 11 명으로 가장 많을 때인 4 이고, 운동시간을 순서대로 나열하면
1, 1, 1, 2, 2, 2, 2, 2, 3, 3, 3, 3, 3, 3, 3, 3, 3, 3, 4, 4, 4, 4, 4, 4, 4, 4, 4, 4, 4, 5, 5, 5, 5, 5, 5, 5, 5, 6, 6, 6, 6, 6, 6 이므로 중앙값은 4 이다.

3. 3 회에 걸친 영어 시험 성적이 84 점,82 점, 90 점이다. 4 회의 시험에 몇 점을 받아야 4 회까지의 평균이 86 점이 되겠는가?

① 80 점 ② 82 점 ③ 84 점 ④ 86 점 ⑤ 88 점

해설

4 회의 성적을 x 점이라 하면

$$\frac{84+82+90+x}{4}=86$$

$256+x=344$

$\therefore x=88$(점)

4. 영이의 4 회에 걸친 음악 성적이 90, 84, 88, 94 이다. 다음 시험에서 몇 점을 받아야 평균이 90 점 되겠는가?

① 88 점 ② 90 점 ③ 92 점 ④ 94 점 ⑤ 96 점

해설

다음에 받아야 할 점수를 x 점이라고 하면

(평균) $= \dfrac{90+84+88+94+x}{5} = 90$, $\dfrac{356+x}{5} = 90$, $356 + x = 450$ $\therefore$ $x = 94$

따라서 94 점을 받으면 평균90 점이 될 수 있다.

5. 다음은 성수의 5 회의 체육 실기 중 4 회에 걸친 실기 점수를 나타낸 표이다. 다음 시험에서 몇 점을 받아야 평균이 75 점이 되겠는가?

횟수(회)	1	2	3	4
점수(점)	84	78	80	76

① 55 점 ② 57 점 ③ 59 점 ④ 61 점 ⑤ 63 점

해설

다음에 받아야 할 점수를 x 점이라고 하면

(평균) $= \dfrac{84+78+80+76+x}{5} = 75$, $\dfrac{318+x}{5} = 75$, $318 + x = 375$ $\therefore x = 57$

따라서 57 점을 받으면 평균 75 점이 될 수 있다.

6. 영희는 3 회에 걸쳐 치른 국어 시험 성적의 평균이 85 점이 되게 하고 싶다. 2 회까지 치른 국어 점수의 평균이 84 점일 때, 3 회에는 몇 점을 받아야 하는가?

① 81 점 ② 83 점 ③ 85 점 ④ 87 점 ⑤ 89 점

해설

1, 2 회 때 각각 받은 점수를 a, b 다음에 받아야 할 점수를 x 점이라고 하면

$\frac{a+b}{2} = 84$, $a+b = 168$

$\frac{a+b+x}{3} = 85$, $(a+b)+x = 255$, $168+x = 255$ $\therefore x = 87$

따라서 87 점을 받으면 평균 85 점이 될 수 있다.

7. 다음은 미희의 5 회의 미술 실기 중 4 회에 걸친 실기 점수를 나타낸 표이다. 다음 시험에서 몇 점을 받아야 평균이 80 점이 되겠는가?

횟수(회)	1	2	3	4
점수(점)	70	80	75	85

① 80 점 ② 85 점 ③ 90 점
④ 95 점 ⑤ 100 점

해설

다음에 받아야 할 점수를 x 점이라고 하면

(평균) $= \dfrac{70+80+75+85+x}{5} = 80$, $\dfrac{310+x}{5} = 80$, $310 + x = 400$

$\therefore x = 90$(점)

따라서 90 점을 받으면 평균 80 점이 될 수 있다.

8. 다음 표는 선영이의 5 회 동안의 수학 쪽지 시험의 성적을 나타낸 표이다. 5 회의 평균이 8 점일 때, 3 회의 점수를 구하여라.

횟수(회)	1	2	3	4	5
점수(점)	8	7	x	7	9

▶ 답 : _____ 점

▷ 정답 : 9 점

해설

$\frac{8+7+x+7+9}{5}=8$, $\frac{31+x}{5}=8$, $31+x=40$

$\therefore x=9$ 점

9. 다음 표는 어느 인터넷 쇼핑몰의 1 월부터 6 월까지 수입이다. 6 개월간의 평균 수입이 160 만원 일 때, x의 값을 구하여라.

월	1월	2월	3월	4월	5월	6월
수입(만 원)	150	130	210	x	160	180

▶ 답 : _____ 만원

▷ 정답 : 130만원

해설

$$\frac{150+130+210+x+160+180}{6}=160$$

$\therefore x=130$

10. 다음 표는 5 명의 학생의 수학 점수를 나타낸 것이다. 평균 점수가 87 점 일 때, 성규의 점수를 구하여라.

이름	재기	범진	성규	강현	재엽
점수(점)	84	90		86	80

▶ 답 : _____ 점

▷ 정답 : 95 점

해설

$$\frac{84+90+x+86+80}{5}=87$$

$\therefore x=95$

11. 다음 표는 길동이의 중간고사 성적을 나타낸 표이다. 5 과목의 평균이 82 점일 때, 수학 과목의 점수를 구하여라.

과목	국어	수학	영어	사회	과학
점수(점)	84	x	82	84	76

▶ 답 : _____ 점

▷ 정답 : 84 점

해설

$\frac{84+x+82+84+76}{5}=82$, $\frac{326+x}{5}=82$, $326+x=410$

$\therefore\ x=84$

12. 다음 그림은 A 반 학생 50 명의 멀리던지기 기록에 대한 히스토그램이다. 이 반 학생 50 명의 멀리던지기기록의 평균은?

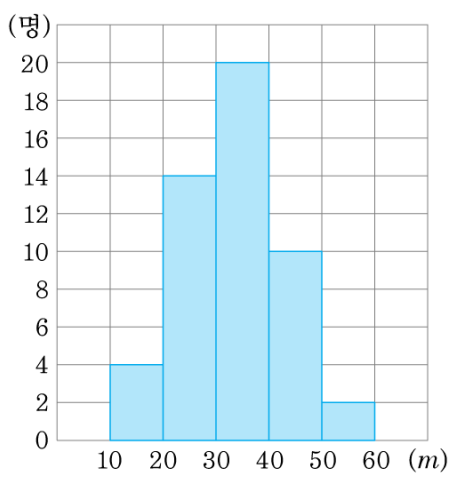

① 28.6m ② 30.4m ③ 32.2m
④ 33.4m ⑤ 34.6m

해설

$$\frac{15\times4+25\times14+35\times20+45\times10+55\times2}{50}$$
$= 33.4(\mathrm{m})$

13. 다음 그림은 지현이네 반의 학생들의 몸무게에 대한 조사 결과를 나타낸 히스토그램이다. 지현이네 반의 학생들의 몸무게의 평균을 구하여라. (단, 소수 첫째 자리에서 반올림하여 나타낸다.)

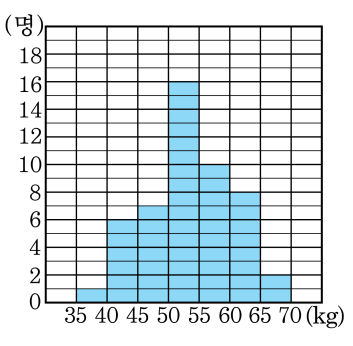

▶ 답 : _____ kg

▷ 정답 : 54 kg

해설

$$\frac{37.5\times1+42.5\times6+47.5\times7+52.5\times16}{50}+\frac{57.5\times10+62.5\times8+67.5\times2}{50}=53.5(\text{kg})$$

따라서 소수 첫째자리에서 반올림하면 54 kg이다.

14. 다음은 A, B, C 세 사람의 3 회에 걸친 턱걸이 횟수의 기록을 나타낸 그래프이다. 이 중 표준편차가 다른 한 사람은 누구인지 구하여라.

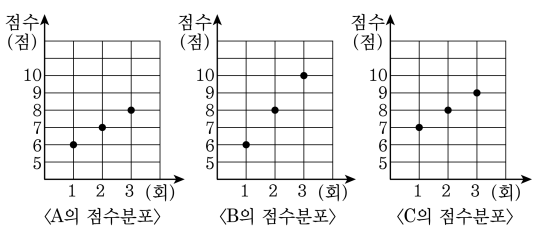

〈A의 점수분포〉 〈B의 점수분포〉 〈C의 점수분포〉

▶ 답 :

▷ 정답 : B

해설

표준편차는 자료가 흩어진 정도를 나타내므로 A, C 의 표준편차는 같다.

15. 다음 보기의 자료들 중에서 표준편차가 가장 큰 자료와 가장 작은 자료를 차례대로 나열한 것은?

보기

㉠ 4, 4, 4, 6, 6, 4, 4, 4

㉡ 2, 10, 2, 10, 2, 10, 2, 10

㉢ 2, 4, 2, 4, 2, 4, 4, 4

㉣ 1, 1, 1, 1, 1, 1, 1, 1

㉤ 1, 3, 1, 3, 1, 3, 1, 3

㉥ 5, 5, 5, 7, 7, 7, 6, 6

① ㉠, ㉡ ② ㉡, ㉣ ③ ㉢, ㉥ ④ ㉣, ㉤ ⑤ ㉤, ㉥

해설

표준편차는 자료가 흩어진 정도를 나타내므로 주어진 자료들 중에서 표준편차가 가장 큰 것은 ㉡, 가장 작은 것은 ㉣이다.

16. 다음은 다섯 명의 학생 A, B, C, D, E 가 5 일 동안 받은 문자의 개수를 나타낸 표이다. 이때, 표준편차가 가장 큰 사람은 누구인가?

	월요일	화요일	수요일	목요일	금요일
A	2	5	2	5	2
B	3	6	3	6	4
C	10	2	1	11	3
D	8	8	8	8	9
E	5	6	7	8	9

① A ② B ③ C ④ D ⑤ E

해설

표준편차는 자료가 흩어진 정도를 나타내고, 표준편차가 클수록 변량이 평균에서 더 멀어지므로 표준편차가 가장 큰 학생은 C 이다.

17. 다음은 양궁선수 A, B, C 가 3 회에 걸쳐 활을 쏜 기록을 나타낸 그래프이다.

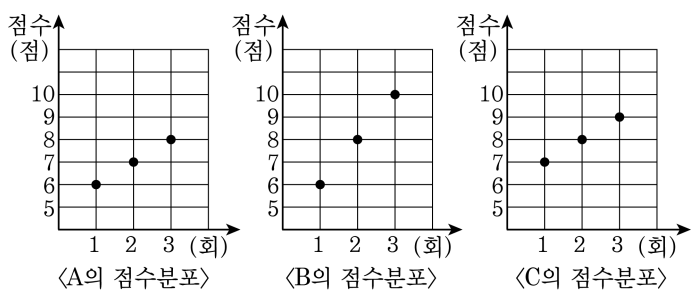

〈A의 점수분포〉 〈B의 점수분포〉 〈C의 점수분포〉

A, B, C 의 활을 쏜 점수의 표준편차를 각각 a, b, c 라고 할 때, a, b, c 의 대소 관계는?

① $a = b = c$ ② $a = c < b$ ③ $a < b = c$

④ $a = b > c$ ⑤ $a < b < c$

해설

표준편차는 자료가 흩어진 정도를 나타내므로 A, C 의 표준편차는 같고, B 의 표준편차는 A, C 의 표준편차보다 크다.
따라서 $a = c < b$ 이다.

18. 다음은 A, B, C, D, E 5 명의 학생의 영어 성적의 편차를 나타낸 표이다. 이 5 명의 수학 성적의 평균이 8 점 일 때, A 의 성적과 표준편차를 차례대로 나열한 것은?

	A	B	C	D	E
편차(점)	-1	2	0	x	1

① 5 점, $\sqrt{2}$ 점　② 6 점, $\sqrt{2}$ 점　③ 6 점, $\sqrt{3}$ 점
④ 7 점, $\sqrt{2}$ 점　⑤ 8 점, $\sqrt{3}$ 점

해설

A 의 성적은 $8-1=7$(점)
또한, 편차의 합은 0 이므로
$-1+2+0+x+1=0$
$x+2=0$, $\therefore\ x=-2$
따라서 분산이
$$\frac{(-1)^2+2^2+0^2+(-2)^2+1^2}{5}=\frac{10}{5}=2$$
이므로 표준편차는 $\sqrt{2}$ 점 이다.

19. 다음은 A, B, C, D, E 다섯 학급의 학생들의 평균 몸무게에 대한 편차를 나타낸 표이다. 이 다섯 학급의 몸무게의 평균이 65kg 일 때, A 학급의 몸무게와 다섯 학급의 표준편차를 차례대로 나열한 것은? (단, 각 학급의 학생 수는 모두 같다.)

학급	A	B	C	D	E
편차 (kg)	-1	2	3	0	x

① 60kg, $\sqrt{2}$kg ② 61kg, $\sqrt{3}$kg ③ 62kg, 2kg
④ 64kg, $\sqrt{6}$kg ⑤ 64kg, $\sqrt{7}$kg

해설

A 학급의 몸무게는 $65+(-1)=64$(kg)
또한, 편차의 합은 0 이므로
$-1+2+3+0+x=0,\quad x+4=0 \quad \therefore x=-4$
따라서 분산이
$$\frac{(-2)^2+1^2+3^2+0^2+(-4)^2}{5}=\frac{30}{5}=6$$
이므로 표준편차는 $\sqrt{6}$ kg 이다.

20. 다음은 A, B, C, D, E 다섯 사람의 몸무게에 대한 편차를 나타낸 표이다. 이 다섯 사람의 몸무게의 평균이 65kg 일 때, B 의 몸무게와 다섯 사람의 전체의 표준편차를 차례대로 나열한 것은? (단, 분산은 소수 첫째자리에서 반올림한다.)

학생	A	B	C	D	E
편차(kg)	-2	3	1	x	0

① 60 kg, 1 kg ② 64 kg, 1 kg ③ 64 kg, 2 kg
④ 68 kg, 2 kg ⑤ 68 kg, 3 kg

해설

B 의 몸무게는 $65+3=68$(kg)
또한, 편차의 합은 0 이므로
$-2+3+1+x+0=0,\quad x+2=0\quad \therefore x=-2$
따라서 분산이
$$\frac{(-2)^2+3^2+1^2+(-2)^2+0^2}{5}=\frac{18}{5}=3.6$$
이므로 소수 첫째자리에서 반올림하면 4 이다.
따라서 표준편차는 $\sqrt{4}=2$ kg 이다.

21. 세 수 x, y, z 의 평균과 분산이 각각 4, 2 일 때, $(x-4)^2+(y-4)^2+(z-4)^2$ 의 값은?

① 2　　② 4　　③ 6　　④ 8　　⑤ 10

해설

세 수 x, y, z 의 평균이 4 이므로 각 변량에 대한 편차는 $x-4$, $y-4$, $z-4$ 이다.
따라서 분산은

$$\frac{(x-4)^2+(y-4)^2+(z-4)^2}{3}=2$$

$\therefore\ (x-4)^2+(y-4)^2+(z-4)^2=6$ 이다.

22. 다음은 5 명의 학생 A, B, C, D, E 의 한달 간의 인터넷 이용 시간의 평균과 표준편차를 나타낸 표이다. A, B, C, D, E 중 인터넷 이용 시간이 가장 불규칙적인 학생은?

이름	A	B	C	D	E
평균(시간)	5	6	5	3	9
표준편차(시간)	2	0.5	1	3	2

① A ② B ③ C ④ D ⑤ E

해설

표준편차가 클수록 변량이 평균에서 더 멀어진다. 따라서 인터넷 이용 시간이 가장 불규칙적인 학생은 표준편차가 가장 큰 D이다.

23. 6 개의 변량 $x_1, x_2, x_3, \cdots, x_6$ 의 평균이 3 이고 표준편차가 4 일 때, $2x_1 - 1, 2x_2 - 1, 2x_3 - 1, \cdots, 2x_6 - 1$ 의 평균과 표준편차는?

① 평균 : 3, 표준편차 : 8
② 평균 : 3, 표준편차 : 15
③ 평균 : 3, 표준편차 : 20
④ 평균 : 5, 표준편차 : 8
⑤ 평균 : 5, 표준편차 : 15

해설

n 개의 변량 $x_1, x_2, x_3, \cdots, x_n$ 의 평균이 m 이고 표준편차가 s 일 때, 변량 $ax_1 + b, ax_2 + b, ax_3 + b, \cdots, ax_n + b$ 에 대하여 평균은 $am + b$, 표준편차는 $|a|s$ 이므로
평균은 $2 \cdot 3 - 1 = 5$ 이고
표준편차는 $|2| \cdot 4 = 8$ 이다.

24. 다음 히스토그램은 우리 반 10명의 학생이 한달동안 읽은 책의 수를 조사한 것이다. 이 자료의 분산은?

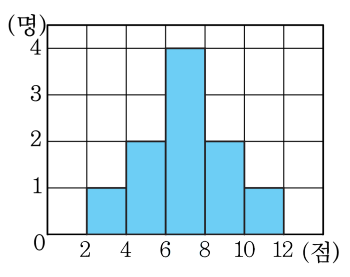

① 3.5 ② 3.7 ③ 3.9 ④ 4.5 ⑤ 4.8

해설

$$(\text{평균}) = \frac{3\times1+5\times2+7\times4+9\times2+11\times1}{10} = \frac{70}{10} = 7$$

$$(\text{분산}) = \frac{(3-7)^2\cdot1+(5-7)^2\cdot2}{10} + \frac{(9-7)^2\cdot2+(11-7)^2\cdot1}{10} = 4.8$$

25. 다음 표는 동건이의 일주일동안 수학공부 시간을 조사하여 나타낸 것이다. 수학공부 시간의 평균은?

요일	일	월	화	수	목	금	토
시간	2	1	0	3	2	1	5

① 1 시간　② 2 시간　③ 3 시간
④ 4 시간　⑤ 5 시간

해설

$(\text{평균}) = \dfrac{\{(\text{변량})\text{의총합}\}}{\{(\text{변량})\text{의갯수}\}}$ 이므로

$\dfrac{2+1+0+3+2+1+5}{7} = \dfrac{14}{7} = 2(\text{시간})$ 이다.