1. 다음 분수를 소수로 차례대로 바르게 나타낸 것을 고르시오.

(1) $5\frac{56}{100}$ (2) $4\frac{7}{100}$

① (1)0.56 (2)0.47
② (1)5.056 (2)4.007
③ (1)5.56 (2)4.7
④ (1)5.56 (2)4.07
⑤ (1)5.056 (2)4.07

2. $\square$ 안에 들어갈 수를 차례대로 쓴 것은 어느 것입니까?

$$5.39 = 5 + \square + \square$$

① $0.3, 0.03$　② $0.3, 0.05$　③ $0.3, 0.09$
④ $0.5, 0.09$　⑤ $0.5, 0.03$

3. 다음을 관계 있는 것끼리 바르게 연결한 것은 어느 것입니까?

(1) 0.672	㉠ 십일점영이이
(2) 1.601	㉡ 삼십구점영영삼
(3) 11.022	㉢ 영점육칠이
(4) 39.003	㉣ 일점육영일

① (1)-㉢, (2)-㉠, (3)-㉣, (4)-㉡

② (1)-㉢, (2)-㉠, (3)-㉡, (4)-㉣

③ (1)-㉢, (2)-㉣, (3)-㉠, (4)-㉡

④ (1)-㉢, (2)-㉣, (3)-㉡, (4)-㉠

⑤ (1)-㉢, (2)-㉡, (3)-㉠, (4)-㉣

4. 다음을 소수로 바르게 나타낸 것을 고르시오.

(1) $3\frac{85}{100}$ (2) $10\frac{4}{1000}$

① (1) 0.385 (2) 1.0004
② (1) 3.85 (2) 10.004
③ (1) 3.85 (2) 100.04
④ (1) 38.5 (2) 10.004
⑤ (1)38.5 (2)10.04

5. 다음을 소수로 바르게 나타낸 것은 어느 것입니까?

$50 + 4 + 0.02 + 0.003$

① 540.023 ② 54.23 ③ 54.023
④ 540.23 ⑤ 50.423

6. 다음에서 ㉠의 7 이 나타내는 수는 ㉡의 7 이 나타내는 수의 몇 배입니까?

$1\underset{㉠}{\underline{7}}.00\underset{㉡}{\underline{7}}$

① 0.001 배 ② 0.01 배 ③ 0.1 배
④ 1000 배 ⑤ 100 배

7. 다음 중 두 수의 크기를 비교할 때, 소수 셋째 자리까지 비교해야 하는 것은 어느 것입니까?

① 43.923 , 43.832
② 36.236 , 36.337
③ 2.506 , 2.604
④ 3.654 , 3.658
⑤ 8.012 , 7.013

8. 다음 중 수직선에 나타낼 때 가장 오른쪽에 있는 수는 어느 것입니까?

① 0.874 ② 0.211 ③ 0.3458
④ 0.654 ⑤ 0.2311

9. $\boxed{}$ 안에 알맞은 수를 순서대로 쓴 것을 고르시오.

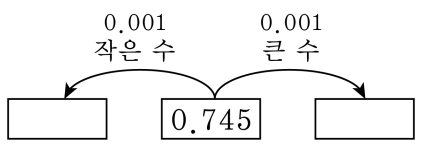

① 0.744, 0.746　② 0.735, 0.756　③ 0.735, 0.746
④ 0.645, 0.845　⑤ 0.74, 0.75

10. 다음을 소수로 차례대로 나타낸 것을 고르시오.

(1) $\frac{1}{10}$ 이 5 인 수보다 0.01 이 3 인 수 만큼 작은 수 (2) 0.07 의 100 배인 수보다 $\frac{1}{10}$ 이 9 인 수만큼 큰 수

① (1) 0.53 (2) 0.79
② (1) 5.3 (2) 0.79
③ (1) 0.47 (2) 0.79
④ (1) 0.47 (2) 7.9
⑤ (1) 0.47 (2) 7.09

11. $\boxed{}$ 안에 알맞은 수를 바르게 쓴 것을 고르시오.

(1) $605\,\mathrm{cm} = \boxed{}\,\mathrm{m}$

(2) $3\,\mathrm{km}\ 350\,\mathrm{m} = \boxed{}\,\mathrm{km}$

① (1) 605 (2) 3350

② (1) 6.05 (2) 3.035

③ (1) 6.05 (2) 3.35

④ (1) 6.5 (2) 3.305

⑤ (1) 6.5 (2) 3.35

12. $\boxed{}$ 안에 알맞은 수를 차례대로 바르게 쓴 것을 고르시오.

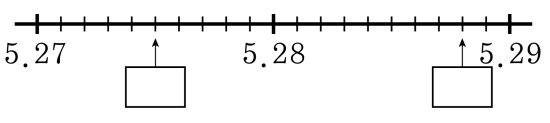

① 5.273, 5.288 ② 5.274, 5.288 ③ 5.275, 5.288

④ 5.276, 5.288 ⑤ 5.277, 5.288

13. 다음 수직선을 보고, 물음에 차례대로 답한 것을 고르시오.

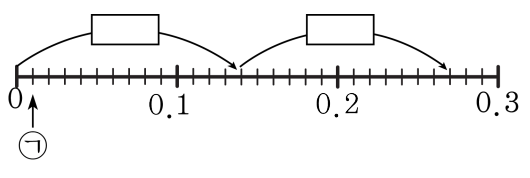

(1) ㉠ 은 얼마를 나타내는지 구하시오.
(2) □ 안에 알맞은 수를 차례로 쓰시오.

① (1) 0.01 (2) 0.12, 0.12
② (1) 0.01 (2) 0.13, 0.14
③ (1) 0.01 (2) 0.14, 0.13
④ (1) 0.1 (2) 0.13, 0.13
⑤ (1) 0.1 (2) 0.14, 0.13

14. 소수의 덧셈을 바르게 계산한 값을 고르시오.

(1) $2.77 + 5.08$ (2) $5.16 + 12.78$

① (1) 7.75 (2) 62.94
② (1) 7.75 (2) 17.94
③ (1) 7.75 (2) 17.98
④ (1) 7.85 (2) 17.94
⑤ (1) 7.85 (2) 17.98

15. 다음 소수의 덧셈을 바르게 계산한 값을 고르시오.

(1) $1.33 + 7.09$ (2) $6.52 + 2.71$

① (1) 8.32 (2) 8.13
② (1) 8.42 (2) 8.23
③ (1) 8.32 (2) 9.13
④ (1) 8.42 (2) 9.23
⑤ (1) 8.32 (2) 9.33

16. 다음 소수의 덧셈에서 합이 가장 큰 것은 어느 것인지 구하시오.

① $0.35 + 0.72$ ② $0.54 + 0.54$ ③ $0.92 + 0.11$

④ $0.47 + 0.62$ ⑤ $0.82 + 0.24$

17. $\square$ 안에 알맞은 수를 순서대로 써넣은 것을 고르시오.

$$11.92 - 3.84 - 2.79 = \square - 2.79 = \square$$

① 8.16, 5.37 ② 8.16, 5.29 ③ 8.08, 5.37
④ 8.08, 5.29 ⑤ 8.06, 5.29

18. 체력장을 하는데 100 m 달리기에서 승재는 15.73 초, 나라는 13.88 초를 기록했습니다. 누가 얼마만큼 더 빠른지 구하시오.

① 승재, 1.75 초 ② 나라, 1.75 초 ③ 승재, 1.85 초
④ 나라, 1.85 초 ⑤ 승재, 1.95 초

19. $\boxed{}$ 안에 알맞은 수를 바르게 쓴 것을 고르시오.

(1) $5.789 + 2.981 = \boxed{}$
(2) $3.892 + 5.002 = \boxed{}$

① (1) 8.769 (2) 8.884
② (1) 8.769 (2) 8.894
③ (1) 8.77 (2) 8.884
④ (1) 8.77 (2) 8.894
⑤ (1) 8.771 (2) 8.894

20. 다음은 소수의 뺄셈을 세로셈으로 하는 과정을 순서 없이 나열한 것입니다. 바른 순서대로 그 기호를 나열한 것을 고르시오.

1.342 – 0.762
㉠ 자연수의 뺄셈과 같은 방법으로 계산합니다. ㉡ 소수점의 자리를 맞추어 문제를 씁니다. ㉢ 자리를 맞추어 소수점을 찍습니다.

① ㉠ ⇒ ㉡ ⇒ ㉢　② ㉡ ⇒ ㉢ ⇒ ㉠　③ ㉡ ⇒ ㉠ ⇒ ㉢
④ ㉠ ⇒ ㉢ ⇒ ㉡　⑤ ㉢ ⇒ ㉡ ⇒ ㉠

21. 다음 중에서 계산 결과가 가장 큰 것은 어느 것인지 구하시오.

① $1.007 + 2.06$ ② $0.936 + 2.87$ ③ $3.02 + 0.98$

④ $5.61 + 1.907$ ⑤ $6.75 + 1.98$

22. $\square$ 안에 알맞은 수를 차례대로 써넣은 것을 고르시오.

$$8.56 - 2.861 - 3.55 = \square - 3.55 = \square$$

① 5.599, 2.049 ② 5.699, 2.149 ③ 5.599, 2.149
④ 5.699, 2.140 ⑤ 5.689, 2.049

23. $\boxed{}$ 안에 알맞은 수를 바르게 구한 값을 고르시오.

(1) $3.6\,\mathrm{km} + 2607\,\mathrm{m} = \boxed{}\,\mathrm{km}$
(2) $2130\,\mathrm{m} + 0.49\,\mathrm{km} = \boxed{}\,\mathrm{km}$

① (1) 6.217 (2) 2.52
② (1) 6.217 (2) 2.62
③ (1) 6.207 (2) 2.52
④ (1) 6.207 (2) 2.61
⑤ (1) 6.207 (2) 2.62

24. 다음을 바르게 계산한 것을 고르시오.

(1) $7.81 + 2.89 - 2.31$	(2) $3.33 + 11.32 - 8.73$

① (1) 8.29 (2) 5.82
② (1) 8.29 (2) 5.92
③ (1) 8.38 (2) 5.82
④ (1) 8.39 (2) 5.82
⑤ (1) 8.39 (2) 5.92

25. 계산한 값이 큰 것부터 차례대로 기호를 쓴 것을 고르시오.

㉠ $10.1 - 3.64$ ㉡ $5.27 + 1.79$ ㉢ $8.02 - 0.55$

① ㉡-㉠-㉢ ② ㉠-㉡-㉢ ③ ㉢-㉡-㉠
④ ㉡-㉢-㉠ ⑤ ㉢-㉠-㉡