1. 다음 그림에서 점 I가 삼각형의 내심일 때, $\angle x$의 크기는?

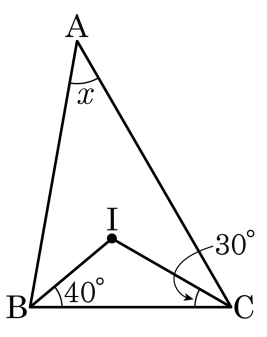

① 20° ② 30° ③ 40° ④ 50° ⑤ 60°

2. 다음 그림에서 점 I가 $\triangle ABC$의 내심일 때 $\angle x$의 크기를 구하여라.

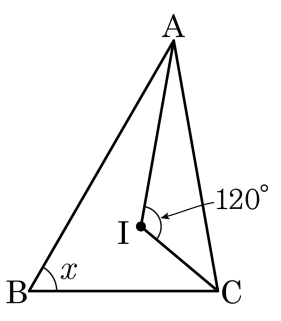

답: _____ °

3. 다음 $\triangle$ ABC 의 외심을 O 라고 할 때, $\angle x$ 의 크기는?

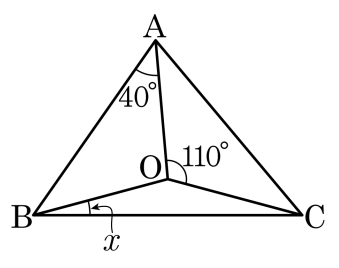

① 10° ② 15° ③ 20° ④ 25° ⑤ 30°

4. 다음 그림에서 점 O 가 $\triangle ABC$ 의 외심일 때, $\angle x$ 의 크기를 구하여라.

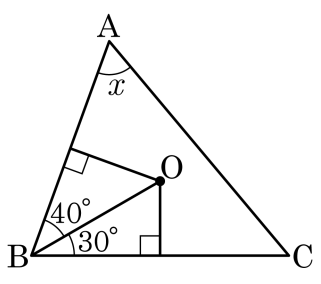

답: _____ °

5. 다음 그림과 같이 직각삼각형 ABC의 외심이 점 O일 때, $\overline{AB}+\overline{AC}=$ 12cm이면 $\angle ABC$ 의 크기는?

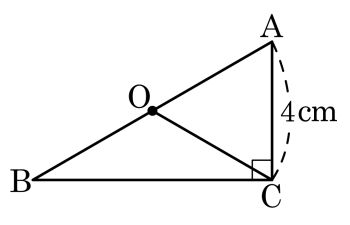

① $10°$ ② $20°$ ③ $30°$

④ $40°$ ⑤ 알 수 없다.

6. 다음 그림과 같이 $\triangle ABC$ 의 외심 O 와 내심 I 가 일치하는 그림이다. 빈 칸을 채워 넣는 말로 적절한 것은?

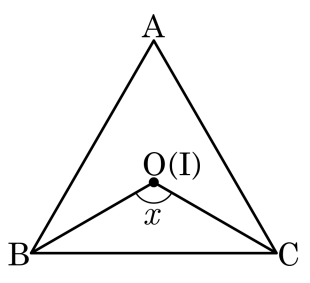

$\triangle ABC$ 의 외심과 내심이 일치할 때에 $\triangle ABC$ 는 (　　) 이고, $\angle BOC = (\quad)^\circ$ 이다.

① 직각삼각형, 90　　② 직각삼각형, 120

③ 이등변삼각형, 60　　④ 정삼각형, 90

⑤ 정삼각형, 120

7. 다음 그림에서 점 I 는 $\triangle ABC$ 의 내심이다.

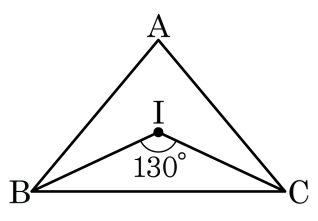

$\angle BIC = 130°$ 일 때, $\angle BAC$ 의 크기를 구하여라.

답: _____ °

8. 다음 그림에서 점 O는 $\triangle ABC$의 외심이고, $\angle OCB = 40°$일 때, $\angle BAC$의 크기를 구하면?

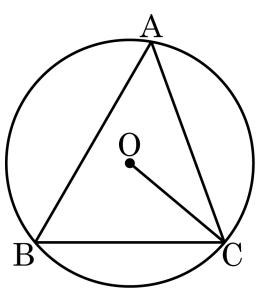

① $50°$ ② $55°$ ③ $60°$ ④ $65°$ ⑤ $70°$

9. 점 O 는 $\triangle ABC$ 의 외심이다. $\angle BOC = 120°$ 이고, $\triangle OBC$ 의 둘레의 길이는 26cm, $\overline{BC} = 12\text{cm}$ 일 때, $\angle BAC$ 는 $x°$ 이고, $\overline{OB}$ 는 $y$cm 이라고 한다. $x + y$ 의 값을 구하여라. (단, 단위 생략)

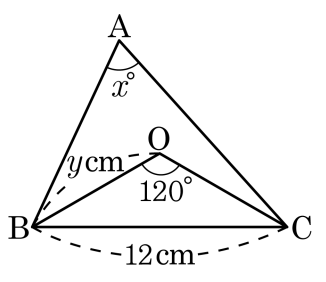

답: _____

10. 다음 그림에서 점 O는 $\triangle ABC$의 외심이다. $\angle A = 50°$일 때, $\angle BOC$의 크기를 구하면?

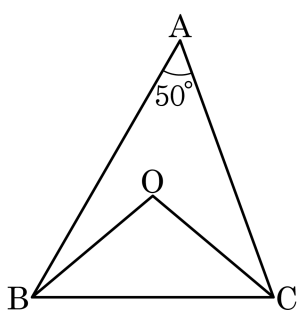

① 110° ② 100° ③ 105° ④ 95° ⑤ 115°

11. 다음 그림에서 점 O가 삼각형 ABC의 외심일 때, $\angle x$의 크기를 구하여라.

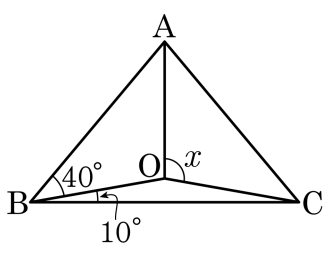

답: _____ °

12. 직각삼각형 ABC 에서 $\overline{BC}$ 의 중점을 M 이라고 할 때, x 의 값은?

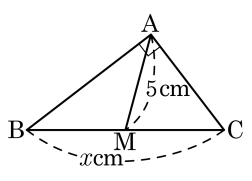

① 5 cm ② 10 cm ③ 15 cm

④ 20 cm ⑤ 25 cm

13. 다음 그림과 같은 직각삼각형 ABC의 빗변의 중점을 M이라고 할 때, $\overline{MC}$의 길이는?

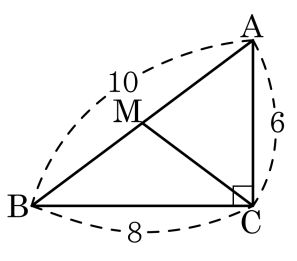

① 2 ② 3 ③ 4 ④ 5 ⑤ 6

14. 다음 그림에서 원 I 는 직각삼각형 ABC 의 내접원이고, 점 D, E, F 는 각각 접점이다. 이 때, 내접원 I 의 반지름의 길이는? (단, $\overline{AB} = 6$, $\overline{BC} = 8$, $\overline{AC} = 10$)

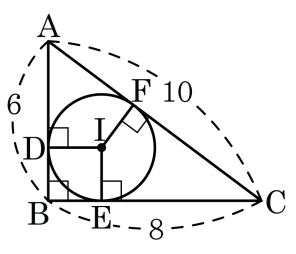

① 1　　② 1.5　　③ 2　　④ 2.5　　⑤ 3

15. 다음 그림에서 점 I 는 $\triangle ABC$ 의 내심이다. x 의 값을 구하여라.

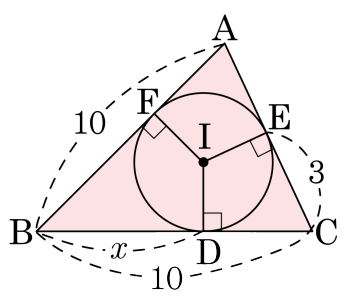

답: _____

16. 다음 그림에서 점 I는 $\angle B$와 $\angle C$의 내각의 이등분선의 교점이다. $\angle IAB = 50°$일 때, $\angle x$의 크기는?

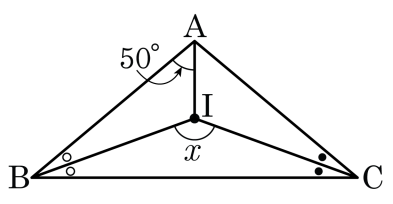

① 120° ② 130° ③ 140° ④ 150° ⑤ 160°

17. 다음 그림에서 점 I가 $\triangle ABC$의 내심일 때 $\angle x$의 크기를 구하여라.

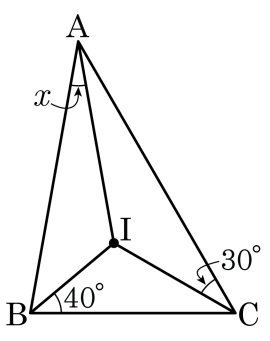

답: _____ °

18. 다음 그림에서 점 I가 $\triangle ABC$의 내심일 때, $\angle x + \angle y + \angle z = (\quad\quad)^\circ$ 이다. ( ) 안에 알맞은 수를 구하여라.

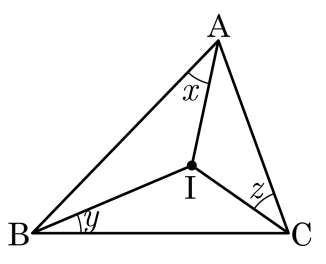

답: _____

19. 다음 그림에서 점 O는 $\triangle ABC$의 외심이다. $\angle OBC = 40°$, $\angle ACO = 30°$일 때, $\angle x$의 크기는?

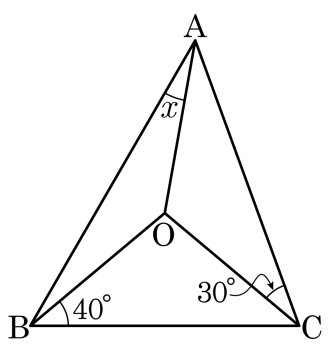

① 15° ② 20° ③ 25° ④ 30° ⑤ 40°

20. 다음 그림을 보고, 다음 중 크기가 같은 것끼리 묶은 것이 <u>아닌</u> 것은?

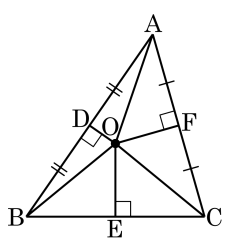

① $\overline{AO} = \overline{OC}$

② $\overline{AF} = \overline{CF}$

③ $\angle OEB = \angle OEC$

④ $\angle OBE = \angle OCE$

⑤ $\angle DOB = \angle FOC$

21. 다음 그림에서 점 O 는 $\triangle ABC$ 의 외심이다. 점 O 에서 $\overline{BC}$ 에 내린 수선의 발을 D 라 할 때, $\overline{OB}$ 의 길이는?

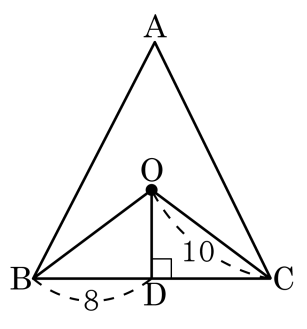

① 6 ② 7 ③ 8 ④ 9 ⑤ 10

22. 다음 중 점 O 가 삼각형의 외심에 해당하는 것을 모두 고르면?

①
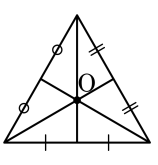

②
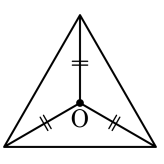

③
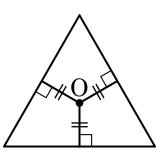

④
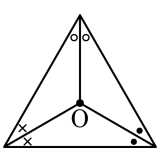

⑤
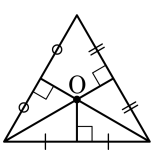

23. 다음 그림에서 점 O 는 $\triangle ABC$ 의 외심이고, 점 I 는 $\triangle OBC$ 의 내심이다. $\angle A = 60^\circ$ 일 때, $\angle BIC - \angle BOC$ 의 크기는?

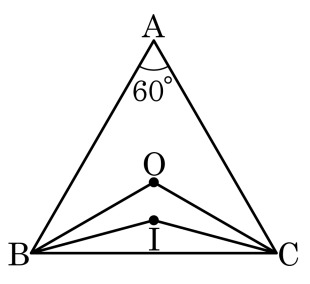

① 0° ② 10° ③ 20° ④ 30° ⑤ 40°

24. 다음 그림과 같이 $\triangle ABC$ 의 내심 I 를 지나고 $\overline{BC}$ 에 평행한 직선과 $\overline{AB}$, $\overline{AC}$ 와의 교점을 각각 D, E 라고 한다.
$\overline{BD} = 6\,\text{cm}$, $\overline{CE} = 3\,\text{cm}$ 일 때, $\overline{DE}$ 의 길이를 구하여라.

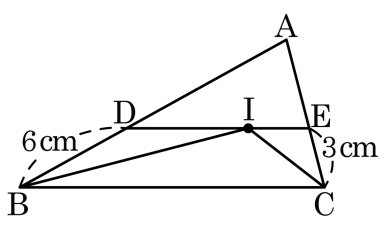

답: _____

25. 다음 그림과 같은 $\triangle ABC$ 의 넓이가 $6cm^2$ 일 때, 내접원의 반지름은?

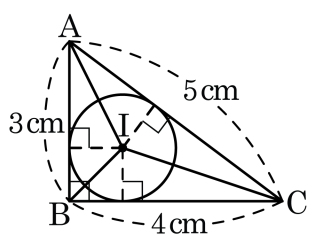

① 1cm ② 2cm ③ 3cm ④ 4cm ⑤ 5cm

26. 다음 그림이 설명하고 있는 것으로 옳은 것은?

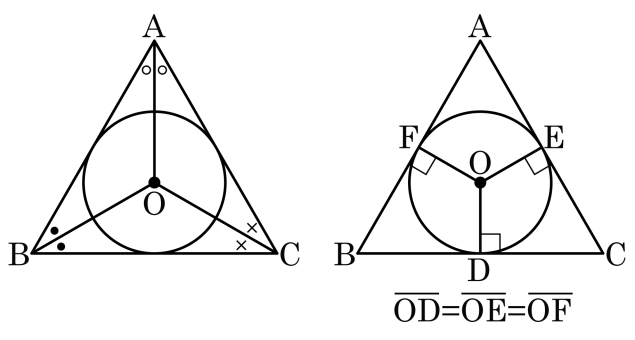

① 외심　　② 내심　　③ 무게중심

④ 방심　　⑤ 수심

27. 그림에서 점 O 가 $\triangle ABC$ 의 외심일 때, $\angle BOC = 138°$ 일때, $\angle A$ 의 크기를 구하여라.

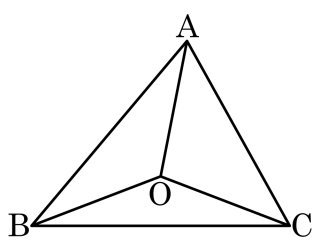

답: _____ °

28. 다음 그림에서 점 O는 직각삼각형 ABC의 외심이다. $\overline{AB} = 16\text{cm}$일 때, x의 길이는?

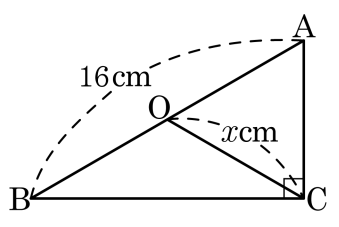

① 4cm ② 6cm ③ 8cm ④ 10cm ⑤ 12cm