1. 오른쪽의 무늬는 왼쪽의 모양을 한 가지 방법으로 움직여서 만든 무늬입니다. 어떻게 움직여서 만든 것입니까?

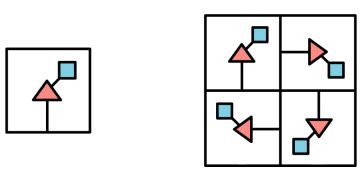

① 밀기 ② 뒤집기 ③ 돌리기

④ 밀고 뒤집기 ⑤ 뒤틀기

2. ☐안에 알맞은 수를 차례대로 써넣은 것은 어느 것입니까?

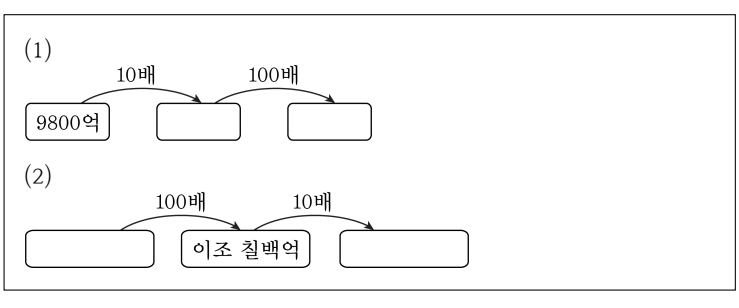

① (1) 9 조 8000 억, 98 조 (2) 이백칠억, 이십조 칠천억

② (1) 9 조 800 억, 98 조 (2) 이천칠백억, 이십조 칠천억

③ (1) 9 조 800 억, 980 조 (2) 이백칠억, 이십조 칠천억

④ (1) 9 조 8000 억, 980 조 (2) 이백칠억, 이십조 칠천억

⑤ (1) 9 조 8000 억, 980 조 (2) 이천칠백억, 이십조 칠천억

3. 다음 수를 큰 수부터 차례로 기호를 쓴 것은 어느 것입니까?

㉠ 43200324263491 ㉡ 392조 4007억 ㉢ 43390425678694 ㉣ 98조 9900 억

① ㉣, ㉡, ㉢, ㉠　② ㉡, ㉢, ㉠, ㉣　③ ㉡, ㉣, ㉢, ㉠
④ ㉠, ㉡, ㉢, ㉣　⑤ ㉠, ㉢, ㉡, ㉣

4. 다음에서 크기 비교가 <u>틀린</u> 것은 어느 것입니까?

㉠ 100 만이 100 > 10 억 5 천
㉡ 100000000 > 9900 만
㉢ 74932761 < 193276540
㉣ 200000000 = 199999999 + 1

① ㉠ ② ㉡ ③ ㉢ ④ ㉣ ⑤ 없다.

5. 계산결과가 바르게 짝지어진 것은 어느 것인지 고르시오.

① 273×36 •	• ㉠ 11430
② 187×54 •	• ㉡ 10098
③ 635×18 •	• ㉢ 9828

① ①-㉠, ②-㉡, ③-㉢
② ①-㉠, ②-㉢, ③-㉡
③ ①-㉡, ②-㉠, ③-㉢
④ ①-㉢, ②-㉠, ③-㉡
⑤ ①-㉢, ②-㉡, ③-㉠

6. 나머지가 큰 것부터 차례로 기호를 맞게 쓴 것은 어느 것입니까?

㉠ $502 \div 60$	㉡ $485 \div 70$
㉢ $168 \div 90$	㉣ $348 \div 50$

① ㉡-㉢-㉣-㉠ ② ㉢-㉡-㉠-㉣ ③ ㉣-㉢-㉡-㉠
④ ㉡-㉣-㉢-㉠ ⑤ ㉢-㉡-㉣-㉠

7. 다음 모양을 돌리기 하여 나올 수 있는 모양이 <u>아닌</u> 것을 모두 고르시오.

①

②

③

④

⑤

8. 다음 수 배열표의 색칠된 칸의 규칙으로 알맞은 것은 어느 것입니까?

907	917	927	937
807	817	827	837
707	717	727	737
607	617	627	637

① 937부터 시작하여 100씩 커집니다.

② 937부터 시작하여 100씩 작아집니다.

③ 937부터 시작하여 110씩 커집니다.

④ 937부터 시작하여 110씩 작아집니다.

⑤ 607부터 시작하여 100씩 커집니다.

9. 계산 결과의 크기를 비교하여 큰 것부터 차례로 기호를 쓴 것은 어느 것입니까?

㉠ 528×50	㉡ 408×80
㉢ 876×30	㉣ 925×20

① ㉠, ㉡, ㉢, ㉣ ② ㉡, ㉢, ㉠, ㉣ ③ ㉡, ㉠, ㉢, ㉣
④ ㉢, ㉡, ㉣, ㉠ ⑤ ㉢, ㉡, ㉠, ㉣

10. 경수네 학교 4 학년 어린이 172 명이 박물관 견학을 가려고 합니다. 어린이 한 명의 입장료가 80 원이라면 이들이 낼 입장료는 모두 얼마인지 구하시오.

답: _____ 원

11. 영진이는 친구들과 함께 장난감 자동차 134 대를 40 대씩 상자에 나누어 담으려고 합니다. 필요한 상자는 몇 개고, 장난감은 몇 개가 남는지 구하시오.

답: _____ 상자

답: _____ 개

12. 미술 시간에 길이가 17 cm 인 철사로 꽃을 한 개 만들 수 있다고 합니다. 700 cm 의 철사에서 15 cm 를 잘라 사용하고 남은 철사로 몇 개의 꽃을 만들 수 있고, 몇 cm 가 남겠는지 차례대로 구하시오.

답: _____ 개

답: _____ cm

13. 어떤 초등학교에서 교내 수학 경시대회에서 상을 탄 학생 수를 학년별로 나타낸 막대그래프입니다.

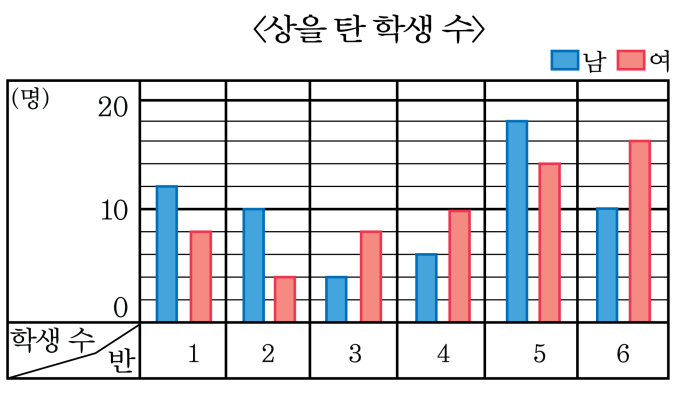

다음은 위 그래프를 알아보기 편리한 점을 설명한 것입니다. <u>잘못</u> 설명한 것은 어느 것입니까?

① 상을 탄 남학생이 가장 많은 학년 알아보기

② 상을 탄 전체 학생 수 알아보기

③ 상을 탄 남학생이 2학년보다 많은 학년 알아보기

④ 상을 탄 학생 수가 가장 적은 학년 알아보기

⑤ 상을 탄 여학생이 많은 학년부터 차례로 알아보기

14. 도형의 배열에서 다섯째에 알맞은 도형은 어느 것입니까?

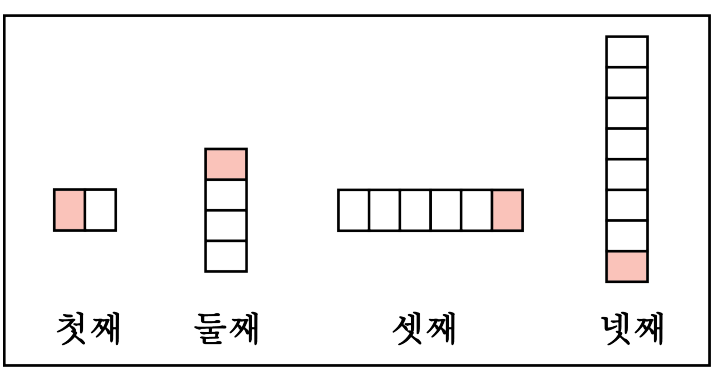

①

②

③

④

⑤

15. 주영이가 저금통에 모은 돈을 세어 보니 10000 원짜리 3 장, 1000 원짜리 $\boxed{}$장, 100 원짜리 동전 47 개, 10 원짜리동전 36 개였습니다. 주영이가 저금통에 모은 돈이 53060 원일 때, $\boxed{}$안에 알맞은 수를 구하시오.

답: _____ 장

16. 시계의 시침과 분침이 이루는 작은 쪽의 각이 예각인 것은 어느 것입니까?

① 1 시 ② 4 시 ③ 5 시 ④ 8 시 ⑤ 9 시

17. 다음 $\square$ 안에 알맞은 각을 쓰시오.

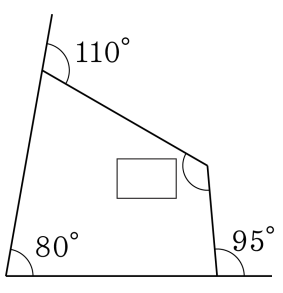

답: _____ °

18. 다음 그림에서 각 ㉠의 크기를 구하시오.

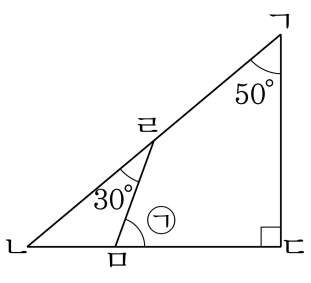

답: _____ °

19. 어떤 수를 29로 나누었더니 몫이 24이고, 나머지가 18이었습니다. 어떤 수를 15로 나누었을 때의 몫과 나머지를 각각 차례대로 구하시오.

답: _____

답: _____

20. 1 에서 9 까지의 숫자를 한 번씩만 써서 만들 수 있는 수 중에서 가장 큰 세 자리 수와 가장 작은 두 자리 수의 곱을 구하시오.

답: _____

21. 다음 도형을 왼쪽으로 2번 뒤집었을 때의 도형을 고르시오.

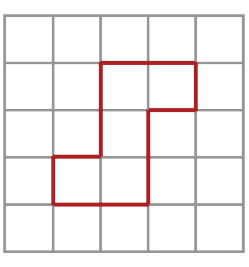

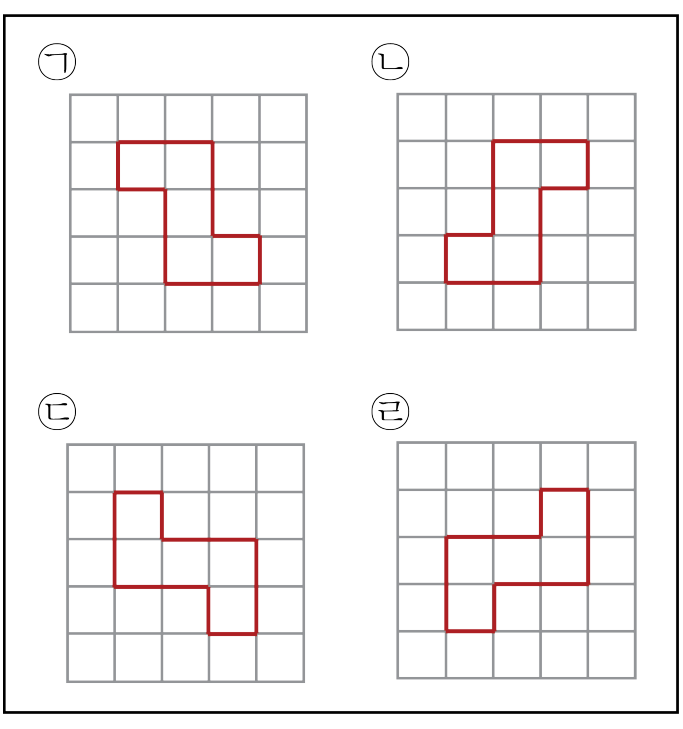

답: _____

22. 도형을 오른쪽으로 뒤집은 다음 다시 아래쪽으로 뒤집었을 때의 모양은 어느 것입니까?

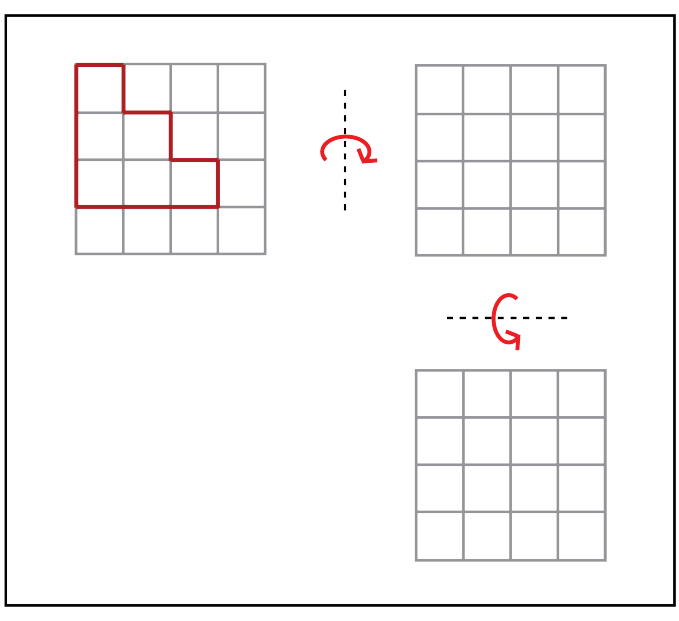

① 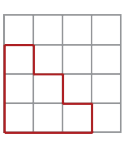

② 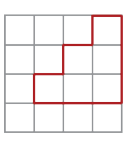

③ 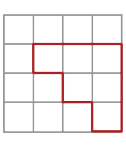

④ 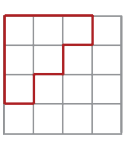

⑤ 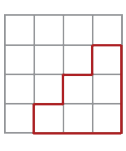

23. 마을별로 기르는 돼지 수를 조사하여 나타낸 표와 막대그래프입니다.

<마을별 돼지 수>

마을	평화	양지	무지개	풀잎	초원	계
돼지 수(마리)	18	36	24	20	32	130

〈마을별 돼지 수〉

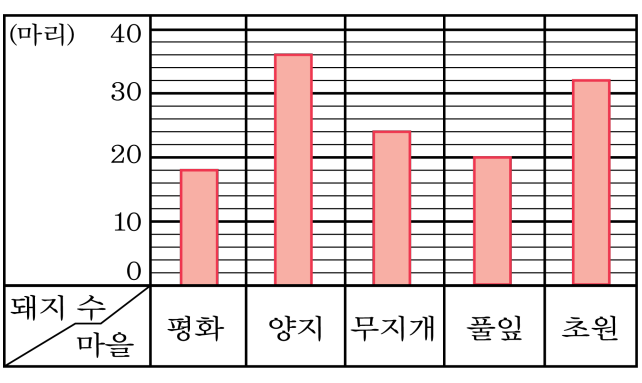

다음 중 설명이 틀린 것은 어느 것입니까?

① 양지마을에서 기르는 돼지 수가 가장 많습니다.

② 풀잎마을에서 기르는 돼지 수는 초원마을에서 기르는 돼지수보다 12마리 적습니다.

③ 막대그래프의 세로 눈금 1칸은 1마리를 나타냅니다.

④ 수의 많고 적음을 비교하기 쉬운 것은 표 보다는 막대그래프입니다.

⑤ 막대그래프의 가로는 마을을, 세로는 돼지수를 나타냅니다.

24. $\boxed{}$ 안에 알맞은 각도를 쓰시오.

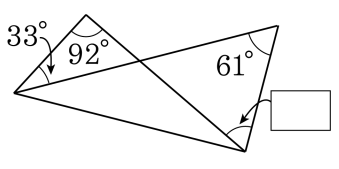

답: _____ °

25. 주미네 반 학생들이 좋아하는 주스를 조사하여 나타낸 표와 막대그래프입니다.

<좋아하는 주스>

주스	사과	딸기	오렌지	포도	계
학생 수(명)	㉠	9	㉡	㉢	25

〈좋아하는 주스〉

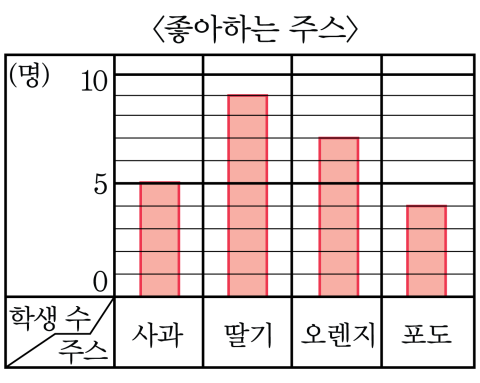

표와 그래프를 비교하여 ㉠ + ㉡ − ㉢의 값을 구하시오.

답: _____