1. 두 함수 $(a^2-3a+2)y^2+2y-4x^2-1=0$과 $y=(2a^2-8)x^2-3x+1$이 모두 y가 x에 관한 이차함수가 되도록 상수 a의 값을 정하여라.

답: _____

2. 이차함수 $f(x) = x^2 - 2x - 3$ 에 대하여 다음 중 옳은 것은?

① $f(0) = 0$ ② $f(-1) = 0$ ③ $f(1) = 2$
④ $f(2) = 3$ ⑤ $f(-2) = 7$

3. 다음 그림은 일차함수 $y = ax + b$ 의 그래프이다. 다음 중 이차함수 $y = ax^2 + b$ 의 그래프는?

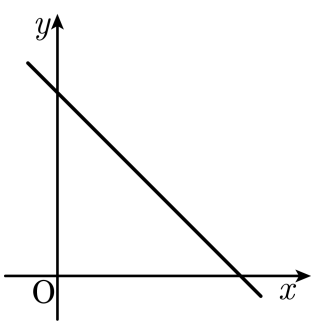

①
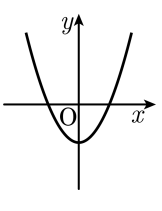

②
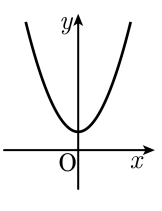

③
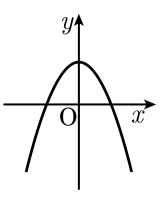

④
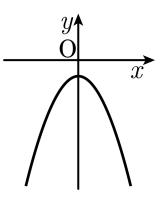

⑤
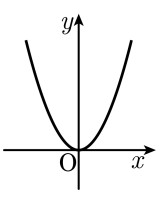

4. 이차함수 $y = ax^2$ 의 그래프가 두 점 $(4,\ 8)$, $\left(b,\ \frac{9}{2}\right)$ 를 지난다. 이 함수와 x 축 대칭인 이차함수가 $(b,\ c)$ 를 지날 때, c 의 값은?(단, $b < 0$)

① -2 ② $-\frac{5}{2}$ ③ 3 ④ $\frac{7}{2}$ ⑤ $-\frac{9}{2}$

5. 다음 포물선을 폭이 좁은 것부터 차례로 쓴 것을 고르면?

㉠ $y = x^2$	㉡ $y = 4x^2$
㉢ $y = \frac{3}{2}x^2$	㉣ $y = \frac{1}{4}x^2$

① ㉠-㉡-㉢-㉣　② ㉡-㉣-㉠-㉢　③ ㉡-㉢-㉠-㉣
④ ㉢-㉠-㉣-㉡　⑤ ㉣-㉡-㉢-㉠

6. 포물선 $y = x^2$과 직선 $y = 2x + 3$의 교점을 A, B라하고, 원점을 O라 한다. 점 P가 원점을 출발하여 포물선을 따라 B까지 움직일 때, $\triangle$APB의 넓이와 $\triangle$OAB의 넓이가 같게 되는 점 P의 좌표는?

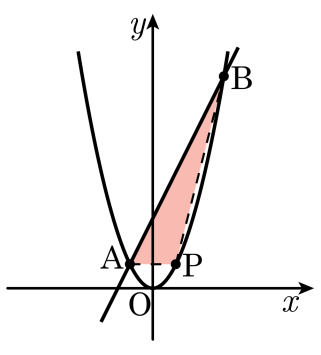

① $(1, 1)$ ② $(1, 2)$ ③ $(2, 1)$ ④ $(2, 4)$ ⑤ $(3, 2)$

7. 함수 $y=-x^2$ 의 그래프를 y 축 방향으로 4 만큼 평행이동하고, $y=\frac{1}{4}x^2$ 의 그래프를 y 축 방향으로 -1 만큼 평행이동한 그림을 나타낸 것이다. 이 때 다음 설명 중 옳은 것의 개수는?

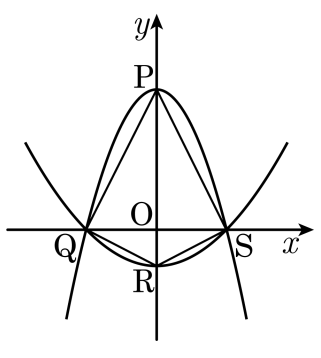

㉠ 점 $\mathrm{P}(0,4)$ 이고, 점 $\mathrm{R}(0,-1)$ 이다.

㉡ 점 $\mathrm{Q}(2,0)$ 이고, 점 $\mathrm{S}(-2,0)$ 이다.

㉢ $\overline{\mathrm{QS}}=8$ 이다.

㉣ $\triangle\mathrm{PRS}=5,\ \triangle\mathrm{QPR}=8$ 이다.

㉤ $\square\mathrm{PQRS}=12$ 이다.

① 1 개 ② 2 개 ③ 3 개 ④ 4 개 ⑤ 5 개

8. 이차함수 $y = \frac{1}{4}x^2$ 의 그래프를 꼭짓점의 좌표가 $(-1,\ 0)$ 이 되도록 평행이동하면 점 $(k,\ 4)$를 지난다. 이 때, 상수 k 의 값을 모두 구하여라.

답: _____

답: _____

9. 이차함수 $y = 3x^2$ 의 그래프를 x 축의 방향으로 5 만큼, y 축의 방향으로 -6 만큼 평행이동하면 점 $(6,\ k)$ 을 지난다고 할 때, k 의 값은?

① 1 ② -1 ③ 3 ④ -3 ⑤ 5

10. 이차함수 $y = x^2 - ax + b$ 의 꼭짓점이 x 축 위에 있을 때, $\frac{a^2}{b}$ 의 값을 구하여라.

답: _____

11. 이차함수 $y = -x^2$ 의 그래프를 x 축의 방향으로 4 만큼 평행이동한 그래프에서 x 의 값이 증가할 때 y 의 값도 증가하는 x 의 값의 범위는?

① $x > -4$ ② $x < -4$ ③ $x < 4$

④ $x > 4$ ⑤ $x > -5$

12. 이차함수 $y = 2(x+1)^2 - 3$ 의 그래프를 y 축에 대하여 대칭이동하면 점 $(4,\ k)$ 를 지난다. 이 때, k 의 값을 구하여라.

답: _____

13. 일차함수 $y = ax + b$ 의 그래프가 다음 그림과 같을 때, 다음 중 이차함수 $y = ax^2 + b$ 의 그래프의 개형은?

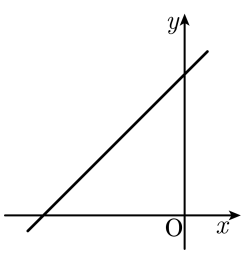

①
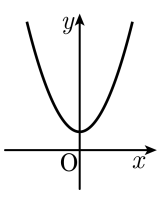

②
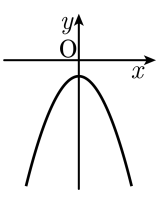

③
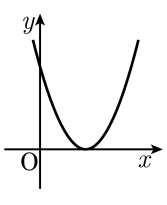

④
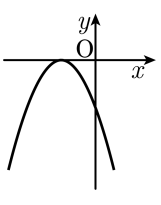

⑤
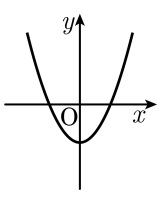

14. 좌표평면 위의 $-\frac{1}{2} \le x \le \frac{7}{2}, -\frac{7}{2} \le y \le \frac{1}{2}$ 의 영역에서 x, y 좌표가 모두 정수인 점 중 원점을 포함한 4개의 점을 지나는 서로 다른 이차함수의 그래프는 몇 개인지 구하여라.

답: _____ 개

15. 두 이차함수 $y=-3x^2+6x+5$, $y=-3x^2+12x-4$ 의 그래프가 $y=p$ 와 만나는 두 점을 각각 A, B 와 C, D 라 하고 y 축과 만나는 점을 각각 E, F, 직선 $x=q$ 와 만나는 점을 각각 G, H 라 할 때, $\frac{\overline{AB}}{\overline{CD}}+\frac{\overline{EF}}{\overline{GH}}$ 의 값을 구하여라. (단, $p<0$)

답: _____

16. 다음 그래프는 $y = 2x^2$ 의 그래프를 평행이동한 것이다. 이 그래프의 함수식은 무엇인가?

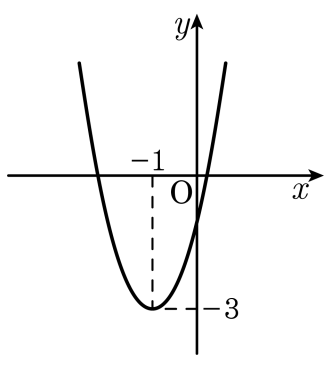

① $y = 2(x+1)^2 - 3$　　② $y = 2(x-1)^2 - 3$

③ $y = -2(x+1)^2 - 3$　　④ $y = 2(x+1)^2 + 3$

⑤ $y = 2(x-1)^2 + 3$

17. 다음 이차함수의 그래프 중 4 번째로 폭이 좁은 것은?

① $y = -(x-2)^2$

② $y = \dfrac{2x(x-1)(x+1)}{x-1}$

③ $y = \dfrac{1}{3}x^2 + \dfrac{1}{3}$

④ $y = -3x^2 + x$

⑤ $y = -\dfrac{5}{2}x^2$

18. 이차함수 $y = x^2 + px + 4$ 의 그래프가 점 $(1, 6)$ 을 지난다. 이 그래프에서 x 의 값이 증가할 때 y의 값이 증가하는 범위가 될 수 있는 것은?

① $x < 1$ ② $x < -1$ ③ $x > \frac{1}{2}$
④ $x > -\frac{1}{2}$ ⑤ $x > 2$

19. 이차함수 $y = -x^2 - 2x + p$ 의 그래프에서 x축과의 두 교점을 A, B라 하자. $\overline{\mathrm{AB}} = 4$ 일 때, 꼭짓점의 x 좌표는?

① -1 ② -2 ③ -3 ④ -4 ⑤ -5

20. 이차함수 $y = 2x^2 + 4x - k$ 의 그래프가 x 축과 서로 다른 두 점에서 만나기 위한 상수 k 의 값의 범위는?

① $k > -2$ ② $k > -1$ ③ $k < -2$
④ $k < -1$ ⑤ $k > 0$

21. 다음 이차함수 $y = x^2 + 2x - 8$의 그래프에서 x축과의 교점을 각각 A, B라 하고 꼭짓점의 좌표를 C, y축과의 교점을 D라 할 때 □ABDC의 넓이를 구하여라.

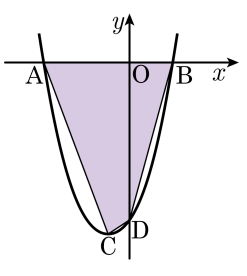

답: _____

22. 이차함수 $y = -x^2 + 4x$ 의 그래프가 아래 그림과 같을 때, $\triangle AOB : \triangle OBC = 4 : 5$ 가 되는 점 C 의 좌표는? (단, 점 A 는 꼭짓점, 점 B 는 포물선과 x 축과의 교점, 점 C 는 포물선 위에 있는 4 사분면의 점이다.)

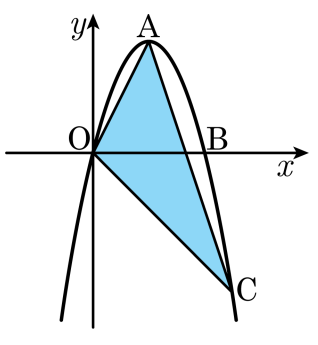

① (5, −5)　② (4, −3)　③ (6, −2)
④ (2, −8)　⑤ (3, −4)

23. 이차함수 $y = 2x^2 - 12x + 10$ 의 그래프에 대한 다음 설명 중 옳은 것을 두 개 고르면?

① y 절편은 10 이다.

② $x > 3$ 일 때, x 의 값이 증가하면 y 의 값은 감소한다.

③ x 축과 만나는 점의 좌표가 $(1,\ 0)$, $(5,\ 0)$ 이다.

④ 축의 방정식은 $y = 3$ 이다.

⑤ 그래프는 위로 볼록한 포물선이다.

24. 일차함수 $y = ax + b$ 의 그래프가 다음 그림과 같을 때, 이차함수 $y = x^2 + ax + b$ 의 그래프가 될 수 있는 것은?

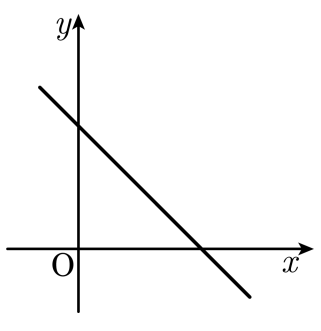

①
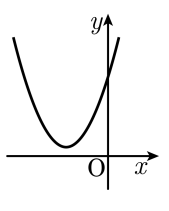

②
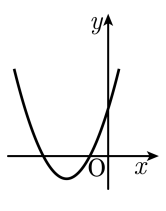

③
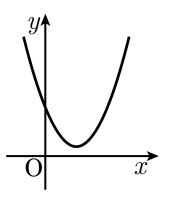

④
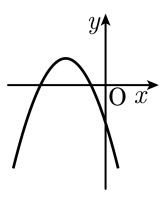

⑤
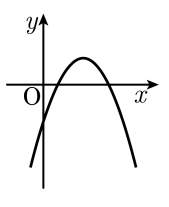

25.

직사각형의 넓이를 구하려고 합니다. □ 안에 알맞은 수를 써넣으시오.

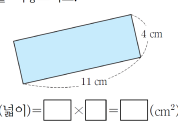

(넓이)= □ × □ = □ (cm^2)

답: _____