1. 두 정수의 합이 18 이고, 차가 30 일 때, 이 중 작은 수는?

① 6 ② 3 ③ 0 ④ −3 ⑤ −6

2. 일차방정식 $5x-2y+k=0$ 의 그래프 위에 점 $(1,6)$ 이 있을 때, 상수 k 의 값은?

① 3 ② 4 ③ 6 ④ 7 ⑤ 9

3. 점 $(4,\ -3)$ 을 지나고, y 축에 수직인 직선의 방정식은?

① $y=1$ ② $x=-3$ ③ $x=4$
④ $y=-3$ ⑤ $y=4$

4. 한 개에 500 원인 키위와 30 원짜리 비닐봉투 2 개를 구입하려고 한다. 총 가격이 1500 원 이하가 되게 하려면 키위를 최대 몇 개까지 살 수 있는지 구하면?

① 1 개 ② 2 개 ③ 3 개 ④ 4 개 ⑤ 5 개

5. 은서는 책이 가득 든 상자들을 엘리베이터를 이용해서 1 층에서 5 층까지 옮기려고 한다. 상자 한 개의 무게는 10kg 이고, 은서의 무게는 60kg 이다. 이 엘리베이터에 최대 200kg 까지 실을 수 있다면, 한 번에 실을 수 있는 상자의 최대 개수는?

① 13 개 ② 14 개 ③ 15 개 ④ 16 개 ⑤ 18 개

6. 현재 통장에 희진이는 4000 원, 문희는 7000 원이 예금되어 있다. 다음 달부터 희진이는 매월 1000 원씩, 문희는 500 원씩 예금한다면 희진이의 예금액이 문희의 예금액보다 많아지는 것은 몇 개월 후부터인가?

① 4 개월 ② 5 개월 ③ 6 개월
④ 7 개월 ⑤ 8 개월

7. 우진이는 3 명의 친구들과 함께 분식점에 가서 한 턱 쏘기로 했다. 1 인분에 1000 원짜리 김밥과 1 인분에 1500 원짜리 떡볶이 중에서 각자 한 종류씩 주문하고 4500 원을 냈다고 한다면 김밥과 떡볶이를 각각 몇 인분씩 시켰는가?

① 김밥 1 인분, 떡볶이 3 인분

② 김밥 3 인분, 떡볶이 1 인분

③ 김밥 2 인분, 떡볶이 2 인분

④ 김밥 3 인분, 떡볶이 2 인분

⑤ 김밥 2 인분, 떡볶이 3 인분

8. 3% 의 소금물과 8% 의 소금물을 섞어 6% 의 소금물 400g 을 만들려고 한다. 3% 의 소금물과 8% 의 소금물을 각각 몇 g 씩 넣어야 하는가?

① 3% 소금물 160g , 8% 소금물 240g

② 3% 소금물 150g , 8% 소금물 250 g

③ 3% 소금물 130g , 8% 소금물 270g

④ 3% 소금물 100g , 8% 소금물 300g

⑤ 3% 소금물 120g , 8% 소금물 280g

9. 한 송이에 300 원하는 장미 x 송이와 한 송이에 200 원하는 튤립 y 송이를 합하여 2000 원어치 샀다. 이 관계를 x, y 에 관한 식으로 나타내면?

① $3x - 2y - 20 = 0$
② $3x - 2y + 20 = 0$
③ $2x + 3y - 20 = 0$
④ $3x + 2y - 20 = 0$
⑤ $2x - 3y + 20 = 0$

10. 다음 중 일차방정식 $2x-3y=5$ 의 그래프 위의 점이 <u>아닌</u> 것은?

① $\left(2, -\frac{1}{3}\right)$ ② $\left(-1, -\frac{7}{3}\right)$ ③ $\left(0, -\frac{5}{3}\right)$
④ $(-2, -3)$ ⑤ $\left(1, -\frac{4}{3}\right)$

11. 두 직선 $2x - y + 3 = 0$, $3x - 4y - 5 = 0$의 교점은 제 몇 사분면에 있는가?

① 제1사분면 ② 제2사분면

③ 제3사분면 ④ 제4사분면

⑤ 교점이 존재하지 않는다.

12. A, B 두 음악 다운로드 사이트 한 달 사용요금이 다음과 같을 때, A 사이트를 선택하는 것이 유리하려면 몇 곡 이상의 음악을 다운로드 받아야 하나?

	기본요금	추가요금
A	12,000원	없음
B	3,500원 (10곡 무료 다운로드)	한 곡에 500원 (10곡 초과 시)

① 24곡 이상 ② 25곡 이상 ③ 26곡 이상
④ 27곡 이상 ⑤ 28곡 이상

13. A 마을에서 14km 떨어진 B 마을로 가는데, 처음에는 시속 5km 로 걷다가 도중에 시속 4km 로 걸어서 B 마을에 도착하였다. 9 시에 출발하여 12 시 이내에 도착하였다면 시속 5km 로 걸은 거리는 몇 km 인가?

① 9km 이하 ② 9km 이상 ③ 10km 이하
④ 10km 이상 ⑤ 10km

14. A 중학교에 다니는 혜교는 등교할 때 미술 준비물을 준비하지 못했다. 미술 준비물을 사기 위해 점심 시간 1시간을 이용하여 시속 2km로 걸어서 문방구에서 준비하려고 한다. 미술 준비물을 사는데 20분이 걸린다면 학교에서 몇 km 이내의 문방구를 이용하면 되는가?

① $\frac{1}{2}$km 이내 ② $\frac{1}{3}$km 이내 ③ $\frac{2}{3}$km 이내
④ $\frac{1}{4}$km 이내 ⑤ $\frac{3}{4}$km 이내

15. A, B 두 사람이 가위바위보를 하여 이긴 사람은 3 계단씩 올라가고, 진 사람은 1 계단씩 내려가기로 하였다. A 는 처음보다 10 계단을, B 는 2 계단을 올라갔을 때, A 가 이긴 횟수는? (단, 비기는 경우는 없다.)

① 1번 ② 2번 ③ 3번 ④ 4번 ⑤ 5번

16. 갑과 을은 24km 떨어진 두 지점 A , B 에서 각각 동시에 출발하여 갑은 B 로 향하고 을은 A 로 향하고 있다. 다음 그림은 두 사람이 출발한 지 x 시간 후에 각각 A 지점으로부터 $y$km 떨어진 곳에 있음을 나타낸 그래프이다. 두 사람이 만난 시각과 그때의 위치를 구하면?

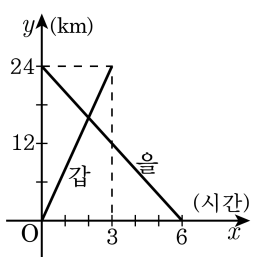

① 1 시간 후 , 8km
② 2 시간 후 , 8km
③ 2 시간 후 , 16km
④ 3 시간 후 , 18km
⑤ 4 시간 후 , 20km

17. 다음 그림에서 △ABM 과 △CDM 의 넓이는 같고 점 M 의 좌표를 $(a,\ 0)$ 이라 할 때 $3a$ 의 값을 구하면?

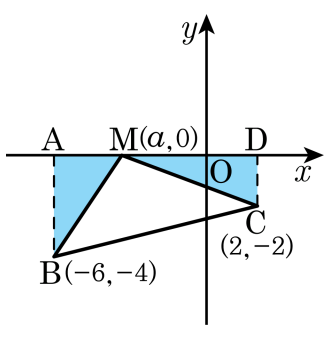

① -3　② -6　③ -9　④ -10　⑤ -11

18. 미지수가 2 개인 일차방정식 $3x + 4y = 12$ 의 그래프가 좌표평면에서 지나지 <u>않는</u> 사분면을 구하면?

① 제1 사분면 ② 제2 사분면 ③ 제3 사분면
④ 제4 사분면 ⑤ 제1, 3 사분면

19. 일차방정식 $3x+y=8$ 의 그래프가 지나지 <u>않는</u> 사분면은 어디인가?

① 제1사분면 ② 제2사분면 ③ 제3사분면
④ 제3 , 4사분면 ⑤ 제2 , 4사분면

20. 다음 그래프는 어떤 일차방정식을 나타낸 것인가?

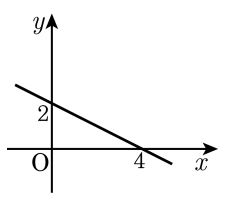

① $x+y=1$　　② $x+y=4$

③ $x+2y=4$　　④ $2x+y=2$

⑤ $x-y=-2$

21. 직선 $(a+2)x+y-a-1=0$이 제 1 사분면을 지나지 않도록 하는 a의 값의 범위를 구하면?

① $-2<a<-1$ ② $-3<a<-2$ ③ $-4<a<-3$
④ $0<a<2$ ⑤ $1<a<3$

22. 연립방정식 $\begin{cases} x-2y=4 \\ 2x+y=3 \end{cases}$ 의 교점을 지나고 x 축에 평행한 직선의 방정식을 구하면?

① $y=-1$ ② $x=-1$ ③ $y=2$
④ $x=2$ ⑤ $x=4$

23. 연립방정식

$$\begin{cases} ax + y = 2 \\ 6x - 2y = b \end{cases}$$ 의 해가 무수히 많을 때, $a - b$의 값을 구하면?

① -7 ② -5 ③ -3 ④ 1 ⑤ 3

24. 다음 그림에서 일차함수 $y = ax$의 직선이 $\triangle$ABC와 교차할 때, a의 값의 범위는?

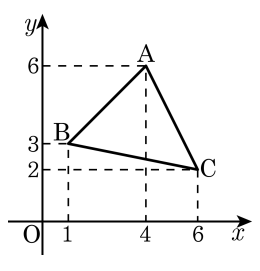

① $\frac{1}{2} \le a \le 2$　② $\frac{1}{3} \le a \le \frac{3}{2}$　③ $\frac{3}{2} \le a \le 3$
④ $\frac{1}{3} \le a \le 3$　⑤ $\frac{1}{3} \le a \le 2$

25. 네 직선 $x=2, x=m, y=2, y=n$ 의 그래프로 둘러싸인 □ABCD 의 넓이가 54 이고 $\overline{AB} : \overline{AD} = 2 : 3$ 일 때, 양의 상수 m, n 의 곱 mn 의 값은?

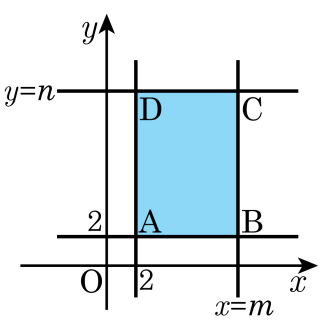

① 22 ② 44 ③ 66 ④ 88 ⑤ 100