1. 그림을 보고 전체에 대한 색칠한 부분의 비를 구하시오.(간단한 비로 나타내시오.)

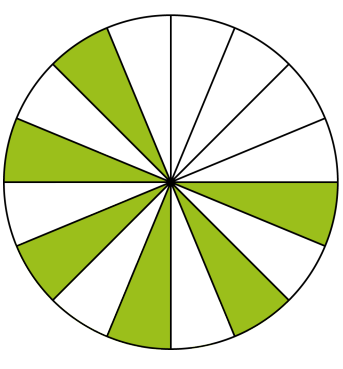

답: _____

2. 다음 보기 중 비교하는 양만 묶은 것을 고르시오.

보기

(1) 학급 문고 수에 대한 동화책 수의 비

(2) (축구공 수) : (야구공 수)

(3) 감자 수의 고구마 수에 대한 비

① 동화책 수, 야구공 수, 고구마 수

② 학급 문고 수, 축구공 수, 고구마 수

③ 동화책 수, 축구공 수, 감자 수

④ 학급문고 수, 야구공 수, 감자 수

⑤ 동화책 수, 축구공 수, 고구마 수

3. 백분율을 소수로 나타내시오.

55 %

답: _____

4. 비 3 : 5를 여러 가지 방법으로 읽은 것 중 옳지 <u>않은</u> 것은 어느 것입니까?

① 3대 5
② 3과 5의 비
③ 3의 5에 대한 비
④ 5에 대한 3의 비
⑤ 5의 3에 대한 비

5. 비의 값을 분수와 소수로 나타내어 차례대로 쓰시오.

10에 대한 3의 비

답: _____

답: _____

6. 다음을 비로 나타내고, 비의 값을 소수로 나타낸 것을 쓰시오.

초콜렛 10개에 대한 사탕 4개의 비

답: _____

답: _____

7. 5 : 9 에 대한 설명이 바르게 된 것은 어느 것입니까?

① 5에 대한 9의 비
② 9와 5의비
③ 9대 5
④ $\frac{9}{5}$
⑤ $\frac{5}{9}$

8. 다음 비의 값을 구하시오.

16 : 6

답: _____

9. 두 수의 크기를 비교하여 □ 안에 알맞게 >, =, <를 써넣으시오.

100.9 % □ 1.019

답: _____

10. 두 비율의 크기를 비교하여 ○ 안에 >, =, <를 알맞게 써넣으시오.

357 %○ 3.507

답: _____

11. 다음 중 같은 것끼리 바르게 연결 된 것은 어느 것입니까?

① $3:5 \Rightarrow$ 5와 3의 비
② $6:7 \Rightarrow \frac{7}{6}$
③ 5의 대한 3의 비$\Rightarrow \frac{5}{3}$
④ $\frac{7}{10} \Rightarrow 7:10$
⑤ 2 대 3$\Rightarrow$ 2에 대한 3의 비

12. 관계 있는 것끼리 알맞게 이어진 것을 고르시오.

1. 4 대 16	㉠ $\frac{6}{25}$
2. 12 : 50	㉡ 0.25
3. 7 과 8 의 비	㉢ 0.875

① 1-㉡ ② 2-㉡ ③ 3-㉡ ④ 3-㉠ ⑤ 2-㉢

13. 4 에 대한 6 의 비율이 될 수 <u>없는</u> 것은 어느 것입니까?

① $\frac{6}{4}$ ② $\frac{4}{3}$ ③ $\frac{3}{2}$
④ 1.5 ⑤ 150 %

14. 효원이네 학교 6학년 학생들의 45 %인 144명이 컴퓨터 학원에 다니고 있습니다. 효원이네 학교 6학년 학생은 몇 명인지 구하시오.

① 310명 ② 320명 ③ 330명
④ 350명 ⑤ 400명

15. 다음 직사각형의 넓이에 대한 삼각형의 넓이의 비를 가장 간단한 자연수의 비로 나타내시오.

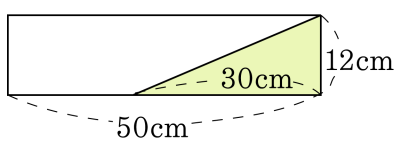

답: _____

16. 다음 직사각형을 보고, ㉮와 ㉯의 넓이의 비를 구하시오.

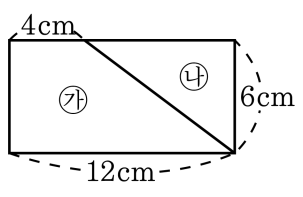

답: _____

17. 아름이네 반 전체 학생 수는 35 명이고, 그 중에서 안경을 끼는 학생이 13 명입니다. 아름이네 반의 안경을 끼지 않는 학생 수에 대한 안경 낀 학생 수의 비는 얼마입니까?

답: _____

18. 어느 수목원에는 나무와 식물 중 식물은 35 %를 차지하며, 나무의 50 %는 침엽수가 차지하고 있습니다. 침엽수를 이루고 있는 것 중 주목은 전체의 몇 %입니까?

소나무 (40 %)
잣나무 (25 %)
향나무 (15 %)
주목 (12 %)
화백나무 (8 %)

답: _____ %

19. 어느 장난감 가게에서 3000 원에 산 상품을 20 % 의 이익을 붙여 팔려고 합니다. 정가를 얼마로 해야 합니까?

답: _____ 원