1. 다음 그림과 같은 직각삼각형 ABC 에서 옳지 <u>않은</u> 것은 ?

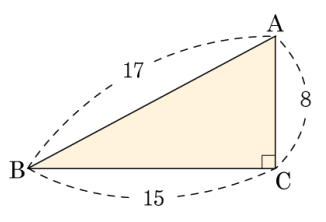

① $\sin A = \frac{15}{17}$

② $\tan A = \frac{15}{8}$

③ $\sin A + \cos A = \frac{23}{17}$

④ $\sin B = \frac{8}{15}$

⑤ $\tan B = \frac{8}{15}$

2. 다음 그림과 같은 직각삼각형 ABC 에서 $\tan A = \frac{4}{3}$ 이고, $\overline{AB}$ 가 9cm 일 때, $\overline{BC}$ 의 길이를 구하여라.

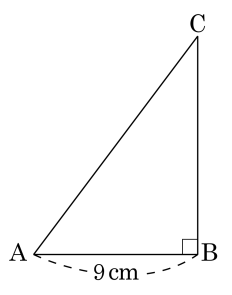

답: _____ cm

3. 다음 그림과 같이 $\angle B = 90°$ 인 직각삼각형 ABC 에서 $\overline{AB} = 12$, $\tan A = \frac{3}{4}$ 일 때, $\cos A + \cos C$ 의 값은?

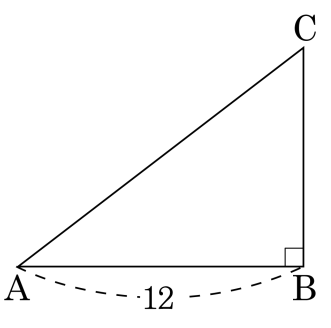

① $\frac{5}{12}$ ② $\frac{7}{12}$ ③ $\frac{3}{5}$ ④ $\frac{4}{5}$ ⑤ $\frac{7}{5}$

4. $2\sin 60° \times \tan 45° \times \cos 30° + \frac{1}{2}$ 의 값을 구하여라.

답: _____

5. 다음 그림과 같이 반지름의 길이가 1 인 사분원에 대하여 $\angle\mathrm{DAB} = x$, $\angle\mathrm{ADB} = y$, $\angle\mathrm{DEC} = z$ 라 할 때, 다음 중 옳지 <u>않은</u> 것은?

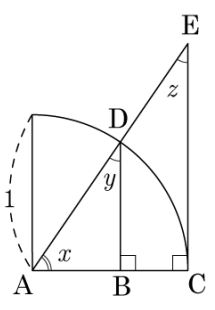

① $\sin y = \sin z$　　② $\tan y = \tan z$

③ $\tan x = \overline{\mathrm{CE}}$　　④ $\cos z = \sin x$

⑤ $\cos z = 1$

6. 다음 삼각비 중 가장 큰 것은?

① $\tan 45°$ ② $\sin 40°$ ③ $\sin 45°$
④ $\cos 30°$ ⑤ $\cos 40°$

7. 이차방정식 $x^2 - 3 = 0$ 을 만족하는 x 의 값이 $\tan A$ 의 값과 같을 때, $\sin A \cos A$ 의 값은? (단, $0° < A < 90°$)

① $\frac{1}{2}$ ② $\frac{\sqrt{3}}{2}$ ③ $\frac{1}{4}$ ④ $\frac{\sqrt{3}}{4}$ ⑤ $\frac{3\sqrt{3}}{4}$

8. 다음과 같은 직각삼각형 $\triangle ABC$ 에서 $\overline{AB} = 8$, $\overline{BC} = 4$ 일 때, $\sin A - \tan A$ 의 값은?

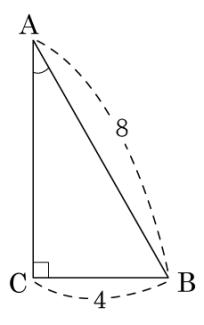

① $\dfrac{1-\sqrt{3}}{6}$ ② $\dfrac{2-\sqrt{3}}{6}$

③ $\dfrac{2-2\sqrt{2}}{6}$ ④ $\dfrac{3-2\sqrt{2}}{6}$

⑤ $\dfrac{3-2\sqrt{3}}{6}$

9. 다음과 같이 $\angle C = 90°$ 인 직각삼각형 ABC 에서 $\tan A \times \sin A$ 의 값은?

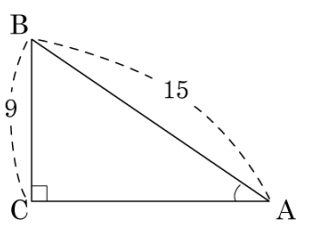

① $\frac{1}{20}$ ② $\frac{5}{20}$ ③ $\frac{9}{20}$
④ $\frac{2}{3}$ ⑤ 2

10. 다음 그림과 같은 $\triangle ABC$ 에서 $\sin x \times \cos x \times \tan x$ 의 값을 구하여라.

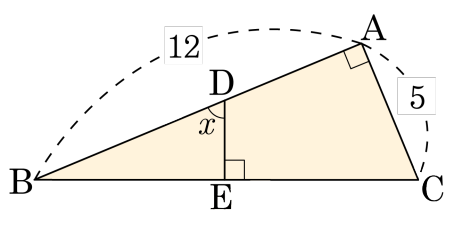

답: _____

11. 다음 중 계산이 옳은 것을 <u>모두</u> 고르면? (정답 2개)

① $\sin^2 30° + \cos^2 45° = \frac{3}{2}$

② $\sin 0° \times \cos 30° + \cos 60° \times \tan 45° = 1$

③ $\cos 0° \times \sin 90° - \tan 45° \times \cos 60° = \frac{1}{2}$

④ $\sin 60° \times \sin 0° + \cos 30° \times \cos 0° = 1$

⑤ $\sin 90° \times \cos 60° - \cos 90° \times \tan 60° = \frac{1}{2}$

12. $\sin 45° \times \frac{1}{\tan 60°} - \tan^2 60° \times \frac{\tan 45°}{\cos 60°}$ 를 구하면?

① $\frac{\sqrt{6}}{6} - 4$ ② $\frac{\sqrt{6}}{6} - 5$ ③ $\frac{\sqrt{6}}{6} - 6$
④ $\frac{\sqrt{6}}{6} - 7$ ⑤ $\frac{\sqrt{6}}{6} - 8$

13. 다음 그림에서 x 의 값은?

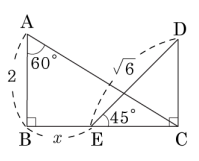

① $\sqrt{2}$ ② $\sqrt{3}$ ③ 2 ④ $2\sqrt{2}$ ⑤ $2\sqrt{3}$

14. 다음 그림에서 $\tan x$의 값과 x를 구하여라.

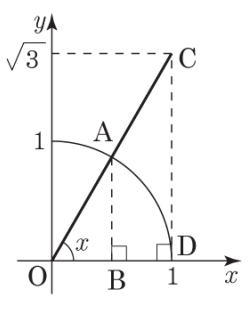

답: $\tan x =$ _____

답: $x =$ _____ °

15. $x = 30°$라고 할 때, $\sin x$, $\cos x$, $\tan x$의 대소를 비교한 것은?

① $\sin x < \cos x < \tan x$
② $\cos x < \tan x < \sin x$
③ $\sin x < \tan x < \cos x$
④ $\sin x < \cos x = \tan x$
⑤ $\tan x = \sin x < \cos x$

16. 삼각비의 표를 보고 다음을 만족하는 $x \div y + z$ 의 값은?

각도	sin	cos	tan
10°	0.1736	0.9848	0.1763
20°	0.3420	0.9397	0.3640
35°	0.5736	0.8192	0.7002
45°	0.7071	0.7071	1.0000
50°	0.7660	0.6428	1.1918
70°	0.9397	0.3420	2.7475
89°	0.9998	0.0175	57.2900

$\sin x = 0.9397$
$\tan y = 0.7002$
$\cos z = 0.9848$

① 3 ② 5 ③ 6 ④ 10 ⑤ 12

17. 다음 그림의 △ABC 에서 삼각비의 표를 보고, △ABC 의 둘레의 길이를 구하면?

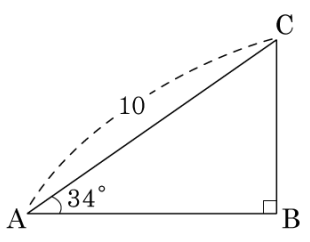

각도	sin	cos	tan
54°	0.8090	0.5878	1.3764
55°	0.8192	0.5736	1.4281
56°	0.8290	0.5592	1.4826

① 5.592 ② 8.29 ③ 13.882
④ 23.882 ⑤ 29.107

18. 다음 그림에서 $\sin x + \cos y$ 의 값은?

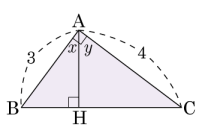

① $\frac{5}{2}$ ② $\frac{7}{3}$ ③ $\frac{3}{2}$ ④ $\frac{5}{6}$ ⑤ $\frac{6}{5}$

19. $0° \le A \le 45°$ 일 때, $\sqrt{(\cos A - \sin A)^2} - \sqrt{(\sin A - \cos A)^2}$ 을 간단히 하여라.

답: _____

20. 다음 그림과 같이 반지름의 길이가 1 인 사분원에서 $\overline{OC} = 0.59$ 일 때, $\overline{CD}$ 의 길이를 구하면?

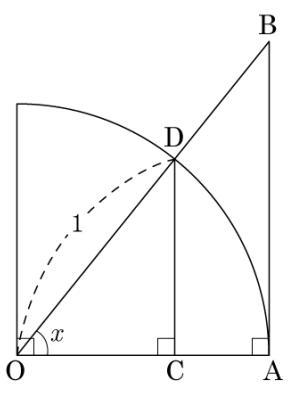

각도	사인	코사인	탄젠트
53°	0.80	0.60	1.33
54°	0.81	0.59	1.38
55°	0.82	0.57	1.43
56°	0.83	0.56	1.48

① 0.57 ② 1.38 ③ 0.59 ④ 0.82 ⑤ 0.81