1. 다음을 숫자로 쓸 때 숫자 0은 몇 번 쓰입니까?

삼천오십억 칠백만 오백구

답: _____ 번

2. 다음을 숫자로 나타낼 때, 0의 개수는 모두 몇 개입니까?

597조 654억 8020만

답: _____ 개

3. ☐안에 알맞은 수를 차례대로 쓴 것은 어느 것입니까?

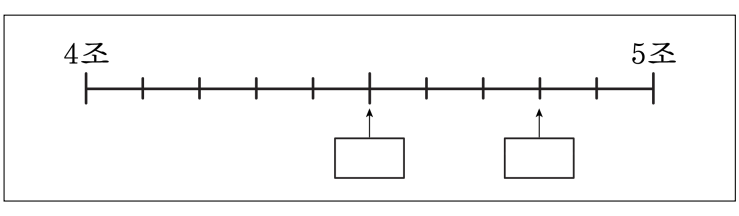

① 4조 5천억, 4조 8천억
② 4조 5천억, 4조 9천억
③ 4조 6천억, 4조 9천억
④ 4조 4천억, 4조 7천억
⑤ 4조 6천억, 4조 8천억

4. ☐안에 알맞은 수를 차례대로 써넣은 것은 어느 것입니까?

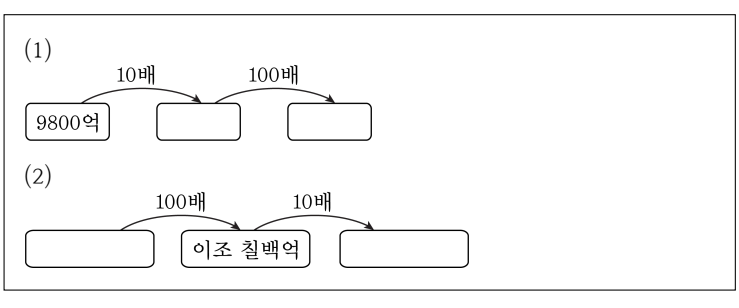

① (1) 9 조 8000 억, 98 조 (2) 이백칠억, 이십조 칠천억

② (1) 9 조 800 억, 98 조 (2) 이천칠백억, 이십조 칠천억

③ (1) 9 조 800 억, 980 조 (2) 이백칠억, 이십조 칠천억

④ (1) 9 조 8000 억, 980 조 (2) 이백칠억, 이십조 칠천억

⑤ (1) 9 조 8000 억, 980 조 (2) 이천칠백억, 이십조 칠천억

5. $\square$안에 알맞은 각도를 써넣으시오.

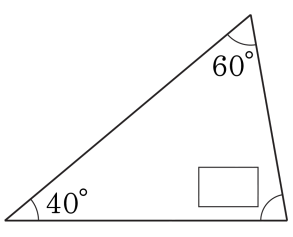

답: _____ °

6. 나머지가 같은 식끼리 연결한 것은 어느 것입니까?

(1) $152 \div 20$ •　　• ㉠ $136 \div 30$

(2) $322 \div 90$ •　　• ㉡ $532 \div 60$

(3) $176 \div 40$ •　　• ㉢ $492 \div 80$

① (1)-㉠, (2)-㉡, (3)-㉢　　② (1)-㉡, (2)-㉢, (3)-㉠

③ (1)-㉠, (2)-㉢, (3)-㉡　　④ (1)-㉡, (2)-㉠, (3)-㉢

⑤ (1)-㉢, (2)-㉡, (3)-㉠

7. 농구 경기장에 농구 경기를 보기 위해 만오천팔백삼십명의 관객이 입장하였다. 농구 경기장에 입장한 관객의 수를 숫자로 나타내시오.

답: _____ 명

8. 0 에서 8 까지의 숫자를 한 번씩 써서 600000000 에 가장 가까운 수를 만드시오.

답: _____

9. 다음 $\square$ 안에 알맞은 수를 넣어 1 조가 되도록 바르게 구한 것은 어느 것입니까?

(1) 1 조 = 9000 억 + $\square$
(2) 1 조 = 1000 억 × $\square$
(3) 1 조 = 9800 억 + $\square$
(4) 1 조 = 1 억 × $\square$

① (1) 1000 억 (2) 10 억 (3) 200 억 (4) 10000

② (1) 1000 억 (2) 10 (3) 20 억 (4) 10000

③ (1) 100 억 (2) 10 (3) 200 억 (4) 10000

④ (1) 100 억 (2) 10 억 (3) 200 억 (4) 10000

⑤ (1) 1000 억 (2) 10 (3) 200 억 (4) 10000

10. 2002 년도 우리나라 초등학교 남학생이 216 만 4300 명, 여학생이 201 만 3200 명입니다. 남학생 수와 여학생 수 중 어느 쪽이 더 많습니까?

답: _____

11. 다음에서 □안의 수는 지워져서 보이지 않습니다. 두 수의 크기를 비교하여 >, <로 나타내시오.

8095□45000 ○ 팔십억 구천오백구십오만

답: _____

12. 다음 $\boxed{}$ 안에 알맞은 곱셈식을 차례대로 써넣은 것은 어느 것입니까?

$$\begin{array}{rl} 863 & \\ \times\quad 47 & \\ \hline 6041 & \cdots(\quad ① \quad) \\ 3452 & \cdots(\quad ② \quad) \\ \hline 40561 & \cdots(\ 863\times 47\ ) \end{array}$$

① 863×7 , 863×4

② 863×70 , 863×4

③ 863×7 , 863×40

④ 863×70 , 863×47

⑤ 863×7 , 863×47

13. 다음 중 나눗셈의 몫이 두 자리 수가 <u>아닌</u> 것은 어느 것입니까?

① $698 \div 52$ ② $412 \div 34$ ③ $370 \div 28$

④ $275 \div 19$ ⑤ $396 \div 41$

14. 다음 중 두 수를 골라 몫이 가장 큰 나눗셈식을 만들어 몫을 구하시오.

34, 17, 544, 68

답: _____

15. 혜진이는 색 도화지 18장을 810원에 샀습니다. 색 도화지 한 장의 값은 얼마인지 구하시오.

답: _____ 원

16. 다음 그림을 보고 □ 안에 알맞은 말을 순서대로 쓰시오.

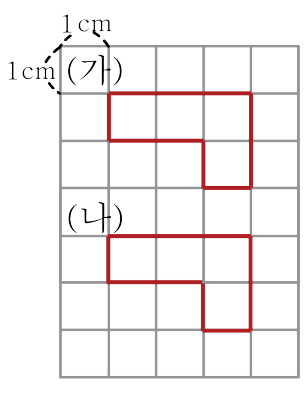

(나) 도형은 (가) 도형을 □ 쪽으로 □ cm 밀었을 때의 모양입니다.

답: _____

답: _____

17. 모양 조각을 시계 반대 방향으로 90°만큼 돌렸을 때의 모양은 어느 것입니까?

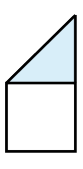

① 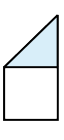

② 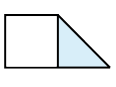

③ 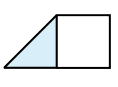

④ 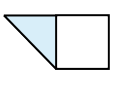

⑤ 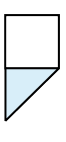

18. 도형을 위로 밀고 오른쪽으로 4번 뒤집고 시계 반대 방향으로 90°만큼 3번 돌렸을 때의 도형은 어느 것입니까?

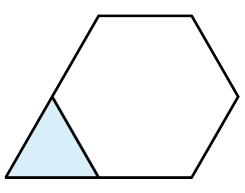

①
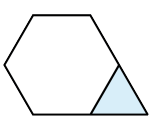

②
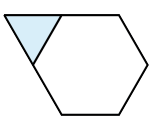

③
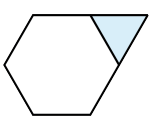

④
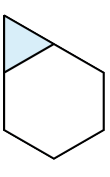

⑤
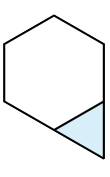

19. 보기의 모양을 돌리기 한 모양이 아닌 것을 고르시오.

① 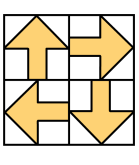

② 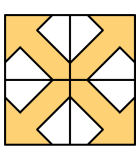

③ 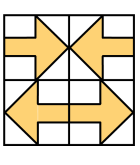

④ 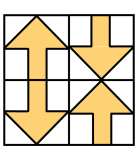

⑤ 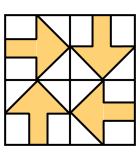

20. 오른쪽의 무늬는 왼쪽의 모양을 한 가지 방법으로 움직여서 만든 무늬입니다. 어떻게 움직여서 만든 것입니까?

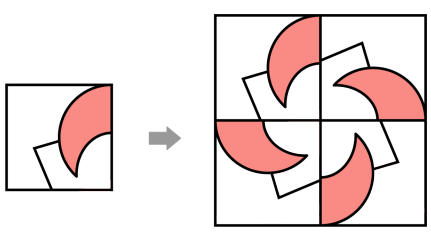

① 밀기 ② 뒤집기 ③ 돌리기

④ 밀고 뒤집기 ⑤ 뒤집고 돌리기

21. 다음은 공장별 하루에 생산한 옷의 수를 조사하여 나타낸 것입니다.

〈공장별 하루에 생산하는 옷의 수〉

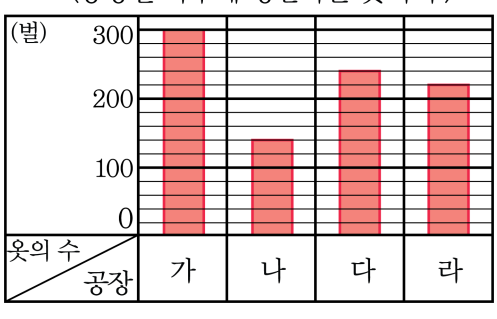

생산량이 가장 많은 공장부터 순서대로 쓰면 무엇입니까?

① 가-라-나-다 ② 가-다-라-나 ③ 가-다-나-라
④ 다-가-나-라 ⑤ 다-라-가-라

22. 다음 막대그래프는 민수네 반 학생들이 가장 좋아하는 과일을 조사하여 나타낸 것입니다.

〈가장 좋아하는 과일〉

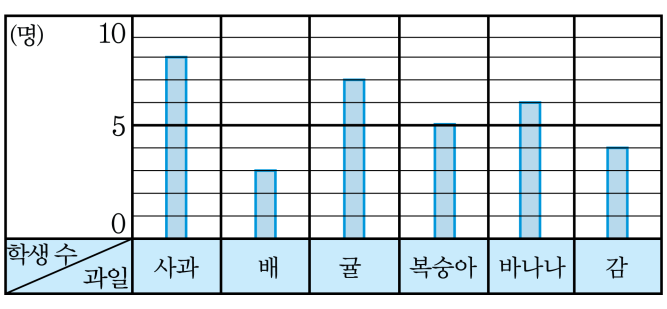

학생 수를 나타내는 눈금을 2명으로 하여 막대그래프를 다시 그리면, 바나나는 막대 몇 칸으로 나타내야 합니까?

① 1칸 ② 2칸 ③ 3칸 ④ 4칸 ⑤ 6칸

23. 다음 덧셈식에 대한 설명으로 옳은 것을 모두 고르시오.

순서	덧셈식
첫째	0+2+4=6
둘째	2+4+6=12
셋째	4+6+8=18
넷째	6+8+10=24

① 2씩 커지는 수를 2개씩 더하는 규칙입니다.

② 2씩 커지는 수를 2개씩 곱하는 규칙입니다.

③ 2씩 커지는 수를 3개씩 더하는 규칙입니다.

④ 다섯째에 알맞은 계산식은 $8+9+10=27$입니다.

⑤ 여섯째에 알맞은 계산식은 $10+12+14=36$입니다.

24. 다음과 같이 체리와 별을 장식하여 케이크를 만들려고 합니다. 케이크 15개를 만들려면 체리와 별은 각각 몇 개가 필요한지 순서대로 쓰시오.

답: _____ 개

답: _____ 개

25. 다음 그림에서 가장 큰 각은 가장 작은 각보다 몇 도 더 큰지 구하시오.

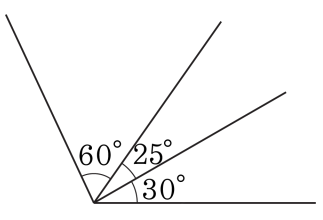

답: _____ °