1. $\sqrt{a^2} = 4$ 일 때, a 의 값을 구하여라.

① 2 ② -2 ③ ± 2 ④ 4 ⑤ ± 4

2. 다음 중 제곱근을 구할 수 없는 수를 모두 고르면?

① -4 ② 4 ③ -2 ④ 2 ⑤ 0

3. 다음 중 제곱근을 구할 수 있는 수를 모두 고르면?

① 7 ② 3 ③ -25 ④ -9 ⑤ -4

4. $3 < x < 4$ 일 때, $\sqrt{(3-x)^2} - \sqrt{(x-4)^2}$ 을 간단히 하면?

① $2x-1$ ② $2x-3$ ③ $2x-5$

④ $2x-7$ ⑤ $2x-9$

5. $\sqrt{(2-\sqrt{5})^2}+\sqrt{(2+\sqrt{5})^2}$ 의 식을 간단히 하면?

① $\sqrt{5}$ ② 0 ③ $2\sqrt{5}$

④ 4 ⑤ $2\sqrt{5}+4$

6. $x > 2$ 일 때, 다음 중 $\sqrt{(x-2)^2} - \sqrt{(2-x)^2}$ 의 값은?

① -2 ② -1 ③ 0 ④ 1 ⑤ 2

7. $7 < \sqrt{10x^2} < 12$ 이 성립할 때, 정수 x 의 값을 모두 구하면?

① ± 1 ② ± 2 ③ ± 3 ④ ± 4 ⑤ ± 5

8. 부등식 $3 \leq \sqrt{x} < 4$ 를 만족하는 자연수 x 를 모두 구하여라.

답: _____

9. 다음 중 부등식 $4 < \sqrt{x} \leq 5$ 를 만족하는 자연수 x 가 <u>아닌</u> 것은?

① 18 ② 20 ③ 22 ④ 24 ⑤ 26

10. 보기 중에서 무리수인 것을 모두 찾으면 ?

① $\sqrt{14}$ ② $\sqrt{0.1}$ ③ 1.3

④ $\sqrt{0.04}$ ⑤ π

11. 다음 수 중에서 무리수인 것을 모두 찾아라.

$\sqrt{15}$, $\sqrt{0.01}$, 1.3, $\sqrt{0.4}$, π, 5.4

답: _____

답: _____

답: _____

12. 다음 중 $\sqrt{5}$ 와 $\sqrt{10}$ 사이에 있는 무리수는?

① $\sqrt{5}-1$ ② $2\sqrt{5}$ ③ $\sqrt{10}-2$
④ $\dfrac{\sqrt{5}+\sqrt{10}}{2}$ ⑤ 4

13. 다음 중 $\sqrt{3}$ 와 $\sqrt{11}$ 사이에 있는 무리수는?

① $\sqrt{3}-1$ ② $2\sqrt{3}$ ③ $\sqrt{11}-3$
④ $\sqrt{3}+3$ ⑤ $\dfrac{\sqrt{3}+\sqrt{11}}{2}$

14. $\frac{\sqrt{20}}{\sqrt{5}} \times \sqrt{15} \div \sqrt{10}$ 를 간단히 하면?

① $\sqrt{2}$ ② $\sqrt{3}$ ③ 2 ④ $\sqrt{5}$ ⑤ $\sqrt{6}$

15. $\sqrt{42} \div \sqrt{7} \div \sqrt{\frac{5}{3}} = n\sqrt{10}$ 일 때, n 의 값을 구하여라.

답: $n =$ _____

16. 다음 중 $\sqrt{\frac{2}{5}} \div \sqrt{2} \div \frac{1}{\sqrt{15}}$ 를 바르게 계산한 것을 고르면?

① $\sqrt{2}$ ② $\sqrt{3}$ ③ 2 ④ $\sqrt{5}$ ⑤ $\sqrt{6}$

17. $\square$ 안을 알맞게 채워라.

$\square$ 를 보고 제곱근의 값을 구할 때에는 밖의 두 자리 수의 가로줄과 끝자리 수의 세로줄이 만나는 곳의 수를 읽는다. 다음 표에서 구한 $\sqrt{\square}$ 의 제곱근의 값은 $\square$ 이다.

수	1	2	3	4
⋮				
1.2			1.109	
⋮				

답: _____

답: _____

답: _____

18. 다음 제곱근표에서 A 가 나타내는 것은 무엇인지 구하여라.

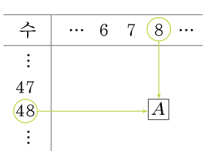

답: _____

19. 다음 제곱근표에서 $\sqrt{32.2}$ 의 값을 a , $\sqrt{34.5}$ 의 값을 b 라고 할 때, $b-a$ 의 값을 구하여라.

수	0	1	2	3	4	5
30	5.477	5.486	5.495	5.505	5.514	5.523
31	5.568	5.577	5.586	5.595	5.604	5.612
32	5.657	5.666	5.675	5.683	5.692	5.701
33	5.745	5.753	5.762	5.771	5.779	5.788
34	5.831	5.840	5.848	5.857	5.865	5.874

답: $b-a=$ _____

20. 다음 중 $\sqrt{23} = 4.796$ 임을 이용하여 제곱근의 값을 구할 수 있는 것은 모두 몇 개인가?

㉠ $\sqrt{0.023}$	㉡ $\sqrt{230}$
㉢ $\sqrt{0.23}$	㉣ $\sqrt{23000}$

① 0 개 ② 1 개 ③ 2 개 ④ 3 개 ⑤ 4 개

21. 다음 중 $\sqrt{4.3} = 2.074$ 임을 이용하여 제곱근의 값을 구할 수 없는 것을 골라라.

㉠ $\sqrt{0.043}$	㉡ $\sqrt{430}$
㉢ $\sqrt{0.43}$	㉣ $\sqrt{43000}$

답: _____

22. 가로가 $\sqrt{7}$m 인 천으로 넓이가 $\sqrt{28}\,\mathrm{m}^2$ 인 직사각형 모양의 응원가를 만들려고 한다. 이 때, 필요한 천의 길이는?

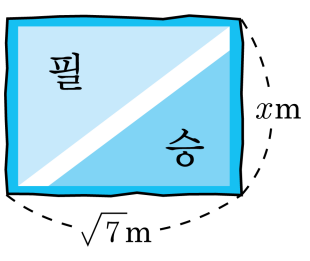

① 1 m ② 2 m ③ 3 m ④ 4 m ⑤ 5 m

23. 가로가 $\sqrt{2}$m 인 천으로 다음 그림과 같이 넓이가 $\sqrt{5}m^2$ 인 직사각형 모양의 응원가를 만들려고 한다. 이 때, 필요한 천의 길이를 구하여라.

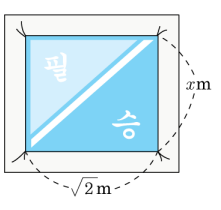

답: _____