1. 유경이는 10000 원짜리 2 장, 100 원짜리 9 개, 10 원짜리 5 개를 저금했습니다. 유경이가 저금한 돈은 모두 얼마인지 구하시오.

답: _____ 원

2. 다음 수 중에서 7이 나타내는 수가 가장 큰 것은 어느 것 입니까?

① 487293 ② 6698732 ③ 733495
④ 12359876 ⑤ 5988675

3. 어느 회사의 지난 달 수출액이 오억 육천사십만 원이었습니다. 올해의 수출 목표액이 지난 달 수출액의 10배라고 할 때, 올해의 수출 목표액 읽어 보시오.

답: _____

4. 어느 회사에서 다음과 같이 은행에 예금을 하였습니다. 예금한 돈은 모두 얼마입니까?

1000만 원짜리 수표 26장 100만 원짜리 수표 35장 만 원짜리 100장씩 22묶음

답: _____ 원

5. 다음 $\square$ 안에 알맞은 수를 넣어 1 조가 되도록 바르게 구한 것은 어느 것입니까?

(1) 1 조 = 9000 억 + $\square$
(2) 1 조 = 1000 억 × $\square$
(3) 1 조 = 9800 억 + $\square$
(4) 1 조 = 1 억 × $\square$

① (1) 1000 억 (2) 10 억 (3) 200 억 (4) 10000

② (1) 1000 억 (2) 10 (3) 20 억 (4) 10000

③ (1) 100 억 (2) 10 (3) 200 억 (4) 10000

④ (1) 100 억 (2) 10 억 (3) 200 억 (4) 10000

⑤ (1) 1000 억 (2) 10 (3) 200 억 (4) 10000

6. 어느 지방 자치 단체의 일 년간 예산이 5조 2000억 원이라고 합니다. 이것은 천 원짜리 지폐로 $\boxed{}$장이라 할때, $\boxed{}$안에 알맞은 수를 쓰시오.

답: _____

7. 786조 3249억에서 1500억씩 5번을 뛰어서 센 수를 읽어 보시오.

답: _____

8. □안에 0에서 9까지 어느 숫자를 넣어도 됩니다. 두 수의 크기를 비교하여 ○안에 >, =, <를 알맞게 넣은 것은 어느 것입니까?

(1) 689□51340 ○ 680□243810

(2) 898□3□6748621 ○ 8□7654□3213□1

① <, <　② <, >　③ <, =　④ >, =　⑤ >, >

9. 훈지는 각도기를 사용하여 어떤 각의 크기를 155°라고 읽었습니다. 그런데 자세히 문제를 읽어 보니 90°보다 작은 각이라고 써 있었습니다. 훈지가 다시 바르게 읽는다면, 이 각의 크기는 얼마입니까?

답: _____ °

10. 다음을 가장 큰 수부터 차례로 나타낸 것은 어느 것입니까?

㉠ 235만의 100배	㉡ 6억 7200만의 $\frac{1}{100}$
㉢ 38만 5001의 1000 배	㉣ 41억 670만의 $\frac{1}{1000}$

① ㉠, ㉢, ㉡, ㉣ ② ㉢, ㉠, ㉣, ㉡ ③ ㉠, ㉢, ㉣, ㉡
④ ㉠, ㉡, ㉢, ㉣ ⑤ ㉢, ㉠, ㉡, ㉣

11. 다음 그림을 보고 1 직각보다 크고, 2 직각보다 작은 각은 어느 것인지 고르시오.

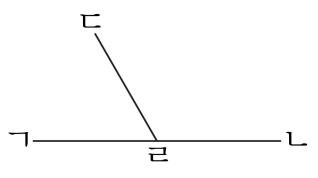

① 각 ㄱㄹㄴ ② 각 ㄱㄹㄷ ③ 각 ㄴㄹㄷ

④ 각 ㄷㄹㄱ ⑤ 각 ㄱㄷㄹ

12. 다음 시각을 가리키는 시계의 시침과 분침이 이루는 작은 각을 예각, 직각, 둔각으로 바르게 구분한 것은 어느 것입니까?

(1) 11시 15분 (2) 3시 (3) 12시 10분

① (1) 예각 (2) 예각 (3) 둔각

② (1) 예각 (2) 직각 (3) 예각

③ (1) 예각 (2) 직각 (3) 둔각

④ (1) 둔각 (2) 예각 (3) 직각

⑤ (1) 둔각 (2) 직각 (3) 예각

13. 다음 그림에서 각 ㉠의 크기를 구하시오.

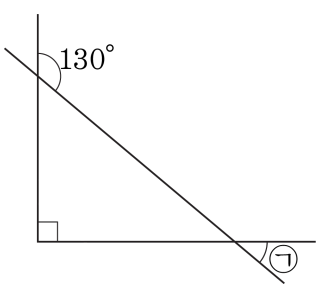

답: _____ °

14. $\square$ 안에 알맞은 각도를 써넣으시오.

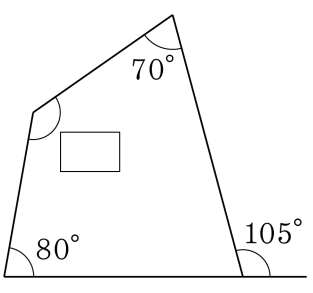

답: _____ °

15. 다음 도형 안에 있는 모든 각의 크기의 합을 구하시오.

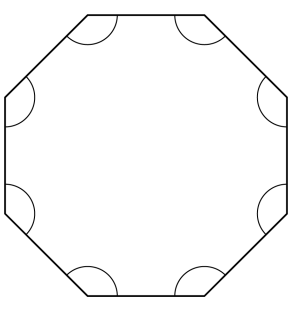

답: _____ °

16. 영하와 광열이는 일곱 장의 숫자 카드 $\boxed{1}\boxed{4}\boxed{0}\boxed{2}\boxed{9}\boxed{6}\boxed{7}$ 를 한 번씩만 사용하여 각각 일곱 자리의 수를 만들었습니다. 영하는 만의 자리의 숫자가 4인 수 중에서 가장 큰 수, 광열이는 천의 자리의 숫자가 7인 수 중에서 가장 큰 수를 만들었습니다. 누가 만든 수가 더 작습니까?

답: _____

17. 다음 그림에서 각 ㉢의 크기는 두 각 ㉠과 ㉡의 합보다 얼마나 큽니까?

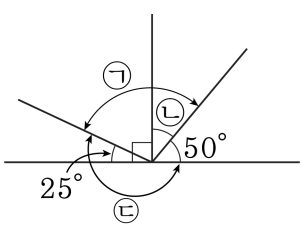

답: _____ °

18. 사각형의 네 각의 크기의 합과 같은 것은 어느 것인지 고르시오.

① 180° ② 4 직각 ③ 2 직각
④ 1 직각 ⑤ 3 직각

19. $\boxed{}$ 안에 알맞은 각도를 써넣으시오.

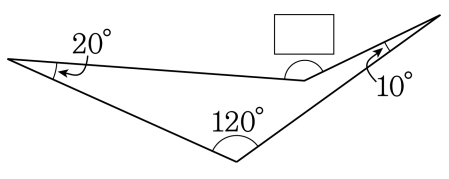

답: _____ °

20. 그림과 같이 똑같은 삼각자 2 개를 겹쳐 놓았습니다. 각 ㄱㄷㄹ의 크기를 구하시오.

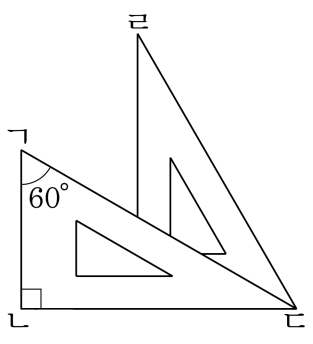

답: _____ °