1. $\sqrt{a^2} = 4$ 일 때, a 의 값을 구하여라.

① 2 ② -2 ③ ± 2 ④ 4 ⑤ ± 4

2. 다음 중 계산 한 값이 옳은 것은?

① $\sqrt{3^2} - \sqrt{(-5)^2} + \sqrt{2^2} = 10$

② $\sqrt{(-2)^2} - (-\sqrt{3})^2 - \sqrt{5^2} = 0$

③ $\sqrt{\left(\frac{2}{5}\right)^2} + \sqrt{\frac{9}{25}} - \sqrt{\left(\frac{6}{5}\right)^2} = -\frac{1}{5}$

④ $\sqrt{2^2} \times \sqrt{\left(\frac{1}{2}\right)^2} + \sqrt{\left(-\frac{1}{2}\right)^2} = 0$

⑤ $\sqrt{3^2} + \sqrt{4^2} - \sqrt{(-5)^2} = 12$

3. $x > 2$ 일 때, 다음 중 $\sqrt{(x-2)^2} - \sqrt{(2-x)^2}$ 의 값은?

① -2 ② -1 ③ 0 ④ 1 ⑤ 2

4. $\sqrt{17+x}$ 의 값이 자연수가 되도록 하는 가장 작은 자연수 x 는?

① 4 ② 8 ③ 10 ④ 12 ⑤ 19

5. $\sqrt{40-x}$ 의 값이 자연수가 되도록 하는 가장 작은 자연수 x는?

① 1 ② 4 ③ 7 ④ 10 ⑤ 15

6. 다음 중 가장 큰 수는?

① $\sqrt{(-7)^2}$ ② $-(-\sqrt{3})^2$ ③ $\sqrt{20}$
④ 6 ⑤ $\sqrt{45}$

7. $\sqrt{x} < 3$ 인 자연수 x 는 몇 개인가?

① 2 개 ② 4 개 ③ 8 개 ④ 10 개 ⑤ 12 개

8. $7 < \sqrt{10x^2} < 12$ 이 성립할 때, 정수 x 의 값을 모두 구하면?

① ± 1 ② ± 2 ③ ± 3 ④ ± 4 ⑤ ± 5

9. 보기 중에서 무리수인 것을 모두 찾으면 ?

① $\sqrt{14}$ ② $\sqrt{0.1}$ ③ 1.3

④ $\sqrt{0.04}$ ⑤ π

10. 다음 그림에서 수직선 위의 사각형은 정사각형이다. 이때, 점 $\mathrm{P}(a)$, $\mathrm{Q}(b)$ 에서 $a-b$ 의 값을 구하면?

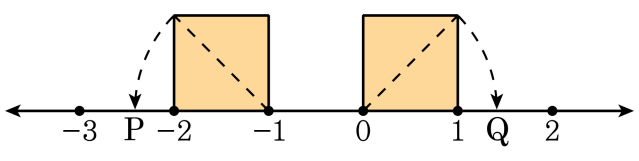

① $-1-2\sqrt{2}$ ② $-1+2\sqrt{2}$ ③ $1-2\sqrt{2}$

④ $-1-\sqrt{2}$ ⑤ $-1+\sqrt{2}$

11. 다음 중 옳은 것을 고르면?

① $\sqrt{5}+1<\sqrt{5}$

② $\sqrt{5}+1<\sqrt{5}+1$

③ $\sqrt{5}+1<\sqrt{5}+\sqrt{2}$

④ $3-\sqrt{10}<\sqrt{10}-4$

⑤ $3-\sqrt{10}<\sqrt{10}-5$

12. 다음 중 $\sqrt{3}$ 와 $\sqrt{11}$ 사이에 있는 무리수는?

① $\sqrt{3}-1$ ② $2\sqrt{3}$ ③ $\sqrt{11}-3$
④ $\sqrt{3}+3$ ⑤ $\dfrac{\sqrt{3}+\sqrt{11}}{2}$

13. $\sqrt{81}$ 의 양의 제곱근을 a , $(-4)^2$ 의 음의 제곱근을 b 라고 할 때, $a-b$ 의 값은?

① -7 ② -1 ③ 1 ④ 7 ⑤ 13

14. 다음 중 제곱수가 아닌 것 모두 고르면?

① 36 ② 49 ③ -1 ④ 225 ⑤ 50

15. $\sqrt{25}$, $\sqrt{(-6)^2}$ 을 근호를 사용하지 않고 차례대로 바르게 나타낸 것은?

① 5, 6 ② 5, -6 ③ 5, 36
④ 25, 36 ⑤ 25, -36

16. $a < 0$, $b > 0$ 일 때, $-\sqrt{b^2} - \sqrt{a^2}$ 을 간단히 하면?

① $b - a$　　② $a - b$　　③ $-a - b$

④ $a + b$　　⑤ $-a^2 + b^2$

17. $\sqrt{135 \times a}$ 가 정수가 되는 가장 작은 자연수 a 의 값은?

① 17 ② 15 ③ 7 ④ 5 ⑤ 3

18. $\sqrt{10-x}$ 가 가장 큰 자연수가 되도록 하는 자연수 x 는?

① 1 ② 2 ③ 3 ④ 4 ⑤ 5

19. $\sqrt{24-x}$ 가 정수가 되도록 하는 자연수 x 의 개수는?

① 4 개 ② 5 개 ③ 6 개 ④ 7 개 ⑤ 8 개

20. $\sqrt{\left(2-\sqrt{2}\right)^2}-\sqrt{\left(1-\sqrt{2}\right)^2}$ 을 간단히 하면?

① 1 ② -1 ③ $3-2\sqrt{2}$

④ $-3+2\sqrt{2}$ ⑤ $1-2\sqrt{3}$

21. 다음 보기에서 무리수를 <u>모두</u> 고른 것은?

보기

$\sqrt{0},\ \sqrt{3.6},\ 0.2\dot{9},\ -\frac{2}{5}$

$\sqrt{4},\ -\sqrt{\frac{1}{10}},\ \sqrt{\frac{9}{64}},\ \pi$

① $\sqrt{3.6}, 0.2\dot{9}$

② $-\sqrt{\frac{1}{10}},\ \sqrt{\frac{9}{64}}$

③ $\sqrt{3.6}, 0.2\dot{9}, -\frac{2}{5}$

④ $\sqrt{3.6},\ -\sqrt{\frac{1}{10}},\ \pi$

⑤ $\sqrt{4},\ \sqrt{3.6},\ -\sqrt{\frac{1}{10}},\ \pi$

22. 다음 중 무리수를 모두 고르면?

보기

㉠ $\sqrt{3}$	㉡ $\sqrt{13}$	㉢ $\sqrt{2}+\sqrt{9}$
㉣ $-\sqrt{(-3)^2}$	㉤ $\sqrt{\frac{9}{16}}$	㉥ $\sqrt{(99+1)}$

① ㉠, ㉡, ㉢　② ㉠, ㉡, ㉣　③ ㉡, ㉢, ㉣
④ ㉢, ㉣, ㉤　⑤ ㉣, ㉤, ㉥

23. 다음 중 옳지 <u>않은</u> 것은?

① 순환소수는 유리수이다.

② 유한소수는 유리수이다.

③ 무한소수는 무리수이다.

④ 원주율과 $\sqrt{1000}$ 은 무리수이다.

⑤ 무리수는 실수이다.

24. 다음 중 옳은 것은?

① $\sqrt{9}$ 는 무리수이다.

② 순환소수는 유리수이다.

③ 모든 무한소수는 무리수이다.

④ 3.14 는 무리수이다.

⑤ 근호를 사용하여 나타낸 수는 모두 무리수이다.

25. 다음 중 $\boxed{}$ 안의 수에 해당하지 <u>않는</u> 것은?

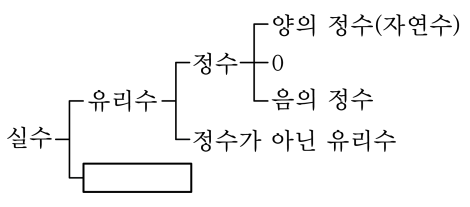

① $\sqrt{5}+1$　② $-\frac{\pi}{2}$　③ $\sqrt{0.9}$
④ $-\sqrt{2.89}$　⑤ $0.1234\cdots$

26. 다음 세 수 $a = 4 - \sqrt{7}$, $b = 2$, $c = 4 - \sqrt{8}$ 의 대소 관계로 옳은 것은?

① $a < b < c$ ② $a < c < b$ ③ $b < a < c$
④ $b < c < a$ ⑤ $c < a < b$

27. 다음 보기의 수 중에서 순환하지 않는 무한소수로 나타낼 수 있는 것은 모두 몇 개인가?

보기

$\sqrt{150}$, $\sqrt{81}$, $\sqrt{0.4}$, $\sqrt{3}-0.7$
$\sqrt{\pi^2}$, $-\sqrt{1.21}$, $-\sqrt{11}$, $-\sqrt{225}$

① 2 개 ② 3 개 ③ 4 개 ④ 5 개 ⑤ 6 개

28. 다음 중 각 식을 만족하는 x 의 값이 무리수인 것을 모두 고르면?

㉠ $x^2 = 9$	㉡ $x^2 = 121$	㉢ $x^2 = \frac{16}{25}$
㉣ $x^2 = \frac{8}{49}$	㉤ $x^2 = 7$	

① ㉠,㉡ ② ㉡,㉢ ③ ㉢,㉣ ④ ㉢,㉤ ⑤ ㉣,㉤

29. 다음 중 유리수는?

① $\sqrt{3}-3$ ② $-\sqrt{3.61}$ ③ $\frac{\pi}{5}$
④ $\frac{1+\sqrt{6}}{2}$ ⑤ $\sqrt{9}$ 의 제곱근

30. 다음 그림에서 □ABCD 와 □EFGH 가 정사각형이고 $\overline{AD} = \overline{AP} = \overline{AR}$, $\overline{EH} = \overline{EQ} = \overline{ES}$ 일 때, 점 P, Q, R, S 에 대응하는 수를 바르게 짝지은 것을 모두 고르면?

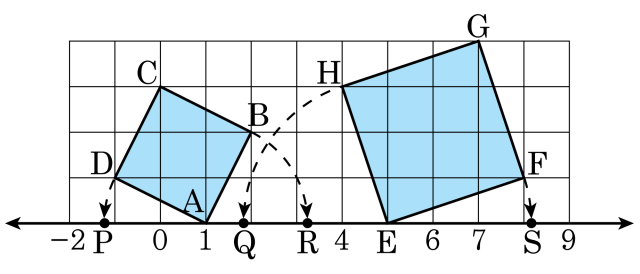

㉠ $P(-\sqrt{2})$	㉡ $Q(5-\sqrt{3})$
㉢ $R(1+\sqrt{5})$	㉣ $S(5+\sqrt{10})$

① ㉠, ㉡　② ㉡, ㉢　③ ㉢, ㉣　④ ㉠, ㉣　⑤ ㉠, ㉢