1. 다음 그림과 같이 $\overline{AB} = \overline{AC}$ 인 이등변삼각형 ABC 에서 $\angle A = 134°$ 일 때, $\angle x$ 의 크기를 구하여라.

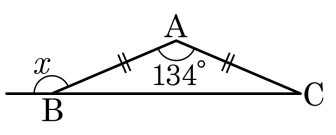

답: _____ °

2. 다음 그림과 같이 $\overline{BA} = \overline{BC}$ 인 이등변삼각형 BAC 에서 $\angle BAD = 126°$ 일 때, $\angle BCA$ 의 크기는?

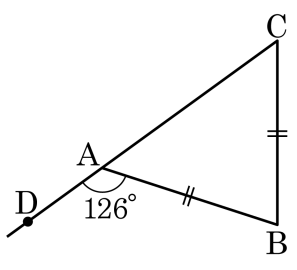

답: _____ °

3. 다음 그림과 같이 $\overline{AB} = \overline{CB}$ 인 이등변삼각형 ABC 에서 $\angle ABD = 98°$ 일 때, $\angle x$ 의 크기는?

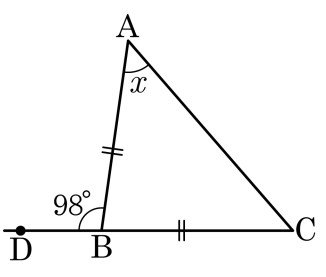

① 45° ② 47° ③ 49° ④ 51° ⑤ 53°

4. 다음 그림의 $\triangle ABC$에서, $\overline{AB} = \overline{AC}$, $B = 60°$이고, 꼭지각의 이등분선이 밑변과 만나는 점을 D라고 할 때, $\angle BAD$의 크기는?

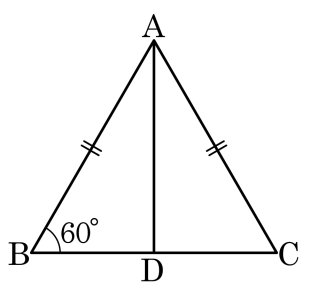

① 30° ② 45° ③ 60° ④ 85° ⑤ 90°

5. 다음 그림의 $\triangle ABC$에서, $\overline{AB} = \overline{BC}$, $\overline{AP} = \overline{CP}$라고 할 때, $x + y$의 크기는?

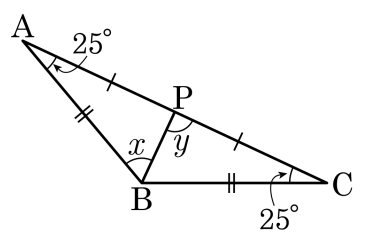

① 125° ② 135° ③ 145° ④ 155° ⑤ 165°

6. 다음과 같은 $\triangle ABC$에서 $\overline{AB} = \overline{AC} = 8\text{cm}$일 때, $\angle x$의 크기는?

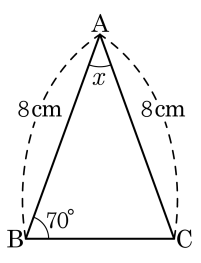

① $40°$ ② $45°$ ③ $50°$ ④ $55°$ ⑤ $60°$

7. 다음 그림에서 $\overline{PC}$ 와 길이가 같은 것을 알맞게 쓴 것은?

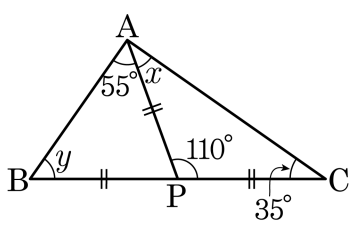

① $\overline{PA}$, $\overline{AB}$　② $\overline{PB}$, $\overline{AC}$　③ $\overline{BC}$, $\overline{PA}$

④ $\overline{PA}$, $\overline{PB}$　⑤ $\overline{AB}$, $\overline{AC}$

8. 아래 그림과 같은 $\triangle ABC$ 에서 $\overline{AB} = \overline{BD} = \overline{DC}$ 이고 $\angle DCB = 37°$ 일 때, $\angle x$ 의 크기를 구하여라.

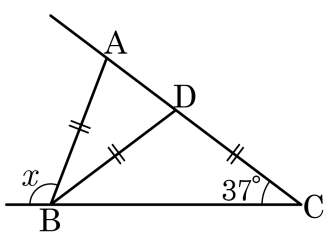

답: _____ °

9. $\overline{AB} = \overline{AC}$ 인 이등변삼각형 ABC 에서 $\angle BAC = 76°$ 일 때, $\angle x$ 의 크기는?

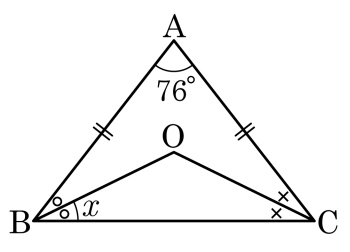

① 20° ② 22° ③ 24° ④ 26° ⑤ 28°

10. 다음 그림에서 $\overline{AB} = \overline{AC} = \overline{CD} = \overline{DE}$ 이다. $\angle B = 25°$ 일 때, $\angle CDE$ 의 크기를 구하여라.

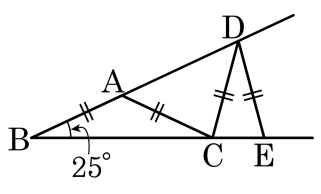

답: _____ °

11. 다음 그림과 같은 $\triangle ABC$ 에서 $\overline{CD}$ 와 길이가 같은 것은?

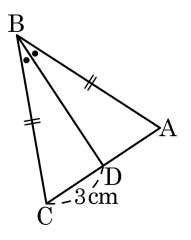

① $\overline{AB}$ ② $\overline{BC}$ ③ $\overline{AD}$ ④ $\overline{BD}$ ⑤ $\overline{AC}$

12. 다음 그림에서 $\triangle ABC$ 는 $\overline{AB} = \overline{AC}$ 인 이등변삼각형이다. $\angle B$ 의 이등분선이 $\overline{AC}$ 와 만나는 점을 D 라 할 때, x 의 길이를 구하여라.

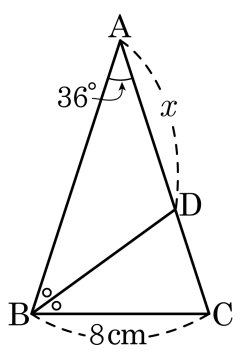

답: _____ cm

13. 다음은「세 내각의 크기가 같은 삼각형은 정삼각형이다.」를 보이는 과정이다.

$\triangle ABC$ 에서 세 내각의 크기가 같으므로 $\boxed{\text{(가)}}$ $\angle B = \angle C$ 이므로 $\overline{AB} = \boxed{\text{(나)}} \cdots$ ㉠ $\angle A = \boxed{\text{(다)}}$ 이므로 $\overline{BA} = \overline{BC} \cdots$ ㉡ ㉠, ㉡에 의해서 $\boxed{\text{(라)}}$ 따라서 $\triangle ABC$ 는 $\boxed{\text{(마)}}$ 이다.

㈎ ~ ㈒에 들어갈 것으로 옳지 <u>않은</u> 것을 모두 고르면?

① ㈎ $\overline{AB} = \overline{BC} = \overline{CA}$

② ㈏ $\overline{AC}$

③ ㈐ $\angle C$

④ ㈑ $\angle A = \angle B = \angle C$

⑤ ㈒ 정삼각형

14. 다음 그림과 같이$\overline{AB} = \overline{AC}$ 인 이등변삼각형ABC 의 꼭짓점 B ,C 에서 대변에 내린 수선의 발을 각각 D ,E 라고 할 때, $\overline{BD} = \overline{CE}$ 임을 증명하는 과정이다. (가)~(마) 에 들어갈 것으로 옳지 <u>않은</u> 것은?

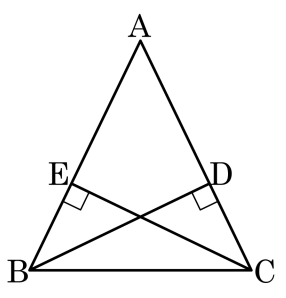

(가정)
(1) ($\overline{AB} = \boxed{(가)}$)
(2) B ,C 에서 대변에 내린 수선의 발을 각각 D ,E
(결론) ($\overline{BD} = \boxed{(나)}$)
(증명)△EBC 와△DCB 에서
($\angle BDC = \boxed{(다)} = 90°$) ⋯㉠
($\angle B = \boxed{(라)}$) ⋯㉡
$\boxed{(마)}$는 공통 ⋯㉢
△EBC ≡ △DCB
$\therefore \overline{BD} = \overline{CE}$

① (가) $\overline{AC}$　② (나) $\overline{CE}$　③ (다) $\angle BDA$
④ (라) $\angle C$　⑤ (마) $\overline{BC}$

15. 다음 그림과 같이 폭이 일정한 종이 테이프를 접었다. $\angle FGE = 40°$ 일 때, $\angle x$의 크기는?

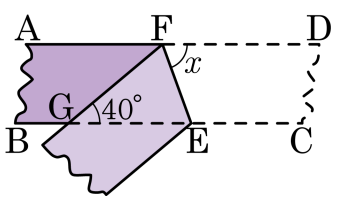

① 30° ② 40° ③ 50° ④ 60° ⑤ 70°

16. 다음 그림과 같이 폭이 일정한 종이 테이프를 접었다. $\angle DCE = 50°$ 일 때, $\angle ABC$ 의 크기를 구하여라.

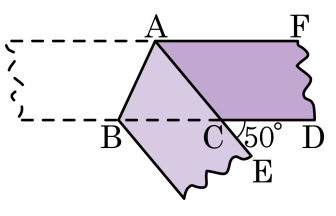

답: _____ °

17. 다음 그림과 같이 폭이 일정한 종이 테이프를 접었다. $\angle BCE = 136°$ 일 때, $\angle x$의 값을 구하여라.

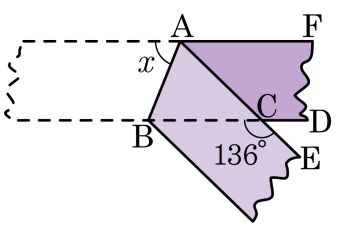

답: _____ °

18. $\overline{AB} = \overline{AC}$인 이등변삼각형 ABC에서 $\overline{BM} = \overline{CN}$이고, $\angle ANC = 115°$일 때, $\angle x$의 크기를 구하여라.

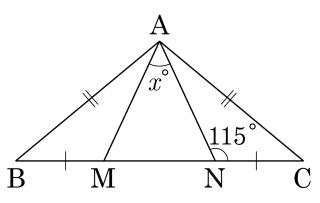

답: _____

19. $\triangle ABC$ 에서 $\overline{AB} = \overline{AC}$ 이고, $\angle C$ 의 외각의 이등분선과 $\angle B$ 의 이등분선의 교점을 D 라고 한다, $\angle A = 70°$ 일 때, $\angle D$ 의 크기는?

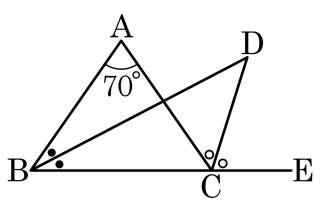

① 32.5° ② 35° ③ 37.5° ④ 40° ⑤ 42.5°

20. 직사각형 모양의 종이를 다음 그림과 같이 접었을 때, $\angle BCD = 30°$ 이다. 이때, $\angle BAC$ 의 크기를 구하여라.

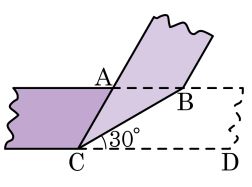

① 100°　② 110°　③ 120°

④ 130°　⑤ 140°