1. 3개의 동전을 동시에 던질 때, 1개는 앞면이 나오고 2개는 뒷면이 나오는 경우의 수는?

① 2가지 ② 3가지 ③ 4가지 ④ 6가지 ⑤ 8가지

해설

(앞, 뒤, 뒤), (뒤, 앞, 뒤), (뒤, 뒤, 앞)

2. 상자 속에 1에서 15까지 수가 각각 적힌 15개의 공이 들어 있다. 이 상자 속에서 한 개의 공을 꺼낼 때, 소수가 적힌 공이 나올 경우의 수는?

① 3가지 ② 4가지 ③ 5가지
④ 6가지 ⑤ 7가지

해설
소수는 2, 3, 5, 7, 11, 13이므로 6가지이다.

3. 경식이는 50 원짜리 동전 4 개, 10 원짜리 동전 10 개가 있다. 이 동전을 이용하여 200 원을 지불하는 방법의 수는?

① 1 ② 2 ③ 3 ④ 4 ⑤ 5

해설

순서쌍으로 나타내면 (50×4, 0), (50×3, 10×5), (50×2, 10×10) 의 3 가지

4. 1에서 6까지 적힌 카드가 들어있는 모자 속에서 두 장의 카드를 한장씩 뽑았을 때, 나올 수 있는 두 수의 합이 4 또는 6인 경우의 수는? (한 번 뽑은 카드는 다시 넣고 또 뽑는다.)

① 7 가지 ② 8 가지 ③ 9 가지
④ 10 가지 ⑤ 11 가지

해설

두 수의 합이 4인 경우는 (1, 3), (2, 2), (3, 1)의 3가지이고 두 수의 합이 6인 경우는 (1, 5), (2, 4), (3, 3), (4, 2), (5, 1)의 5가지이다. 따라서 두 수의 합이 4 또는 6인 경우의 수는 $3+5=8$(가지)이다.

5. 동전 두 개를 동시에 던질 때, 서로 같은 면이 나올 경우의 수는?

① 1가지 ② 2가지 ③ 3가지 ④ 4가지 ⑤ 5가지

해설

(앞, 앞), (뒤, 뒤) 의 2가지

6. 주사위 두 개를 동시에 던졌을 때, 어느 쪽이든 4의 눈이 나오는 경우의 수는?

① 24 ② 20 ③ 18 ④ 12 ⑤ 11

해설

어느 쪽이든 4의 눈이 나오는 경우는 (1, 4), (2, 4), (3, 4), (4, 4), (5, 4), (6, 4), (4, 1), (4, 2), (4, 3), (4, 5), (4, 6)으로 11가지이다.

7. 1 에서 25 까지의 수가 각각 적힌 25 장의 카드 중에서 한 장의 카드를 뽑을 때, 3 의 배수가 나오는 경우의 수는?

① 5 ② 6 ③ 7 ④ 8 ⑤ 9

해설

3, 6, 9, 12, 15, 18, 21, 24 의 8 가지이다.

8. 500 원짜리 동전 2 개와 100 원짜리 동전 3 개가 있다. 두 가지 동전을 각각 한 개 이상 사용하여 지불할 수 있는 금액의 모든 경우의 수는?

① 2 가지 ② 3 가지 ③ 4 가지
④ 5 가지 ⑤ 6 가지

해설

500 원짜리 동전과 1000 원짜리 동전을 1 개 이상씩 사용하여 지불할 수 있는 방법을 표로
나타내면

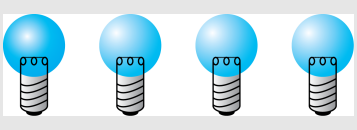

이므로 구하는 경우의 수는 6 가지이다.

9. 두 개의 주사위를 던질 때, 눈의 합이 5 또는 11 인 경우의 수를 구하여라.

▶ 답 : _____ 가지

▷ 정답 : 6 가지

해설

합이 5 인 경우 : (1, 4), (2, 3), (3, 2), (4, 1) → 4 가지
합이 11 인 경우 : (5, 6), (6, 5) → 2 가지
따라서 합이 5 또는 11 인 경우의 수는 6 가지이다.

10. 두 개의 주사위 A, B 를 동시에 던졌을 때, 나온 눈의 합이 10 이상인 경우의 수를 구하여라.

▶ 답 : _____ 가지

▷ 정답 : 6 가지

해설

(1) 눈의 합이 10 인 경우
: (4, 6), (5, 5), (6, 4)
(2) 눈의 합이 11 인 경우
: (5, 6), (6, 5)
(3) 눈의 합이 12 인 경우
: (6, 6)
$\therefore\ 3+2+1=6$ (가지)

11. 1에서 25까지의 번호가 각각 적힌 25개의 구슬이 있다. 구슬 한 개를 꺼냈을 때, 번호가 4의 배수 또는 5의 배수인 경우의 수를 구하여라.

▶ 답 :

▷ 정답 : 10가지

해설

4의 배수는 4, 8, 12, 16, 20, 24로 6가지,
5의 배수는 5, 10, 15, 20, 25로 5가지
4와 5의 최소공배수 20의 배수 : 20의 1가지
$\therefore\ 6+5-1=10$(가지)

12. 서울에서 부산까지 가는 KTX 는 하루에 8 번, 버스는 하루에 9 번, 비행기는 하루에 3 번 있다고 한다. 이 때 서울에서 부산까지 KTX 또는 버스로 가는 방법은 모두 몇 가지인지 구하여라.

▶ 답 : _____ 가지

▷ 정답 : 17 가지

해설

$8 + 9 = 17$(가지)

13. 서울에서 대구로 가는 기차는 새마을호가 하루에 5번 무궁화호가 하루에 6번 있다고 한다. 서울에서 대구까지 기차를 한 번만 타고 가는 방법은 모두 몇 가지인가?

① 11가지 ② 15가지 ③ 20가지
④ 30가지 ⑤ 35가지

해설

새마을호를 타고 가거나 무궁화호를 타고 가는 방법은 동시에 일어나는 사건이 아니므로 경우의 수는 $5+6=11$(가지)이다.

14. 민희는 초대장을 가지고 충정로역 부근의 결혼식장에 가려고 한다. 민희가 버스 또는 지하철을 타고 간다고 할 때, 가는 모든 경우의 수는?

민희 : 엄마. 삼촌 결혼식장엔 어떻게 가야 돼요?
엄마 : 이 초대장에 적혀 있는 버스들이 모두 간단다.
민희 : 지하철을 타고 가려면 어떻게 가야 돼요?
엄마 : 마포구청역에서 타고, 공덕역에서 갈아타서 충정로역에서 내려도 되고, 합정역에서 갈아타서 충정로역에서 내려도 된단다.
민희 : 예. 알겠어요. 엄마.

① 5 가지 ② 6 가지 ③ 7 가지
④ 8 가지 ⑤ 9 가지

해설

버스는 1400, 9706, 1005 − 1, 273 의 4 가지이다. 지하철로 가는 방법은 2 가지이다. 따라서 버스 또는 지하철로 가는 방법은 $4 + 2 = 6$(가지) 이다.

15. 수학 문제집 5 종류, 영어 문제집 8 종류가 있다. 이 중에서 문제집 한 권을 선택하는 경우의 수를 구하여라.

▶ 답 : _____ 가지

▷ 정답 : 13 가지

해설

수학 문제집 5종류, 영어 문제집 8종류가 있으므로 한 권을 선택하는 경우의 수는 $5 + 8 = 13$(가지) 이다.

16. 다음 그림과 같이 방에 문이 4개가 있다. 방에 들어갈 때 사용한 문으로 나오지 않는다면, 방에 들어갔다가 나오는 경우는 모두 몇 가지인지 구하여라.

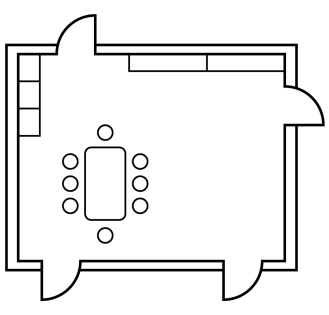

▶ 답 : _____ 가지

▷ 정답 : 12 가지

해설

$4 \times 3 = 12$(가지)

17. ㅅ, ㄹ, ㅇ, ㅎ의 4개의 자음과 ㅏ, ㅐ, ㅗ, ㅛ의 4개의 모음이 있다. 자음 1개와 모음 1개를 짝지어 만들 수 있는 글자는 모두 몇 가지인지 구하여라.

▶ 답 : _____ 가지

▷ 정답 : 16 가지

해설

자음 1개를 뽑는 경우의 수 : 4가지
모음 1개를 뽑는 경우의 수 : 4가지
$\therefore\ 4 \times 4 = 16$(가지)

18. 다음 그림과 같은 회전판이 있다. 화살표를 돌리다가 멈추게 할 때, 화살표가 가리키는 경우의 수를 구하여라. (단, 바늘이 경계 부분을 가리키는 경우는 생각하지 않는다.)



▶ 답 : _____ 가지

▷ 정답 : 5 가지

해설

1, 3, 5, 7, 9 의 5 가지

19. 다음 그림의 A, B, C 에 빨강, 주황, 노랑, 초록, 파랑의 다섯 가지 색을 칠하려고 한다. 이 중에서 서로 다른 세 가지의 색을 골라 칠할 경우의 수는?

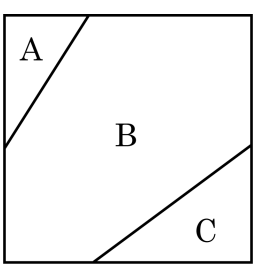

① 12 가지 ② 24 가지 ③ 60 가지
④ 120 가지 ⑤ 360 가지

해설

A 에 칠하는 경우 : 5 가지
B 에 칠하는 경우 : 4 가지
C 에 칠하는 경우 : 3 가지
$\therefore\ 5 \times 4 \times 3 = 60$ (가지)

20. 다음 그림과 같이 직사각형 모양의 깃발에 빨강, 노랑, 파랑의 3가지 색을 칠하려고 한다. A, B, C에 서로 다른 색을 칠할 때, 일어나는 모든 경우의 수를 구하여라.

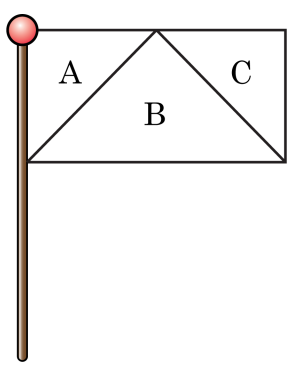

▶ 답 : _____ 가지

▷ 정답 : 6 가지

해설

$\therefore\ 3 \times 2 \times 1 = 6$ (가지)

21. 정십이면체의 각 면에는 1에서 12까지의 숫자가 쓰여 있다. 이 정십이면체 주사위를 한 번 던졌을 때, 3의 배수 또는 36의 약수가 나올 경우의 수는?

① 2 ② 4 ③ 6 ④ 7 ⑤ 10

해설

3의 배수 : 3, 6, 9, 12 → 4가지
36의 약수 : 1, 2, 3, 4, 6, 9, 12 → 7가지
따라서 7가지이다.

22. 항아리 속에 1에서 50까지의 숫자가 각각 적힌 구슬 50개가 들어있다. 항아리 속에서 구슬 한 개를 꺼낼 때 2의 배수 또는 3의 배수 또는 4의 배수인 구슬이 나올 경우의 수는 얼마인가?

▶ 답 : _____ 가지

▷ 정답 : 33 가지

해설

1에서 50까지의 수 중에서 2의 배수가 나오는 경우의 수는 25가지,
3의 배수가 나오는 경우의 수는 16가지, 4의 배수가 나오는 경우의 수는 12가지,
2와 3의 공배수인 경우의 수가 8가지, 3과 4의 공배수인 경우의 수가 4가지,
2와 4의 공배수인 경우의 수가 12가지,
2, 3, 4의 공배수인 경우의 수가 4가지이다.
따라서 2의 배수 또는 3의 배수 또는 4의 배수인 구슬이 나오는 경우의 수는
$25 + 16 + 12 - 8 - 4 - 12 + 4 = 33$(가지)이다.

23. 다음 그림과 같이 A 지점에서 B 지점으로 가는데 C 또는 D 지점을 거쳐야 한다. A 지점에서 B 지점까지 가는 방법의 수를 구하여라. (단, 한 번 지나간 곳은 다시 지나지 않는다.)

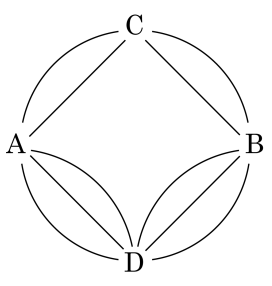

▶ 답 : _____ 가지

▷ 정답 : 13 가지

해설

$A \to C \to B$로 가는 경우
$2 \times 2 = 4$(가지)
$A \to D \to B$로 가는 경우
$3 \times 3 = 9$(가지)
따라서 A 지점에서 B 지점까지 가는 방법의 수는 $4+9 = 13$(가지)이다.

24. 세 곳의 음식점을 네 명의 학생이 선택하는 경우의 수를 구하여라.

▶ 답 : _____ 가지

▷ 정답 : 81 가지

해설

한 명이 선택할 수 있는 음식점이 세 곳이므로 $3 \times 3 \times 3 \times 3 = 81$ 이다.

25. 다음 그림과 같은 A, B, C, D, E의 각 부분에 빨강, 파랑, 노랑, 초록, 보라의 5가지 색을 칠하려고 한다. 같은 색을 두 번 이상 사용할 수는 있으나 이웃한 면은 반드시 다른 색을 칠하는 방법의 수를 구하여라.

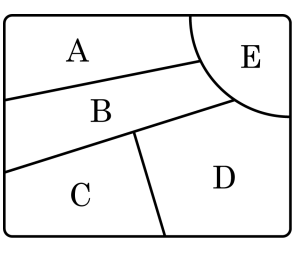

▶ 답 : _____ 가지

▷ 정답 : 540 가지

해설

서로 같은 색을 칠할 수 있는 순서쌍은 A – C, A – D, C – E가 있다.

5가지 색을 사용하는 경우 : $5 \times 4 \times 3 \times 2 \times 1 = 120$ (가지)

4가지 색을 사용하는 경우 : $3 \times (5 \times 4 \times 3 \times 2) = 360$ (가지)

3가지 색을 사용하는 경우 : $5 \times 4 \times 3 = 60$ (가지)

$\therefore\ 120 + 360 + 60 = 540$ (가지)