1. $(6x-4)-2(4x+3)$ 을 간단히 할 때, x 의 계수와 상수항의 합은?

① -11 ② -12 ③ -13 ④ -14 ⑤ -15

2. 방정식 $\frac{1}{4}x = \frac{3}{2} + \frac{2}{5}x$ 를 풀면?

① $x = -15$ ② $x = -10$ ③ $x = -2$
④ $x = -2$ ⑤ $x = 10$

3. 다음 그림의 정육면체에서 A, B, C, D 를 지나는 평면으로 자를 때 자른 단면이 될 수 있는 도형을 보기에서 고른 것은?

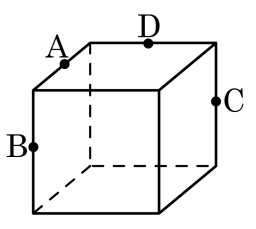

보기

㉠ 직사각형	㉡ 사다리꼴	㉢ 오각형
㉣ 삼각형	㉤ 칠각형	㉥ 육각형

① ㉠, ㉢ ② ㉢, ㉥ ③ ㉣, ㉥ ④ ㉢, ㉤ ⑤ ㉡, ㉣

4. 다음 보기 중 옳은 것을 모두 고르면?

보기

㉠ $2a^2 \times 5a^3 = 10a^6$

㉡ $(2x^2)^3 = 6x^6$

㉢ $x^2 \times x^5 \div x^{10} = \dfrac{1}{x^3}$

㉣ $x^5 \div x^3 \div x = 0$

㉤ $(-2xy)^4 \div 4x^2y = 4x^2y^3$

① ㉠,㉡ ② ㉠, ㉢ ③ ㉠,㉣ ④ ㉢, ㉤ ⑤ ㉣, ㉤

5. 부등식 $-5x-a \le -6x$를 만족하는 자연수 x의 개수가 4개일 때, 상수 a의 값의 범위는?

① $2 \le a < 3$ ② $3 \le a < 4$ ③ $4 \le a < 5$
④ $5 \le a < 6$ ⑤ $6 \le a < 7$

6. 부등식 $\frac{6x+9}{3} - \frac{2x+6}{2} < a$를 만족하는 자연수 x의 개수가 6개일 때, 자연수 a의 값은?

① 5 ② 6 ③ 7 ④ 8 ⑤ 9

7. 일차방정식 $2x-ay+10=0$의 그래프가 다음과 같을 때, 상수 a의 값은?

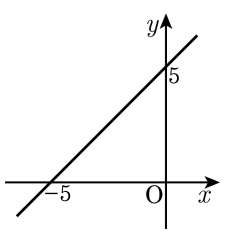

① -5 ② -2 ③ 1

④ 2 ⑤ 5

8. 다음 그림의 $\triangle ABC$ 에서 E, F 는 $\overline{AB}$ 의 3 등분점이고, $\overline{AD}$ 는 중선이다. $\overline{EP} = 6\text{cm}$ 일 때, $\overline{PC}$ 의 길이를 구하면?

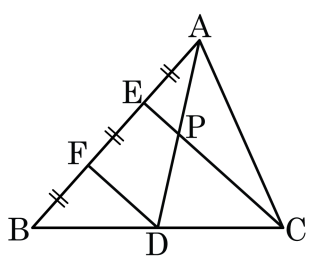

① 6cm ② 9cm ③ 12cm ④ 15cm ⑤ 18cm

9. -2.5 의 역수를 a , $-1\frac{3}{4}$ 의 역수를 b 라 할 때, $a \div b$ 의 값을 구하면?

① $\frac{8}{35}$ ② $\frac{35}{8}$ ③ $\frac{10}{7}$ ④ $\frac{7}{10}$ ⑤ $-\frac{8}{35}$

10. 다음 중 그래프가 y축에 가장 가까운 것은?

① $y=-4x$ ② $y=\frac{5}{2}x$ ③ $y=x$
④ $y=-\frac{7}{2}x$ ⑤ $y=\frac{3}{2}x$

11. 다음 그림은 $y = \frac{8}{x}$와 $y = ax$의 그래프를 그려 놓은 것이다. $a + b$의 값은?

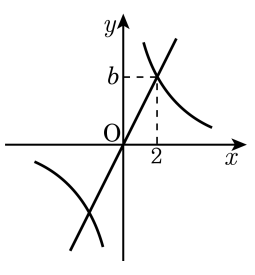

① 6　　② 12　　③ 18

④ 24　　⑤ 30

12. 다음 그림에서 5.0pt$\overset{\frown}{AB}$: 5.0pt$\overset{\frown}{BC}$: 5.0pt$\overset{\frown}{CA}$ = 5 : 6 : 9 일 때, $\angle AOC$ 의 크기를 구하면?

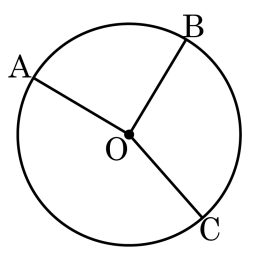

① 110° ② 124° ③ 138° ④ 152° ⑤ 162°

13. 다음 색칠한 도형의 둘레의 길이는?

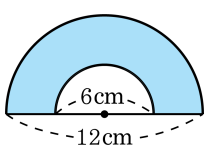

① $(16\pi + 4)$ cm ② $(12\pi + 6)$ cm

③ $(9\pi + 6)$ cm ④ $(5\pi + 4)$ cm

⑤ $(3\pi + 4)$ cm

14. 분수 $\frac{17}{6}$ 을 소수로 나타내면?

① $2.8\dot{0}\dot{3}$ ② $2.\dot{8}0\dot{3}$ ③ $2.80\dot{3}$ ④ $2.8\dot{3}$ ⑤ $2.\dot{8}\dot{3}$

15. 다음 중 옳은 것을 모두 고르면?

① 두 개의 무한소수의 합은 항상 무한소수로만 나타내어진다.

② 무한소수는 순환소수이다.

③ 분모에 2나 5 이외의 소인수가 있는 기약분수는 모두 무한소수로 나타낼 수 있다.

④ 모든 유리수는 분수로 나타낼 수 있다.

⑤ 유한소수는 분수로 나타낼 수 없다.

16. 연립방정식 $\begin{cases} ax+2y=6 \\ 4x-y=6 \end{cases}$ 의 해가 없을 때, a의 값은?

① -8 ② -4 ③ 4 ④ 6 ⑤ 8

17. 일차함수 $f(x) = -x + 2$에 대하여 $f(a) = 5$일 때, a의 값은?

① -1 ② -2 ③ -3 ④ -4 ⑤ -5

18. 다음 그림은 두 일차방정식 $x-2y+5=0$ 과 $x+2y-3=0$ 의 그래프이다. 이 때, $\triangle$ABC 의 넓이는?

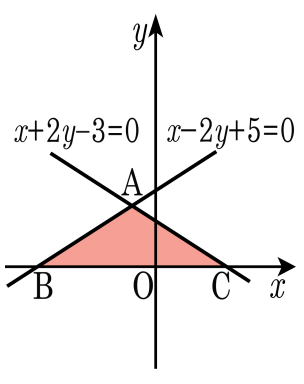

① 5　　② 7　　③ 8

④ 10　　⑤ 16

19. 다음 그림과 같은 $\overline{AB} = \overline{AC}$인 이등변삼각형 ABC에 대해서 점 B에서 외심 O를 거쳐 변 AC까지 선분 $\overline{BD}$를 그었다. $\angle A = 80°$일 때, $\angle ABD$의 크기는?

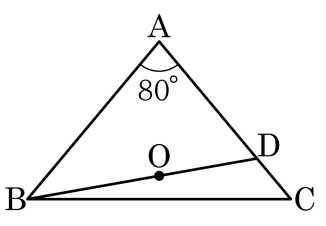

① 30° ② 35° ③ 40° ④ 45° ⑤ 50°

20. 다음 그림과 같이 $\overline{AB} = 13\,\text{cm}$, $\overline{AD} = 10\,\text{cm}$, $\overline{BC} = 2\overline{AD}$ 인 등변사다리꼴의 넓이를 구하면?

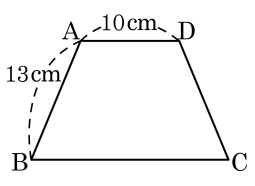

① $120\,\text{cm}^2$ ② $130\,\text{cm}^2$

③ $180\,\text{cm}^2$ ④ $195\,\text{cm}^2$

⑤ $200\,\text{cm}^2$

21. 1에서 10까지의 수가 각각 적혀 있는 10장의 카드가 있다. 이 중에서 한 장의 카드를 뽑을 때, 8 의 약수가 나오는 경우의 수를 a, 소수가 나오는 경우의 수를 b라고 할 때, $a+b$의 값을 구하면?

① 5 ② 6 ③ 7 ④ 8 ⑤ 10

22. 어떤 시험에 ○ , × 문제가 5 개나왔다. 이 문제를 어느 학생이 임의대로 답할 때, 적어도 두 문제 이상 맞힐 확률은?

① $\frac{3}{4}$ ② $\frac{5}{8}$ ③ $\frac{13}{16}$ ④ $\frac{15}{16}$ ⑤ $\frac{5}{32}$