1. 어떤 분수의 분모에서 7 을 뺀 후, 3 으로 약분하였더니 $\frac{9}{10}$ 가 되었습니다. 어떤 분수를 구하시오.

① $\frac{27}{30}$ ② $\frac{20}{37}$ ③ $\frac{27}{37}$ ④ $\frac{34}{37}$ ⑤ $\frac{20}{30}$

2. $\frac{3}{5}$ 보다 크고 $\frac{8}{9}$ 보다 작은 분수 중에서 분자가 12 인 기약분수를 <u>모두</u> 고르시오.

① $\frac{12}{13}$ ② $\frac{12}{17}$ ③ $\frac{12}{18}$ ④ $\frac{12}{19}$ ⑤ $\frac{12}{23}$

3. 분수의 크기를 잘못 비교한 것은 어느 것입니까?

① $\frac{6}{5} < \frac{4}{3}$ ② $\frac{7}{8} < \frac{24}{25}$ ③ $\frac{8}{100} < \frac{4}{20}$
④ $\frac{1}{8} > \frac{4}{100}$ ⑤ $\frac{3}{2} > \frac{8}{5}$

4. ㉠은 $\frac{3}{4}$ 과 $\frac{4}{5}$ 사이에 있는 분수 중에서 분자가 24인 진분수입니다. ㉠에 알맞은 수를 구하여라.

답: _____

5. 다음 식에서 ■에 알맞은 수는 모두 몇 개입니까?

$$\frac{1}{■}+\frac{1}{2}+\frac{1}{4}>1$$

① 1개 ② 2개 ③ 3개 ④ 5개 ⑤ 6개

6. 다음 중 두 분수를 골라 덧셈식을 만들려고 합니다. 이 때, 합이 가장 크게 되는 덧셈식은 어느 것입니까?

$3\frac{1}{2},\ 3\frac{3}{4},\ 3\frac{1}{12},\ 3\frac{5}{8},\ 3\frac{7}{9}$

① $3\frac{1}{2}+3\frac{3}{4}$ ② $3\frac{5}{8}+3\frac{7}{9}$ ③ $3\frac{3}{4}+3\frac{7}{9}$
④ $3\frac{3}{4}+3\frac{5}{8}$ ⑤ $3\frac{7}{9}+3\frac{1}{12}$

7. 아버지께서는 담을 페인트로 칠하셨습니다. 파란색 페인트 $2\frac{1}{4}$ L 와 흰색 페인트 $3\frac{1}{2}$ L 에서 일정량을 사용하고 나니 파란색 페인트 $1\frac{1}{2}$ L 와 흰색 페인트 $1\frac{3}{5}$ L 가 남았습니다. 담을 칠하는 데 사용한 페인트는 모두 몇 L 입니까?

① $2\frac{3}{4}$ L ② $2\frac{13}{20}$ L ③ $2\frac{3}{5}$ L
④ $2\frac{11}{20}$ L ⑤ $2\frac{1}{2}$ L

8. 다음 그림에서 사각형 ㄱㄴㄷㅂ은 마름모이고, 사각형 ㅂㄷㄹㅁ은 직사각형이다. 사각형 ㄱㄴㄷㅂ의 둘레의 길이가 48 cm 이고, 사각형 ㅂㄷㄹㅁ의 둘레의 길이는 54 cm 라면, 변 ㄷㄹ의 길이는 몇 cm 인가?

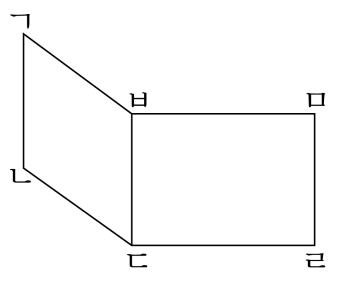

답: _____ cm

9. 정사각형을 다음 그림과 같이 똑같은 직사각형이 되도록 잘랐다. 작은 직사각형 하나의 둘레가 36cm 라면, 이 정사각형의 넓이를 구하여라.

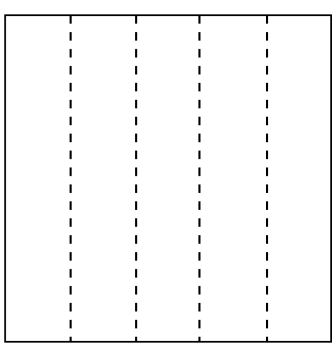

답: _____ cm^2

10. 다음 그림과 같은 사다리꼴이 있습니다. ㉯의 넓이가 ㉮의 넓이의 2배일 때, ㉠의 길이를 구하시오.

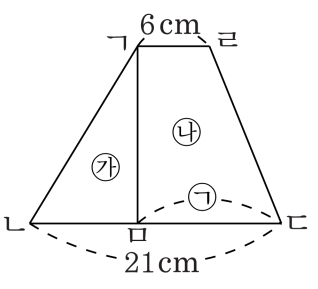

답: _____ cm

11. 한 병의 무게가 620 g 인 음료수가 있다. 이 음료수 54 병의 무게는 몇 kg 인지 구하시오.

답: _____ kg

12. 경석이네 집에는 매일 0.75L 짜리 우유와 0.68L 짜리 주스가 하나씩 배달됩니다. 9월 한 달 동안 경석이네 집에 배달된 우유와 주스는 모두 몇 L 인지 구하시오.

답: _____ L

13. $176 \times 248 = 43648$ 임을 알고, 다음 계산에 소수점을 <u>틀리게</u> 찍은 것을 고르시오.

① $176 \times 0.248 = 43.648$
② $0.176 \times 248 = 43.648$
③ $176 \times 24.8 = 4364.8$
④ $17.6 \times 248 = 4.3648$
⑤ $1.76 \times 24.8 = 43.648$

14. 다음 식을 보고 $\square$안에 들어갈 수가 바르게 배열된 것을 고르시오.

$$3.28 \times 5.75 \times 0.6 = \frac{328}{\square} \times \frac{\square}{100} \times \frac{6}{\square}$$

$$= \frac{1131600}{\square} = 11.316$$

① $100, 575, 100, 10000$

② $10, 575, 100, 100000$

③ $100, 575, 10, 10000$

④ $100, 575, 100, 1000000$

⑤ $100, 575, 10, 100000$

15. 정육면체에서 (면의 수) + (꼭짓점의 수)는 모서리의 수보다 몇 개 더 많은지 구하시오.

답: _____ 개

16. 다음 직육면체의 겉면에 평행인 면끼리 같은 색의 종이를 붙이려고 합니다. 필요한 색종이의 전체 넓이는 얼마입니까?

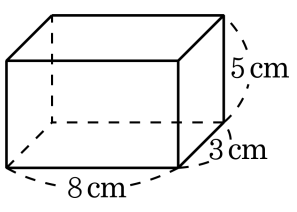

답: _____ cm^2

17. 다음 직육면체의 모서리의 길이의 합이 68 cm 일 때, □안에 알맞은 수를 써넣으시오.

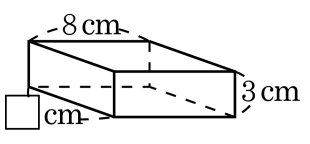

답: _____ cm

18. 한 개에 300원 하는 오이가 있습니다. 오이 30개를 사는데 가 상점에서는 오이 10개를 사면 오이 한 개를 더 주고, 나 상점에서는 오이 10개를 사면 오이 한개의 값을 할인해 준다고 합니다. 어느 상점에서 사는 것이 더 싼 셈입니까?

답: _____ 상점

19. 은정이네 반 남학생 20명의 몸무게 평균과 여학생 18명의 몸무게의 평균 35.5kg 으로 남녀 전체 평균을 내어 보니 반올림하여 36.1kg 이었습니다. 남학생의 몸무게 평균은 얼마인지 반올림하여 소수 첫째 자리까지 구하시오.

답: _____ kg

20. 한 문제에 5점인 어떤 시험에서 남학생 15명의 평균 점수는 88점이고, 여학생 15명의 점수를 더해 평균을 구했더니 84점이 되었습니다. 남학생들이 맞은 문제 수의 합계와 여학생들이 맞은 문제 수의 합계의 합을 구하시오.

답: _____ 문제