1. 다음 중 제곱근을 구할 수 있는 수를 모두 고르면?

① 7 ② 3 ③ -25 ④ -9 ⑤ -4

2. $7 < \sqrt{10x^2} < 12$ 이 성립할 때, 정수 x 의 값을 모두 구하면?

① ± 1 ② ± 2 ③ ± 3 ④ ± 4 ⑤ ± 5

3. 다음 중 대소비교가 옳은 것을 모두 고르면?

㉠ $\sqrt{5}-\sqrt{2}<\sqrt{5}$	㉡ $4-\sqrt{5}>3-\sqrt{6}$
㉢ $\sqrt{5}-\sqrt{2}<\sqrt{5}-1$	

① ㉠ ② ㉠,㉡ ③ ㉡,㉢
④ ㉠,㉢ ⑤ ㉠,㉡,㉢

4. $\sqrt{175} = a\sqrt{7}$, $\sqrt{1200} = b\sqrt{3}$ 일 때, ab 의 값으로 알맞은 것을 고르면?

① 80 ② 100 ③ 120 ④ 140 ⑤ 160

5. $\frac{\sqrt{20}}{\sqrt{5}} \times \sqrt{15} \div \sqrt{10}$ 를 간단히 하면?

① $\sqrt{2}$ ② $\sqrt{3}$ ③ 2 ④ $\sqrt{5}$ ⑤ $\sqrt{6}$

6. 다음 중 옳지 <u>않은</u> 것은?

① $3\sqrt{2} = \sqrt{18}$

② $-3\sqrt{3} = -\sqrt{27}$

③ $\frac{\sqrt{5}}{2} = \sqrt{\frac{5}{4}}$

④ $-\frac{\sqrt{2}}{3} = -\sqrt{\frac{2}{9}}$

⑤ $\frac{2\sqrt{2}}{5} = \sqrt{\frac{4}{25}}$

7. $\frac{\sqrt{2}}{\sqrt{5}}$ 의 분모를 유리화한 것으로 옳은 것은?

① $\frac{\sqrt{10}}{5}$ ② $\frac{\sqrt{2}}{5}$ ③ $\frac{2}{5}$ ④ $\frac{\sqrt{5}}{2}$ ⑤ $\frac{5}{2}$

8. $A = \sqrt{2} + \sqrt{3}$, $B = \sqrt{6} - \sqrt{3}$ 일 때, $\sqrt{2}A - \sqrt{3}B$ 의 값은?

① $\sqrt{6} - 3\sqrt{2} + 5$
② $\sqrt{6} + 3\sqrt{2} - 5$
③ $\sqrt{6} - 3\sqrt{2} - 5$
④ $-\sqrt{6} - 3\sqrt{2} + 5$
⑤ $-\sqrt{6} + 3\sqrt{2} - 5$

9. 다음 그림에서 두 정사각형의 넓이가 각각 12 , 27 일 때, $\overline{AC}$의 길이를 구하면?

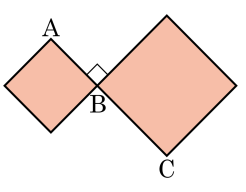

① $3\sqrt{3}$ ② $4\sqrt{2}$ ③ $5\sqrt{3}$
④ $6\sqrt{2}$ ⑤ $9\sqrt{3}$

10. 다음 중 $\sqrt{23} = 4.796$ 임을 이용하여 제곱근의 값을 구할 수 있는 것은 모두 몇 개인가?

㉠ $\sqrt{0.023}$	㉡ $\sqrt{230}$
㉢ $\sqrt{0.23}$	㉣ $\sqrt{23000}$

① 0 개 ② 1 개 ③ 2 개 ④ 3 개 ⑤ 4 개

11. $3-\sqrt{2}$ 의 소수 부분은?

① $\sqrt{2}-3$ ② $2-\sqrt{2}$ ③ $\sqrt{2}-2$
④ $-\sqrt{3}-1$ ⑤ $\sqrt{3}-2$

12. 다음 값을 근호를 사용하지 않고 나타낸 것으로 올바르지 <u>않은</u> 것은?

① $\sqrt{16} = 4$

② $\sqrt{0.16} = 0.4$

③ $-\sqrt{\frac{121}{64}} = -\frac{11}{8}$

④ $\sqrt{(-0.1)^2} = -0.1$

⑤ $-\sqrt{\left(\frac{5}{10}\right)^2} = -\frac{1}{2}$

13. $\sqrt{125x}$ 가 자연수가 되게 하는 가장 작은 자연수 x 의 값을 구하면?

① 2 ② 3 ③ 4 ④ 5 ⑤ 6

14. 다음 중 $\sqrt{13+x}$ 가 정수가 되도록 하는 자연수 x 가 아닌 것은?

① 3 ② 12 ③ 23 ④ 36 ⑤ 50

15. 다음에서 제곱근이 유리수인 것을 모두 고른 것은?

㉠ 12	㉡ $\frac{9}{25}$	㉢ $0.\dot{4}$
㉣ 0.049	㉤ $\frac{3}{5}$	㉥ 0.01

① ㉡, ㉢　② ㉢, ㉣　③ ㉢, ㉣, ㉥
④ ㉡, ㉢, ㉥　⑤ ㉡, ㉢, ㉣

16. 다음 중 옳지 <u>않은</u> 것은?

① 순환소수는 유리수이다.

② 유한소수는 유리수이다.

③ 무한소수는 무리수이다.

④ 원주율과 $\sqrt{1000}$ 은 무리수이다.

⑤ 무리수는 실수이다.

17. 다음 그림에서 사각형 ABCD 는 한 변의 길이가 1 인 정사각형일 때, 수직선 위의 점 P 에 대응하는 수는?

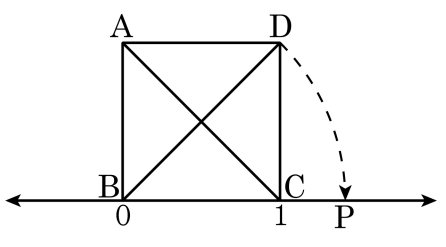

① $\sqrt{2}-1$　② $1-\sqrt{2}$　③ $\sqrt{2}$

④ $2\sqrt{2}$　⑤ $\sqrt{2}+1$

18. 다음 설명 중 옳지 <u>않은</u> 것은?

① 두 정수 0 과 1 사이에는 무수히 많은 무리수가 있다.

② 두 무리수 $\sqrt{2}$ 와 $\sqrt{3}$ 사이에는 무수히 많은 유리수가 있다.

③ 모든 유리수는 수직선 위에 나타낼 수 있다.

④ 모든 실수는 수직선 위의 모든 점과 일대일 대응된다.

⑤ 수직선은 유리수에 대응하는 점으로 완전히 메워져 있다.

19. 세 수 $1+\sqrt{2}$, $\sqrt{5}+\sqrt{2}$, $\sqrt{2}+\sqrt{3}$ 를 작은 순서대로 바르게 나타낸 것은?

① $\sqrt{2}+\sqrt{3} < 1+\sqrt{2} < \sqrt{5}+\sqrt{2}$

② $\sqrt{2}+\sqrt{3} < \sqrt{5}+\sqrt{2} < 1+\sqrt{2}$

③ $1+\sqrt{2} < \sqrt{5}+\sqrt{2} < \sqrt{2}+\sqrt{3}$

④ $1+\sqrt{2} < \sqrt{2}+\sqrt{3} < \sqrt{5}+\sqrt{2}$

⑤ $\sqrt{5}+\sqrt{2} < \sqrt{2}+\sqrt{3} < 1+\sqrt{2}$

20. $\sqrt{2} = x$, $\sqrt{3} = y$ 라고 할 때, 12 를 x, y 를 이용해 나타낸 것으로 옳은 것은?

① x^4y^3 ② x^4y^2 ③ x^7 ④ x^3y^3 ⑤ x^3y^4

21. $\sqrt{3}=a$, $\sqrt{7}=b$ 라 할 때, $3\sqrt{7}+\sqrt{3}-4\sqrt{7}-5\sqrt{3}$ 을 간단히 하여 a, b 로 나타내면?

① $-4a-b$ ② $-4a+b$ ③ $4a-5b$
④ $4a-b$ ⑤ $4a+3b$

22. $\sqrt{8}-\dfrac{1}{\sqrt{18}}+\dfrac{1}{\sqrt{32}}=k\sqrt{2}$ 일 때, k 의 값은?

① 2 ② $\dfrac{23}{12}$ ③ $\dfrac{47}{24}$ ④ 3 ⑤ $\dfrac{57}{24}$

23. 가로의 길이가 $9\,\mathrm{cm}$, 세로의 길이가 $6\,\mathrm{cm}$ 인 직사각형과 넓이가 같은 정사각형의 한 변의 길이는?

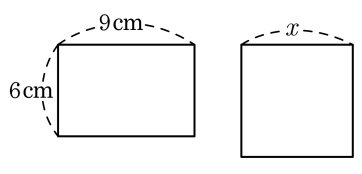

① $2\sqrt{6}\,\mathrm{cm}$ ② $3\sqrt{3}\,\mathrm{cm}$ ③ $3\sqrt{6}\,\mathrm{cm}$

④ $4\sqrt{3}\,\mathrm{cm}$ ⑤ $4\sqrt{6}\,\mathrm{cm}$

24. 제곱근 $2.\dot{9}\dot{9}$ 의 값과 2 를 제곱근으로 갖는 수의 제곱근의 합을 구하면?

① 0 ② $\sqrt{3}$ ③ 7 ④ 8 ⑤ $\sqrt{2}$

25. $0 < a < 1$ 일 때, $\sqrt{(1-a)^2} - \sqrt{(a-1)^2}$ 을 간단히 하면?

① 0　　② 2　　③ $2a-2$

④ $2a+2$　　⑤ $-2a+2$

26. $\sqrt{50-x}$ 가 자연수가 되도록 하는 자연수 x 중 세번째로 작은 값은?

① 1 ② 5 ③ 9 ④ 14 ⑤ 25

27. $\sqrt{\left(\sqrt{3}-2\right)^2}-\sqrt{\left(2-\sqrt{3}\right)^2}$을 계산하면?

① $1-\sqrt{3}$ ② $5-3\sqrt{3}$ ③ 0

④ $-5-\sqrt{3}$ ⑤ $5-\sqrt{3}$

28. 다음 중 아래 수직선에서의 점 A , 점 B 의 좌표를 고르면?

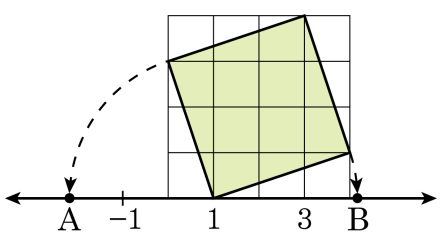

① 점 A :$1-\sqrt{10}$, 점 B :$1+\sqrt{10}$

② 점 A :$1+\sqrt{10}$, 점 B :$1-\sqrt{10}$

③ 점 A :$1+\sqrt{10}$, 점 B :$1+\sqrt{10}$

④ 점 A :$-1-\sqrt{10}$, 점 B :$-\sqrt{10}$

⑤ 점 A :$1-\sqrt{10}$, 점 B : $\sqrt{10}$

29. 다음은 수직선을 보고 설명한 것이다. 다음 중 <u>틀린</u> 것을 모두 고르면?

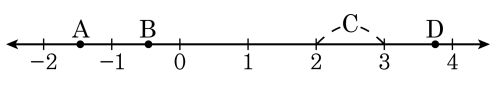

① $\sqrt{15}$ 는 3 과 4 사이에 위치한다.

② $-\sqrt{2}$ 는 점 B 에 위치한다.

③ A 와 B 사이에는 무한 개의 유리수가 존재한다.

④ $\sqrt{2}$, $\sqrt{3}$, $\sqrt{4}$, $\sqrt{5}$, $\sqrt{6}$, $\sqrt{7}$, $\sqrt{8}$ 중 구간 C 에 속하는 무리수는 모두 7 개이다.

⑤ $2\sqrt{3}$ 에 대응하는 점은 D 이다.

30. $\sqrt{12} \times \sqrt{15} \times \sqrt{35} = a\sqrt{7}$ 일 때 a 의 값을 구하면?

① 6 ② 15 ③ 24 ④ 30 ⑤ 36

31. 다음 식을 간단히 하면?

$$\sqrt{225} - \sqrt{(-6)^2} + \sqrt{(-3)^2 \times 2^4} - \sqrt{5^2} - \left(-\sqrt{3}\right)^2$$

① -11 ② 7 ③ 10 ④ 13 ⑤ 19

32. $a > 0$ 일 때, $A = \sqrt{(-a)^2} + (-\sqrt{a})^2 + \sqrt{a^2} - \sqrt{a^2}$ 일 때, $\sqrt{A}$ 의 값은?

① $-3a$ ② $-2a$ ③ a ④ $\sqrt{2a}$ ⑤ $\sqrt{3a}$

33. $0 < a < 1$ 일 때, 다음 중 가장 큰 것은?

① a ② a^3 ③ $\sqrt{a}$ ④ $\frac{1}{a^3}$ ⑤ $\frac{1}{\sqrt{a}}$

34. 아래와 같은 세 수의 대소 관계를 부등호로 나타내면?

$$a = 4\ ,\ b = 5 - \sqrt{2}\ ,\ c = \sqrt{17}$$

① $a < b < c$　② $b < a < c$　③ $c < a < b$
④ $b < c < a$　⑤ $a < c < b$

35. 다음 제곱근표를 이용하여 $\sqrt{55}$ 의 값을 구하면?

수	0	1	2	3	4	5
2.0	1.41	1.41	1.42	1.42	1.42	1.43
2.1	1.44	1.45	1.45	1.45	1.46	1.46
2.2	1.48	1.48	1.49	1.49	1.49	1.50
2.3	1.51	1.52	1.52	1.52	1.53	1.53
2.4	1.54	1.55	1.55	1.55	1.56	1.56

① 5.93 ② 7.56 ③ 7.50 ④ 7.40 ⑤ 6.19

36. $\sqrt{(2-\sqrt{5})^2}+\sqrt{(2+\sqrt{5})^2}$ 의 식을 간단히 하면?

① $\sqrt{5}$ ② 0 ③ $2\sqrt{5}$

④ 4 ⑤ $2\sqrt{5}+4$

37. $\sqrt{40-x}$ 의 값이 자연수가 되도록 하는 가장 작은 자연수 x는?

① 1 ② 4 ③ 7 ④ 10 ⑤ 15

38. $\sqrt{\sqrt{81}} - \sqrt{0.09} + \sqrt{(0.9)^2} - \sqrt{\frac{1}{16}}$ 을 계산하면?

① 3.05 ② 3.15 ③ 3.25 ④ 3.35 ⑤ 3.45

39. $\sqrt{12} - 3\sqrt{48} - \sqrt{3} + \sqrt{27} = \mathrm{A}\sqrt{3}$ 일 때, 유리수 A 의 값은?

① -5 ② -6 ③ -7 ④ -8 ⑤ -9

40. $\sqrt{3}$ 의 정수 부분을 a , 소수 부분을 b 라 할 때, $2a+b$ 의 값은 얼마인가?

① $\sqrt{3}$ ② $1+\sqrt{3}$ ③ $2+\sqrt{3}$
④ 5 ⑤ $2+2\sqrt{3}$

41. $\dfrac{7+6\sqrt{6}}{\sqrt{3}}-4\left(\sqrt{2}+\dfrac{\sqrt{3}}{3}\right)$ 을 간단히 하면?

① $\sqrt{2}-2\sqrt{3}$ ② $\sqrt{2}+2\sqrt{3}$ ③ $\sqrt{3}-2\sqrt{2}$
④ $\sqrt{3}+2\sqrt{2}$ ⑤ $\sqrt{5}-2\sqrt{2}$

42. $a = \sqrt{3} + 3\sqrt{2},\ b = 6\sqrt{3} - 2\sqrt{2}$ 일 때, $5a + 3b$ 를 간단히 하면?

① $9\sqrt{2} + 21\sqrt{3}$ ② $9\sqrt{2} + 22\sqrt{3}$ ③ $9\sqrt{2} + 23\sqrt{3}$
④ $9\sqrt{2} + 24\sqrt{3}$ ⑤ $9\sqrt{2} + 25\sqrt{3}$

43. 16 의 제곱근 중 작은 수와 121 의 제곱근 중 큰 수의 합을 구하면?

① -7 ② 4 ③ 7 ④ 15 ⑤ 20

44. a의 값의 범위가 $-2 < a < 2$ 일 때, $\sqrt{(a-2)^2} - \sqrt{(a+2)^2}$ 의 식을 간단히 하면?

① 0　　② $-2a-4$　　③ -4

④ $-2a$　　⑤ $2a$

45. $3 < x < 4$ 일 때, $\sqrt{(3-x)^2} - \sqrt{(x-4)^2}$ 을 간단히 하면?

① $2x-1$ ② $2x-3$ ③ $2x-5$
④ $2x-7$ ⑤ $2x-9$

46. 다음 중 $\sqrt{5}$ 와 $\sqrt{10}$ 사이에 있는 무리수는?

① $\sqrt{5}-1$ ② $2\sqrt{5}$ ③ $\sqrt{10}-2$
④ $\dfrac{\sqrt{5}+\sqrt{10}}{2}$ ⑤ 4

47. 다음 그림에서 수직선 위의 사각형은 정사각형이다. 이때, 점 $\mathrm{P}(a)$, $\mathrm{Q}(b)$ 에서 $a-b$ 의 값을 구하면?

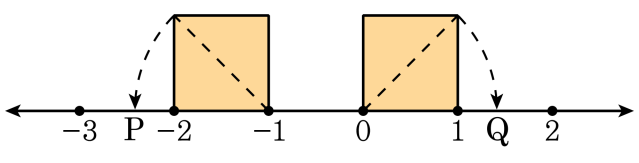

① $-1-2\sqrt{2}$ ② $-1+2\sqrt{2}$ ③ $1-2\sqrt{2}$

④ $-1-\sqrt{2}$ ⑤ $-1+\sqrt{2}$

48. 다음은 수직선 위에 정사각형 ABCD 를 그린 것이다. 점 P 에 대응하는 점의 값은 얼마인가?

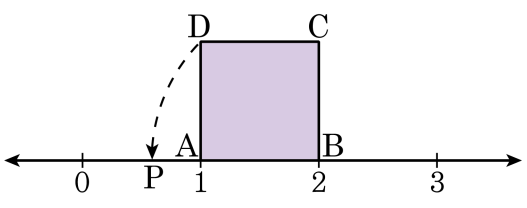

① $1-\sqrt{2}$ ② $1-\sqrt{3}$ ③ $2-\sqrt{2}$

④ $2-\sqrt{3}$ ⑤ $2-\sqrt{5}$

49. 다음 중 두 실수의 대소 관계가 옳지 <u>않은</u> 것은?

① $\sqrt{5}-1>1$

② $5-\sqrt{5}>5-\sqrt{6}$

③ $\sqrt{2}-1<\sqrt{3}-1$

④ $\sqrt{18}+2>\sqrt{15}+2$

⑤ $-\sqrt{6}>-\sqrt{5}$

50. 다음 중 $\sqrt{3}$ 와 $\sqrt{11}$ 사이에 있는 무리수는?

① $\sqrt{3}-1$ ② $2\sqrt{3}$ ③ $\sqrt{11}-3$
④ $\sqrt{3}+3$ ⑤ $\dfrac{\sqrt{3}+\sqrt{11}}{2}$