1. 다음 중 계산을 바르게 한 것은 어느 것입니까?

① $3 \div 4 = \frac{4}{3}$ ② $\frac{6}{9} \div 3 = \frac{18}{9}$ ③ $9 \div 2 = 4\frac{1}{2}$
④ $5 \div 9 = 1\frac{4}{5}$ ⑤ $\frac{2}{5} \div 12 = 1\frac{2}{5}$

2. 가분수를 자연수로 나눈 몫을 분수로 나타낸 것은 어느 것입니까?

$\frac{13}{6}$ 3

① $\frac{2}{13}$ ② $\frac{13}{2}$ ③ $\frac{18}{13}$ ④ $\frac{13}{18}$ ⑤ $\frac{13}{9}$

3. 다음을 계산하시오.

$$5\frac{1}{7} \div 3 \div 9$$

① $\frac{1}{21}$ ② $\frac{2}{21}$ ③ $\frac{4}{21}$ ④ $\frac{8}{21}$ ⑤ $\frac{10}{21}$

4. $\boxed{}$ 안에 알맞은 수를 번호순서대로 써넣으시오.

$$2\frac{1}{3} \div 2 \times 3 = \frac{\boxed{①}}{3} \div 2 \times 3 = \frac{\boxed{②} \times 1 \times \boxed{③}}{3 \times \boxed{④}}$$

답: _____

답: _____

답: _____

답: _____

5. $\square$ 안에 알맞은 수를 찾아 기호를 써넣으시오.

$$2 \div 5 = 2 \times \square$$

㉠ $\frac{1}{5}$ ㉡ $\frac{1}{4}$ ㉢ $\frac{1}{7}$ ㉣ $\frac{1}{3}$

답: _____

6. 나눗셈의 몫과 크기가 <u>다른</u> 것을 모두 고르시오.

$43 \div 5$

① $43 \div \frac{1}{5}$　② $\frac{5}{43}$　③ $\frac{43}{5}$
④ $8\frac{3}{5}$　⑤ $5 \div 43$

7. 철사 $8\frac{2}{5}$ m를 4 명이 똑같이 나누어 가지려고 합니다. 한 명이 몇 m 씩 가지면 되는지 구하시오.

답: _____ m

8. 넓이가 $6\,\mathrm{m}^2$ 인 직사각형 모양의 꽃밭이 있습니다. 가로의 길이가 $2\frac{1}{2}\,\mathrm{m}$ 이면 세로의 길이는 몇 m 인지 구하시오.

① $1\frac{2}{5}\,\mathrm{m}$ ② $2\frac{2}{5}\,\mathrm{m}$ ③ $3\frac{2}{5}\,\mathrm{m}$ ④ $4\frac{2}{5}\,\mathrm{m}$ ⑤ $5\frac{2}{5}\,\mathrm{m}$

9. 다음을 계산하시오.

$11\frac{1}{3}$ 의 반의 반

① $1\frac{1}{6}$ ② $2\frac{5}{6}$ ③ $3\frac{2}{3}$ ④ $6\frac{1}{6}$ ⑤ $11\frac{2}{3}$

10. $\frac{3}{8}$ 의 5 배의 반은 얼마인지 구하시오.

① $2\frac{1}{2}$ ② $1\frac{7}{8}$ ③ $\frac{15}{16}$ ④ $\frac{7}{20}$ ⑤ $\frac{3}{40}$

11. 다음 나눗셈을 곱셈으로 나타내보고 몫이 큰 수의기호를 쓰시오.

㉠ $8 \div 15$	㉡ $12 \div 7$

답: _____

12. 다음 중 몫이 가장 큰 것은 어느 것입니까?

① $3\frac{1}{4} \div 6$ ② $5\frac{1}{6} \div 6$ ③ $1\frac{6}{7} \div 3$
④ $4\frac{2}{5} \div 5$ ⑤ $2\frac{5}{8} \div 6$

13. 무게가 똑같은 연필 4 다스의 무게를 재었더니 $144\frac{4}{5}$ g이었습니다. 이 연필 한 자루의 무게는 몇 g인지 구하시오.

답: _____ g

14. 넓이가 $42\frac{6}{7}\,\mathrm{cm}^2$ 이고, 세로가 $5\,\mathrm{cm}$ 인 직사각형을 똑같이 4 조각으로 나누었습니다. 한 조각의 가로는 몇 cm 인지 구하시오.

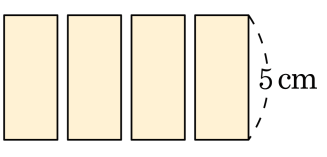

① $\frac{2}{7}\,\mathrm{cm}$ ② $2\frac{1}{7}\,\mathrm{cm}$ ③ $4\frac{3}{7}\,\mathrm{cm}$
④ $6\frac{2}{7}\,\mathrm{cm}$ ⑤ $8\frac{4}{7}\,\mathrm{cm}$

15. 가$=3\frac{1}{5}$, 나$=4$, 다$=6$ 일 때, 다음 식의 값을 구하시오.

$$\frac{가}{나} \times 다$$

① $\frac{4}{5}$ ② $1\frac{4}{5}$ ③ $2\frac{4}{5}$ ④ $3\frac{4}{5}$ ⑤ $4\frac{4}{5}$

16. 어떤 버스가 5km 600m 를 가는 데 6L 의 석유가필요하다고 합니다. 같은 빠르기로 달릴 때 4L 500mL 의 석유로는 몇 km 를 갈 수 있는지 구하시오.

① $\frac{14}{15}$km ② $\frac{3}{4}$km ③ $2\frac{2}{3}$km
④ $4\frac{1}{5}$km ⑤ $6\frac{3}{5}$km

17. 하나에 연필이 3 다스씩 들어 있는 필통 4 개의 무게가 $3\frac{1}{9}$kg 입니다. 비어 있는 필통의 무게가 500g 이라면, 연필 15 자루의 무게는 몇 kg 인지 구하시오.

① $\frac{7}{9}$kg ② $\frac{5}{18}$kg ③ $\frac{5}{36}$kg
④ $\frac{19}{108}$kg ⑤ $\frac{25}{216}$kg

18. 다음 그림과 같이 정사각형을 합동인 4 개의 직사각형으로 나누었습니다. 색칠한 직사각형의 둘레가 90 cm라면, 정사각형의 둘레는 몇 cm인지 구하시오.

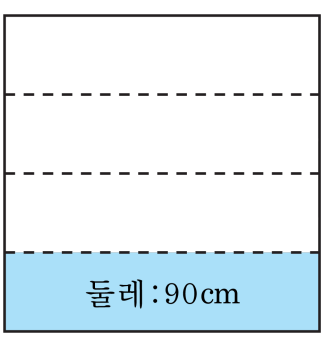

답: _____ cm

19. 다음을 계산하여보고 답이 가장 큰 것을 고르시오.

㉠ $\frac{1}{3} \times 7 \div 5$	㉡ $\frac{3}{8} \times 5 \div 4$	㉢ $1\frac{2}{7} \times 3 \div 8$
㉣ $2\frac{3}{4} \times 5 \div 7$	㉤ $1\frac{2}{9} \times 4 \div 3$	㉥ $3\frac{1}{6} \times 5 \div 11$

답: _____

20. 사과를 수확하는 데 3 명이 5 일 동안 전체 일의 $\frac{1}{4}$ 을 하였다면 앞으로 며칠을 더 일해야 끝낼 수 있는지 구하시오.

답: _____ 일

21. 넓이가 $9\frac{3}{7}\,\mathrm{m}^2$ 인 직사각형 모양의 꽃밭이 있습니다. 가로의 길이가 $6\,\mathrm{m}$ 일 때, 이 꽃밭의 둘레의 길이는 몇 m 인지 구하시오.

① $1\frac{4}{7}\,\mathrm{m}$ ② $3\frac{1}{7}\,\mathrm{m}$ ③ $7\frac{3}{8}\,\mathrm{m}$
④ $15\frac{1}{7}\,\mathrm{m}$ ⑤ $20\frac{1}{4}\,\mathrm{m}$

22. 가$=6\frac{2}{3}$, 나$=15$, 다$=3\frac{3}{8}$ 일 때, 다음 식의 값을 구하시오.

$\frac{\text{다}}{\text{나}}\times\text{가}$

답: _____

23. 도형에서 색칠한 부분의 넓이를 고르시오.

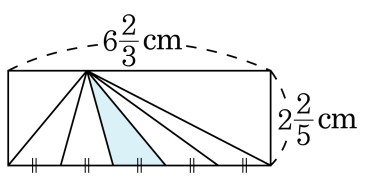

① $1\frac{1}{3}$ cm^2　② $1\frac{2}{3}$ cm^2　③ $1\frac{1}{5}$ cm^2
④ $1\frac{2}{5}$ cm^2　⑤ $1\frac{3}{5}$ cm^2

24. $7\frac{1}{12}$ cm인 끈을 가지고 정오각형 모양을 한 개 만들려고 합니다. 이 때 세 변의 길이는 몇 cm입니까?

① $1\frac{1}{4}$ cm ② $2\frac{1}{4}$ cm ③ $3\frac{1}{4}$ cm
④ $4\frac{1}{4}$ cm ⑤ $5\frac{1}{4}$ cm

25. $3\frac{1}{5}$ 을 어떤 수로 나누었더니 분자가 1 인 기약분수가 되었습니다. 어떤 수 중에서 가장 작은 수를 구하시오.

답: _____