1. 수직선에 나타낸 수의 범위에 속하지 <u>않는</u> 것은 어느 것입니까?

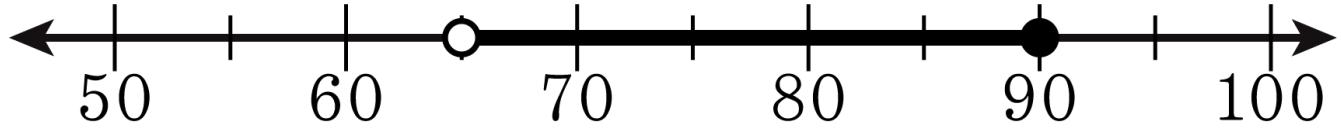

① $65\frac{1}{5}$ ② 75.5 ③ 90 ④ $72\frac{3}{4}$ ⑤ 91.5

2. 65세 이상이면 지하철을 무료로 이용 할 수 있습니다. 무료로 이용 할 수 없는 나이로 짝지어진 것은 어느 것입니까?

① 60세, 67세 ② 65세, 80세 ③ 66세, 75세

④ 70세, 75세 ⑤ 64세, 62세

3. 21초과 26미만의 짝수의 개수와 15초과 20미만의 홀수의 개수의 합의 구하시오.

답: _____

4. 실수로 동전을 하수구 구멍에 빠뜨렸습니다. 막대 끝에 접착제를 묻혀 동전을 꺼내려고 합니다. 하수구 구멍의 지름이 7 cm 일 때, 사용할 수 없는 막대는 어느 것입니까? (단, 동전의 크기는 하수구 구멍보다 작고, 막대의 길이는 생각하지 않습니다.)

① $3\frac{1}{6}$ cm ② $5\frac{1}{2}$ cm ③ $8\frac{1}{2}$ cm

④ 2.4 cm ⑤ 6.4 cm

5. 10초과 50이하의 범위에도 속하고 21이상 70미만의 범위에도 속하는 수 중에서 3으로 나누어떨어지는 수는 모두 몇 개입니까?

답: _____ 개

6. 어떤 놀이기구는 몸무게가 25 kg 이하인 사람과 70 kg 이상인 사람은 탈 수 없다고 합니다. 이 놀이기구를 탈 수 있는 사람의 몸무게의 범위를 바르게 나타낸 것은 어느 것입니까?

① 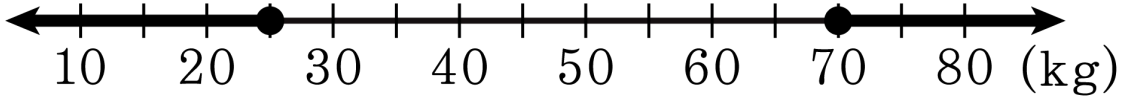

② 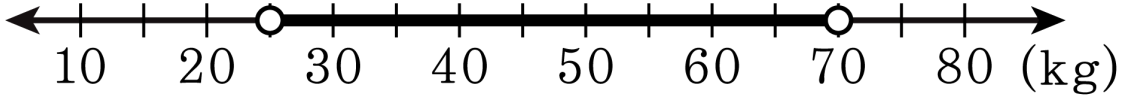

③ 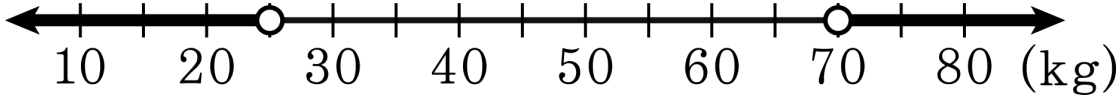

④ 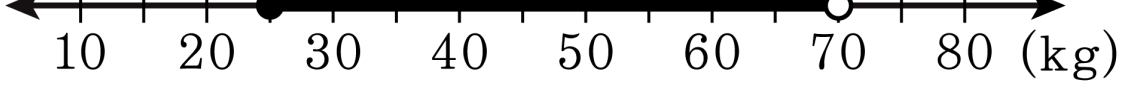

⑤ 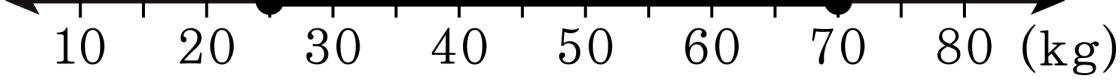

7. 다음 수 중에서 버림하여 천의 자리까지 나타낸 수가 잘못된 것은 어느것입니까?

① $32510 \rightarrow 32000$

② $72003 \rightarrow 72000$

③ $23627 \rightarrow 23700$

④ $57294 \rightarrow 57000$

⑤ $98240 \rightarrow 98000$

8. 다음 수를 올림하여 백의 자리까지 나타낼 때 50000이 되지 <u>않는</u> 수를 모두 고르면?

① 49876 ② 49990 ③ 49901

④ 49912 ⑤ 50057

9. 10 명씩 탈 수 있는 보트가 있다. 152 명의 사람들이 모두 보트를 타려면 보트는 최소한 몇 척이 있어야 하는지 구하여라.

답: _____ 척

10. 다음 중 십의 자리까지 나타낼 때, 반올림하거나 올림하여도 같은 수로 나타내어지는 것을 고르시오.

① 1374 ② 281 ③ 4095 ④ 8273 ⑤ 5324

11. 다음 중 버림하여 백의 자리까지 나타냈을 때, 1620에 가장 가까운 수를 고르시오.

① 1599 ② 1699 ③ 1545 ④ 1701 ⑤ 1899

12. 백의 자리에서 반올림하여 50000이 되는 자연수의 범위를 구하시오.

① 49550부터 50499까지

② 49500부터 50499까지

③ 49000부터 50500까지

④ 49500부터 49550까지

⑤ 49500부터 50500까지

13. 어떤 자연수를 십의 자리에서 반올림하였더니 200이 되었습니다. 어떤 자연수의 범위를 $\square$ 이상과 $\square$ 이하인지 차례대로 구하시오.

답: _____

답: _____

14. 다음 표는 도로별 차량의 제한 속도를 나타낸 것입니다. 다음 보기 중 4차선 고속도로에서 제한 속도를 어긴 것은 어느 것입니까?

도로구분		제한속도(km/h)
고속도로	4차선 이상	50 이상 100 이하
	2차선	40 이상 80 이하
일반도로	4차선 이상	70 이하
	4차선 미만	60 이하

① 시속 70 km ② 시속 50 km ③ 시속 110 km

④ 시속 80 km ⑤ 시속 90 km

15. 35 명 초과 40 명 이하의 사람이 타야 출발하는 버스가 있습니다. 현재 23 명이 버스를 타고 있다면, 앞으로 적어도 몇 명이 더 타야 출발할 수 있습니까?

답: _____ 명

16. 사과가 872 개, 귤이 686 개 있습니다. 이 과일을 10 개들이 상자에 모두 담으려고 합니다. 상자는 몇 개가 필요한지 구하시오.

답: _____ 개

17. 어떤 수를 버림하여 십의 자리까지 나타내면 740 이고, 올림하여 십의 자리까지 나타내면 750 입니다. 이 수를 반올림하여 십의 자리까지 나타내면 750 일 때, 어떤 수 중 가장 큰 수를 구하시오.

답: _____

18. 아버지는 감을 538 개 따셨고, 어머니는 362 개를 따셨다. 아버지와 어머니가 딴 감을 한 상자에 50 개씩 넣어서 7000 원씩 팔려고 한다. 아버지와 어머니가 따신 귤을 각자 파는 경우와 같이 합하여 파는 경우의 판매금액의 차이를 구하여라.

답: _____ 원

19. 다음 $\square$에 알맞은 수를 차례대로 쓰시오.

학생들이 강당의 긴 의자에 5 명씩 앉으면 67 개의 의자가 필요하고, 7 명씩 앉으면 48 개의 의자가 필요합니다. 학생 수는 $\square$명 이상 $\square$명 이하입니다.

답: _____

답: _____

20. 30 이상 100 이하인 자연수의 합과 30 초과 100 미만인 자연수의 합의 차를 구하시오.

답: _____