1. $\square$ 안에 알맞은 수를 차례대로 써넣은 것을 고르시오.

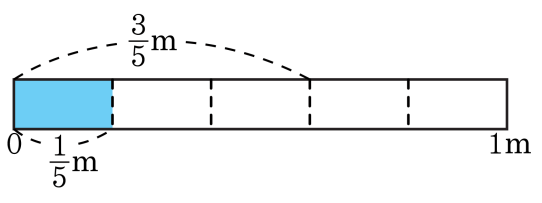

(1) $\frac{3}{5}$ m를 $\frac{1}{5}$ m씩 자르면 $\square$도막이 됩니다.

(2) $\frac{3}{5}$은 $\frac{1}{5}$이 3이므로 $\frac{3}{5} \div \frac{1}{5} = \square$입니다.

① 3, 1　② 3, 2　③ 1, 2　④ 2, 2　⑤ 3, 3

해설

(1)

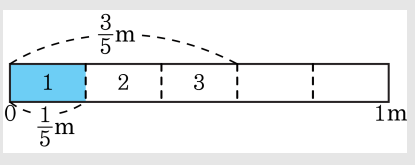

$\frac{3}{5}$ m를 $\frac{1}{5}$ m씩 자르면 3도막이 됩니다.

(2) 분모가 같으면 분자끼리 나눗셈을 합니다.

$\frac{3}{5} \div \frac{1}{5} = 3 \div 1 = 3$

2. 어떤 나무도막의 길이가 $\frac{8}{9}$ m입니다. 이 나무도막을 한 사람에게 $\frac{4}{9}$ m씩 나눠준다고 했을 때 나무도막을 가질 수 있는 사람은 모두 몇 명인지 구하시오.

▶ 답 : _____ 명

▷ 정답 : 2 명

해설

$\frac{8}{9} \div \frac{4}{9} = 2$(명)

3. 다음 중 계산을 바르게 한 것은 어느 것입니까?

① $\frac{2}{5} \div \frac{5}{6} = \frac{1}{3}$ ② $\frac{5}{9} \div \frac{2}{3} = 1\frac{1}{5}$ ③ $\frac{5}{8} \div \frac{3}{4} = \frac{5}{6}$
④ $\frac{2}{5} \div \frac{12}{13} = 2\frac{4}{13}$ ⑤ $\frac{4}{9} \div \frac{5}{6} = \frac{5}{27}$

해설

① $\frac{2}{5} \div \frac{5}{6} = \frac{2}{5} \times \frac{6}{5} = \frac{12}{25}$
② $\frac{5}{9} \div \frac{2}{3} = \frac{5}{9} \times \frac{3}{2} = \frac{5}{6}$
③ $\frac{5}{8} \div \frac{3}{4} = \frac{5}{8} \times \frac{4}{3} = \frac{5}{6}$
④ $\frac{2}{5} \div \frac{12}{13} = \frac{2}{5} \times \frac{13}{12} = \frac{13}{30}$
⑤ $\frac{4}{9} \div \frac{5}{6} = \frac{4}{9} \times \frac{6}{5} = \frac{8}{15}$

4. 다음 나눗셈을 보고, 잘못 계산한 부분을 바르게 고쳐서 나온 몫을 구하시오.

$$6 \div \frac{3}{5} = \frac{1}{6} \times \frac{5}{3} = \frac{5}{18}$$

▶ 답 :

▷ 정답 : 10

해설

나누어지는 수 6은 그대로 쓰고, 나누는 수의 분자와 분모를 바꾸어 곱합니다.

$$6 \div \frac{3}{5} = \overset{2}{\cancel{6}} \times \frac{5}{\underset{1}{\cancel{3}}} = 10$$

5. 다음 중 계산한 결과가 자연수가 아닌 것은 어느 것입니까?

① $\frac{5}{6} \div \frac{1}{6}$ ② $\frac{6}{7} \div \frac{1}{7}$ ③ $\frac{4}{5} \div \frac{2}{5}$
④ $\frac{9}{10} \div \frac{3}{10}$ ⑤ $\frac{7}{8} \div \frac{2}{8}$

해설

① $\frac{5}{6} \div \frac{1}{6} = 5 \div 1 = 5$
② $\frac{6}{7} \div \frac{1}{7} = 6 \div 1 = 6$
③ $\frac{4}{5} \div \frac{2}{5} = 4 \div 2 = 2$
④ $\frac{9}{10} \div \frac{3}{10} = 9 \div 3 = 3$
⑤ $\frac{7}{8} \div \frac{2}{8} = 7 \div 2 = \frac{7}{2} = 3\frac{1}{2}$

6. 다음 중 계산 결과가 잘못된 것은 어느 것입니까?

① $\frac{5}{4} \div \frac{1}{3} = 3\frac{1}{4}$ ② $\frac{9}{8} \div \frac{3}{4} = 1\frac{1}{2}$ ③ $\frac{8}{7} \div \frac{3}{2} = \frac{16}{21}$
④ $\frac{13}{10} \div \frac{3}{5} = 2\frac{1}{6}$ ⑤ $\frac{9}{4} \div \frac{2}{7} = 7\frac{7}{8}$

해설

① $\frac{5}{4} \div \frac{1}{3} = \frac{5}{4} \times 3 = \frac{15}{4} = 3\frac{3}{4}$

7. 크기를 비교하여 ○ 안에 >, =, <를 알맞게 써넣으시오.

$$8 \div \frac{6}{15} \bigcirc 12 \div \frac{3}{5}$$

▶ 답 :

▷ 정답 : =

해설

$8 \div \frac{6}{15} = 8 \times \frac{15}{6} = 20$

$12 \div \frac{3}{5} = 12 \times \frac{5}{3} = 20$

따라서 $8 \div \frac{6}{15} = 12 \div \frac{3}{5}$

8. 넓이가 $7\,\mathrm{m}^2$ 인 벽을 칠하는 데 $\frac{1}{3}\,\mathrm{L}$ 의 페인트가 들었습니다. $1\,\mathrm{L}$ 의 페인트로는 몇 m^2 의 벽을 칠할 수 있겠습니까?

▶ 답 : _____ m^2

▷ 정답 : $21\,\mathrm{m}^2$

해설

$7 \div \frac{1}{3} = 7 \times 3 = 21(\mathrm{m}^2)$

9. $4\,\mathrm{m}$의 리본을 $\frac{1}{8}\,\mathrm{m}$씩 자른다면 몇 도막으로 나눌 수 있습니까?

▶ 답 : _____ 도막

▷ 정답 : 32도막

해설

$4 \div \frac{1}{8} = 4 \times 8 = 32$(도막)

10. $\square$ 안에 알맞은 자연수를 차례대로 써넣으시오.

$$4 \div \frac{1}{7} = \square \times \square = \square$$

▶ 답 :

▶ 답 :

▶ 답 :

▷ 정답 : 4

▷ 정답 : 7

▷ 정답 : 28

해설

$4 \div \frac{1}{7} = 4 \times 7 = 28$

11. 리본 하나를 만드는 데 색 테이프가 $\frac{3}{4}$ m 필요하다고 합니다. 6 m의 색 테이프로 리본 몇 개를 만들 수 있는지 구하시오.

▶ 답 : _____ 개

▷ 정답 : 8 개

해설

$6 \div \frac{3}{4} = 6 \times \frac{4}{3} = 8$(개)

12. 직사각형 넓이가 $5\frac{5}{6}\,\mathrm{cm}^2$ 이고, 세로는 $1\frac{2}{3}\,\mathrm{cm}$ 일 때, 가로는 몇 cm 입니까? (소수로 답하시오.)

▶ 답 : _____ cm

▷ 정답 : 3.5 cm

해설

(가로의 길이) $= 5\frac{5}{6} \div 1\frac{2}{3} = \frac{35}{6} \div \frac{5}{3}$

$= \frac{7}{2} = 3\frac{1}{2} = 3.5(\mathrm{cm})$

13. ○ 안에 >, =, <를 알맞게 써넣으시오.

$$5\frac{3}{8} \div 2\frac{1}{4} \bigcirc 4\frac{2}{9} \div 1\frac{1}{3}$$

▶ 답 :

▷ 정답 : <

해설

$5\frac{3}{8} \div 2\frac{1}{4} = \frac{43}{8} \div \frac{9}{4} = \frac{43}{\cancel{8}_{2}} \times \frac{\cancel{4}^{1}}{9} = \frac{43}{18} = 2\frac{7}{18}$,

$4\frac{2}{9} \div 1\frac{1}{3} = \frac{38}{9} \div \frac{4}{3} = \frac{\cancel{38}^{19}}{\cancel{9}_{3}} \times \frac{\cancel{3}^{1}}{\cancel{4}_{2}} = \frac{19}{6} = 3\frac{1}{6}$

따라서 $2\frac{7}{18} < 3\frac{1}{6}$

14. $\square$ 안에 알맞은 수를 써넣으시오.

$$\frac{15}{4} \times \square = \frac{24}{5} \div \frac{12}{7}$$

▶ 답 :

▷ 정답 : $\frac{56}{75}$

해설

$$\frac{15}{4} \times \square = \frac{\overset{2}{\cancel{24}}}{5} \times \frac{7}{\underset{1}{\cancel{12}}}$$

$$\frac{15}{4} \times \square = \frac{14}{5}$$

$$\square = \frac{14}{5} \div \frac{15}{4} = \frac{14}{5} \times \frac{4}{15} = \frac{56}{75}$$

15. 가운데 수를 둘레의 수로 나누어, 다음 빈 칸에 알맞은 수를 차례대로 구하시오.

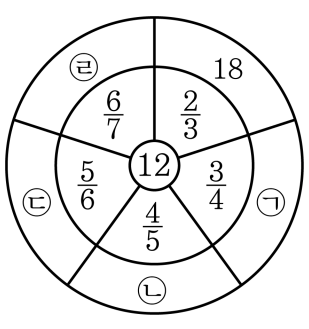

▶ 답 :

▶ 답 :

▶ 답 :

▶ 답 :

▷ 정답 : 16

▷ 정답 : 15

▷ 정답 : $14\frac{2}{5}$

▷ 정답 : 14

해설

㉠ $12 \div \frac{3}{4} = \overset{4}{\cancel{12}} \times \frac{4}{\underset{1}{\cancel{3}}} = 16$

㉡ $12 \div \frac{4}{5} = \overset{3}{\cancel{12}} \times \frac{5}{\underset{1}{\cancel{4}}} = 15$

㉢ $12 \div \frac{5}{6} = 12 \times \frac{6}{5} = \frac{72}{5} = 14\frac{2}{5}$

㉣ $12 \div \frac{6}{7} = \overset{2}{\cancel{12}} \times \frac{7}{\underset{1}{\cancel{6}}} = 14$

16. 다음을 계산하시오.

$$1\frac{1}{7} \div \left(2\frac{2}{5} \div 5\frac{1}{4}\right)$$

▶ 답 :

▷ 정답 : $2\frac{1}{2}$

해설

$$1\frac{1}{7} \div \left(2\frac{2}{5} \div 5\frac{1}{4}\right) = \frac{8}{7} \div \left(\frac{12}{5} \times \frac{4}{21}\right)$$
$$= \frac{8}{7} \div \frac{16}{35} = \frac{8}{7} \times \frac{35}{16}$$
$$= \frac{5}{2} = 2\frac{1}{2}$$

17. 다음 중 계산이 바르게 된 것은 어느 것입니까?

① $\frac{4}{18} \div \frac{4}{9} = 18 \div 9 = 2$

② $\frac{9}{10} \div \frac{20}{27} = \frac{9}{10} \times \frac{20}{27} = \frac{2}{3}$

③ $10 \div \frac{2}{5} = 10 \div 2 \div 5 = 1$

④ $\frac{5}{12} \div \frac{7}{24} = \frac{5}{12} \times \frac{24}{7} = 1\frac{3}{7}$

⑤ $\frac{1}{2} \div \frac{3}{4} = 2 \times \frac{4}{3} = 2\frac{2}{3}$

해설

① $\frac{4}{18} \div \frac{4}{9} = \frac{4}{18} \div \frac{8}{18} = 4 \div 8 = \frac{1}{2}$

② $\frac{9}{10} \div \frac{20}{27} = \frac{9}{10} \times \frac{27}{20} = 1\frac{43}{200}$

③ $10 \div \frac{2}{5} = 10 \div 2 \times 5 = 25$

⑤ $\frac{1}{2} \div \frac{3}{4} = \frac{1}{2} \times \frac{4}{3} = \frac{2}{3}$

18. 삼각형의 밑변이 $5\frac{1}{4}$ cm 이고, 넓이가 $3\frac{3}{8}$ cm^2 일 때, 삼각형의 높이를 구하는 식으로 바른 것은 어느 것입니까?

① $3\frac{3}{8} \div \left(5\frac{1}{4} \times 2\right)$
② $3\frac{3}{8} \times 5\frac{1}{4} \times \frac{1}{2}$
③ $\left(3\frac{3}{8} \div \frac{1}{2}\right) \div 5\frac{1}{4}$
④ $3\frac{3}{8} \div 2 \div 5\frac{1}{4}$
⑤ $3\frac{3}{8} \div \left(5\frac{1}{4} \div 2\right)$

해설

(삼각형의 넓이) = (밑변) × (높이) $\times\frac{1}{2}$

(높이) = (넓이) ×2÷ (밑변)

따라서 삼각형의 높이를 구하는 식은

$3\frac{3}{8} \times 2 \div 5\frac{1}{4} = \left(3\frac{3}{8} \div \frac{1}{2}\right) \div 5\frac{1}{4}$ 입니다.

19. 다음 삼각형의 넓이가 $5\frac{1}{4}\,\text{cm}^2$ 일 때, 높이는 몇 cm 입니까?

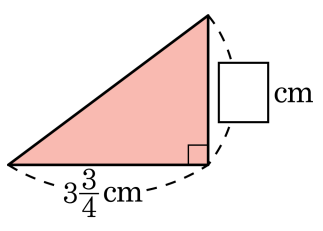

▶ 답 : _____ cm

▶ 답 : _____ cm

▷ 정답 : $2\frac{4}{5}$ cm

▷ 정답 : 2.8 cm

해설

높이를 □cm라 하면 삼각형의 넓이는

$3\frac{3}{4} \times \square \div 2 = 5\frac{1}{4}$ 입니다.

$\rightarrow 3\frac{3}{4} \times \square = 5\frac{1}{4} \times 2 = \frac{21}{\cancel{4}_{2}} \times \cancel{2}^{1} = \frac{21}{2}$

$\rightarrow \square = \frac{21}{2} \div 3\frac{3}{4} = \frac{\cancel{21}^{7}}{\cancel{2}_{1}} \times \frac{\cancel{4}^{2}}{\cancel{15}_{5}} = \frac{14}{5} = 2\frac{4}{5}$

따라서 삼각형의 높이는 $2\frac{4}{5}$ cm 입니다.

20. 다음 사각형의 넓이가 $56\frac{2}{3}\,\text{cm}^2$ 라 할 때, $\square$ 안에 알맞은 수를 구하시오.

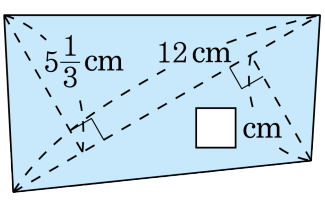

▶ 답 : _____ cm

▷ 정답 : $4\frac{1}{9}$ cm

해설

사각형의 넓이를 식으로 표현하면
다음과 같습니다.

$\left(12 \times 5\frac{1}{3} \div 2\right) + (12 \times \square \div 2) = 56\frac{2}{3}(\text{cm}^2)$

$12 \times \square \div 2 = 56\frac{2}{3} - 32$

$12 \times \square \div 2 = 24\frac{2}{3}$

$\square = 24\frac{2}{3} \times 2 \div 12$
$= \frac{74}{3} \times 2 \times \frac{1}{12} = \frac{37}{9}$
$= 4\frac{1}{9}(\text{cm})$

21. 혜정이네 화단은 직사각형 모양입니다. 화단 전체의 넓이가 $6\frac{3}{7}\,\mathrm{m}^2$ 이고 가로의 길이가 $\frac{9}{14}\,\mathrm{m}$ 라면, 세로의 길이는 몇 m 입니까?

▶ 답 : _____ m

▷ 정답 : 10 m

해설

(세로의 길이)$= 6\frac{3}{7} \div \frac{9}{14} = \frac{45}{7} \times \frac{14}{9} = 10(\mathrm{m})$

22. $8\frac{3}{4}$ L의 주스가 있습니다. 이 주스를 하루에 $1\frac{1}{4}$ L씩 마신다면 며칠 동안 마실 수 있는지 구하시오.

▶ 답 : _____ 일

▷ 정답 : 7 일

해설

$8\frac{3}{4} \div 1\frac{1}{4} = \frac{35}{4} \div \frac{5}{4} = 35 \div 5 = 7$(일)

23. 해철이는 오늘 운동을 $\frac{4}{5}$ 시간, 독서를 $\frac{8}{7}$ 시간 동안 하였습니다. 독서를 한 시간은 운동을 한 시간의 몇 배입니까?

① $\frac{7}{10}$ 배 ② $\frac{32}{35}$ 배 ③ $1\frac{3}{32}$ 배
④ $1\frac{3}{7}$ 배 ⑤ $1\frac{1}{7}$ 배

해설

$\frac{8}{7} \div \frac{4}{5} = \frac{8}{7} \times \frac{5}{4} = \frac{10}{7} = 1\frac{3}{7}$(배)

24. 케이크 한 개를 만드는 데 $1\frac{3}{4}$ 시간이 걸립니다. 하루에 $5\frac{1}{2}$ 시간씩 케이크를 만든다면 일주일동안 만들 수 있는 케이크는 모두 몇 개인지 구하시오.

▶ 답 : _____ 개

▷ 정답 : 22 개

해설

$5\frac{1}{2}$ 시간동안 만들 수 있는 케이크는

$\left(5\frac{1}{2} \div 1\frac{3}{4}\right)$ 개입니다.

따라서 일주일동안 만들 수 있는 케이크는

$5\frac{1}{2} \div 1\frac{3}{4} \times 7 = \frac{11}{2} \div \frac{7}{4} \times 7$

$\frac{11}{2} \times \frac{4}{7} \times 7 = 22$(개) 입니다.

25. 어떤 물건의 무게를 달에서 재면 지구에서 잴 때의 $\frac{1}{6}$이 된다고 합니다. 달에서 정인이의 몸무게가 $7\frac{1}{3}$ kg일 때, 지구에서의 몸무게는 몇 kg입니까?

① 43 kg ② 44 kg ③ 45 kg ④ 46 kg ⑤ 47 kg

해설

지구에서의 몸무게를 □kg이라고 하면,

$\square \times \frac{1}{6} = 7\frac{1}{3}$, $\square = 7\frac{1}{3} \div \frac{1}{6} = \frac{22}{\cancel{3}_{1}} \times \cancel{6}^{2} = 44(\text{kg})$

따라서 지구에서의 몸무게는 44 kg입니다.

26. $3\frac{1}{2}$ m 짜리 띠를 10 개 만들 수 있는 끈이 있습니다. 이 끈으로 $\frac{1}{2}$ m 짜리 띠는 몇 개 만들 수 있는지 구하시오.

▶ 답 : _____ 개

▷ 정답 : 70 개

해설

$3\frac{1}{2} \times 10 \div \frac{1}{2} = \frac{7}{2} \times 10 \times \frac{2}{1} = 70$(개)

27. $3\frac{1}{4}$ m 짜리 띠를 12 개 만들 수 있는 끈이 있습니다. 이 끈으로 $\frac{1}{2}$ m 짜리 띠를 몇 개 만들 수 있는지 구하시오.

▶ 답 : _____ 개

▷ 정답 : 78 개

해설

$\left(3\frac{1}{4} \times 12\right) \div \frac{1}{2} = \frac{13}{4} \times 12 \times 2 = 78$(개)

28. ㉠ $*$ ㉡ $=$ (㉠ $+$ ㉡) $\div$ (㉠ $-$ ㉡) 이라고 약속할 때, $\left(\frac{1}{7} * \frac{1}{8}\right) * \frac{1}{9}$ 의 값을 구하시오.

▶ 답 :

▷ 정답 : $1\frac{1}{67}$

해설

$\frac{1}{7} * \frac{1}{8} = \left(\frac{1}{7} + \frac{1}{8}\right) \div \left(\frac{1}{7} - \frac{1}{8}\right) = 15$

$15 * \frac{1}{9} = \left(15 + \frac{1}{9}\right) \div \left(15 - \frac{1}{9}\right) = 1\frac{1}{67}$

29. 부피가 $1\frac{5}{7}\,\mathrm{m}^3$ 인 직육면체가 있습니다. 밑면의 가로가 $\frac{5}{4}\,\mathrm{m}$ 이고 세로가 $1\frac{1}{7}\,\mathrm{m}$ 일 때, 높이는 몇 m 입니까?

① $1\frac{3}{5}\,\mathrm{m}$ ② $1\frac{4}{5}\,\mathrm{m}$ ③ $2\,\mathrm{m}$ ④ $1\frac{1}{5}\,\mathrm{m}$ ⑤ $1\frac{2}{5}\,\mathrm{m}$

해설

직육면체의 높이를 $\square$ m 라 하면

$\frac{5}{4} \times 1\frac{1}{7} \times \square = 1\frac{5}{7}$

$\square = 1\frac{5}{7} \div \frac{5}{4} \div 1\frac{1}{7}$

$\square = \frac{\cancel{12}^{6}}{\cancel{7}_{1}} \times \frac{\cancel{4}^{1}}{5} \times \frac{\cancel{7}^{1}}{\cancel{8}_{\cancel{2}_{1}}} = \frac{6}{5} = 1\frac{1}{5}(\mathrm{m})$

30. 사다리꼴의 높이를 구하시오.

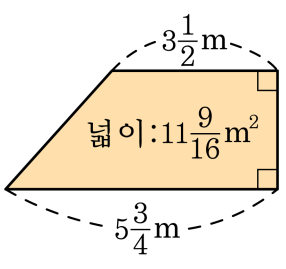

① $2\frac{1}{2}$ m ② $3\frac{1}{2}$ m ③ $\frac{1}{2}$ m ④ $5\frac{1}{2}$ m ⑤ $6\frac{2}{3}$ m

해설

사다리꼴의 높이를 □m라 하면

$\left(3\frac{1}{2}+5\frac{3}{4}\right)\times\square\div 2=11\frac{9}{16}$

$9\frac{1}{4}\times\square\div 2=11\frac{9}{16}$

$\square=11\frac{9}{16}\times 2\div 9\frac{1}{4}$

$\square=\frac{\cancel{185}^{5}}{\cancel{16}_{\cancel{8}_{2}}}\times\cancel{2}^{1}\times\frac{\cancel{4}^{1}}{\cancel{37}_{1}}=\frac{5}{2}=2\frac{1}{2}(\mathrm{m})$

31. $\frac{84}{5}\,\mathrm{m}^2$ 넓이의 벽에 페인트를 칠하는 데 $\frac{5}{2}\,\mathrm{L}$의 페인트가 사용되었습니다. $11\frac{1}{4}\,\mathrm{L}$의 페인트로 몇 m^2의 벽을 칠할 수 있습니까?

① $74\frac{1}{4}\,\mathrm{m}^2$　② $75\frac{3}{5}\,\mathrm{m}^2$　③ $76\frac{1}{5}\,\mathrm{m}^2$
④ $76\frac{3}{5}\,\mathrm{m}^2$　⑤ $77\frac{3}{5}\,\mathrm{m}^2$

해설

$$\left(\frac{84}{5}\div\frac{5}{2}\right)\times 11\frac{1}{4}=\left(\frac{84}{5}\times\frac{2}{5}\right)\times 11\frac{1}{4}$$

$$=\frac{\overset{42}{\cancel{168}}}{\underset{5}{\cancel{25}}}\times\frac{\overset{9}{\cancel{45}}}{\underset{1}{\cancel{4}}}=\frac{378}{5}=75\frac{3}{5}(\mathrm{m}^2)$$

32. 서로 다른 진분수 ㉠, ㉡, ㉢이 있습니다. 다음 나눗셈의 몫이 모두 같다면, ㉠, ㉡, ㉢ 중 가장 작은 수는 어느 것입니까?

㉠ $\div 1\frac{5}{6}$	㉡ $\div 1\frac{4}{5}$	㉢ $\div 1\frac{1}{3}$

▶ 답 :

▷ 정답 : ㉢

해설

몫이 모두 같을 때 나누는 수가 작으면 나눠지는 수도 작습니다.
$1\frac{1}{3} < 1\frac{4}{5} < 1\frac{5}{6}$ 이므로 가장 작은 수는 ㉢입니다.

33. 어떤 수 $\square$에 $\frac{1}{4}$을 곱한 다음 $\frac{2}{5}$로 나누면 $\frac{7}{9}$이 된다고 할 때, 다음을 계산하시오.

$$\square \div \frac{14}{3} \times 4\frac{1}{6}$$

▶ 답 :

▷ 정답 : $1\frac{1}{9}$

해설

$\square \times \frac{1}{4} \div \frac{2}{5} = \frac{7}{9}$ 이므로

$\square = \frac{7}{9} \times \frac{2}{5} \div \frac{1}{4} = \frac{7}{9} \times \frac{2}{5} \times 4 = \frac{56}{45}$

$$\frac{56}{45} \div \frac{14}{3} \times 4\frac{1}{6} = \frac{\overset{2}{\cancel{56}}}{\underset{\underset{3}{\cancel{9}}}{\cancel{45}}} \times \frac{\overset{1}{\cancel{3}}}{\underset{1}{\cancel{14}}} \times \frac{\overset{5}{\cancel{25}}}{\underset{3}{\cancel{6}}} = \frac{10}{9} = 1\frac{1}{9}$$

34. 직사각형 모양의 널빤지에 색칠한 부분의 넓이가 $19\,\mathrm{cm}^2$ 입니다. 널빤지 전체의 넓이는 몇 cm^2 입니까?

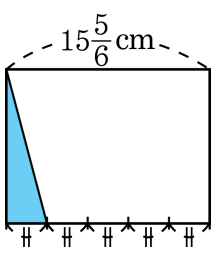

▶ 답 : _____ cm^2

▷ 정답 : 190 cm^2

해설

(색칠한 부분의 밑변의 길이)

$= 15\frac{5}{6} \div 5 = 3\frac{1}{6}(\mathrm{cm})$

세로의 길이를 $\square$ cm 라 하면 $3\frac{1}{6} \times \square \div 2 = 19$,

$\square = 19 \div 3\frac{1}{6} \times 2 = \overset{1}{\cancel{19}} \times \frac{6}{\underset{1}{\cancel{19}}} \times 2 = 12$

(널빤지 전체의 넓이) $= 15\frac{5}{6} \times 12 = 190(\mathrm{cm}^2)$

35. 길이가 $\frac{9}{17}$ m 인 철사를 $\frac{3}{17}$ m 씩 나누면 몇 도막이 되는지 구하시오.

▶ 답 : _____ 도막

▷ 정답 : 3도막

해설

$\frac{9}{17} \div \frac{3}{17} = 9 \div 3 = 3$(도막)