1. 각도기의 작은 눈금 한 칸은 몇 도를 나타냅니까?

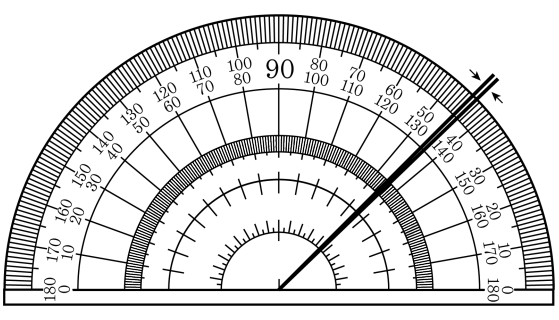

답: _____ °

2. 다음 사각형에서 예각, 둔각, 직각이 각각 몇 개인지 차례대로 쓰시오.

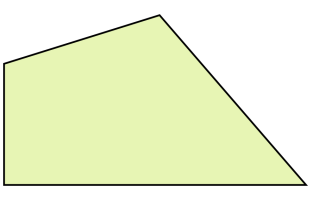

답: _____ 개

답: _____ 개

답: _____ 개

3. 다음 사각형 중 둔각이 2 개 있는 사각형을 모두 고르시오.

①


②
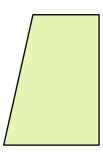

③
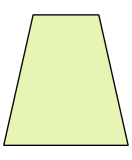

④
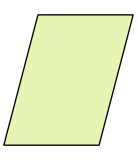

⑤


4. 현숙이가 아침에 일어나 시계를 보니 7 시였습니다. 시침과 분침이 이루는 작은 각은 예각, 직각, 둔각 중 어느 것입니까?

답: _____

5. 사각형의 네 각의 크기를 모두 더하면 그 합은 몇 도인지 구하시오.

답: _____ °

6. 다음 무늬는 어떤 도형을 돌려가며 만든 것입니까?

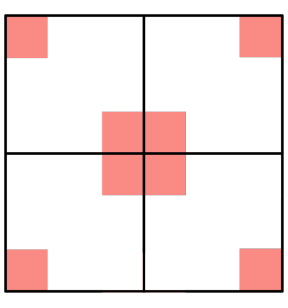

① 

② 

③ 

④ 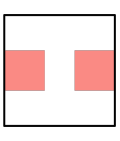

⑤ 

7. 다음 그림의 모양을 이용하여 만든 무늬가 <u>아닌</u> 것은 어느 것인지 고르시오.

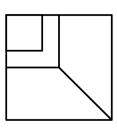

①
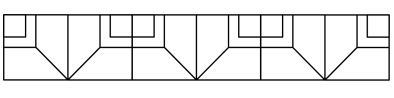

②
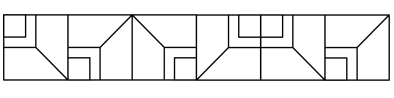

③
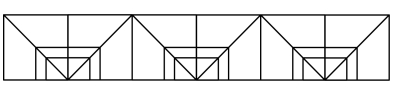

④
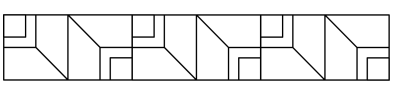

⑤
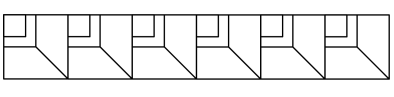

8. 다음 중 각의 크기가 가장 작은 것은 어느 것인지 고르시오.

① 2 직각 ② $30°$ ③ $150°$
④ $90°$ ⑤ 1 직각$-40°$

9. 다음 중 몫이 큰 것부터 차례대로 기호를 쓴 것은 어느 것입니까?

㉠ $180 \div 30$	㉡ $560 \div 70$
㉢ $250 \div 50$	㉣ $360 \div 40$

① ㉠, ㉣, ㉢, ㉡ ② ㉡, ㉣, ㉢, ㉠ ③ ㉢, ㉠, ㉡, ㉣
④ ㉣, ㉠, ㉡, ㉢ ⑤ ㉣, ㉡, ㉠, ㉢

10. 광일이네 학교 4학년 학생 중 영어 말하기 대회에 참가한 반별 학생 수를 조사하여 나타낸 막대 그래프입니다.

〈영어 말하기 대회에 참가한 반별 학생 수〉



영어 말하기 대회에 참가한 학생 수가 가장 많은 반부터 차례대로 쓰면 어느 것입니까?

① 4반-1반-3반-2반
② 4반-2반-1반-3반
③ 1반-3반-2반-4반
④ 1반-2반-3반-4반
⑤ 3반-2반-1반-4반

11. 지용이네 반 학생들이 좋아하는 계절을 조사하여 나타낸 표입니다. 표를 보고 막대그래프를 그리시오.

<좋아하는 계절>

계절	봄	여름	가을	겨울	계
학생 수(명)	6	12	8	4	30

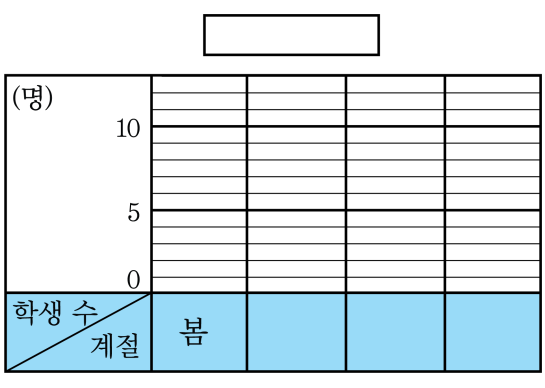

답: _____

12. 어린이 대공원에 온 초등학생 수를 조사하여 나타낸 막대그래프입니다.

〈어린이 대공원에 온 초등학생 수〉

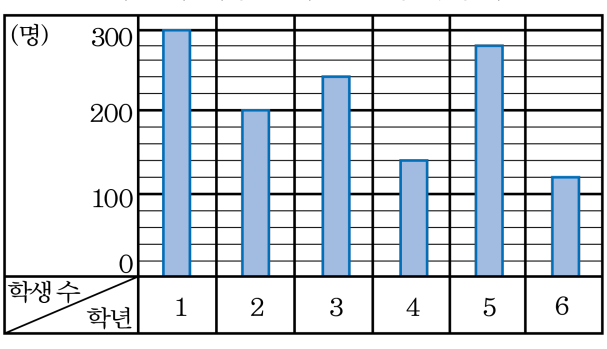

어린이 대공원에 가장 많이 오는 학년은 몇 학년이라고 할 수 있습니까?

① 1학년 ② 2학년 ③ 3학년
④ 4학년 ⑤ 5학년

13. 칠봉이네 학교의 4학년 학예회에 참여한 남학생과 여학생의 수를 반별로 조사하여 나타낸 막대그래프입니다. 학예회에 참여한 남학생과 여학생의 수가 같은 반은 어느 반 입니까?

〈학예회에 참여한 남학생과 여학생의 수〉

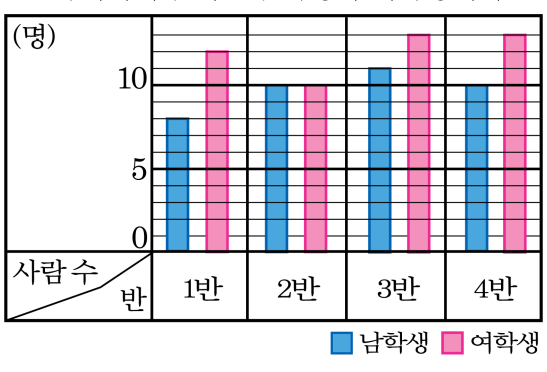

① 1반 ② 2반 ③ 3반 ④ 4반 ⑤ 없다.

14. 다음 수 배열표에서 빈칸에 알맞은 수는 어느 것입니까?

30	32	34	36
130	132	134	136
230	232	234	236
330		334	336

① 320 ② 321 ③ 322 ④ 331 ⑤ 332

15. 다음 중 몫이 두 자리 수인 것을 구하시오.

① $356 \div 70$ ② $485 \div 54$ ③ $672 \div 73$

④ $799 \div 79$ ⑤ $248 \div 42$

16. 도형을 위로 밀고 오른쪽으로 4번 뒤집고 시계 반대 방향으로 90°만큼 3번 돌렸을 때의 도형은 어느 것입니까?

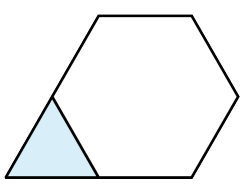

①
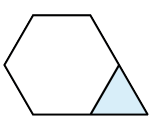

②
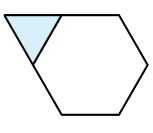

③
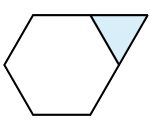

④
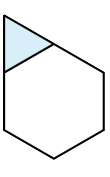

⑤
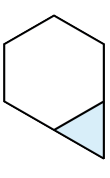

17. 다음 중 설명이 <u>틀린</u> 것은 어느 것입니까?

〈좋아하는 스포츠별 학생 수〉

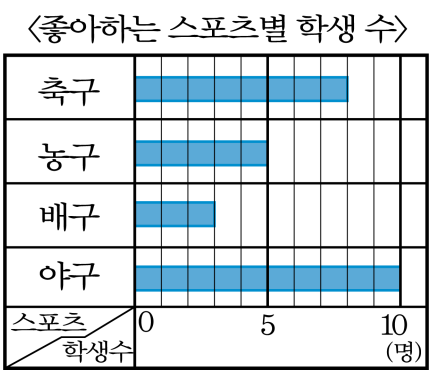

① 가로는 학생 수를 나타냅니다.

② 세로는 스포츠를 나타냅니다.

③ 가로 눈금 한 칸은 1명을 나타냅니다.

④ 축구를 좋아하는 학생은 7명입니다.

⑤ 야구를 좋아하는 학생은 10명입니다.

18. 인성이네 모둠의 수학 성적을 표와 막대그래프로 나타낸 것입니다. 빈칸을 바르게 채우지 <u>못한</u> 것을 고르면 무엇입니까?

<수학 성적>

①	인성	윤지	채환	정아	민우	소연	계
점수(점)	②	80	60	40	③	90	④

〈수학 성적〉



① 이름　② 70　③ 55　④ 390　⑤ 정아

19. 덧셈을 이용한 수 배열표를 보고 규칙을 찾아 □ 안에 알맞은 말을 쓰시오.

	101	102	103
11	2	3	4
12	3	4	5
13	4	5	6
14	5	6	7

[규칙] 두 수의 덧셈의 결과에서 □의 자리 숫자를 씁니다.

답: _____

20. 다음 도형 중에서 왼쪽으로 뒤집었을 때의 도형이 처음 도형과 같은 것을 모두 찾아 기호를 쓰시오.

가 나 다 라

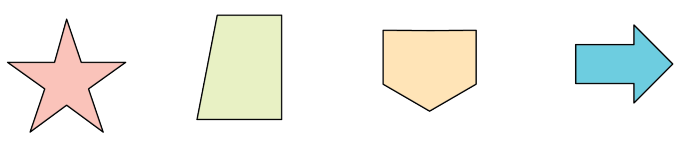

답: _____

답: _____