**1.** 다음 수 중에서 98 초과 120 미만인 수가 <u>아닌</u> 것은 어느 것 입니까?

① $98\frac{1}{3}$ ② $134\frac{3}{4}$ ③ 100.9 ④ 119.8 ⑤ 99.6

**2.** 다음 중 올림하여 천의 자리까지 나타낼 때, 3000이 되지 <u>않는</u> 수는 어느 것인가?

① 2908 ② 2003 ③ 2046 ④ 3001 ⑤ 2706

**3.** 올림하여 백의 자리까지 나타낼 때, 4400이 되는 수를 모두 찾으시오.

① 4300 ② 4301 ③ 4399 ④ 4400 ⑤ 4401

**4.** 민수는 1시간에 $1\frac{7}{8}$ m를 걷습니다. 같은 빠르기로 1시간 40분 동안 걸었다면, 민수가 걸은 거리는 몇 km입니까?

① $1\frac{1}{8}$ km ② $2\frac{1}{8}$ km ③ $3\frac{1}{8}$ km
④ $4\frac{1}{8}$ km ⑤ $5\frac{1}{8}$ km

**5.** 다음 중 선대칭도형이면서 점대칭도형인 것을 모두 고르시오.

①


②
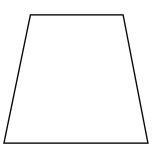

③
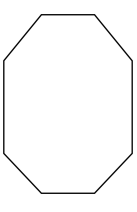

④
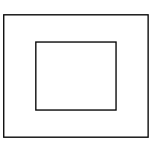

⑤
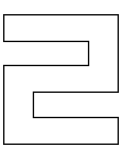

**6.** 다음 전개도를 접어서 직육면체를 만들었을 때, 서로 평행이 되는 면이 바르게 짝지어 진 것을 모두 찾으시오.

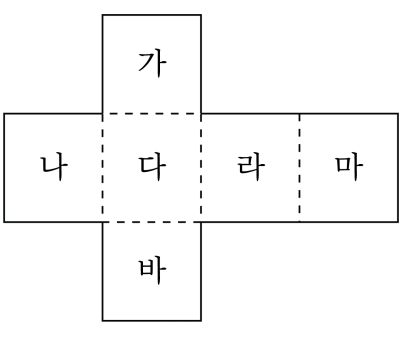


① 가와 바 ② 가와 라 ③ 나와 마
④ 나와 라 ⑤ 다와 바

**7.** 다음 조건을 모두 만족하는 자연수가 <u>아닌</u> 것은 어느 것인가?

| |
|---|
| · 9 이상인 수<br>· 16 미만인 수<br>· 6초과 12이하인 수 |

① 8 ② 9 ③ 10 ④ 11 ⑤ 12

**8.** 다음 중 계산 결과가 단위분수인 것은 어느 것입니까?

① $\frac{5}{9} \times \frac{1}{3} \times \frac{9}{10}$ ② $6 \times \frac{7}{12} \times \frac{6}{7}$ ③ $1\frac{1}{3} \times 4 \times \frac{1}{4}$
④ $\frac{4}{5} \times \frac{3}{4} \times 1\frac{2}{3}$ ⑤ $8 \times 1\frac{1}{7} \times 7$

**9.** 다음을 계산하시오.

$$2\frac{2}{5} \times 1\frac{1}{3} \times 4\frac{3}{4}$$

① $15\frac{1}{5}$ ② $8\frac{1}{10}$ ③ $9\frac{1}{10}$ ④ $12\frac{1}{5}$ ⑤ $5\frac{1}{6}$

**10.** 다음 중 곱이 소수 두 자리 수가 <u>아닌</u> 것은 어느 것인지 고르시오.

① $0.7 \times 0.6$ ② $4.35 \times 0.6$ ③ $163 \times 0.02$

④ $0.005 \times 3$ ⑤ $2570 \times 0.001$

**11.** 한 모서리의 길이가 9 cm 인 정육면체의 겨냥도를 그릴 때, 실선으로 그려야 하는 부분의 길이와 점선으로 그려야 하는 부분의 길이의 차는 몇 cm 인지 구하시오.

답: _____ cm

**12.** 어느 육상 선수가 25km 를 1 시간 15 분에 달렸습니다. 이 육상 선수는 1 시간당 평균 몇 km 를 달립니까?

답: _____ km

**13.** 다음은 준희가 일 주일 동안 줄넘기를 한 횟수를 표로 나타낸 것입니다. 하루 평균 85번씩 하려면 토요일에는 몇 번을 넘어야 합니까?

| 요일 | 일 | 월 | 화 | 수 | 목 | 금 | 토 |
|---|---|---|---|---|---|---|---|
| 횟수(번) | 86 | 74 | 88 | 80 | 92 | 95 | |

답: _____ 번

**14.** 색깔이 다른 두 개의 주사위를 던졌을 때 모든 경우의 수에 대하여 두 수의 곱이 12가 될 가능성을 수로 나타내시오.

① $\frac{1}{3}$ ② $\frac{2}{3}$ ③ $\frac{1}{2}$ ④ $\frac{1}{6}$ ⑤ $\frac{1}{9}$

**15.** 계산 결과가 큰 순서대로 기호를 쓰시오.

| | | |
|---|---|---|
| ㉠ $14.86 \times 2.4$ | ㉡ $5.03 \times 3.5$ | ㉢ $12.43 \times 0.76$ |
| ㉣ $4.48 \times 7.9$ | ㉤ $0.09 \times 30.5$ | |

답: _____

답: _____

답: _____

답: _____

답: _____

**16.** 한솔이의 키는 134.5cm 입니다. 한초의 키가 한솔이의 키의 1.06 배라면 한초의 키는 몇 cm 인지 구하시오.

답: _____ cm

**17.** 다음은 진희이가 어느 직육면체의 면을 본뜬 모양입니다. 진희이가 본뜬 직육면체의 모든 모서리 길이의 합은 몇 cm 입니까?

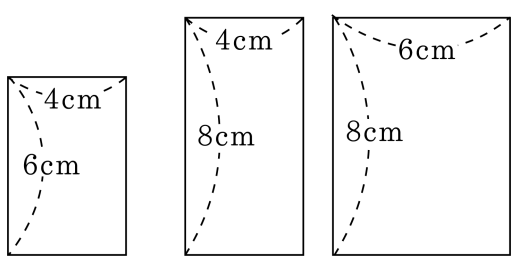


답: _____ cm

**18.** 다음 그림과 같이 쌓기나무 10개를 붙인 도형의 바깥쪽의 모든 면을 색칠하였습니다. 쌓기나무를 하나씩 모두 떼어 놓았을 때, 4면이 색칠되어 있는 쌓기나무는 모두 몇 개인지 구하시오.

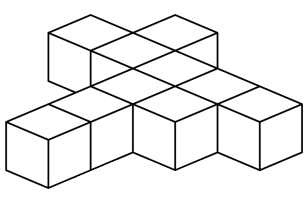

답: _____ 개

**19.** 직사각형 안에 다음과 같이 평행사변형을 그렸습니다. 선분 ㅅㄷ의 길이는 몇 cm 입니까?

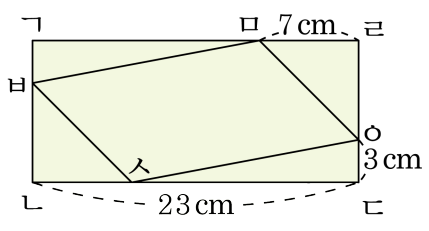


답: _____ cm

**20.** 오른쪽 그림은 점 ㄱ, ㄴ, ㄷ, ㄹ을 중심으로 하는 4개의 반원의 둘레를 이어 놓은 점대칭도형입니다. 대칭의 중심은 점 ㄱ에서 점 ㄹ의 방향으로 몇 cm떨어진 곳에 있습니까?

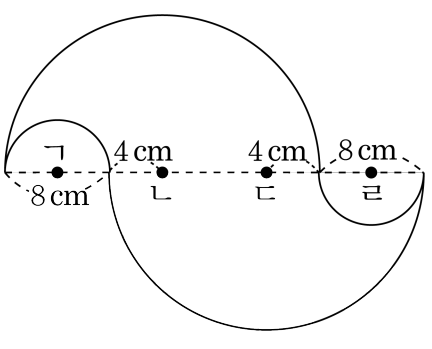


답: _____ cm