1. 다음 그림은 직각삼각형 ABC 의 각 변을 한 변으로 하는 정사각형을 그린 것이다. △ABC 의 넓이가 10 이고 □ADEB 의 넓이가 25 일 때, 두 정사각형 BFGC, ACHI 의 넓이의 차를 구하면?

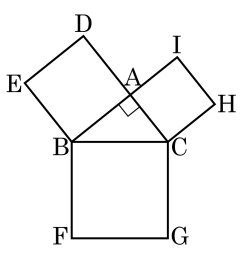

① 21 ② 22 ③ 23

④ 24 ⑤ 25

해설

□ADEB + □ACHI = □BFGC

□BFGC − □ACHI = □ADEB

따라서 구하는 넓이는 □ADEB = 25 이다.

2. 다음 그림은 직각삼각형 ABC와 합동인 삼각형을 붙여 정사각형 ABED를 만든 것이다. 다음 중 옳지 <u>않은</u> 것은?

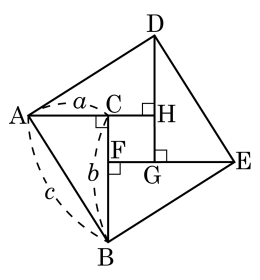

① $\triangle ABC \equiv \triangle EDG$

② $\overline{AC} = \overline{DH} = \overline{GE} = \overline{CF}$

③ $\overline{FG} = b - a$

④ $\square ABED = \square CFGH + \triangle AHD + \triangle ABC + \triangle EFB + \triangle GDE$

⑤ $\square CFGH$는 정사각형

해설

② $\overline{AC} = \overline{DH} = \overline{GE} = \overline{BF}$, $\overline{CF} = \overline{BC} - \overline{BF}$

3. 17 m 거리에 있는 두 못 A, B 에 길이가 40 m 인 끈을 걸어서 다음 그림과 같이 $\angle C$가 직각이 되게 하려고 할 때, $\overline{AC}$ 를 몇 m로 하여야 하는가? (단, $\overline{AC} < \overline{BC}$)

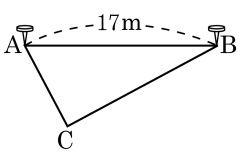

▶ 답 : _____ m

▷ 정답 : 8 m

해설

$\overline{AC} = x$라 하면, $\overline{BC} = 40 - 17 - x = 23 - x$

$\triangle ABC$ 는 $\angle C = 90°$인 직각삼각형이므로

$x^2 + (23 - x)^2 = 17^2$

$x^2 - 23x + 120 = 0$

$(x - 8)(x - 15) = 0$

$\therefore\ x = 8(\mathrm{m})\ (\because\ \overline{AC} < \overline{BC})$

4. 세 변의 길이가 a, b, c 일 때, 다음 보기의 설명중 옳은 것은?

보기

㉠ $a - b < c < a + b$

㉡ $c^2 < a^2 + b^2$ 이면 둔각삼각형

㉢ $a^2 = b^2 + c^2$ 이면 직각삼각형

㉣ $a^2 > b^2 + c^2$ 이면 $\angle B > 90°$

① ㉠, ㉡ ② ㉠, ㉢ ③ ㉠, ㉣ ④ ㉡, ㉢ ⑤ ㉡, ㉣

해설

㉡ $c^2 > a^2 + b^2$ 일 때, 둔각삼각형이다.
㉣ $a^2 > b^2 + c^2$ 일 때, a 가 가장 긴 변이면 $\angle A > 90°$ 이다.

5. 다음 그림과 같이 $\overline{AD} \perp \overline{BC}$ 이고, $\overline{AB} = 7, \overline{CD} = 4$ 일 때, $\overline{OA}^2 + \overline{OB}^2 + \overline{OC}^2 + \overline{OD}^2$ 의 값을 구하여라.

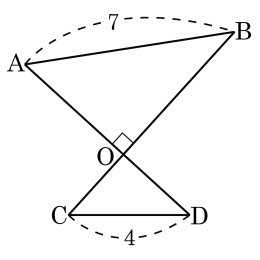

▶ 답 :

▷ 정답 : 65

해설

$\overline{OA}^2 + \overline{OB}^2 + \overline{OC}^2 + \overline{OD}^2$

$= \left(\overline{OA}^2 + \overline{OB}^2\right) + \left(\overline{OC}^2 + \overline{OD}^2\right)$

$= \overline{AB}^2 + \overline{CD}^2$

$= 7^2 + 4^2$

$= 65$

6. 다음 그림과 같이 직각삼각형의 각 변을 지름으로 하는 반원을 그리고 각각의 넓이를 A, B, C 라고 할 때, $\mathrm{A} = \frac{25}{2}\pi$ 라고 한다. $A : B : C = 25 : b : c$ 에서 $b - c$ 를 구하여라.

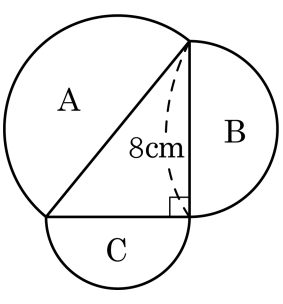

▶ 답 :

▷ 정답 : 7

해설

지름이 8 인 반원의 넓이는 $4^2\pi \times \frac{1}{2} = 8\pi$

따라서 $\mathrm{C} = \mathrm{A} - \mathrm{B} = \left(\frac{25}{2} - 8\right)\pi = \frac{9}{2}\pi$ 이므로 $\mathrm{A} : \mathrm{B} : \mathrm{C} = \frac{25}{2} : 8 : \frac{9}{2} = 25 : b : c$

그러므로 $b - c = 16 - 9 = 7$

7. 다음 그림에서$\angle BAC = 90°$ 이고,$\overline{AB}$와 $\overline{AC}$ 를 지름으로 하는 반원의 넓이를 각각 P, Q 라 할 때, P + Q 의 값을 구하여라.

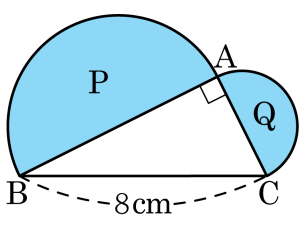

▶ 답 : _____ cm^2

▷ 정답 : 8π cm^2

해설

P + Q 는$\overline{BC}$ 를 지름으로 하는 반원의 넓이와 같으므로

$P + Q = \frac{1}{2} \times 4^2 \times \pi = 8\pi(cm^2)$

8. 다음 그림은 직사각형 ABCD 를 점 B 가 점 D 에 오도록 접었다. $\overline{CD} = 6\,\text{cm}$, $\overline{BC} = 8\,\text{cm}$, 점 H 는 점 E 에서 $\overline{BC}$ 에 내린 수선의 발일 때, 다음 중 옳지 <u>않은</u> 것은?

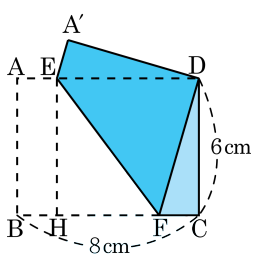

① $\overline{A'E} = \frac{7}{4}\,\text{cm}$

② $\angle DEF = \angle EFH$

③ $\overline{EF} = \frac{17}{2}\,\text{cm}$

④ $\overline{BF} = \overline{DE}$

⑤ $\overline{HF} = \frac{9}{2}\,\text{cm}$

해설

$\triangle A'ED$ 에서 $\overline{A'E}$ 를 x 로 잡으면 피타고라스 정리에 따라

$x^2 + 6^2 = (8 - x)^2$, $x = \frac{7}{4} = \overline{A'E} = \overline{FC}$

$\therefore \overline{ED} = 8 - \frac{7}{4} = \frac{25}{4}(\text{cm})$ 이고, $\overline{HF} = \overline{CH} - \overline{CF} = \frac{25}{4} - \frac{7}{4} = \frac{18}{4} = \frac{9}{2}(\text{cm})$

$\triangle EHF$ 에서 피타고라스 정리에 따라

$\overline{EF}^2 = 6^2 + \left(\frac{9}{2}\right)^2 = \frac{225}{4}$

$\overline{EF}$ 는 변이므로 양수이다. 따라서 $\overline{EF} = \frac{15}{2}(\text{cm})$ 이다.

③ $\overline{EF} \neq \frac{17}{2}\,\text{cm}$

9. 다음 직사각형 ABCD 에서 $\overline{AE} = \overline{CE}$ 가 되도록 점 E 를 잡고, $\overline{AE} = \overline{AF}$ 가 되도록 점 F 를 잡을 때, □AECF 의 넓이를 구하여라.

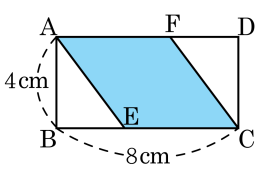

▶ 답 : _____ cm^2

▷ 정답 : 20 cm^2

해설

$\overline{CE} = x(cm)$ 라 하면

$x^2 = 4^2 + (8 - x)^2 \quad \therefore \ x = 5$

$\therefore$ □AECF $= 5 \times 4 = 20(cm^2)$

10. 3만원을 가지고 블라우스 한 벌과 치마 한 벌을 사기 위해 쇼핑을 나갔다. 쇼핑몰을 한 번 돌고나니 3가지의 블라우스(각각 1만 5천원, 1만 8천원, 2만 2천원)가 맘에 들었고, 3가지의 치마(각각 8천원, 1만원, 1만 3천원)가 맘에 들었다. 가지고 있는 현금으로 살 수 있는 방법의 가짓수는?

① 1가지 ② 3가지 ③ 6가지
④ 8가지 ⑤ 9가지

해설

블라우스와 치마를 차례로 (A, B, C) , (a, b, c)로 두면, 각각의 가격의 합이 가지고 있는 돈(3 만원)을 넘지 않는 경우는 Aa, Ab, Ac, Ba, Bb, Ca의 6 가지이다.

11. 1 에서 5 까지의 숫자가 각각 적힌 5 장의 카드에서 3 장을 뽑아 세 자리의 정수를 만들었을 때, 3 의 배수인 정수의 경우의 수는?

① 9 가지 ② 10 가지 ③ 12 가지
④ 16 가지 ⑤ 24 가지

해설

3 의 배수가 되기 위해서는 각 자릿수의 합이 3 의 배수가 되어야 한다. 주어진 수를 더하여 3 의 배수를 만들 수 있는 경우는 $(1,\ 2,\ 3), (2,\ 3,\ 4), (1,\ 3,\ 5), (3,\ 4,\ 5)$ 이다.
각각의 숫자로 3 의 배수를 만들면 $(3 \times 2 \times 1) \times 4 = 24$ (가지) 이다.

12. 0, 1, 2, 3, $\cdots$, 9 의 숫자가 각각 적힌 10 장의 카드에서 2 장을 뽑아 두 자리의 정수를 만들 때, 그 중에서 3 의 배수의 개수를 구하여라.

▶ 답 : _____ 개

▷ 정답 : 27 개

해설

3 의 배수가 되려면 각 자릿수의 합이 3 의 배수이여야 한다.
십의 자리가 1 이면 일의 자리 : 2, 5, 8, 십의 자리가 2 이면 일의 자리 : 1, 4, 7, 십의 자리가 3 이면 일의 자리 : 0, 6, 9, $\cdots$ 십의 자리가 9 이면 일의 자리 : 0, 6, 9
이와 같이 하면 십의 자리에 올 수 있는 경우의 수는 9 가지이고, 그 각각에 대하여 일의 자리에 올 수 있는 수는 3 가지이다. 그러므로 구하는 갯수는 $9 \times 3 = 27$ (개) 이다.

13. A, B, C 중학교에서 4명씩 선발하여 달리기 시합을 한다. 각 학교별로 시합을 하여 2명씩 다시 선발한다고 할 때, 최종 시합에 나가게 되는 학생들을 선발하는 경우의 수를 구하여라.

▶ 답 : _____ 가지

▷ 정답 : 216 가지

해설

각 학교별로 2명씩 선발하는 경우의 수는 $\frac{4\times3}{2\times1}=6$(가지)이고, 세 학교가 동시에 2명을 선발하므로 총 경우의 수는 $6\times6\times6=216$(가지)이다.

14. 한 개의 동전을 던져서 앞면이 나오면 수직선을 따라 양의 방향으로 2 만큼, 뒷면이 나오면 음의 방향으로 1 만큼 이동한다. 동전을 4 번 던져서 이동하였을 때 A 지점에 위치할 확률은? (단, 동전을 던지기 전의 위치는 0 이다.)

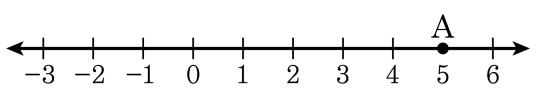

① $\frac{1}{8}$ ② $\frac{3}{8}$ ③ $\frac{3}{4}$ ④ $\frac{1}{4}$ ⑤ $\frac{5}{16}$

해설

(앞면 나오는 횟수)$= a$, (뒷면 나오는 횟수) $= b$라 하면 $a+b=4$, $2a-b=5$에서 $a=3$, $b=1$

즉, 앞면 3 번, 뒷면 1 번

(전체 경우의 수) $= 2\times2\times2\times2 = 16$(가지),

앞면 3 번 , 뒷면 1 번이 나오는 경우의 수는 4가지이다.

$\therefore \frac{4}{16} = \frac{1}{4}$

15. 주사위 두 개를 동시에 던져서 나온 눈의 수를 각각 x, y라 할 때, $x+2y$가 5의 배수가 될 활률을 구하여라.

▶ 답 :

▷ 정답 : $\frac{7}{36}$

해설

주사위 두 개를 동시에 던지므로 모든 경우의 수는 $6\times6=36$(가지)
$(x,\ y)$는 $x+2y$가
5일 때, $(1,2)$, $(3,1)$
10일 때, $(2,4)$, $(4,3)$, $(6,2)$
15일 때, $(3,6)$, $(5,5)$
즉, 5의 배수가 되는 경우의 수는 7가지
따라서 구하고자 하는 확률은 $\frac{7}{36}$

16. 남학생 3 명, 여학생 2 명 중에서 2 명의 대표를 선출한다. 적어도 한 명은 여학생이 선출될 확률이 $\frac{a}{b}$ 일 때, $a+b$ 의 값을 구하여라.

▶ 답 :

▷ 정답 : 17

해설

5 명 중에 2 명의 대표를 뽑는 모든 경우의 수는 $\frac{5\times4}{2}=10$ (가지), 2 명 모두가 남학생 3 명 중에서 선출될 경우의 수는 $\frac{3\times2}{2}=3$ (가지) 이므로 2 명 모두 남학생이 선출될 확률은 $\frac{3}{10}$ 이다. 그러므로 구하는 확률은 1−(2명 모두 남학생이 선출될 확률) $=1-\frac{3}{10}=\frac{7}{10}$ 이다.

$a=7,\ b=10$

$\therefore\ a+b=17$

17. 어느 회사에서 한 품목에 대하여 여러 종류의 제품을 만들어 소비자 선호도를 조사하였더니 아래의 표와 같았다. 이 회사에서 생산하는 물품을 구입하려는 사람이 A 제품 또는 B 제품을 선택할 확률은?

제품	A	B	O	기타
선호도(%)	40	25	28	7

① $\frac{1}{4}$ ② $\frac{2}{5}$ ③ $\frac{13}{20}$ ④ $\frac{3}{20}$ ⑤ $\frac{7}{100}$

해설

A 제품의 선호도는 40% 이므로 A 제품을 선택할 확률은 $\frac{40}{100}$ 이고,B 제품의 선호도는 25% 이므로 B 제품을 선택할 확률은 $\frac{25}{100}$ 이다.

따라서 구하는 확률은 $\frac{40}{100}+\frac{25}{100}=\frac{65}{100}=\frac{13}{20}$ 이다.

18. 주머니 속에 파란 구슬 2 개, 빨간 구슬 3 개, 흰 구슬 2 개가 들어 있다. 이 주머니에서 차례로 한 개씩 두 번 꺼낼 때, 두 개의 구슬이 같은 색일 확률이 제일 높은 구슬은 어떤 색인지 구하여라.

▶ 답 :

▷ 정답 : 빨간색

해설

파란 구슬 2 번 : $\frac{2}{7} \times \frac{1}{6} = \frac{2}{42} = \frac{1}{21}$

빨간 구슬 2 번 : $\frac{3}{7} \times \frac{2}{6} = \frac{6}{42} = \frac{1}{7}$

흰 구슬 2 번 : $\frac{2}{7} \times \frac{1}{6} = \frac{2}{42} = \frac{1}{21}$

19. 토요일의 일기예보에서 비가 올 확률은 30%, 일요일에 비가 올 확률은 40% 라고 한다. 이 때, 토요일과 일요일 이틀 연속으로 비가 오지 않을 확률은?

① 70 %　② 56 %　③ 42 %　④ 24 %　⑤ 12 %

해설

(구하는 확률)= (토요일에 비가 오지 않을 확률)× (일요일에 비가 오지 않을 확률)

$= (1-0.3)\times(1-0.4) = 0.7\times0.6 = 0.42$

따라서 구하는 확률은 42 %

20. 어떤 학생이 A 문제를 풀 확률은 $\frac{1}{4}$, 두 문제를 모두 풀 확률이 $\frac{1}{6}$ 일 때, A 문제는 풀고 B 문제는 틀릴 확률은?

① $\frac{1}{24}$ ② $\frac{1}{12}$ ③ $\frac{1}{6}$ ④ $\frac{6}{25}$ ⑤ $\frac{19}{25}$

해설

B 문제를 풀 확률을 x라 하면 $\frac{1}{4} \times x = \frac{1}{6}$, $x = \frac{2}{3}$

A 문제는 풀고 B 문제는 틀릴 확률은 $\frac{1}{4} \times \frac{1}{3} = \frac{1}{12}$

21. A, B, C 세 명의 명중률은 각각 $\frac{1}{2}$, $\frac{3}{4}$, $\frac{2}{3}$이다. 이 때, 세 명이 동시에 1발을 쏘았을 때, 이들 중 2명만 목표물에 명중시킬 확률은?

① $\frac{1}{4}$ ② $\frac{11}{24}$ ③ $\frac{1}{2}$ ④ $\frac{3}{4}$ ⑤ $\frac{1}{12}$

해설

A, B가 명중시킬 확률은 $\frac{1}{2} \times \frac{3}{4} \times \frac{1}{3} = \frac{1}{8}$

B, C가 명중시킬 확률은 $\frac{1}{2} \times \frac{3}{4} \times \frac{2}{3} = \frac{1}{4}$

C, A가 명중시킬확률은 $\frac{1}{2} \times \frac{1}{4} \times \frac{2}{3} = \frac{1}{12}$

따라서 2명만 목표물에 명중시킬 확률은

$\frac{1}{8} + \frac{1}{4} + \frac{1}{12} = \frac{11}{24}$

22. 천하장사 씨름 대회의 결승전에서는 5번의 시합에서 3번을 먼저 이기면 천하장사가 된다. 지금까지 2번의 시합에서 A가 2승을 하였다고 할 때, A가 천하장사가 될 확률은 B가 천하장사가 될 확률의 몇 배인가? (단, 두 사람이 한 게임에서 이길 확률이 서로 같다.)

① 2배 ② 4배 ③ 6배 ④ 7배 ⑤ 8배

해설

A가 이기는 경우는 3회째 이기거나, 4회째 이기거나, 5회째 이기는 방법이 있다. 5회까지 3경기를 지면 B가 먼저 3승이 되어 A가 지게 된다.

A가 이길 확률은 $\frac{1}{2}+\frac{1}{2}\times\frac{1}{2}+\frac{1}{2}\times\frac{1}{2}\times\frac{1}{2}=\frac{7}{8}$

B가 이길 확률은 $1-\frac{7}{8}=\frac{1}{8}$

따라서 A가 이길 확률이 B가 이길 확률의 7배이다.

23. 다음 그림과 같은 다트판이 있다. 다트를 한 번 던져서 색칠한 부분에 맞힐 확률로 옳은 것은?

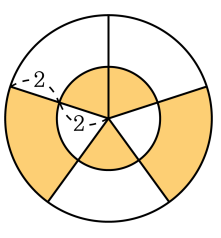

① $\frac{13}{15}$ ② $\frac{7}{19}$ ③ $\frac{9}{20}$ ④ $\frac{19}{22}$ ⑤ $\frac{21}{22}$

해설

(구하는 확률)

$$= \frac{\pi \times 2^2 \times \frac{3}{5} + \{\pi \times (2+2)^2 - \pi \times 2^2\} \times \frac{2}{5}}{\pi \times (2+2)^2}$$

$$= \frac{\frac{12}{5}\pi + \frac{24}{5}\pi}{16\pi}$$

$$= \frac{\frac{36}{5}}{16}$$

$$= \frac{9}{20}$$