1. $0.\dot{6}+2.\dot{7}$ 을 계산하여 순환소수로 나타내면?

① $3.\dot{3}$ ② $3.3\dot{4}$ ③ $3.\dot{4}$ ④ $3.4\dot{3}$ ⑤ $3.\dot{5}$

2. $3^2 = A,\ 2^3 = B$라 할 때, 18^3을 A, B를 이용하여 나타내면?

① AB^3 ② A^3B ③ A^2B^3 ④ A^2B ⑤ A^3B^2

3. $3x + 3 \leq 8 - x$ 를 만족하는 자연수의 개수는?

① 0 개 ② 1 개 ③ 2 개 ④ 3 개 ⑤ 4 개

4. 어느 극장에서 영화 관람의 입장료가 200 원인데, 50 명 이상이면 단체로 할인하여 20% 할인하여 준다고 한다. 몇 명 이상이면 단체로 입장하는 것이 유리한가?

① 41 명 ② 42 명 ③ 45 명 ④ 48 명 ⑤ 50 명

5. 연립방정식 $\begin{cases} 2x - y = 20 \\ 2y - x = k \end{cases}$ 를 만족하는 x 의 값과 y 의 값의 차가 4 일 때, 상수 k 의 값은? (단, $x > y$)

① -12 ② -6 ③ 4 ④ 6 ⑤ 8

6. $A \times 0.\dot{3} = \frac{2}{3}$ 일 때, A 의 값은?

① $\frac{1}{4}$ ② $\frac{1}{2}$ ③ 1 ④ 2 ⑤ 4

7. $2^{x+4} = 4^{x-1}$ 이 성립할 때, x 의 값은?

① -1 ② 1 ③ 2 ④ 4 ⑤ 6

8. $a^2xy^2 \times (x^2y)^b = 9x^cy^6$ 일 때, 자연수 a, b, c에 대하여 $ab+c$의 값은?

① 10 ② 12 ③ 13 ④ 14 ⑤ 21

9. $\left(-ab^3\right)^2 \times \left(\frac{a^3}{b}\right)^2 \div \left\{-\left(a^2b\right)^2\right\}$ 을 간단히 하면?

① a^3b^2 ② $-a^4b^2$ ③ $-a^2b^3$
④ $a^{\frac{3}{b^2}}$ ⑤ $-a^{\frac{3}{b^2}}$

10. $\mathrm{A} = \dfrac{x-y}{2}$, $\mathrm{B} = \dfrac{x-2y+1}{3}$ 일 때, $4\mathrm{A} - 6\mathrm{B}$ 를 x, y 에 대한 식으로 나타내면?

① $4x+2y-2$ ② $2y-2$ ③ $4x-2y+2$
④ $-x+4y+3$ ⑤ $x-4y+3$

11. $a < b < 0 < c$ 일 때, 다음 중 옳은 것은?

① $3 - 2a < 3 - 2b$
② $ac > bc$
③ $5 + 2a < 5 + 2b$
④ $2 - ac < 2 - bc$
⑤ $\frac{a}{c} + 1 > \frac{b}{c} + 1$

12. 다음 부등식을 푼 것으로 <u>틀린</u> 것은?

① $a > 0$ 일 때, $ax > 2a \Rightarrow x > 2$

② $a > 0$ 일 때, $ax > -4a \Rightarrow x > -4$

③ $a < 0$ 일 때, $ax > -4a \Rightarrow x < 4$

④ $a > 0$ 일 때, $-ax > 5a \Rightarrow x < -5$

⑤ $a < 0$ 일 때, $-ax > 5a \Rightarrow x > -5$

13. 두 일차방정식 $x - y = 3$ 과 $2x + 3y = m$ 을 만족하는 x 값이 $\frac{17}{5}$ 일 때, 상수 m 의 값은?

① 4 ② 8 ③ 12 ④ 14 ⑤ 16

14. 연립방정식 $\begin{cases} ax+2y=6 \\ 4x-y=6 \end{cases}$ 의 해가 없을 때, a의 값은?

① -8 ② -4 ③ 4 ④ 6 ⑤ 8

15. 함수 $f(x) = ax + 1$ 에 대하여 $f(-2) = 5$ 이다. 이때, $f(3) + f(-1)$ 의 값은?

① -2 ② -1 ③ 0 ④ 1 ⑤ 2

16. 일차함수 $f(x)=3x-7$에서 $f(a)=8$이고 $f(-1)=b$일 때, $2a+b$의 값을 구하면?

① 0 ② 1 ③ 2 ④ 3 ⑤ 4

17. 다음은 $\frac{x}{3}+\frac{y}{2}=1,\ y=-2x-2$ 의 그래프이다. 다음 중 옳지 <u>않은</u> 것은?

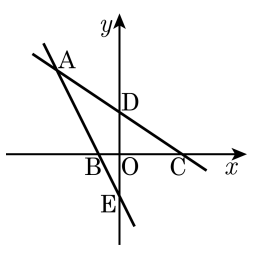

① A 의 좌표는 $(-3,\ 4)$ 이다.

② $\overline{\mathrm{BC}}$ 의 길이는 4 이다

③ $\overline{\mathrm{DE}}$ 의 길이는 4 이다

④ $\triangle\mathrm{ABC}$ 의 넓이는 16 이다.

⑤ $\triangle\mathrm{DOC}$ 의 넓이는 $\triangle\mathrm{BOE}$ 넓이의 3 배이다.

18. 일차함수 $y = mx + n$ 의 그래프가 다음 그림과 같이 제 1 , 3 , 4사분면을 지난다고 할 때, $y = nx + m$ 의 그래프가 지나지 <u>않는</u> 사분면을 구하면?

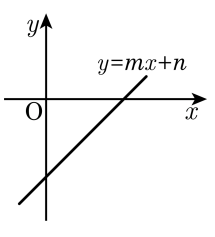

① 제 1사분면　　② 제 2사분면

③ 제 3사분면　　④ 제 4사분면

⑤ 모든 사분면을 지난다.

19. 총 길이가 25cm 가 될 때 까지 버틸 수 있는 10cm 의 용수철저울을 이용하여 xg 의 무게를 달았을 때, 용수철의 길이는 $y$cm 이고, 200g 짜리 물체의 무게를 측정했더니, 용수철의 길이가 13cm 가 되었다고 한다. x 와 y 와 관계를 함수로 나타낼 때, 이 함수의 x 의 값은?

① 0 이상 100 이하
② 0 이상 500 이하
③ 0 이상 1000 이하
④ 0 이상 500 이하
⑤ 10 이상 1000 이하

20. 일차방정식 $ax+by+3=0$의 그래프가 다음 그래프와 같을 때, 상수 m의 값은? (단, a, b는 상수)

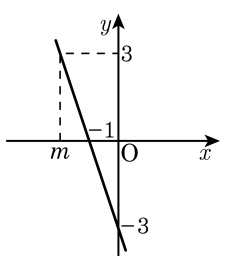

① -3　② -2　③ $-\frac{1}{3}$　④ $-\frac{1}{2}$　⑤ -1

21. 두 다항식 A, B 에 대하여 $A*B = A-3B$ 라 정의 하자. $A = x^2+2x-4$, $B = x^2-3x+5$ 에 대하여 $(A*B)*B$ 를 간단히 하면?

① $-5x^2-20x-22$
② $-5x^2+20x-34$
③ $2x^2-x+1$
④ $2x^2+5x+9$
⑤ $5x^2+22x-4$

22. 40 개가 들어 있는 사과를 상자 당 35000 원에 5 상자를 사고, 운반비로 25000 원을 지불하였다. 그런데 한 상자에 4 개 꼴로 썩은 것이 있어 팔 수 없었다. 사과 1 개에 원가의 약 몇 % 이상의 이익을 붙여서 팔아야 전체 들어간 금액의 10% 이상의 이익이 생기는가?

① 16% 이상 ② 18% 이상 ③ 20% 이상
④ 22% 이상 ⑤ 23% 이상

23. 4% 의 설탕물과 12% 의 설탕물 200g 을 섞어서 농도가 9% 이상인 설탕물을 만들려고 한다. 이때, 4% 의 설탕물을 섞은 양의 범위는?

① 100g 이하 ② 110g 이하 ③ 120g 이하
④ 130g 이하 ⑤ 140g 이하

24. x, y 에 관한 일차방정식 $2a^2 - 2a(x+4) + 2x - 4y = 0$ 은 두 점 $(a,\ -3)$, $(b,\ 2)$ 를 해로 가질 때, 상수 a, b 에 대하여 $3a + 2b$ 의 값은?

① -10 ② -5 ③ 1 ④ 5 ⑤ 10

25. 일차함수 $f(x) = (2a-1)x-3a$에서 $f(1) = -3$, $3f(2)+\frac{1}{3}f(5) = f(b)$ 일 때, $a+b$의 값은?

① 1 ② 2 ③ 3 ④ 4 ⑤ 5