1. 그림의 각 부분의 명칭을 연결한 것으로 바르지 <u>않은</u> 것은 어느 것인지 고르시오.

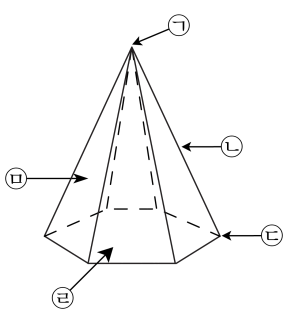

① ㉠ - 각뿔의 꼭짓점
② ㉡ - 면
③ ㉢ - 꼭짓점
④ ㉣ - 밑면
⑤ ㉤ - 옆면

해설

㉡은 면과 면이 만나는 모서리입니다.

2. 다음 그림과 같은 오각뿔에서 모서리 ㄱㄴ과 평행하지도 만나지도 않는 모서리를 모두 고르시오.

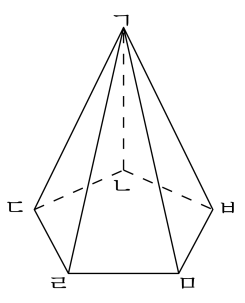

① 모서리 ㄴㄷ ② 모서리 ㄷㄹ ③ 모서리 ㄱㄹ
④ 모서리 ㄹㅁ ⑤ 모서리 ㅁㅂ

해설

모서리 ㄱㄷ, ㄱㄹ, ㄱㅁ, ㄱㅂ은 점 ㄱ에서 만나며, 모서리 ㄴㄷ, ㄴㅂ은 점 ㄴ에서 만납니다.

3. 각뿔에 대한 설명으로 옳은 것은 어느 것인지 고르시오.

① 면의 수는 꼭짓점의 수보다 항상 많습니다.

② 모서리의 수는 밑면의 변의 수와 같습니다.

③ 옆면은 밑면에 수직입니다.

④ 꼭짓점의 수는 옆면의 수보다 1큽니다.

⑤ 밑면의 변의 수는 꼭짓점의 수보다 큽니다.

해설

각뿔의 구성 요소 사이의 관계
(면의 수)= (밑면의 변의 수)+1
(모서리의 수)= (밑면의 변의 수)×2
(꼭짓점의 수)= (밑면의 변의 수)+1
① 면의 수는 꼭짓점의 수와 같습니다.
② 모서리의 수는 밑면의 변의 수의 2배입니다.

4. 다음 입체도형이 각뿔이 아닌 이유를 모두 고르시오.

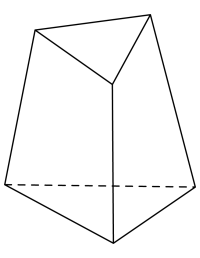

① 옆면이 삼각형이 아닙니다.

② 밑면이 삼각형입니다.

③ 옆면이 3개입니다.

④ 밑면이 2개입니다.

⑤ 두 밑면이 평행입니다.

해설

각뿔의 옆면은 삼각형이고 밑면은 1개입니다.

5. 다음 입체도형을 각뿔이라고 할 수 <u>없는</u> 이유를 모두 고르시오.

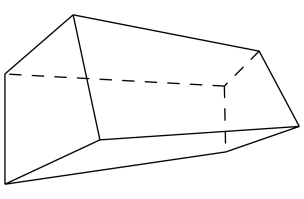

① 밑면이 한 개가 아닙니다.

② 꼭짓점이 4개입니다.

③ 모서리가 10개입니다.

④ 옆면이 삼각형이 아닙니다.

⑤ 면의 수가 8개입니다.

해설

각뿔의 밑면은 1개이고 옆면은 삼각형입니다.

6. 다음 중 각뿔의 옆면의 모양으로 알맞은 것은 어느 것입니까?

① 삼각형 ② 사각형 ③ 오각형
④ 육각형 ⑤ 칠각형

해설
각뿔의 옆면은 모두 삼각형입니다.

7. 다음은 각뿔의 옆면에 대한 설명입니다. 바르게 설명한 것은 어느 것인지 구하시오.

① 옆면의 하나는 4개의 모서리로 이루어져 있습니다.

② 옆면이 5개인 각뿔은 사각뿔입니다.

③ 각뿔의 옆면은 모두 삼각형입니다

④ 밑면의 모양에 따라 옆면의 모양이 달라집니다.

⑤ 각뿔의 높이는 모서리의 길이와 같습니다.

해설

① 각뿔의 옆면은 모두 삼각형이므로 3개의 모서리로 이루어져 있습니다.
② 옆면이 5개인 각뿔은 오각뿔입니다.
④ 밑면의 모양에 따라 옆면의 개수가 달라집니다.
⑤ 각뿔의 높이는 꼭짓점에서 밑면에 수직인 선분의 길이입니다.

8. 다음 각뿔에 대한 설명 중 <u>틀린</u> 것을 고르시오.

① 각뿔의 높이는 각뿔의 모선의 길이를 재면 됩니다.
② 각뿔은 밑면의 모양에 상관없이 옆면이 항상 삼각형입니다.
③ 각뿔의 꼭짓점에서 만나지 않는 면은 밑면입니다.
④ 옆면이 밑면이 되는 각뿔이 있습니다.
⑤ 각뿔의 꼭짓점은 항상 1개입니다.

해설

각뿔의 높이는 각뿔의 꼭짓점에서 밑면에 수직인 선분의 길이이므로 각뿔의 모선의 길이보다 짧습니다.

9. 삼십오각뿔의 모서리 수와 면의 수의 곱은 어느 것입니까?

① 70 ② 106 ③ 34 ④ 2502 ⑤ 2520

해설

삼십오각뿔은 밑면의 변의 수가 35개입니다.
(각뿔의 모서리 수) = (밑면의 변의 수) ×2
(각뿔의 면의 수) = (밑면의 변의 수) +1
$(35 \times 2) \times (35 + 1) = 70 \times 36 = 2520$

10. 다음 도형의 꼭짓점의 수와 모서리의 수의 합은 몇 개입니까?

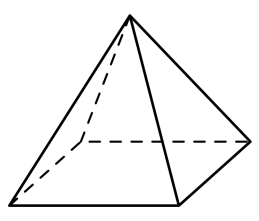

① 10개 ② 11개 ③ 12개 ④ 13개 ⑤ 14개

해설

위 그림은 사각뿔입니다.
사각뿔의 꼭짓점의 수 : (밑면의 변의 수) $+1 \Rightarrow 4+1=5$(개)
사각뿔의 모서리의 수 : (밑면이 변의 수) $\times 2 \Rightarrow 4 \times 2 = 8$(개)
꼭짓점의 수와 모서리의 수의 합 $\Rightarrow 5+8=13$(개)

11. 괄호 안에 들어갈 수나 말이 알맞지 않은 것을 고르시오.

	삼각뿔	사각뿔	오각뿔	육각뿔
밑면의 모양		(1)		
꼭짓점의 수			(2)	
옆면의 모양				(3)
면의 수	(4)			
모서리의 수			(5)	

① (1) - 사각형 ② (2) - 6개 ③ (3) - 삼각형
④ (4) - 4개 ⑤ (5) - 6개

해설

	삼각뿔	사각뿔	오각뿔	육각뿔
밑면의 모양	삼각형	사각형	오각형	육각형
꼭짓점의 수	4개	5개	6개	7개
옆면의 모양	삼각형	삼각형	삼각형	삼각형
면의 수	4개	5개	6개	7개
모서리의 수	6개	8개	10개	12개

(각뿔의 면의 수) = (꼭짓점의 수) = (밑면의 변의 수)+1,
(모서리의 수) = (밑면의 변의 수)×2

12. 다음 각기둥의 이름은 무엇입니까?

(꼭짓점 수)+(모서리 수)+(면의 수)= 38

① 삼각기둥 ② 사각기둥 ③ 오각기둥
④ 육각기둥 ⑤ 칠각기둥

해설

각기둥의 한 밑면의 변의 수 : $\square$
각기둥의 꼭짓점 수 : $\square \times 2$
각기둥의 모서리 수 : $\square \times 3$
각기둥의 면의 수 : $\square + 2$
$\square \times 6 + 2 = 38$
$\square = 6$

13. 다음과 같은 직사각형 6개의 옆면으로 둘러싸여 있는 각기둥의 모서리 길이의 합은 몇 cm입니까?

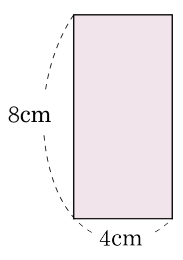

① 9.6 cm ② 196 cm ③ 69 cm
④ 96 cm ⑤ 960 cm

해설

옆면이 6개이면 육각기둥입니다.
밑면의 변의 길이는 4 cm 이므로,
$(4 \times 6) \times 2 + (8 \times 6) = 48 + 48 = 96(\text{cm})$

14. 각기둥과 각뿔이 각각 1개씩 있습니다. 이 각기둥의 밑면과 각뿔의 밑면은 합동이고, 두 입체도형의 면의 수를 합하면 13개입니다. 이 각기둥과 각뿔을 밑면끼리 꼭맞게 이어 붙여 새로운 도형을 만들 때, 다음 중 새로 만든 도형에 대해 바르게 설명한 것은 어느 것인지 고르시오.

① 면의 수는 12개입니다.

② 꼭짓점의 수는 10개입니다.

③ 밑면과 평행인 방향으로 자른 단면은 항상 오각형입니다.

④ 회전체입니다.

⑤ 모서리의 수는 25개입니다.

해설

각기둥의 한 밑면의 변의 수를 n 개라고 하면 각기둥의 면의 수는 $n+2$ 개입니다. 또 각기둥의 밑면과 합동인 각뿔의 밑면의 변의 수도 n 개이므로 각뿔의 면의 수는 $n+1$ 개입니다. 따라서 두 입체도형의 면의 수의 합은 $n+2+n+1=13$ 에서 $n=5$ 이므로 밑면은 오각형임을 알 수 있습니다. 즉, 새로 만든 입체도형은 오각기둥의 밑면에 오각뿔을 이어 붙여 만든 도형입니다.

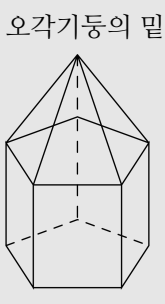

새로 만든 도형의 성질은 다음과 같습니다.
① 면의 수는 11 개입니다.
② 꼭짓점의 수는 11 개입니다.
③ 밑면에 평행인 방향으로 자른 단면은 오각형이 됩니다.
④ 이 도형은 회전체가 될 수 없습니다.
⑤ 모서리의 수는 20 개입니다.
따라서 주어진 성질을 갖는 도형에 대해 바르게 설명한 것은 ③ 입니다.

15. (밑변의 변의 수)+(모서리 수)+(면의 수)−(꼭짓점 수)= 51 인 각뿔의 이름은 어느 것입니까?

① 십오각뿔 ② 육각뿔 ③ 이십각뿔
④ 십칠각뿔 ⑤ 이십오각뿔

해설

밑변이 변의 수를 □라 하면

□ + (□ × 2) + (□ + 1) − (□ + 1) = 51

□ × 3 = 51

□ = 17

밑변의 수가 17 개인 각뿔은 십칠각뿔 입니다.