1. 다음 중 입체도형에 대한 설명으로 바른 것을 고르시오.

① 면과 면이 만나는 선분을 꼭짓점이라고 합니다.

② 모서리와 모서리가 만나는 점을 중심이라고 합니다.

③ 입체도형의 밑면은 1개입니다.

④ 입체도형의 옆으로 둘러싸인 면은 밑면이라고 합니다.

⑤ 입체도형의 밑면의 모양은 다양합니다.

2. 다음 밑면과 옆면의 모양에 알맞은 각기둥은 어느 것입니까?

〈밑면의 모양〉 〈옆면의 모양〉

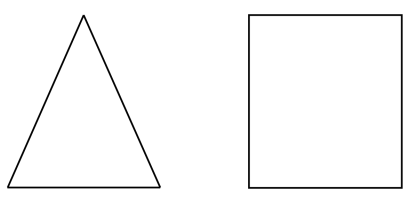

① 삼각기둥 ② 사각기둥 ③ 오각기둥
④ 육각기둥 ⑤ 칠각기둥

3. 다음 그림에 대한 설명이 바른 것은 어느 것인지 고르시오.

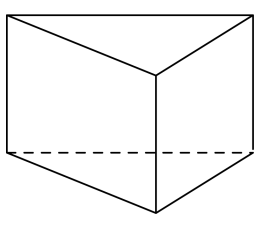

① 밑면모양이 육각형입니다.

② 모서리는 10개입니다.

③ 밑면이 1개입니다.

④ 옆면은 직사각형입니다.

⑤ 면의 모양이 모두 똑같습니다.

4. 다음 각기둥의 높이를 나타내는 선분이 <u>아닌</u> 것을 고르시오.

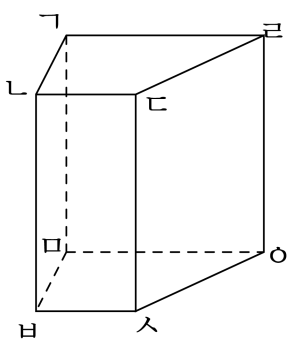

① 선분 ㄴㅂ ② 선분 ㄹㅇ ③ 선분 ㄱㄹ

④ 선분 ㄱㅁ ⑤ 선분 ㄷㅅ

5. □안에 알맞은 이름을 번호 순서대로 쓰시오.

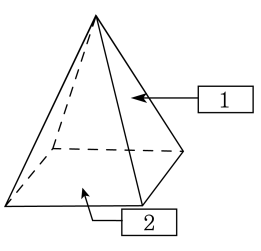

답: _____

답: _____

6. 다음 그림과 같은 오각뿔에서 모서리 ㄱㄴ과 평행하지도 만나지도 않는 모서리를 모두 고르시오.

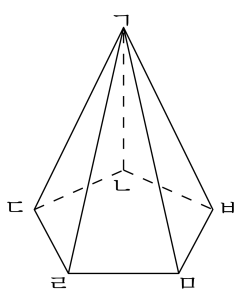

① 모서리 ㄴㄷ ② 모서리 ㄷㄹ ③ 모서리 ㄱㄹ

④ 모서리 ㄹㅁ ⑤ 모서리 ㅁㅂ

7. 그림과 같이 육각기둥을 색칠한 면을 따라 잘라서 2개의 각기둥을 만들었습니다. 이 두 각기둥을 떼어 놓았을 때, 직사각형인 면은 모두 몇 개인지 알아보시오.

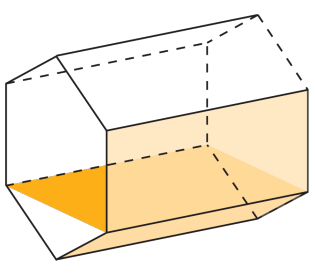

답: _____ 개

8. 오각기둥과 육각기둥의 모서리의 수의 합을 구하시오.

답: _____ 개

9. 다음 전개도로 만든 입체도형에서 변 IJ 와 맞닿는 변은 어느 변인지 고르시오.

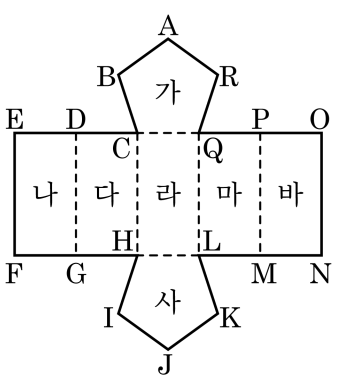

① 변 HI ② 변 FG ③ 변 GH

④ 변 LM ⑤ 변 MN

10. 다음 입체도형을 각뿔이라고 할 수 <u>없는</u> 이유를 모두 고르시오.

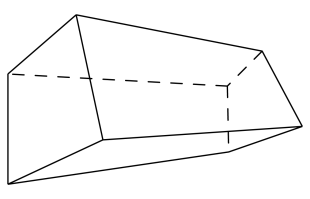

① 밑면이 한 개가 아닙니다.

② 꼭짓점이 4개입니다.

③ 모서리가 10개입니다.

④ 옆면이 삼각형이 아닙니다.

⑤ 면의 수가 8개입니다.

11. 괄호 안에 들어갈 수나 말이 알맞지 않은 것을 고르시오.

	삼각뿔	사각뿔	오각뿔	육각뿔
밑면의 모양		(1)		
꼭짓점의 수			(2)	
옆면의 모양				(3)
면의 수	(4)			
모서리의 수			(5)	

① (1) - 사각형 ② (2) - 6개 ③ (3) - 삼각형
④ (4) - 4개 ⑤ (5) - 6개

12. 다음 중 칠각기둥과 칠각뿔에 대한 설명으로 옳은 것을 모두 고르시오.

① 밑면의 모양은 모두 칠각형입니다.

② 칠각뿔의 면은 9개입니다.

③ 칠각뿔의 모서리는 14개입니다.

④ 칠각기둥의 꼭짓점은 8개입니다.

⑤ 칠각뿔의 옆면은 모두 합동인 직사각형입니다.

13. 꼭짓점의 수와 모서리의 수의 합이 16 개인 각뿔의 이름을 쓰시오.

답: _____

14. 꼭짓점의 수가 10 개인 각기둥의 면은 몇 개입니까?

답: _____ 개

15. 다음 사각기둥을 두 개의 입체도형으로 나누었습니다. 두 도형의 모서리 수의 합을 구하시오.

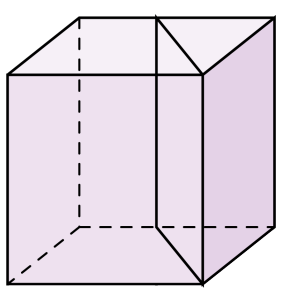

① 19개 ② 18개 ③ 21개 ④ 15개 ⑤ 25개

16. 다음은 어떤 입체도형의 전개도입니까?

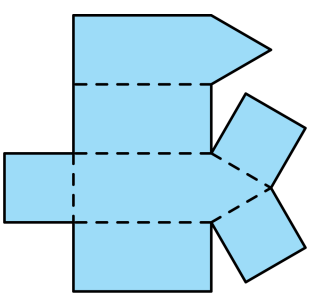

답: _____

17. 다음 전개도는 밑면의 가로가 2cm, 세로가 1cm 인 직사각형이고, 높이가 3cm 인 사각기둥의 전개도입니다. 이 전개도를 완성했을 때, 옆면의 넓이를 구하시오.

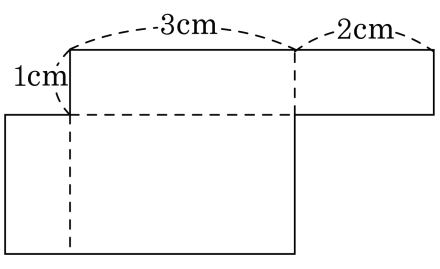

답: _____ cm^2

18. 면의 수가 8개인 각기둥의 모서리의 수와 각뿔의 꼭짓점의 수를 더하시오.

답: _____

19. 사각기둥 4개의 면에 선분을 그었습니다. 전개도에 빠진 선분 한 개를 그려 넣을 때, 그려지는 면의 기호를 쓰시오.

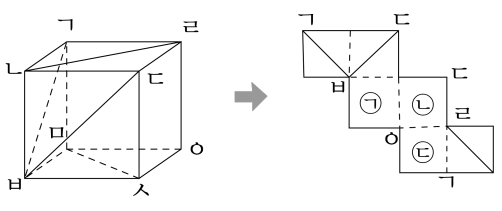

답: _____

20. 다음 전개도로 만든 물통이 있습니다. 밑면이 바닥에 닿도록 세운 후 물을 절반만큼 차도록 부었을 때, 물통에서 물이 닿은 부분의 넓이를 구하시오.

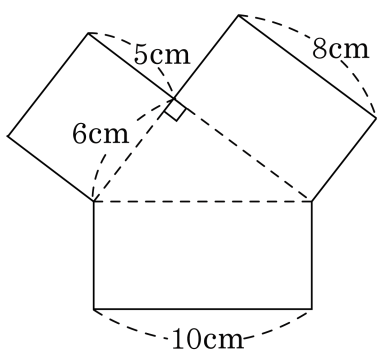

답: _____ cm^2