1. 다음 중 같은 쌓기나무를 바르게 짝지은 것은 어느 것입니까?

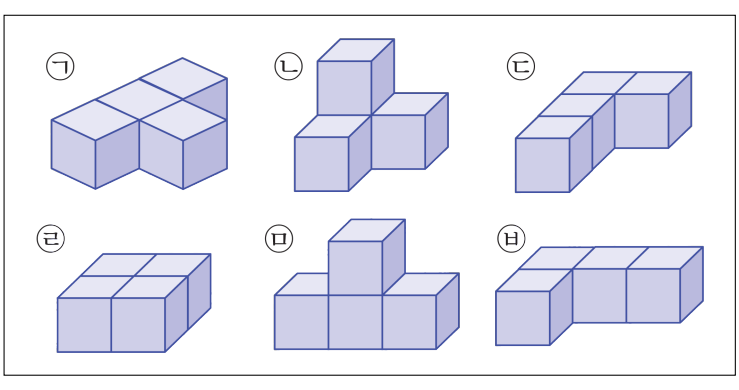

① ㉠,㉢ ② ㉢,㉤ ③ ㉡,㉤ ④ ㉢,㉥ ⑤ ㉠,㉥

2. 쌓기나무로 그림과 같은 모양을 만들어 보고, 규칙을 바르게 말한 것을 고르시오.

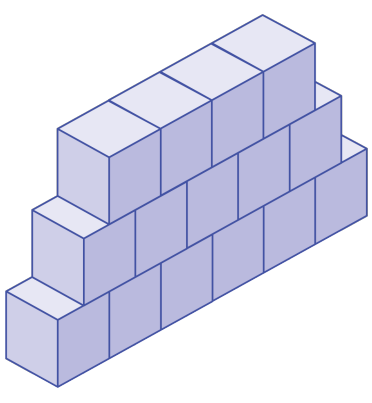

① 위로 올라갈수록 3개씩 줄어듭니다.

② 위로 올라갈수록 2개씩 늘어납니다.

③ 위로 올라갈수록 1개씩 늘어납니다.

④ 위로 올라갈수록 2개씩 줄어듭니다.

⑤ 위로 올라갈수록 1개씩 줄어들고 엇갈려 쌓았습니다.

3. 비의 성질을 이용하여 비례식을 만들었습니다. 다음 중 비례식을 만드는 데 이용한 비의 성질이 <u>다른</u> 것은 어느 것입니까?

① $3:5=15:25$
② $6:7=12:14$
③ $8:10=4:5$
④ $4:9=100:225$
⑤ $12:7=24:14$

4. 다음 비를 가장 간단한 자연수의 비로 나타낸 것은 어느 것인지 고르시오.

$$0.3 : \frac{2}{5}$$

① 5 : 3 ② 3 : 4 ③ 4 : 3 ④ 4 : 30 ⑤ 2 : 15

5. 비례식 $3 : \square = 18 : 12$ 에서 $\square$를 구하는 식으로 알맞은 것은 어느 것인지 고르시오.

① $3 \times 12 \times 18$ ② $3 \times 12 \div 18$ ③ $18 \div 3 \times 12$

④ $18 \times 12 \div 3$ ⑤ $18 \div 3 \div 12$

6. 다음 중 어떤 양을 $4:9$ 로 비례배분할 때, 알맞은 분수의 비를 모두 고르시오.

① $\frac{1}{4}:\frac{1}{9}$ ② $\frac{1}{9}:\frac{1}{4}$ ③ $\frac{36}{4}:\frac{36}{9}$
④ $\frac{4}{13}:\frac{9}{13}$ ⑤ $\frac{9}{13}:\frac{4}{13}$

7. 형은 12 살이고 동생은 8 살입니다. 8000 원을 형과 동생의 나이의 비로 나누어 가진다고 할 때, 형과 동생은 각각 얼마씩 가지면 되는지 구하시오.

① 형-6000 원, 동생-2000 원
② 형-5500 원, 동생-2500 원
③ 형-5000 원, 동생-3000 원
④ 형-4800 원, 동생-3200 원
⑤ 형-4500 원, 동생-3500 원

8. 다음 13개의 쌓기나무 중 2층의 쌓기나무를 모두 빼면 몇 개의 쌓기나무가 남습니까?

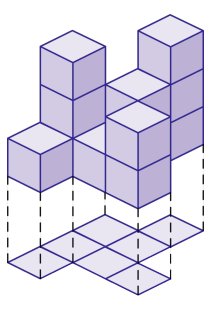

① 6개 ② 7개 ③ 8개 ④ 9개 ⑤ 10개

9. 쌓기나무로 다음과 같은 모양을 만들었습니다. 가와 나의 쌓기나무 개수의 차를 구하시오.

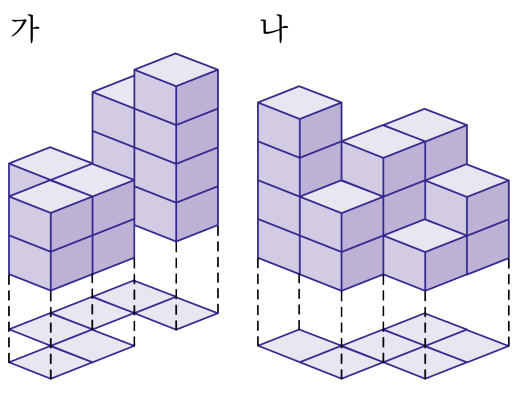

답: _____ 개

10. 다음 그림과 같은 쌓기나무의 모양을 위, 앞, 오른쪽 옆에서 본 모양대로 그렸을 때, 나타나는 정사각형의 개수는 모두 몇 개인지 구하시오.

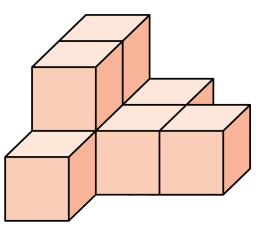

답: _____ 개

11. 다음 모양에서 오른쪽 모양으로 만들려면 쌓기나무를 몇 개 빼내면 되겠는지 구하시오.

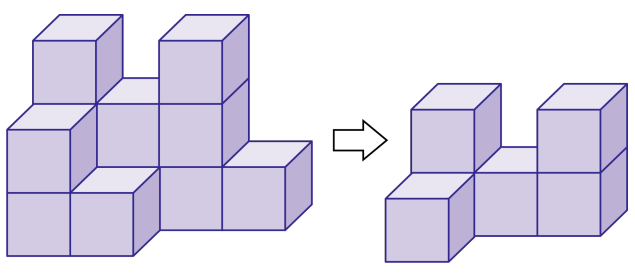

답: _____ 개

12. 다음 그림과 같은 규칙으로 쌓기나무를 9층까지 쌓을 때, 1층에 놓일 쌓기나무의 개수는 몇 개입니까?

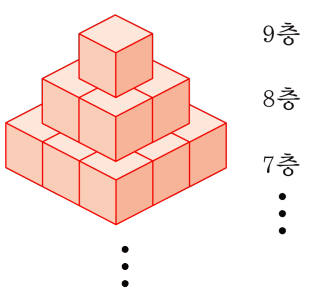

답: _____ 개

13. 다음과 같은 규칙으로 쌓기나무를 쌓을 때, 일곱째 번 쌓기나무는 모두 몇 개 필요합니까?

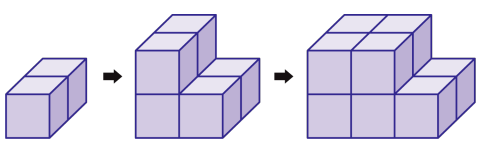

① 26개 ② 22개 ③ 18개 ④ 14개 ⑤ 10개

14. 크기가 같은 정육면체 모양의 쌓기나무 여러 개를 쌓아 정육면체를 만들려고 합니다. 넷째 번으로 작은 정육면체를 만들 때, 필요한 쌓기나무는 모두 몇 개입니까? (단, 쌓기나무는 2개 이상 사용되어야 합니다.)

① 216 개 ② 125 개 ③ 64 개
④ 81 개 ⑤ 27 개

15. 비의 값이 $\frac{1}{3}$ 인 두 비를 비례식으로 나타내었더니 네 항이 다음과 같았습니다. $\boxed{}$를 차례대로 구하시오.

내항 : $\boxed{}$, 18 외항 : 6 , 27 ⇒ 6 : $\boxed{}$ = $\boxed{}$: 27

답: _____

답: _____

답: _____

16. 다음 비를 가장 간단한 자연수의 비로 나타내시오.

$3\frac{1}{2} : 1.5$

답: _____

17. 아버지는 4 일간 일을 하고 150000 원의 임금을 받았습니다. 아버지가 600000 원을 받았다면, 며칠 동안 일을 한 것인지 구하시오.

답: _____ 일

18. 길이가 1 m인 막대의 그림자가 0.6 m라고 합니다. 같은 시각 그림자의 길이가 8.4 m인 나무의 높이는 몇 m인지 구하시오.

① 10 m ② 11 m ③ 12 m ④ 13 m ⑤ 14 m

19. 바닷물 5 L 를 증발시켜 180 g 의 소금을 얻었습니다. 바닷물 12 L 를 증발시키면, 몇 g 의 소금을 얻을 수 있는지 구하시오.

답: _____ g

20. 박하사탕과 자두맛 사탕이 들어 있는 상자의 무게 중 $8\,\%$가 바구니의 무게이고 박하사탕의 무게가 $32\,\%$라고 할 때, 자두맛 사탕과 상자의 무게의 비를 가장 간단한 자연수의 비로 나타내시오.

답: _____

21. 다음은 쌓기나무를 쌓은 모양을 나타낸 것입니다. 쌓기나무의 수는 어느 것이 몇 개 더 많은지 순서대로 쓰시오. (단, 바탕 그림 위의 수는 각 자리에 쌓여있는 쌓기나무의 수입니다.)

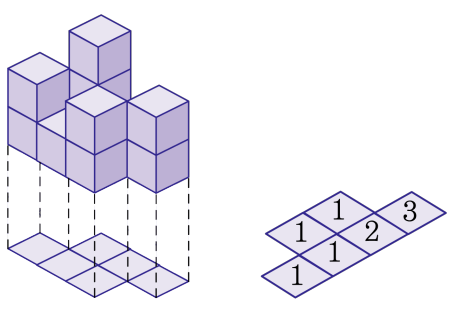

㉠ ㉡

답: _____

답: _____ 개

22. 다음 그림은 쌓기나무로 만든 모양의 바탕 그림과 앞, 옆에서 본 모양을 그린 것입니다. 바탕 그림의 ★ 부분에 놓인 쌓기나무의 수는 몇 개입니까?

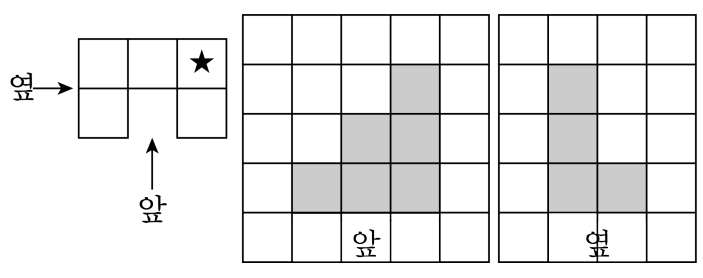

답: _____ 개

23. 아래 그림은 어떤 모양을 앞, 위, 오른쪽 옆에서 본 것입니다. 사용된 쌓기나무 개수는 최대 몇 개인지 구하시오.

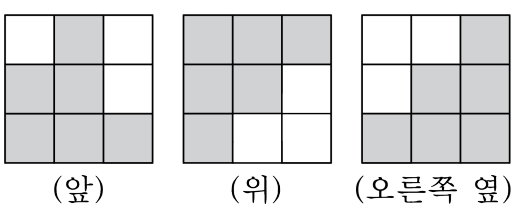

답: _____ 개

24. 다음 그림은 한 모서리의 길이가 3 cm 인 정육면체 모양의 쌓기나무를 11 개 쌓은 것입니다. 밑면을 포함한 모든 겉면을 페인트로 칠하고 쌓기나무를 한 개씩 떼어 내면, 페인트가 칠해지지 않은 면의 넓이의 합은 몇 cm^2 가 되는지 구하시오.

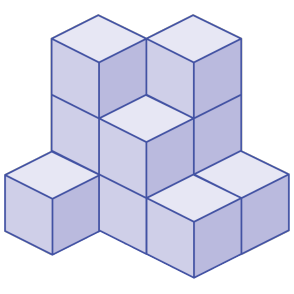

답: _____ cm^2

25. 다음 그림과 같은 규칙에 따라 쌓기나무를 아래 방향으로 쌓을 때, 1층에는 쌓기나무가 몇 개 필요한지 구하시오.

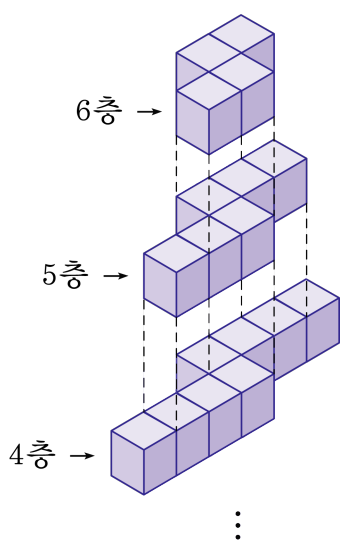

답: _____ 개

26. 다음 비례식에서 외항의 곱이 40 일 때, ㉠× ㉡의 값을 구하시오. (단, ㉡은 자연수입니다.)

(㉡+3) : ㉠= 2 : ㉡

답: _____

27. 원 ㉮, ㉯가 다음 그림과 같이 겹쳐 있습니다. 겹친 부분의 넓이는 ㉮의 $\frac{2}{3}$ 이고, ㉯의 $\frac{3}{5}$ 입니다. ㉯의 넓이가 $72\,\mathrm{cm}^2$ 이면, ㉮의 넓이는 몇 cm^2 입니까?

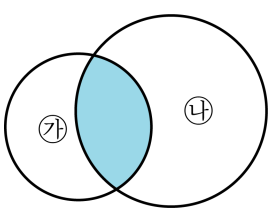

① $30\,\mathrm{cm}^2$　② $52\,\mathrm{cm}^2$　③ $9\,\mathrm{cm}^2$
④ $54.6\,\mathrm{cm}^2$　⑤ $64.8\,\mathrm{cm}^2$

28. 다음은 바탕그림 위에 쌓기나무의 개수를 표시한 그림입니다. (가), (나) 의 2층 개수들의 합은 3층 개수들의 합보다 몇 개 더 많은지 구하시오.

(가)

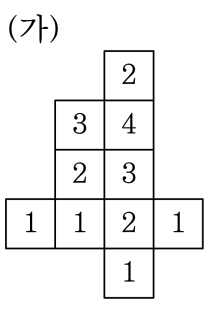

(나)

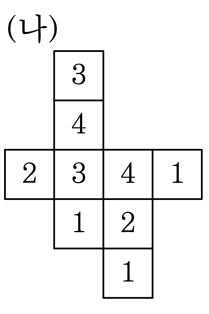

답: _____ 개

29. 다음 그림에서 겹쳐진 부분의 넓이는 직사각형의 $\frac{2}{5}$, 정오각형의 $\frac{1}{4}$ 입니다. 직사각형과 정오각형의 넓이의 차가 $15\,\mathrm{cm}^2$ 일 때, 직사각형과 정오각형의 넓이의 비를 가장 간단한 자연수의 비로 나타내고, 겹쳐진 부분의 넓이를 구하여 차례대로 쓰시오.

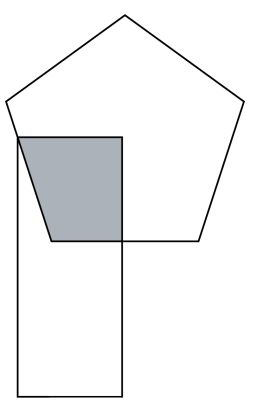

답: _____

답: _____ cm^2

30. 의연이와 장연이가 가지고 있는 용돈의 비는 $3:5$이고, 의연이는 3000원을 가지고 있습니다. 두 사람이 똑같이 돈을 내어 부모님의 선물을 사고 나니 남은 돈의 비가 $1:5$가 되었습니다. 지금 장연이에게 남은 돈은 얼마인지 구하시오.

답: _____ 원