1. 다음 사각형 ㄱㄴㄷㄹ에서 변 ㄴㄷ에 수직인 변은 모두 몇 개입니까?



답: _____ 개

2. 두 평행선 사이의 거리를 나타내고 있는 선분은 어느 것인지 구하시오.

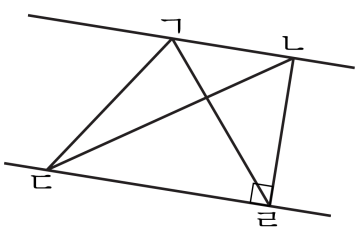

답: 선분 _____

3. 다음은 진희의 몸무게를 해마다 6월 1일에 측정하여 그래프로 나타낸 것입니다. 2학년 12월쯤에 진희의 몸무게는 약 몇 kg이라고 짐작할 수 있는지 구하시오.

진희의 몸무게

(매년 6월 1일 조사)

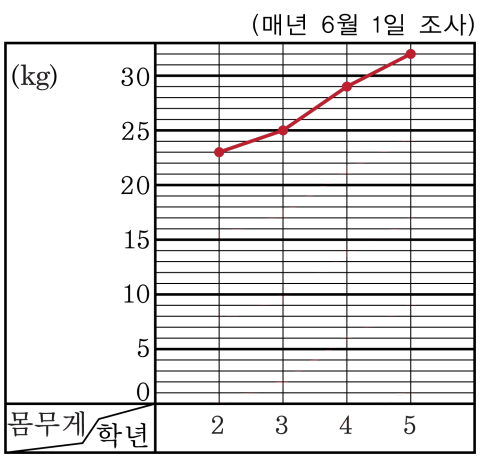

답: _____ kg

4. 다음 그래프는 교실의 온도를 조사한 것입니다. 온도가 가장 높을 때와 가장 낮을 때의 온도차를 구하시오.

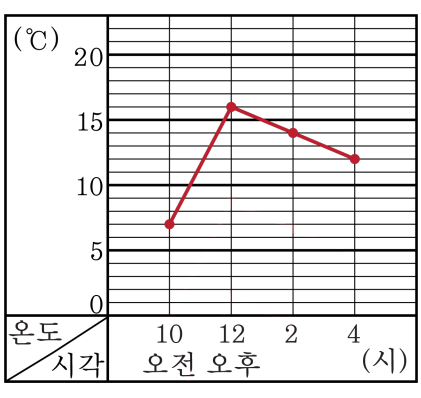

답: _____ °C

5. 다음 그래프는 자동차가 일정한 속도로 움직인 거리를 나타낸 것입니다. 같은 속도로 움직인다면 자동차가 135 km의 거리를 가려면 몇 분 동안 움직여야 하는지 구하시오.

자동차가 움직인 거리

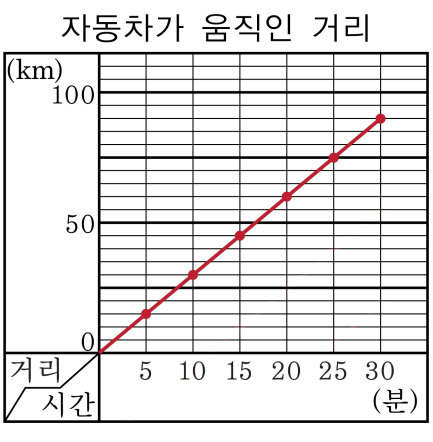

답: _____ 분

6. 영식이는 일 주일 동안 팔굽혀펴기를 모두 몇 회 했는지 구하시오.

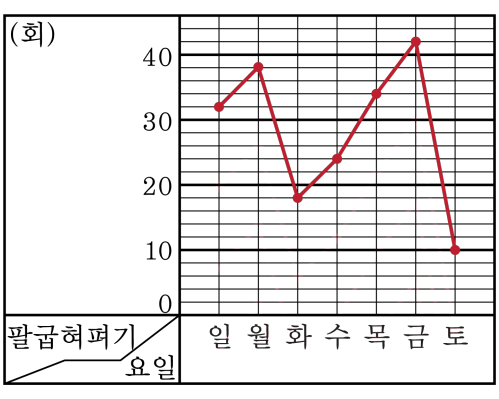

답: _____ 회

7. 꺾은선그래프를 그릴 때 변화하는 모양을 뚜렷하게 나타내기 위해 필요 없는 부분을 줄여서 그리려고 합니다. 이 때 그래프에서 사용하는 것은 무엇인지 구하시오.

답: _____

8. 소영이는 빵의 $\frac{17}{23}$을 먹었고, 동건이는 빵의 $\frac{22}{23}$를 먹었습니다. 동건이는 소영이보다 얼마나 더 많이 먹었는지 구하시오.

① $\frac{2}{23}$ ② $\frac{5}{23}$ ③ $\frac{9}{23}$ ④ $\frac{10}{23}$ ⑤ $\frac{22}{23}$

9. 체력장을 하는데 승재는 공 던지기에서 67.24 m를 던졌고 나라는 58.84 m를 던졌습니다. 누가 얼마나 더 멀리 던졌는지 구하시오.

① 승재, 8.4 m ② 나라, 8.4 m ③ 승재, 8.6 m
④ 나라, 8.6 m ⑤ 승재, 7.4 m

10. 2.004 보다 크고 2.01 보다 작은 소수 세 자리의 수 중에서 가장 큰 수와 가장 작은 수의 합을 구하시오.

답: _____

11. $\boxed{}$ 안에 들어갈 알맞은 숫자들의 합을 구하시오.

$$\begin{array}{r} 3\square.5\square4 \\ +\quad 4.\square3\square \\ \hline \square1.221 \end{array}$$

답: _____

12. 경림이네 집에는 강아지가 세 마리 입니다. 호야는 하루에 2.4 kg, 해피는 3.7 kg, 치와는 1.09 kg의 먹이를 먹습니다. 세 마리의 강아지가 하루에 먹는 먹이는 모두 몇 kg인지 구하시오.

답: _____ kg

13. 길이가 3.43 m인 색 테이프 두 개를 0.02 m씩 겹쳐서 이으려고 합니다. 색 테이프의 길이는 모두 몇 m가 되겠는지 구하시오.

답: _____ m

14. 0.001 이 2467 인 수보다 3.675 큰 수를 구하시오.

답: _____

15. 다음 중 사다리꼴에 대한 설명은 어느 것인지 구하시오.

① 두 쌍의 마주 보는 각의 크기가 같습니다.

② 적어도 한 개의 각은 직각입니다.

③ 한 쌍의 마주 보는 변의 길이가 같습니다.

④ 네 변의 길이가 항상 같습니다.

⑤ 한 쌍의 마주 보는 변이 평행입니다.

16. 정사각형에 대한 설명 중 바르지 <u>못한</u> 것은 어느 것인지 고르시오.

① 네 각의 크기가 같습니다.

② 네 변의 길이가 같습니다.

③ 마주 보는 변이 평행합니다.

④ 사다리꼴이라 할 수 없습니다.

⑤ 평행사변형이라 할 수 있습니다.

17. 다음은 어떤 사각형의 성질인지 쓰시오.

마주 보는 변의 길이가 같다. 네 각의 크기가 모두 같다. 평행사변형이라고 할 수 있다.

답: _____

18. 다음 사각형에 대한 설명 중 <u>틀린</u> 것은 어느 것인지 고르시오.

① 사다리꼴 : 한 쌍의 마주 보는 변이 평행인 사각형

② 평행사변형 : 두 쌍의 마주 보는 변이 평행인 사각형

③ 정사각형 : 마주 보는 변의 길이가 같은 사각형

④ 직사각형 : 네 각이 모두 직각인 사각형

⑤ 마름모 : 네 변의 길이가 같은 사각형

19. 빈 칸에 알맞은 수를 차례대로 쓴 것은 어느 것입니까?

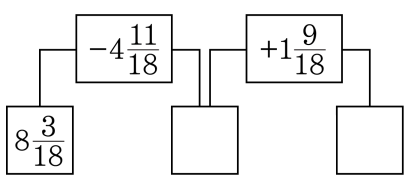

① $4\frac{10}{18}$, 7　② $4\frac{10}{18}$, 6　③ $4\frac{8}{18}$, $6\frac{16}{18}$
④ $3\frac{10}{18}$, $5\frac{1}{18}$　⑤ $3\frac{8}{18}$, $5\frac{17}{18}$

20. $\boxed{}$ 안에 알맞은 수를 차례대로 구한 것은 어느 것입니까?

(1) 3.64는 0.01이 $\boxed{}$인 수입니다.
(2) 8.06은 0.001이 $\boxed{}$인 수입니다.

① (1) 3.64 (2) 806
② (1) 3.64 (2) 8060
③ (1) 36.4 (2) 8060
④ (1) 364 (2) 806
⑤ (1) 364 (2) 8060