1. 다음은 작년 한해 부산의 계절별 비온 날 수를 조사한 막대그래프입니다.

〈계절별 비 온 날 수〉

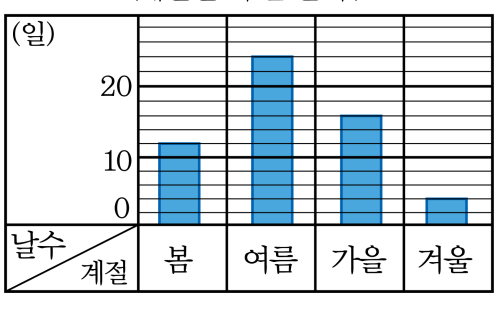

세로의 작은 눈금 한 칸은 몇 일을 나타냅니까?

① 1일 ② 2일 ③ 3일 ④ 4일 ⑤ 5일

해설

세로의 작은 눈금 한 칸은 2일입니다.

2. 경민이네 반 학생들이 선택한 아침 운동을 조사하여 나타낸 막대그래프입니다.

〈학생들의 아침 운동〉

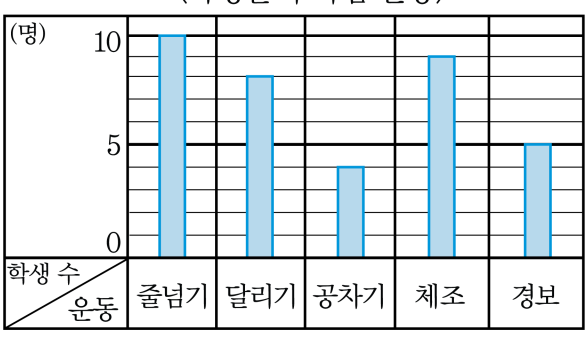

가장 많이 선택한 아침운동은 무엇인지 쓰시오.

▶ 답 :

▷ 정답 : 줄넘기

해설

10 명이 선택한 줄넘기를 가장 많이 선택하였습니다.

3. 광일이네 학교 4학년 학생 중 영어 말하기 대회에 참가한 반별 학생 수를 조사하여 나타낸 막대 그래프입니다.

〈영어 말하기 대회에 참가한 반별 학생 수〉



영어 말하기 대회에 참가한 학생 수가 가장 많은 반부터 차례대로 쓰면 어느 것입니까?

① 4반-1반-3반-2반
② 4반-2반-1반-3반
③ 1반-3반-2반-4반
④ 1반-2반-3반-4반
⑤ 3반-2반-1반-4반

해설

가장 많은 반부터 차례로 4반-1반-3반-2반입니다.

4. 어린이 대공원에 온 초등학생 수를 조사하여 나타낸 막대그래프입니다.

〈어린이 대공원에 온 초등학생 수〉

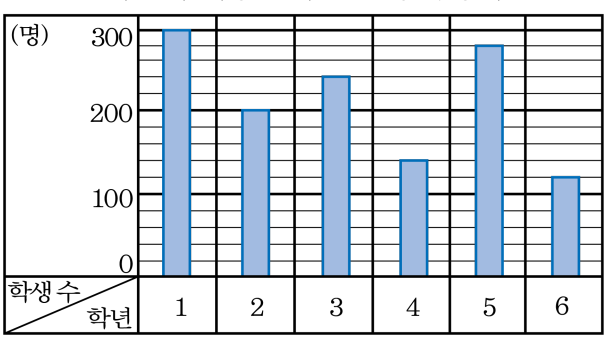

어린이 대공원에 가장 많이 오는 학년은 몇 학년이라고 할 수 있습니까?

① 1학년 ② 2학년 ③ 3학년
④ 4학년 ⑤ 5학년

해설

막대그래프에서 막대가 가장 긴 1학년이 어린이 대공원에 가장 많이 오는 초등학생이라고 할 수 있습니다.

5. 칠봉이네 학교의 4학년 학예회에 참여한 남학생과 여학생의 수를 반별로 조사하여 나타낸 막대그래프입니다. 학예회에 참여한 남학생과 여학생의 수가 같은 반은 어느 반 입니까?

〈학예회에 참여한 남학생과 여학생의 수〉

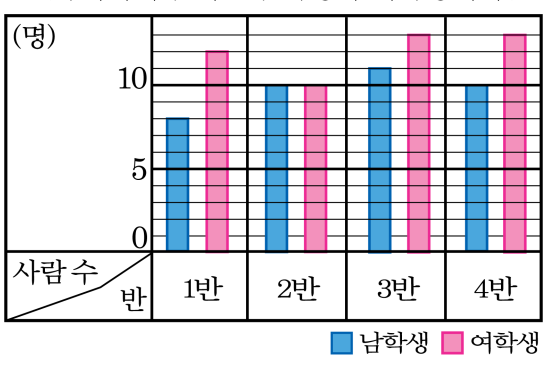

① 1반 ② 2반 ③ 3반 ④ 4반 ⑤ 없다.

해설

2반이 10명으로 같다.

6. 명수네 반 학급 문고에 있는 책을 종류별로 조사하여 막대그래프로 나타낸 것입니다.

〈학급 문고 책의 수〉

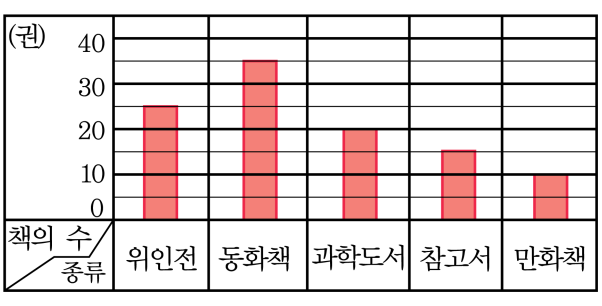

세로 눈금 한 칸은 몇 권을 나타내는지 구하시오.

▶ 답 : _____ 권

▷ 정답 : 5 권

해설

2칸이 10권을 나타내므로 한 칸은 $10 \div 2 = 5$(권)을 나타냅니다.

7. 영이 친구들의 취미를 조사하여 나타낸 막대그래프입니다. 다음 중 설명이 <u>틀린</u> 것은 어느 것입니까?

〈친구들의 취미〉

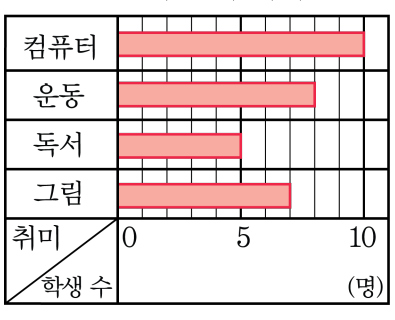

① 가로는 학생 수를 나타냅니다.

② 세로는 취미를 나타냅니다.

③ 가로 눈금 한 칸은 1 명을 나타냅니다.

④ 운동을 좋아하는 학생은 8 명입니다.

⑤ 조사한 친구는 모두 29 명입니다.

해설

조사한 친구는 모두 $10+8+5+7=30$(명) 입니다.

8. 다음 막대그래프는 민수네 반 학생들이 가장 좋아하는 과일을 조사하여 나타낸 것입니다.

〈가장 좋아하는 과일〉

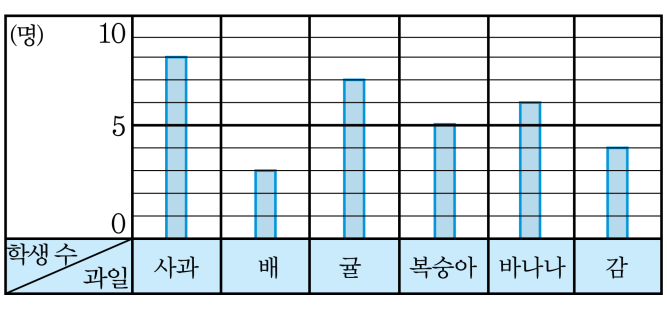

학생 수를 나타내는 눈금을 2명으로 하여 막대그래프를 다시 그리면, 바나나는 막대 몇 칸으로 나타내야 합니까?

① 1칸 ② 2칸 ③ 3칸 ④ 4칸 ⑤ 6칸

해설

바나나를 좋하하는 학생은 6명이므로 $6 \div 2 = 3$(칸)으로 나타내야 합니다.

9. 학생들이 좋아하는 과일을 조사하여 표와 막대그래프를 나타낸 것입니다. 빈칸을 잘못 채운 것을 고르면 무엇입니까?

<좋아하는 과일>

좋아하는 과일	딸기	사과	귤	복숭아	계
학생 수(명)	①	5	10	2	②

〈 ③ 〉

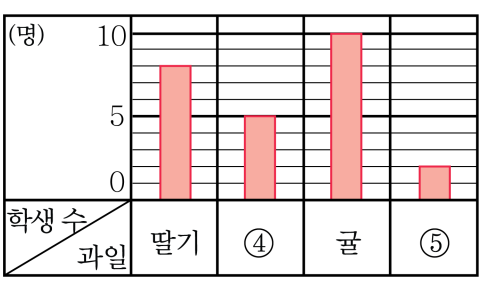

① 8　　② 24　　③ 좋아하는 과일

④ 사과　　⑤ 복숭아

해설

② $8+5+10+2=25$

10. 형돈이네 반 학생들이 좋아하는 간식을 조사하여 표와 막대그래프로 나타낸 것입니다. 빈칸을 잘못 채운 것을 고르면?

<좋아하는 간식>

간식	①	치킨	피자	햄버거	아이스크림	계
학생 수(명)	5	②	6	4	2	③

〈좋아하는 간식〉

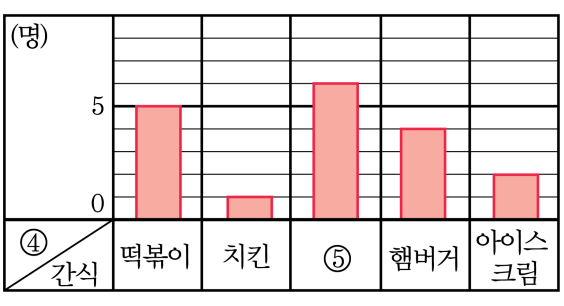

① 떡볶이　　② 1　　③ 20

④ 학생 수　　⑤ 피자

해설

③ $5+1+6+4+2=18$

11. 수지네 반 학생들이 과목별 좋아하는 학생 수를 조사하여 나타낸 막대그래프입니다.

〈과목별 좋아하는 학생 수〉

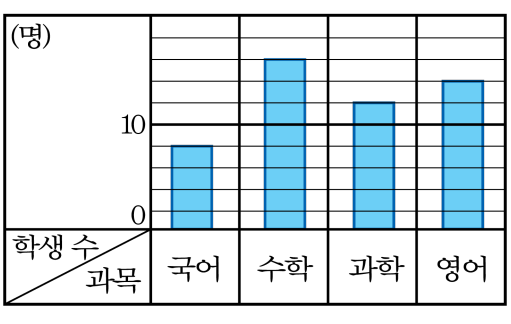

가장 많은 학생들이 좋아하는 과목과 가장 적은 학생들이 좋아하는 과목의 학생 수의 차는 몇 명인지 구하시오.

▶ 답 : _____ 명

▷ 정답 : 8 명

해설

(가장 긴 막대의 학생 수)−(가장 짧은 막대의 학생 수)
$= 16 - 8 = 8$(명)

12. 봉사 활동에 참가한 학생이 가장 많은 학급은 몇 반인지 구하시오.

〈봉사 활동에 참가한 학생 수〉

▶ 답 : 반

▷ 정답 : 2반

해설

20 명으로 가장 많은 반은 2 반입니다.

13. 은영이네 반 학생들이 좋아하는 주스를 조사하여 나타낸 막대그래프입니다.

〈좋아하는 주스〉

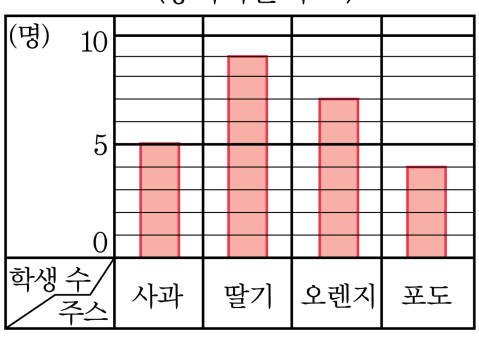

은영이네 반 학생들의 간식으로 어떤 주스를 준비하는 것이 좋겠습니까?

▶ 답 : _____ 주스

▷ 정답 : 딸기주스

해설

딸기주스를 좋아하는 학생이 가장 많으므로 딸기주스를 준비하는 것이 좋겠습니다.

14. 마을별로 초등학생이 있는 가정 수를 조사하여 나타낸 표입니다.

〈마을별 초등학생이 있는 가정 수〉

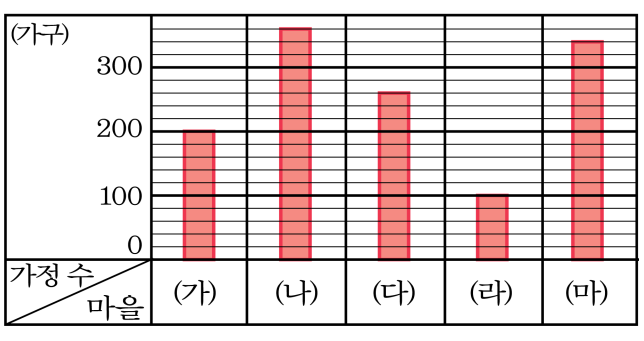

초등학생이 있는 가정을 대상으로 설문조사를 할 때, 많은 자료를 얻기 위해서는 어느 마을을 방문하는 것이 좋겠습니까?

① (가) 마을 ② (나) 마을 ③ (다) 마을
④ (라) 마을 ⑤ (마) 마을

해설

(나) 마을에 초등학생이 있는 가정 수가 가장 많으므로, 많은 자료를 얻기 위해서는 (나) 마을을 방문하는 것이 좋겠습니다.

15. 혜성이네 학교에서 4학년 반별로 남학생과 여학생이 모은 스티커 수를 나타낸 막대그래프입니다. 남학생이 모은 스티커 수와 여학생이 모은 스티커 수의 차가 가장 작은 반은 어느 반이고, 그 차는 몇 장입니까?

<반별로 모은 스티커 수>

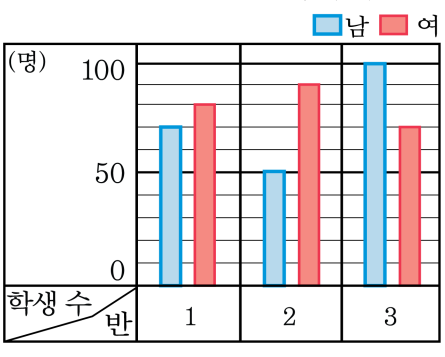

① 1반, 8장　② 1반, 9장　③ 1반, 10장
④ 2반, 10장　⑤ 3반, 10장

해설

남학생과 여학생이 모은 스티커 수의 차가 가장 작은 반은 1반이고, 1반의 남학생이 모은 스티커 수는 70장, 여학생이 모은 스티커 수는 80장이므로 그 차는 $80 - 70 = 10$(장)

16. 우진이네 학교에서 4학년 반별로 남학생과 여학생이 모은 폐휴지의 무게를 조사하여 나타낸 막대그래프입니다.

〈반별 모은 폐휴지의 무게〉

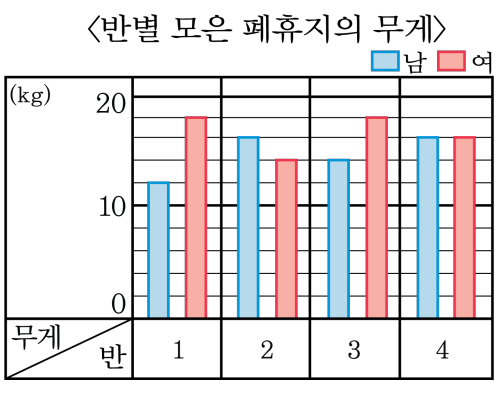

남학생이 모은 폐휴지의 무게가 여학생이 모은 폐휴지의 무게보다 무거운 반은 몇 반입니까?

▶ 답 : _____ 반

▷ 정답 : 2반

해설

남학생의 막대의 길이가 여학생의 막대의 길이보다 긴 것은 2반입니다.

17. 어떤 초등학교 4학년 반별 교내 글짓기 대회에서 참가한 학생 수를 조사하여 나타낸 막대그래프입니다.

〈교내 글짓기 대회의 참가 학생 수〉

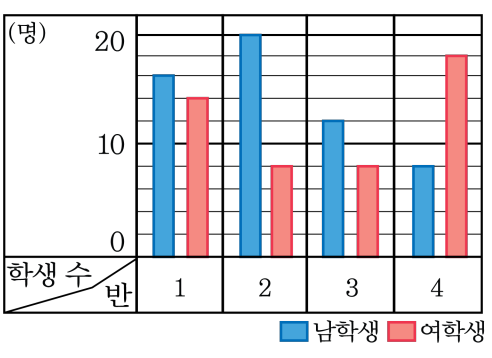

참가자수가 가장 많은 반은 몇 반입니까?

▶ 답 : _____ 반

▷ 정답 : 1반

해설

	남	여	총
1반	8	7	15
2반	10	4	14
3반	6	4	10
4반	4	9	13

18. 다음을 막대그래프를 그리는 순서대로 나열하시오.

보기

㉠ 그린 막대그래프에 알맞은 제목을 붙입니다.

㉡ 가로와 세로 중에서 조사한 수를 어느 쪽에 나타낼 것인지를 정합니다.

㉢ 조사한 수에 맞도록 막대를 그립니다.

㉣ 조사한 수 중에서 가장 큰 수까지 나타낼 수 있도록 눈금 한 칸의 크기를 정한 후, 눈금의 수를 정합니다.

▶ 답 :

▶ 답 :

▶ 답 :

▶ 답 :

▷ 정답 : ㉡

▷ 정답 : ㉣

▷ 정답 : ㉢

▷ 정답 : ㉠

해설

㉡-㉣-㉢-㉠의 순서대로 막대그래프를 그린다.

19. 다음은 네 마을의 쌀 수확량을 조사하여 막대그래프로 나타낸 것입니다. 가 마을과 나 마을의 쌀 수확량의 합은 다 마을의 쌀 수확량의 몇 배인지 구하시오.

〈마을별 쌀 수확량〉

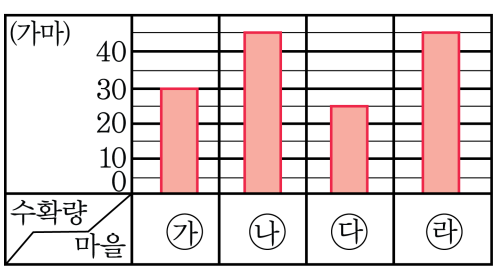

▶ 답 : _____ 배

▷ 정답 : 3 배

해설

가 마을= 30(가마)
나 마을= 45(가마)
다 마을= 25(가마)
∴ 가+나 = 75(가마) 이므로
가와 나의 쌀 수확량은
다의 쌀 수확량의 3 배이다.

20. 현수네 학교 4학년 학생들이 좋아하는 과일을 조사하여 막대그래프로 나타낸 것입니다.

〈좋아하는 과일〉

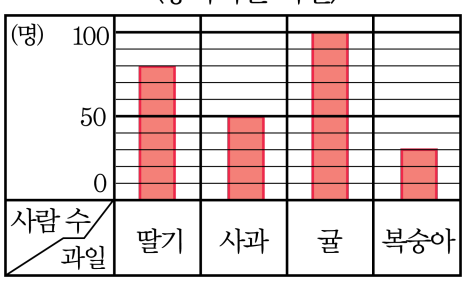

현수네 학교 4학년 학생들이 두 번째로 좋아하는 과일은 무엇인지 구하시오.

▶ 답 :

▷ 정답 : 딸기

해설

현수네 학교 4학년 학생들이 좋아하는 과일 순서는 귤, 딸기, 사과, 복숭아입니다.

21. 초등 학교별로 수학 경시대회에 참가한 남학생 수와 여학생 수를 나타낸 막대그래프입니다. 참가한 남학생 수와 여학생 수의 차가 가장 큰 학교는 어디이고, 그 차는 몇 명입니까?

〈초등 학교별 참가한 학생 수〉

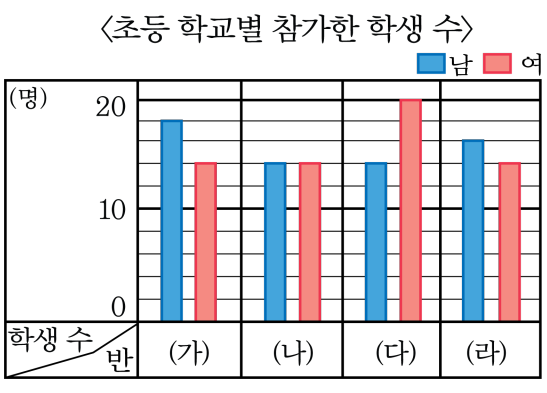

① (나), 5 명　② (나), 6 명　③ (다), 6 명
④ (라), 5 명　⑤ (라), 6 명

해설

(다) 학교에서 수학경시대회에 참가한 남학생은 14 명, 여학생은 20 명
따라서 그 차는 $20 - 14 = 6$(명) 입니다.

22. 우진이네 학교에서 4학년 반별로 남학생과 여학생이 모은 폐휴지의 무게를 조사하여 나타낸 막대그래프입니다.

〈반별 모은 폐휴지의 무게〉

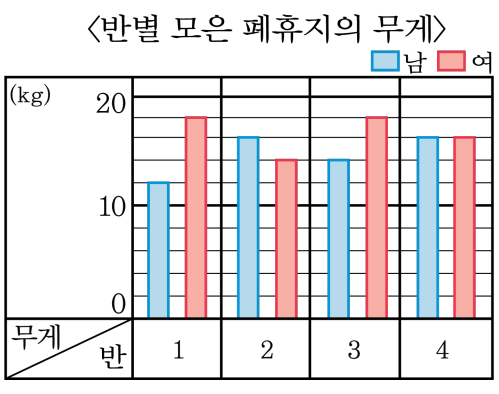

1반과 3반에서 모은 폐휴지는 모두 몇 kg인지 쓰시오.

▶ 답 : _____ kg

▷ 정답 : 62 kg

해설

	남	여	계
1반	12	18	30
3반	14	18	32

따라서, 1반과 3반은 모두 $30 + 32 = 62$(kg)을 모았습니다.

23. 민종이네 반 회장 선거 결과를 나타낸 막대그래프입니다. 전체 득표 수가 30표일 때, 누가 회장 선거에 당선되었는지 쓰시오.

〈회장 선거 결과〉

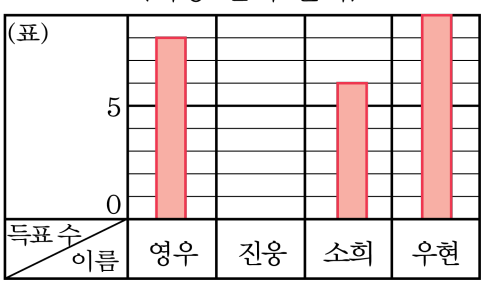

▶ 답 :

▷ 정답 : 우현

해설

진웅이의 득표 수를 먼저 구하면
$30-(8+6+9)=30-23=7$(표)
따라서, 막대의 길이를 비교하면 우현이의 막대가 가장 길기 때문에 우현이가 회장 선거에 당선되었습니다.

24. 형욱이네 반 학생들이 가 보고 싶은 나라를 조사하여 나타낸 막대그래프입니다.

<가 보고 싶은 나라>

나라	미국	스위스	일본	영국	계
학생 수(명)	8	14	6	10	38

〈가 보고 싶은 나라〉

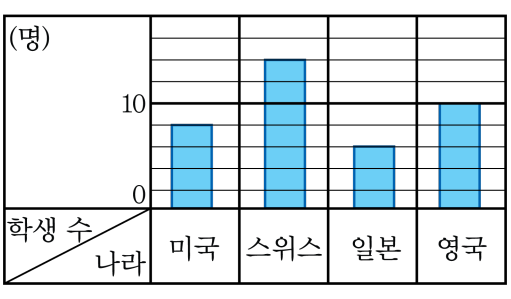

다음 학생들의 대화 중 표와 그래프를 바르게 설명한 사람을 모두 고르면?

지용 : 막대그래프에서 세로 눈금 한 칸은 2명을 나타내!
수지 : 가장 많은 학생들이 가보고 싶은 나라는 영국이야!
선미 : 기장 많은 학생들이 가보고 싶은 나라를 순서대로 알아 볼 때, 한 눈에 쉽게 알아 볼 수 있는 것은 표인것 같다.
지욱 : 아니야, 막대그래프를 이용하여 쉽게 비교할 수 있어.

▶ 답 :

▷ 정답 : 지용

해설

가장 많은 학생들이 가보고 싶은 나라는 스위스이다.

25. 어느 지역의 산부인과별 하루 동안 태어난 신생아의 남아 수와 여아 수를 각각 조사하여 나타낸 막대그래프를 보고 표의 빈칸을 바르게 채우지 <u>않은</u> 것을 고르면?

〈하루 동안 태어난 신생아 수〉

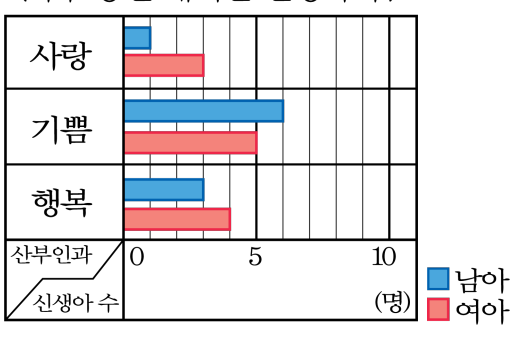

〈하루 동안 태어난 신생아 수〉

산부인과	사랑	기쁨	행복	합계
남아 수(명)	①	6	③	④
여아 수(명)	3	②	4	⑤

① 1　② 4　③ 3　④ 10　⑤ 12

해설

기쁨 산부인과에서 태어난 여아수는 5명이다.