1. 두 일차함수 $y = 5x + 4$ 과 $y = 3x + a$ 의 그래프의 교점의 좌표가 $(b,\ 3)$ 일 때, a 의 값을 구하여라.

① $\frac{4}{5}$ ② $\frac{9}{5}$ ③ $\frac{12}{5}$ ④ $\frac{16}{5}$ ⑤ $\frac{18}{5}$

2. 다음 그래프는 연립방정식 $\begin{cases} x+y=a \\ 2x-y=b \end{cases}$ 를 풀기 위해 그린 것이다.

이 때, $2b-a$ 의 값은?

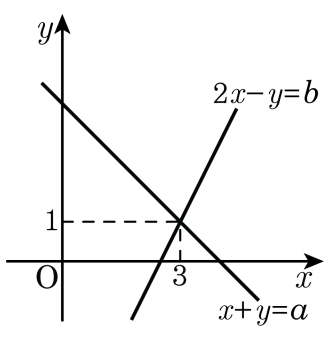

① 1 ② 3 ③ 5 ④ 6 ⑤ 14

3. 다음 사각형에서 x, y 의 값을 차례대로 구한 것은? (단, $\overline{AB} // \overline{DC}$)

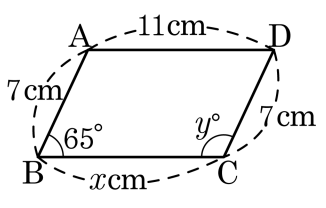

① $11, 65°$ ② $7, 65°$ ③ $115°, 11$

④ $115°, 7$ ⑤ $11, 115°$

4. □ABCD 는 $\overline{AD} // \overline{BC}$ 인 등변사다리꼴이다. 그림에서 △ABH = $9cm^2$ 일 때, $\overline{BC}$ 의 길이는?

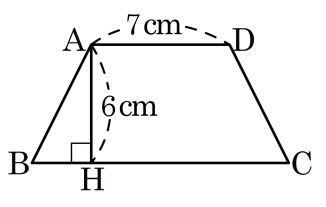

① 9cm ② 10cm ③ 11cm ④ 12cm ⑤ 13cm

5. 평행사변형 ABCD 의 각 변의 중점을 연결하여 사각형을 그리고, 이와 같은 과정을 반복하여 다음과 같은 그림을 얻었다. 이때 색칠한 사각형의 넓이가 $4\,\mathrm{cm}^2$ 이면, 평행사변형 ABCD 의 넓이는 얼마인가?

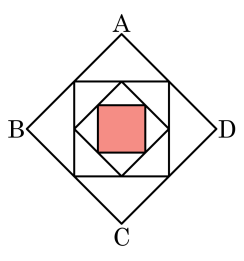

① $12\,\mathrm{cm}^2$ ② $16\,\mathrm{cm}^2$

③ $32\,\mathrm{cm}^2$ ④ $64\,\mathrm{cm}^2$

⑤ $256\,\mathrm{cm}^2$

6. 일차방정식 $4x-2y-6=0$의 그래프가 지나지 <u>않는</u> 사분면은?

① 제1사분면 ② 제2사분면
③ 제3사분면 ④ 제4사분면
⑤ 제2사분면과 제4사분면

7. 다음 중 일차방정식 $x-2y+4=0$ 의 그래프 위의 점이 <u>아닌</u> 것은?

① $(-2,\ 1)$ ② $\left(-1,\ \frac{1}{2}\right)$ ③ $\left(1,\ \frac{5}{2}\right)$
④ $(4,\ 4)$ ⑤ $\left(-3,\ \frac{1}{2}\right)$

8. 점 $(2,3)$을 지나면서 y축에 평행인 직선의 식은?

① $x=2$ ② $y=3$ ③ $y=2$
④ $x=3$ ⑤ $2x+3y=0$

9. 다음 그림과 같은 $\triangle ABC$ 에서 $\overline{AB} = \overline{AC}$ 일 때, $\angle x$ 의 크기는?

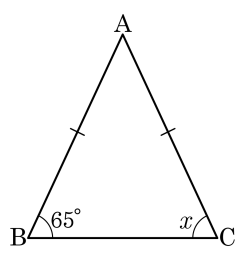

① $45°$ ② $55°$ ③ $65°$ ④ $75°$ ⑤ $85°$

10. 다음 그림의 $\triangle ABC$ 에서 $\overline{AB} = \overline{AC}$ 일 때, $\angle x$ 의 크기는?

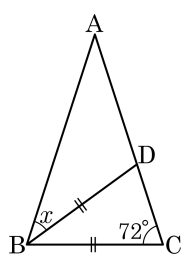

① $30°$ ② $32°$ ③ $34°$ ④ $36°$ ⑤ $38°$

11. 다음 그림의 두 직각삼각형이 서로 합동이 되는 조건이 아닌 것은?

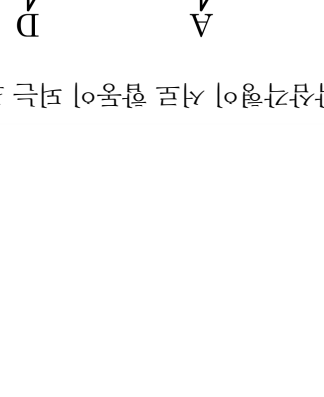

① $\overline{BC} = \overline{EF}$, $\overline{AC} = \overline{DF}$
② $\overline{AB} = \overline{DE}$, $\overline{AC} = \overline{DF}$
③ $\overline{AB} = \overline{DE}$, $\angle A = \angle D$
④ $\angle B = \angle E$, $\angle A = \angle D$
⑤ $\angle B = \angle E$, $\overline{AC} = \overline{DF}$

12. 다음 직사각형 ABCD 에서 $\overline{AB} : \overline{BE}$는?

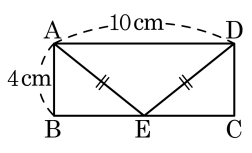

① 1 : 2 ② 2 : 3 ③ 3 : 4

④ 4 : 5 ⑤ 1 : 1

13. 다음과 같은 평행사변형ABCD 에서 $\angle x$ 의 크기는?

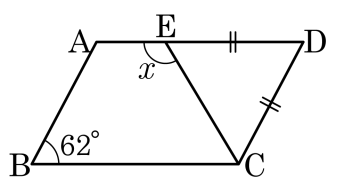

① 59° ② 62° ③ 118° ④ 121° ⑤ 125°

14. 다음 그림의 □ABCD 는 $\overline{AD}//\overline{BC}$ 인 사다리꼴이다. 두 대각선의 교점을 O 라 할 때, $\triangle ABC = 50cm^2$, $\triangle DOC = 15cm^2$ 이다. 이 때, $\triangle OBC$ 의 넓이는?

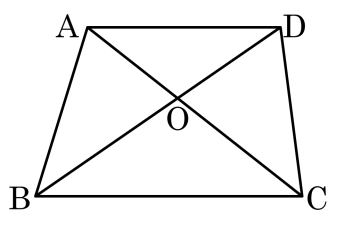

① $25cm^2$ ② $35cm^2$ ③ $45cm^2$
④ $55cm^2$ ⑤ $65cm^2$

15. 네 방정식 $x = a,\ x = -a,\ y = 3,\ 2y + 6 = 0$ 의 그래프로 둘러싸인 도형이 정사각형일 때, 상수a 의 값은? (단, $a > 0$)

① 1 ② 2 ③ 3 ④ 4 ⑤ 5

16. 다음 그림에서 $\overline{AB} = \overline{AC} = 8\text{cm}$ 이고, 점 A 에서 내린 수선과 $\overline{BC}$ 와의 교점을 D 라 하자.
$\angle ABC = 60°$ 일 때, $\overline{BD}$ 의 길이는?

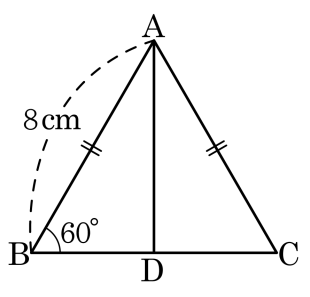

① 2cm ② 3cm ③ 4cm ④ 5cm ⑤ 6cm

17. 다음 그림에서 $\triangle ABC$ 는 $\angle B = \angle C$ 인 이등변삼각형이다. $\angle C$ 의 이등분선이 $\overline{AB}$ 와 만나는 점을 D 라 할 때, $\overline{AD}$ 의 길이는?

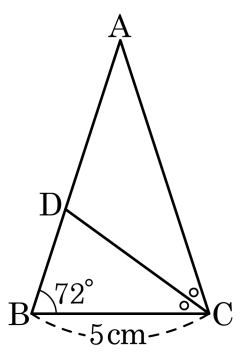

① 3cm ② 4cm ③ 5cm ④ 6cm ⑤ 7cm

18. 다음 그림과 같이 폭이 일정한 종이테이프를 접었다. $\angle BAC = 80°$일 때, 다음 중 각의 크기가 $\angle BAC$와 <u>다른</u> 것을 모두 고르면?

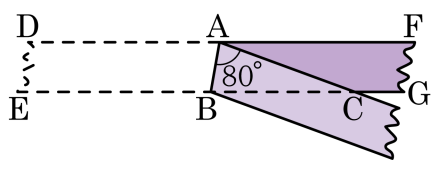

① $\angle DAB$ ② $\angle ABE$ ③ $\angle ABC$

④ $\angle ACB$ ⑤ $\angle CAF$

19. $\triangle ABC$ 에서 $\angle A = 90°$ 이다. $\overline{DB} = 4cm$, $\overline{EC} = 6cm$ 일 때, $\triangle ABC$ 의 넓이는 ?

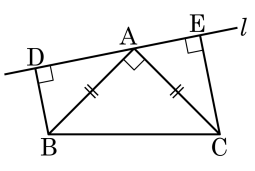

① $20cm^2$ ② $24cm^2$ ③ $26cm^2$

④ $30cm^2$ ⑤ $50cm^2$

20. 다음 그림의 점 I는 삼각형 PQR의 내심이다. $\angle P = 30°$일 때, $x + y$의 값을 구하면?

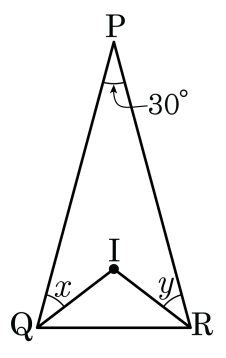

① 60° ② 65° ③ 70° ④ 75° ⑤ 80°

21. 다음 그림은 일차방정식 $ax - by - 8 = 0$ 의 그래프이다. 순서쌍 $(5,\ m)$, $(n,\ 2)$ 이 이 일차방정식의 해의 일부일 때, $m - n$ 의 값은?

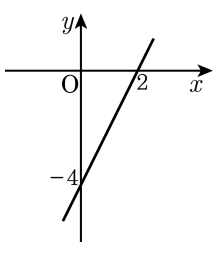

① -2　　② 0　　③ 2

④ 3　　⑤ 9

22. $\angle C = 90°$ 인 직각이등변삼각형 ABC 에서 $\angle B$ 의 이등분선이 $\overline{AC}$ 와 만나는 점을 D , D 에서 $\overline{AB}$ 에 내린 수선의 발을 E 라 할 때 $\overline{BC} = a$, $\overline{AD} = b$ 라 하면 $\overline{AB}$ 의 길이를 a, b 로 나타내면?

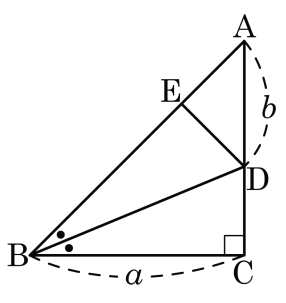

① $a - b$　　② $2a - b$　　③ $2b - a$

④ $a + b$　　⑤ $\frac{1}{2}a + b$

23. 다음 그림과 같이 평행사변형 ABCD 의 각 변의 중점을 잡아 $\overline{AF}$ 와 $\overline{CE}$, $\overline{AG}$ 와 $\overline{CH}$ 의 교점을 각각 P, Q 라 할 때, □ABCD를 제외한 평행사변형은 □AECG , □AFCH , □APCQ 이다. 각각의 평행사변형이 되는 조건을 순서대로 나열한 것은?

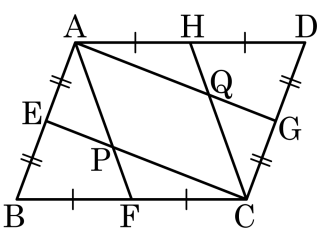

㉠ 두 쌍의 대변이 각각 평행하다.
㉡ 두 쌍의 대변의 길이가 각각 같다.
㉢ 두 쌍의 대각의 크기가 각각 같다.
㉣ 두 대각선이 서로 다른 것을 이등분한다.
㉤ 한 쌍의 대변이 평행하고 그 길이가 같다.

① ㉠, ㉡, ㉢　　② ㉤, ㉢, ㉠　　③ ㉤, ㉤, ㉠

④ ㉠, ㉢, ㉢　　⑤ ㉡, ㉤, ㉢

24. 다음 중 마름모 ABCD가 정사각형이 되기 위한 조건은?

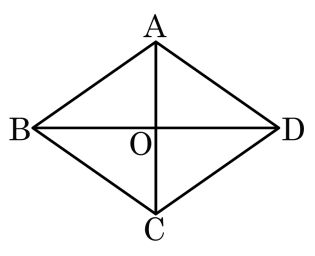

① $\overline{AC} \perp \overline{BD}$ ② $\overline{AC} = \overline{BD}$ ③ $\overline{AB} = \overline{BC}$

④ $\overline{BO} = \overline{DO}$ ⑤ $\overline{AD} // \overline{BC}$

25. 다음 그림과 같은 직사각형 ABCD의 변 AD, BC 위에 $\overline{BE} = \overline{FD}$가 되도록 점 E, F를 잡을 때, □EBFD는 어떤 사각형인가?

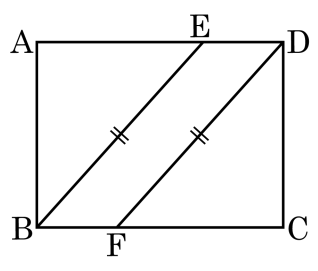

① 등변사다리꼴 ② 평행사변형 ③ 마름모
④ 직사각형 ⑤ 정사각형