1. 두 직각삼각형 ABC , DEF 가 다음 그림과 같을 때, $\overline{AC}$ 의 길이를 구하여라.

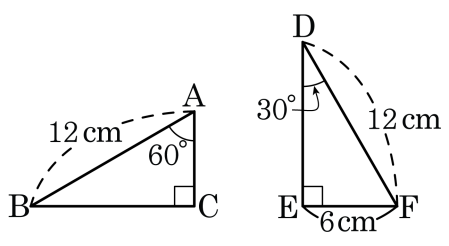

▶ 답 : _____ cm

▷ 정답 : 6 cm

해설

직각삼각형의 빗변의 길이와 한 예각의 크기가 같으므로 두 삼각형은 RHA 합동이다.
합동이므로 $\overline{AC} = \overline{FE}$ 가 된다. $\overline{AC} = 6\text{cm}$

2. 다음 그림과 같은 $\triangle ABC$와 $\triangle DEF$가 합동일 때 $\overline{EF}$의 길이와 $\angle D$의 크기를 구하여라.

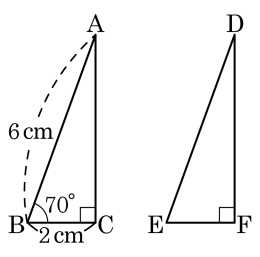

▶ 답 : _____ cm

▶ 답 : _____ °

▷ 정답 : $\overline{EF} = 2$ cm

▷ 정답 : $\angle D = 20$ °

해설

대응하는 변의 길이와 대응하는 각의 크기는 각각 같다.

$\therefore\ \overline{EF} = \overline{BC} = 2(\text{cm}),\ \angle D = 20°$

3. 다음 그림과 같은 $\triangle ABC$ 와 $\triangle DEF$ 가 합동일 때, $\overline{DE}$ 의 길이와 $\angle D$ 의 크기를 구하여라.

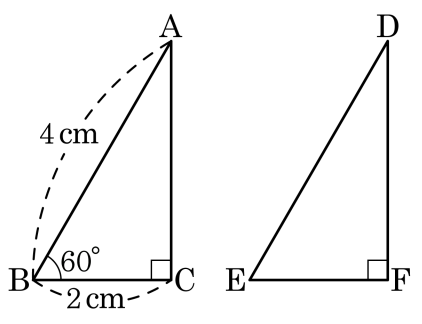

▶ 답 : _____ cm

▶ 답 : _____ °

▷ 정답 : $\overline{DE} = 4$ cm

▷ 정답 : $\angle D = 30$ °

해설

대응하는 변의 길이와 대응하는 각의 크기는 각각 같다.

$\therefore\ \overline{DE} = \overline{AB} = 4(\text{cm}), \angle D = 30°$

4. 다음 그림과 같은 두 직각삼각형 ABC, DEF 가 합동임을 증명하는 과정이다. (1) ~ (5) 안에 알맞은 것을 보기에서 찾아라.

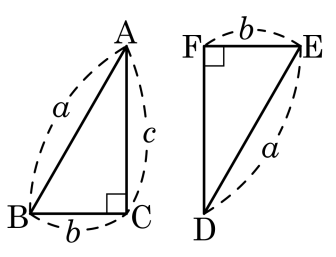

증명)
$\triangle$ABC 와 $\triangle$DEF 에서
$\angle C = \boxed{(1)} = \boxed{(2)}$, $\overline{AB} = \boxed{(3)}$, $\overline{BC} = \boxed{(4)}$
$\therefore$ $\triangle ABC \equiv \triangle DEF$ ($\boxed{(5)}$ 합동)

보기

㉠ $\angle F$	㉡ $\overline{DE}$	㉢ $\overline{DF}$
㉣ $\overline{EF}$	㉤ SAS	㉥ RHS
㉦ RHA	㉧ 90°	㉨ 45°

▶ 답 :

▶ 답 :

▶ 답 :

▶ 답 :

▶ 답 :

▷ 정답 : ㉠

▷ 정답 : ㉧

▷ 정답 : ㉡

▷ 정답 : ㉣

▷ 정답 : ㉥

해설

증명)
$\triangle$ABC 와 $\triangle$DEF 에서
$\angle C = \angle F = 90^\circ$, $\overline{AB} = \overline{DE}$, $\overline{BC} = \overline{EF}$
$\therefore$ $\triangle ABC \equiv \triangle DEF$ (RHS 합동)

5. 다음 두 직각삼각형의 합동조건을 쓰고 $\angle x$ 의 크기를 구하여라.

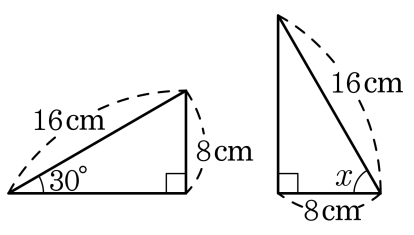

▶ 답 : 합동

▶ 답 : °

▷ 정답 : RHS 합동

▷ 정답 : 60 °

해설

한 각이 직각(R)이고, 빗변의 길이(H)가 같고, 다른 한 변의 길이(S)가 같으므로, RHS 합동

$\therefore \angle x = 90° - 30° = 60°$

6. 다음 그림과 같이 $\angle C = 90°$ 인 직각삼각형 ABC 에서 $\overline{AE} = \overline{AC}$, $\overline{AB} \perp \overline{DE}$ 일 때, $\overline{DC}$ 의 길이는?

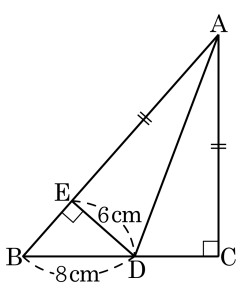

① 3 cm ② 6 cm ③ 7 cm

④ 8 cm ⑤ 10 cm

해설

$\triangle AED \equiv \triangle ACD$ (RHS 합동)

$\therefore\ \overline{ED} = \overline{CD} = 6\ (\text{cm})$

7. 다음 그림과 같이 $\angle AOB$ 의 내부의 한 점 P 에서 두변 $\overline{OA}$, $\overline{OB}$ 에 내린 수선의 발을 각각 Q , R 이라 한다. $\angle QOP = \angle ROP$ 일 때, 다음 중 옳은 것을 모두 골라라.

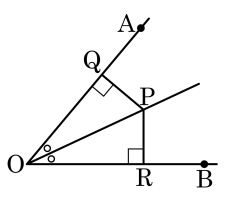

보기

㉠ $\angle OQP = \angle ORP$
㉡ $\angle AOP = \angle BOP$
㉢ $\overline{QP} = \overline{RP}$
㉣ $\overline{OR} = \overline{PR}$
㉤ $\overline{OQ} = \overline{OP}$

▶ 답 :

▶ 답 :

▶ 답 :

▷ 정답 : ㉠

▷ 정답 : ㉡

▷ 정답 : ㉢

해설

$\overline{OP}$ 가 $\angle QOR$ 을 이등분하므로, $\triangle QOP \equiv \triangle ROP$ 이다.
$\overline{OR} = \overline{PR}$, $\overline{OQ} = \overline{OP}$ 는 잘못 되었다.

8. 다음 중 서로 합동인 것끼리 바르게 짝지어진 것은? (정답 2 개)

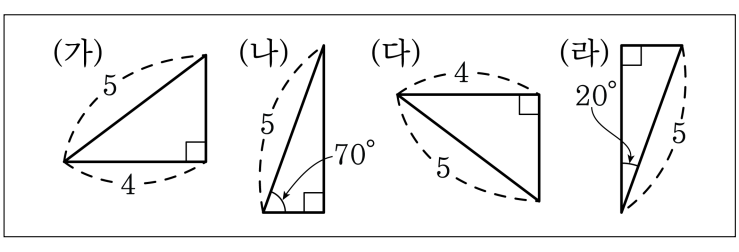

① (가) 와 (라)　② (가) 와 (다)　③ (나) 와 (라)
④ (가) 와 (나)　⑤ (나) 와 (다)

해설

(가) 와 (다) ⇒ RHS 합동
(나) 와 (라) ⇒ RHA 합동

9. 그림과 같이 직각이등변삼각형 ABC 의 직각인 꼭짓점 A 를 지나는 직선 l 에 점 B, C 에서 각각 내린 수선의 발을 E, D 라 하자. $\overline{AB} = \overline{AC}$ 이고, $\overline{BE} = 4$, $\overline{CD} = 1$ 일 때, $\overline{ED}$ 를 구하여라.

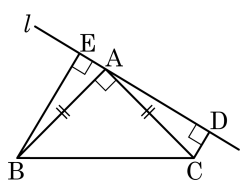

▶ 답 :

▷ 정답 : 5

해설

$\triangle BAE$ 와 $\triangle ACD$ 에서

$\overline{AB} = \overline{AC} \cdots$ ㉠

$\angle AEB = \angle ADC = 90° \cdots$ ㉡

$\angle EAB + \angle CAD = 90°$ 이므로

$\angle EAB = \angle ACD \cdots$ ㉢

따라서 ㉠, ㉡, ㉢에 의해서 $\triangle BAE \equiv \triangle ACD$

$\overline{BE} = \overline{AD} = 4$, $\overline{CD} = \overline{AE} = 1$ 이 성립하므로 $\overline{ED} = 5$

10. 다음 그림의 $\triangle ABC$ 에서 $\angle A = 70°$, 변 BC 의 중점 M 에서 $\overline{AB}$ 와 $\overline{AC}$ 에 내린 수선의 발을 각각 D, E 라 하면 $\overline{MD} = \overline{ME}$ 이다. $\angle BMD$ 의 크기는?

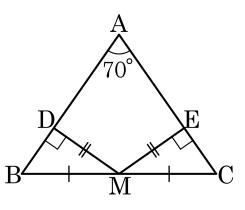

① 35°　② 30°　③ 25°
④ 20°　⑤ 15°

해설

$\triangle BMD$ 와 $\triangle CME$ 는 RHS 합동조건에 의해 합동이 된다.
따라서 $\angle B$ 와 $\angle C$ 는 같게 되고 $\triangle ABC$ 는 이등변삼각형이 되어 $\angle B$ 와 $\angle C$ 는 $55°$ 가 된다.
따라서 $\angle BMD$ 는 $35°$ 이다.

11. $\triangle ABC$ 에서 $\angle C = \angle E = 90°$, $\angle A = 40°$, $\overline{CD} = \overline{ED}$ 일 때, $\angle x$ 의 크기는?

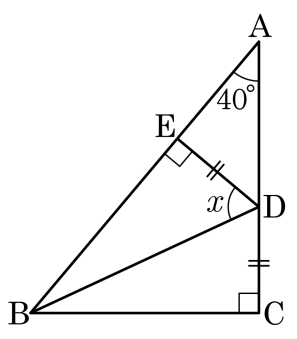

① 45° ② 50° ③ 65° ④ 70° ⑤ 75°

해설

$\triangle BDE \equiv \triangle BDC$(RHS합동) 이므로,
$\angle EBD = \angle CBD = 25°$, $\triangle BDE$ 에서 $\angle x = 65°$

12. 다음 그림과 같은 $\triangle ABC$ 에서 $\angle FDC = 28°$ 일 때, $\angle A$ 의 크기를 구하여라.

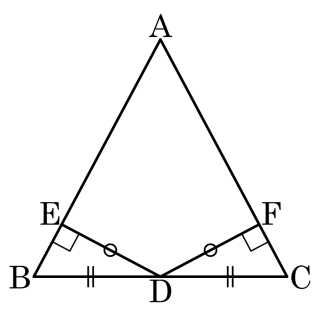

▶ 답 : _____ °

▷ 정답 : 56 °

해설

$\triangle EBD \equiv \triangle FCD$(RHS합동)

$\angle EBD = \angle FCD = 62°$

$\therefore \angle A = 180° - 62° \times 2 = 56°$

13. 다음 그림의 $\angle AOB$ 의 내부의 한 점 P 에서 두 변 $\overline{OA}$, $\overline{OB}$ 에 내린 수선의 발을 각각 Q, R 이라고 하였을 때, $\overline{QP} = \overline{RP}$ 이다. 다음 중 옳지 <u>않은</u> 것은?

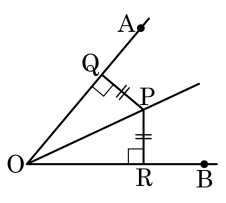

① $\triangle QPO = \triangle RPO$

② $\overline{QO} = \overline{RO}$

③ $\overline{QO} = \overline{PO}$

④ $\angle OPQ = \angle OPR$

⑤ $\angle QOP = \angle ROP$

해설

각을 이루는 두 변에서 같은 거리에 있는 점은 그 각의 이등분선 위에 있다.
$\overline{QP} = \overline{RP}$ 이므로 $\overline{OP}$ 는 $\angle QOR$ 의 이등분선이다.
그러므로 $\overline{QO} \neq \overline{PO}$ 이다.

14. 다음 그림과 같이 $\angle AOB$의 이등분선 위의 한 점 P에서 두 변 OA, OB에 내린 수선의 발을 각각 C, D라고 할 때, 다음 중 옳지 <u>않은</u> 것은?

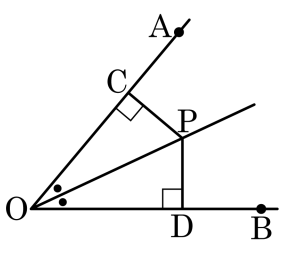

① $\angle PCO = \angle PDO$　　② $\angle COP = \angle DOP$

③ $\overline{PC} = \overline{PD}$　　④ $\triangle COP \equiv \triangle DOP$

⑤ $\overline{OC} = \overline{OP} = \overline{OD}$

해설

$\triangle OCP \equiv \triangle ODP$(RHA합동)
따라서 $\overline{CO} = \overline{OD}$, $\overline{CP} = \overline{PD}$

15. 두 직각삼각형 ABC, DEF 가 다음 그림과 같을 때, $\overline{DF}$ 의 길이는?

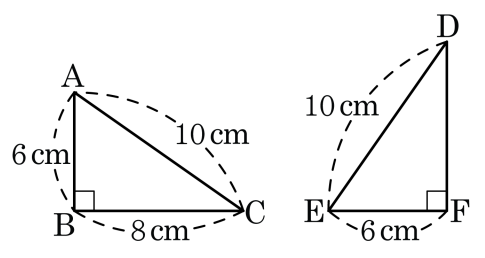

① 6cm ② 7cm ③ 8cm ④ 9cm ⑤ 10cm

해설

$\triangle CAB, \triangle DEF$ 는 RHS 합동

$\therefore \overline{DF} = \overline{CB} = 8cm$

16. 합동인 두 직각삼각형 ABC, DEF가 다음 그림과 같을 때, $\angle x$의 크기는?

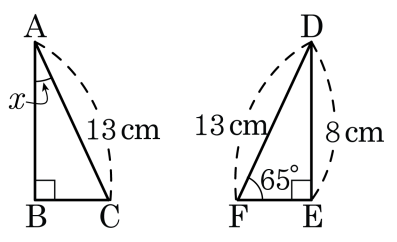

① 65° ② 55° ③ 45° ④ 35° ⑤ 25°

해설

$\triangle$ABC, $\triangle$DEF는 서로 합동이다.

$\therefore \angle x = \angle \mathrm{FDE} = 180° - 90° - 65° = 25°$

17. 두 직각삼각형 ABC, DEF 가 다음 그림과 같을 때, $x+y$ 의 값은?

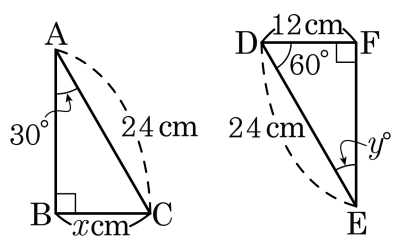

① 12 ② 36 ③ 42 ④ 48 ⑤ 60

해설

$\triangle$ABC, $\triangle$EFD 는 RHA 합동 이므로

$\overline{BC} = \overline{FD} = 12\text{cm} = x\text{cm}$, $\angle y = \angle CAB = 30°$

$\therefore x + y = 12 + 30 = 42$

18. 다음 삼각형 중에서 (가)와 (다), (나)와 (라), (마)와 (바)가 서로 합동이다. 빈 칸에 들어갈 숫자로 옳지 않은 것을 모두 고르면?

보기

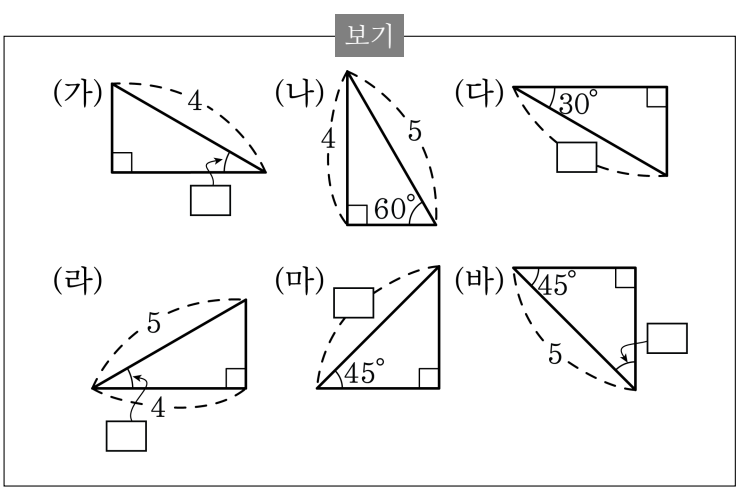

① (가) 30 °　　② (다) 4　　③ (라) 60 °

④ (마) 5　　⑤ (바) 55 °

해설

③ (라) 30°
⑤ (바) 45°

19. 다음 삼각형 중에서 (가)와(마), (나)와(다), (라)와(바)가 서로 합동이다. 빈 칸에 들어갈 숫자로 옳지 <u>않은</u> 것을 모두 고르면?

보기

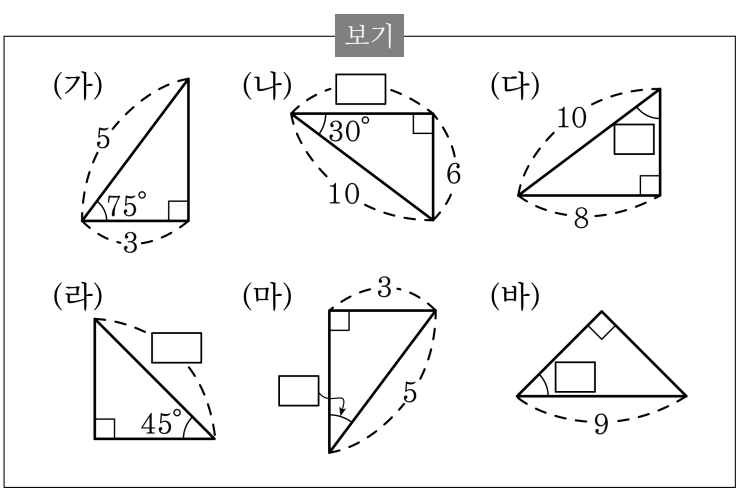

① (나) 8　　② (다) 45 °　　③ (라) 9

④ (마)30 °　　⑤ (바)45 °

해설

② (다) 60°
④ (마) 15°

20. 다음 그림에서 $\triangle ABC$ 는 직각삼각형이고 $\overline{AD}$ 는 $\angle BAC$ 의 이등분선이다. $\overline{AB} \perp \overline{DM}$, $\overline{AM} = \overline{BM}$ 일 때, $\angle x$ 의 크기는?

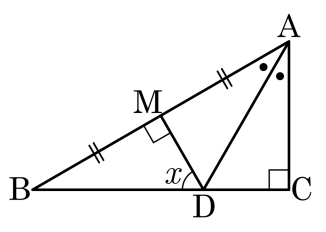

① 45° ② 50° ③ 55° ④ 60° ⑤ 65°

해설

$\triangle ADM \equiv \triangle ADC$ (RHA 합동) 이므로 $\angle ADM = \angle ADC \cdots$ ㉠
$\triangle MBD \equiv \triangle MAD$ (SAS 합동) 이므로 $\angle DAM = \angle DBM \cdots$ ㉡
㉠, ㉡에서 $3x = 180°$
$\therefore \angle x = 60°$