1. 색연필 5종류, 볼펜 4종류가 있을 때, 색연필과 볼펜 중에서 한 개를 고르는 경우의 수는?

① 5가지 ② 6가지 ③ 7가지 ④ 8가지 ⑤ 9가지

2. 6종류의 김밥과 3종류의 라면 중에서 김밥과 라면을 각각 한 개씩 먹으려고 할 때, 먹을 수 있는 방법은 몇 가지인가?

① 8가지 ② 9가지 ③ 12가지
④ 18가지 ⑤ 24가지

3. 서로 다른 색깔의 지우개가 있다. 흰색 지우개와 분홍 지우개를 이웃하여 놓고, 나머지 3 개의 지우개를 일렬로 놓는 방법은 몇 가지인가?

① 12 가지 ② 24 가지 ③ 48 가지
④ 60 가지 ⑤ 72 가지

4. 다음 그림과 같이 원 위에 5개의 점이 있다. 이 중에서 세 점을 이어 생기는 삼각형의 개수를 구하여라.

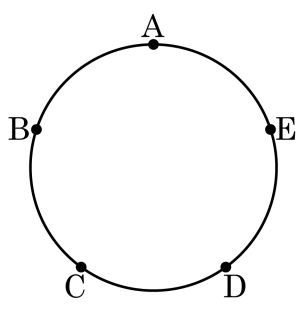

답: _____ 개

5. 남자 5명, 여자 5명으로 구성된 동아리에서 대표 2명을 뽑을 때, 둘 다 남자가 뽑힐 확률을 구하여라.

답: _____

6. 1부터 10까지 숫자가 적힌 카드가 10장 있다. 아무거나 한 장을 뽑았을 때, 그것이 소수 또는 4의 배수일 확률을 구하여라.

답: _____

7. 두 개의 주머니 A, B가 있다. A 주머니에는 노란 공 1개, 초록 공 4개가 들어 있고, B 주머니에는 노란 공 1개, 초록 공 2개가 들어 있다. 두 주머니에서 각각 한 개씩 공을 꺼낼 때, 같은 색일 확률은?

① $\frac{8}{15}$ ② $\frac{1}{4}$ ③ $\frac{3}{5}$ ④ $\frac{1}{5}$ ⑤ $\frac{1}{2}$

8. 8월에 하루 중 비가 올 확률이 80%일 때, 하루는 비가 오고 그 다음날은 비가 오지 않을 확률은?

① $\frac{4}{5}$ ② $\frac{4}{25}$ ③ $\frac{1}{25}$ ④ $\frac{1}{5}$ ⑤ $\frac{16}{25}$

9. A, B 두 사람이 가위바위보를 할 때, 다음 보기에서 옳은 것을 모두 고른 것은?

보기

㉠ A가 이길 확률은 $\frac{1}{3}$이다.

㉡ 세 번 연속 비길 확률은 $\frac{2}{3}$이다.

㉢ 비길 확률은 $\frac{1}{3}$이다.

㉣ 세 번 연속 B만 이길 확률은 $\frac{1}{3} \times \frac{1}{3} \times \frac{1}{3} = \frac{1}{27}$이다.

㉤ 승부가 결정될 확률은 $\frac{1}{3}$이다

① ㉠, ㉡ ② ㉠, ㉢, ㉣ ③ ㉠, ㉢, ㉤

④ ㉡, ㉢, ㉣ ⑤ ㉠, ㉢, ㉣, ㉤

10. 100 원짜리, 50 원짜리, 10 원짜리 동전이 각각 5 개씩 있다. 이 동전을 이용하여 250 원을 지불하는 방법의 수를 구하여라.

① 6 가지 ② 7 가지 ③ 8 가지
④ 9 가지 ⑤ 10 가지

11. 민희는 초대장을 가지고 충정로역 부근의 결혼식장에 가려고 한다. 민희가 버스 또는 지하철을 타고 간다고 할 때, 가는 모든 경우의 수는?

민희 : 엄마. 삼촌 결혼식장엔 어떻게 가야 돼요?
엄마 : 이 초대장에 적혀 있는 버스들이 모두 간단다.
민희 : 지하철을 타고 가려면 어떻게 가야 돼요?
엄마 : 마포구청역에서 타고, 공덕역에서 갈아타서 충정로역에서 내려도 되고, 합정역에서 갈아타서 충정로역에서 내려도 된단다.
민희 : 예. 알겠어요. 엄마.

① 5 가지 ② 6 가지 ③ 7 가지
④ 8 가지 ⑤ 9 가지

12. 다음 5개의 국기 중 4개를 뽑아 다음 그림과 같은 4개의 게양대에 게양하려고 한다. 이 때, 한국 국기를 A 게양대에 게양하는 경우의 수를 구하여라.

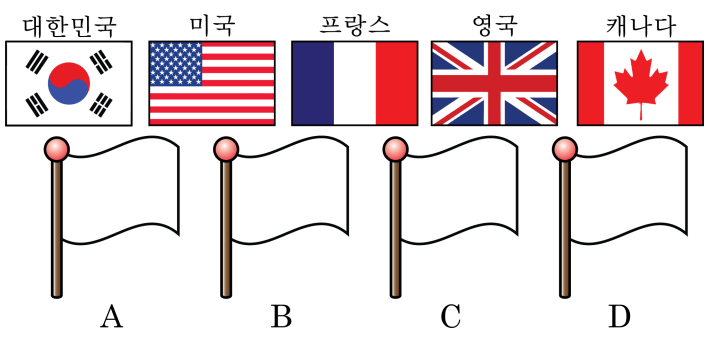

답: _____ 가지

13. 1 에서 6 까지의 숫자가 적힌 6 장의 카드를 차례로 늘어놓았을 때, 양끝의 숫자가 짝수일 경우의 수는 몇 가지인가?

① 40 가지 ② 60 가지 ③ 120 가지
④ 144 가지 ⑤ 180 가지

14. 0 부터 5 까지의 숫자가 적힌 6 장의 카드 중에서 3 장을 뽑아 만들 수 있는 세 자리 정수는 모두 몇 가지인가?

① 48 가지 ② 60 가지 ③ 100 가지
④ 120 가지 ⑤ 150 가지

15. 청소년 대표 야구팀에는 투수 5명, 포수 4명이 있다. 감독이 선발로 나갈 투수와 포수를 한명씩 선발하는 경우의 수를 구하면?

① 9가지 ② 10가지 ③ 15가지
④ 18가지 ⑤ 20가지

16. 어느 중학교의 배드민턴 선수는 남자 4 명, 여자 2 명으로 구성되어 있다. 남녀 각 한 사람씩 뽑아 2 명의 혼성팀을 만드는 모든 경우의 수는?

① 3 가지 ② 4 가지 ③ 8 가지
④ 10 가지 ⑤ 12 가지

17. A 마트에서 파는 몇 가지 과일 중에서 하루에 한 번씩 서로 다른 것을 두 가지씩 샀더니 10일 동안 다른 과일을 먹을 수 있었다. A 마트에서 파는 과일은 몇 가지인가?

답: _____ 가지

18. 2, 3, 4, 5, 6의 숫자가 적힌 카드 중에서 임의로 한 장을 선택할 때, 그 카드의 숫자가 소수일 확률은?

① $\frac{1}{8}$ ② $\frac{1}{2}$ ③ $\frac{2}{5}$ ④ $\frac{7}{8}$ ⑤ $\frac{3}{5}$

19. A, B, C, D의 네 종류의 가방 중 두 종류를 진열하려고 할 때, B를 포함하여 진열 할 확률은?

① $\frac{1}{6}$ ② $\frac{1}{3}$ ③ $\frac{1}{2}$ ④ $\frac{2}{5}$ ⑤ $\frac{3}{7}$

20. 주머니 속에 1에서 12까지의 수가 각각 적힌 12개의 공이 있다. 처음에 한 개를 꺼내어 본 후 집어 넣고 두 번째 다시 한 개를 꺼낼 때, 처음에는 3의 배수, 두 번째는 5의 배수의 공이 나올 확률을 구하여라.

답: _____

21. 다음과 같은 과녁에 화살을 쏠 때 화살이 색칠된 부분에 맞게 될 확률이 가장 작은 것은 어느 것인가?

①
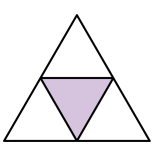

②
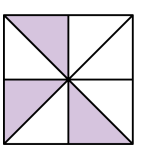

③
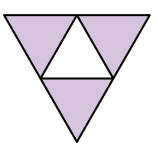

④
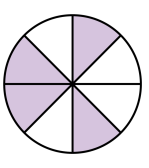

⑤
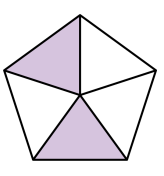

22. A , B , C , D 네 개의 동전을 동시에 던질 때, 일어날 수 있는 모든 경우의 수를 구하여라.

답: _____ 가지

23. 다음 그림의 A, B, C, D, E에 5 가지의 색을 서로 같은 색이 이웃하지 않도록 칠하는 경우의 수를 구하여라. (단, 같은 색을 여러 번 사용해도 된다.)

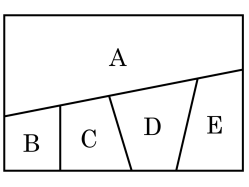

답: _____

24. A 주머니에는 1, 4, 7이 적힌 구슬이 들어 있고, B 주머니에는 3, 6, 8이 적힌 구슬이 들어 있다. 각각의 주머니에서 구슬을 한 개씩 꺼냈을 때, 구슬에 적힌 수의 합이 홀수가 될 경우의 수는?

① 4 가지 ② 5 가지 ③ 6 가지
④ 7 가지 ⑤ 8 가지

25. 1부터 20까지의 자연수 중 하나를 뽑아 a 라 할 때, $\frac{16}{a}$ 이 자연수가 될 확률은?

① $\frac{1}{4}$ ② $\frac{4}{5}$ ③ $\frac{1}{6}$ ④ $\frac{2}{3}$ ⑤ $\frac{1}{5}$

26. 한 개의 동전을 던져서 앞면이 나오면 수직선을 따라 양의 방향으로 3만큼, 뒷면이 나오면 음의 방향으로 2만큼 이동한다. 동전을 4번 던져서 이동하였을 때, A 지점에 위치할 확률은? (단, 동전을 던지기 전의 위치는 0이다.)

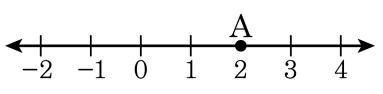

① $\frac{5}{16}$ ② $\frac{3}{8}$ ③ $\frac{7}{16}$ ④ $\frac{1}{2}$ ⑤ $\frac{9}{16}$

27. 노트북을 만드는 회사에서 10000 개의 노트북을 만들었을 때, 22 개의 불량품이 발생한다고 한다. 30000 개의 노트북을 만들었을 때, 합격품의 개수를 구하여라.

답: _____ 개

28. A, B 두 개의 주사위를 동시에 던져서 나온 눈의 수를 각각 a, b 라 할 때, 방정식 $ax - b = 0$ 의 해가 1이 되는 경우의 수는?

① 1 가지 ② 2 가지 ③ 3 가지
④ 4 가지 ⑤ 6 가지

29. 주사위 한 개와 동전 한 개를 던질 때, 주사위는 3의 배수의 눈이 나오고 동전은 뒷면이 나올 확률은?

① $\frac{5}{6}$ ② $\frac{1}{4}$ ③ $\frac{1}{3}$ ④ $\frac{5}{12}$ ⑤ $\frac{1}{6}$

30. 10개 중에서 3개의 불량품이 들어 있는 상자에서 A, B, C 세 사람이 차례로 한 개씩 꺼낼 때, C 혼자만 정품을 꺼낼 확률을 구하여라.

답: _____