1. 길이가 33cm 인 끈으로 정오각형을 만들었습니다. 이 정오각형의 한 변의 길이는 몇 cm 입니까?

① $6\frac{1}{5}$cm ② $6\frac{2}{5}$cm ③ $6\frac{3}{5}$cm
④ $6\frac{4}{5}$cm ⑤ 7cm

2. 나눗셈을 하시오.

$$\frac{5}{8} \div 15$$

① $\frac{3}{8}$ ② $\frac{7}{8}$ ③ $\frac{9}{16}$ ④ $\frac{1}{24}$ ⑤ $\frac{7}{32}$

3. 나눗셈을 하시오.

$$\frac{36}{5} \div 8$$

① $\frac{1}{10}$ ② $\frac{1}{5}$ ③ $\frac{2}{5}$ ④ $\frac{7}{10}$ ⑤ $\frac{9}{10}$

4. 다음을 계산하시오.

$$\frac{5}{6} \times 3 \div 5$$

① $\frac{1}{2}$ ② $1\frac{1}{2}$ ③ $2\frac{1}{2}$ ④ $3\frac{1}{2}$ ⑤ $4\frac{1}{2}$

5. 다음 각기둥의 옆면의 모양은 실제로 어떤 모양인지 고르시오.

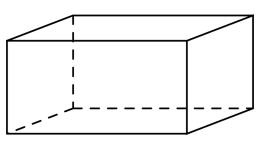

① 평행사변형 ② 마름모 ③ 직사각형
④ 사다리꼴 ⑤ 삼각형

6. 다음 삼각기둥의 높이를 나타내는 모서리가 아닌 것을 모두 고르시오.

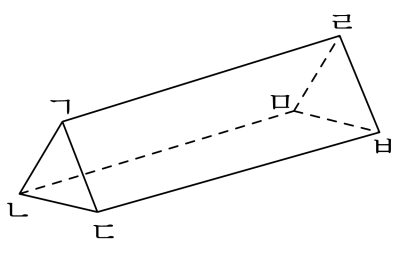

① 변 ㄱㄹ ② 변 ㄱㄷ ③ 변 ㄴㅁ

④ 변 ㄷㅂ ⑤ 변 ㄹㅂ

7. 3 분 40 초 동안에 7 km를 달리는 자동차가 있습니다. 이 자동차가 같은 빠르기로 1 km를 달리는데 걸리는 시간은 몇 분입니까?

① $\frac{1}{6}$ 분 ② $\frac{11}{21}$ 분 ③ $1\frac{1}{2}$ 분
④ $2\frac{3}{4}$ 분 ⑤ $3\frac{2}{3}$ 분

8. 다음과 같이 정삼각형을 만든 끈으로 다시 정팔각형을 만들었습니다. 이 정팔각형의 한 변의 길이는 몇cm 인지 구하시오.

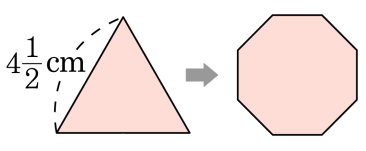

① $1\frac{11}{16}$cm ② $3\frac{3}{8}$cm ③ $6\frac{1}{4}$cm
④ $8\frac{7}{12}$cm ⑤ $13\frac{1}{2}$cm

9. 어떤 분수에 12 를 곱했더니 $5\frac{1}{7}$ 이 되었습니다. 어떤 분수는 얼마입니까?

① $\frac{1}{7}$ ② $\frac{2}{7}$ ③ $\frac{3}{7}$ ④ $\frac{4}{7}$ ⑤ $\frac{5}{7}$

10. 모든 면이 평면인 입체도형이 있습니다. 다음 <조건> 으로부터 알 수 있는 이 입체도형에 대해 잘못 말한 것은 어느 것인지 고르시오.

조건

1. 밑면은 두 개이고 합동입니다.
2. 옆면이 여러 개 있고 밑면과 옆면은 모두 수직입니다.
3. 옆면은 모두 직사각형이고 합동입니다.
4. 모든 면이 다 사각형은 아닙니다.

① 조건 1, 2 에 의해 이 입체도형은 각기둥입니다.

② 조건 1, 2 에 의해 이 입체도형의 면의 개수는 5 개 이상입니다.

③ 조건 3 에 의해 이 입체도형은 직육면체입니다.

④ 조건 1, 2, 3 에 의해 이 입체도형의 밑면의 변의 길이는 모두 같습니다.

⑤ 조건 4 에 의해 이 입체도형은 사각기둥은 아닙니다.

11. 다음 전개도로 만든 입체도형에서 변 IJ 와 맞닿는 변은 어느 변인지 고르시오.

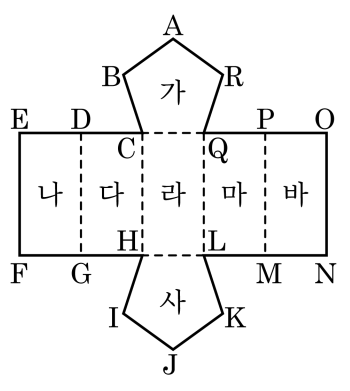

① 변 HI ② 변 FG ③ 변 GH

④ 변 LM ⑤ 변 MN

12. 다음 입체도형이 각뿔이 <u>아닌</u> 이유를 모두 고르시오.

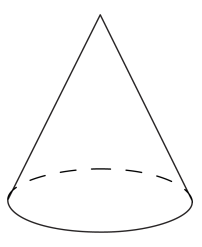

① 고깔모양입니다.

② 밑면이 없습니다.

③ 각뿔의 꼭짓점이 한 개입니다.

④ 밑면이 다각형이 아닙니다.

⑤ 옆면이 삼각형이 아닙니다.

13. 다음 중 각뿔의 옆면의 모양으로 알맞은 것은 어느 것입니까?

① 삼각형 ② 사각형 ③ 오각형
④ 육각형 ⑤ 칠각형

14. 다음 오각뿔의 설명으로 바르지 <u>않은</u> 것은 어느 것입니까?

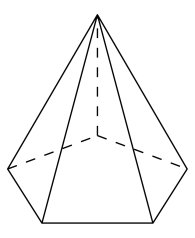

① 면의 수는 모서리 수보다 큽니다.

② 각뿔의 꼭짓점은 1개입니다.

③ 옆면은 이등변삼각형입니다.

④ 모서리 수는 10개입니다.

⑤ 면의 수는 꼭짓점 수와 같습니다.

15. 오각뿔에서 개수가 가장 많은 것은 어느 것입니까?

① 밑면 ② 옆면
③ 모서리 ④ 꼭짓점
⑤ 밑면의 변의 수

16. 입체도형에 대한 설명 중 바른 것은 어느 것인지 고르시오.

① 두 밑면이 서로 평행인 입체도형을 각기둥이라고 합니다.

② 각기둥의 옆면의 모양은 정사각형입니다.

③ 각기둥은 밑면의 모양에 따라 이름이 달라집니다.

④ 각뿔의 옆면의 모양은 직각삼각형입니다.

⑤ 각뿔에서 면의 수는 꼭짓점의 수보다 많습니다.

17. 5m 의 끈을 똑같이 셋으로 나누고, 그 나누어진 끈 하나의 $\frac{1}{5}$ 을 둘로 나누어 그 중 하나만 사용했습니다. 사용하지 않은 끈의 길이를 구하는 계산식을 바르게 세운 사람은 누구인지 고르시오.

민호 : $5-(5\div3)\times\frac{1}{5}\div2$ 주현 : $5-(5\div3)\div\frac{1}{5}\div2$ 슬기 : $1-(5\div3)\times\frac{1}{5}\div2$ 소연 : $5-(5\div3)\div5\div2$

① 민호와 주현이가 맞습니다.

② 민호와 슬기가 맞습니다.

③ 슬기만 맞습니다.

④ 민호와 소연이가 맞습니다.

⑤ 민호, 주현, 소연이가 맞습니다.

18. 다음 소수 중에서 $2\frac{5}{7}$와 $2\frac{7}{8}$ 사이에 있는 수는 어느 것입니까?

① 2.704 ② 2.713 ③ 2.718 ④ 2.88 ⑤ 2.876

19. 다음 중 몫이 가장 큰 것은 어느 것입니까?

① $3\frac{1}{4} \div 6$ ② $5\frac{1}{6} \div 6$ ③ $1\frac{6}{7} \div 3$
④ $4\frac{2}{5} \div 5$ ⑤ $2\frac{5}{8} \div 6$

20. 한 밑면이 둘레가 48 cm 이며, 전체모서리가 152 cm 인 팔각기둥이 있습니다. 이 입체도형의 높이는 몇 cm 입니까?

① 5 cm ② 6 cm ③ 7 cm ④ 8 cm ⑤ 9 cm

21. $\boxed{}$안에 알맞은 수를 위에서부터 차례대로 써넣으시오.

$$\begin{array}{r} \boxed{} \\ 30\overline{)63} \\ \underline{\boxed{}} \\ \boxed{} \\ \underline{\boxed{}} \\ 0 \end{array}$$

답: _____

답: _____

답: _____

답: _____

22. $\square$안에 ① + ② + ③의 값을 구하시오.

$$25.62 \div 7 = \frac{2562}{100} \div 7 = \frac{2562}{100} \times \frac{1}{\boxed{①}} = \frac{\boxed{②}}{100} = \boxed{③}$$

답: _____

23. $4707 \div 9 = 523$을 이용하여 나눗셈의 몫을 구하시오.
$470.7 \div 9$

답: _____

24. 어느 마라톤 선수가 42.195 km의 거리를 2시간 5분의 기록으로 달렸습니다. 이 선수가 1분 동안에 달린 거리는 약 몇 km인지 반올림하여 소수 둘째 자리까지 구하시오.($0.666\cdots \rightarrow$ 약 0.67)

답: 약 _____ km

25. 몫이 가장 큰 것과 가장 작은 것의 차를 구하시오.

㉠ $46.8 \div 6$	㉡ $90.16 \div 14$
㉢ $108.16 \div 13$	㉣ $136.51 \div 17$

답: _____

26. 어떤 수에서 0.416을 뺀 뒤에 4로 나누어야 할 것을 잘못 계산하여 어떤 수에 4를 곱하고 0.416을 더했더니 답이 8이 나왔습니다. 바르게 계산하면 얼마인지 구하시오.

답: _____

27. 똑같은 사과 25 개가 들어 있는 바구니가 있습니다. 사과가 든 바구니의 무게는 4.2 kg 이고, 바구니만의 무게가 0.2 kg 이라면 사과 한 개의 무게는 몇 kg인지 구하시오.

답: _____ kg

28. 나눗셈의 몫을 반올림하여 소수 둘째 자리까지 나타내시오.
$14 \div 9 = 1.5555 \cdots$

답: _____

29. A 기계는 5 분에 $27\frac{2}{3}$kg 의 솜을 생산할 수 있고, B 기계는 15 분에 $80\frac{5}{6}$kg 의 솜을 생산한다고 합니다. A 와 B 중 1 분에 생산하는 솜의 무게는 어느 기계가 더 많은지 구하시오.

답: _____

30. 어느 각기둥의 밑면이 정다각형입니다. 모서리의 개수는 27개, 밑면의 둘레가 72 cm이고, 높이가 10 cm인 도형의 옆면 1개의 넓이는 몇 cm^2인지 구하시오.

답: _____ cm^2