1. 아래 평행사변형의 넓이를 구하시오.

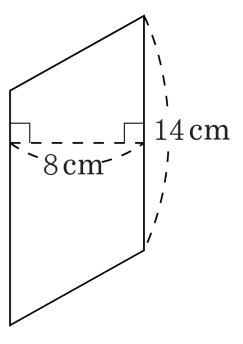

답: _____ cm^2

2. 다음 삼각형의 넓이를 구하시오.

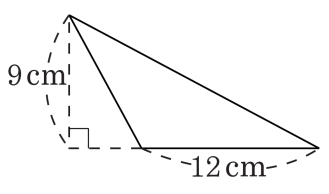

답: _____ cm^2

3. 다음 삼각형에서 $\square$ 안에 알맞은 수를 써넣으시오.

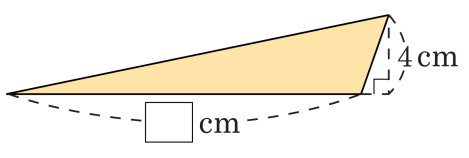

넓이 : $36\,cm^2$

답: _____

4. 다음 사다리꼴의 넓이를 구하시오.

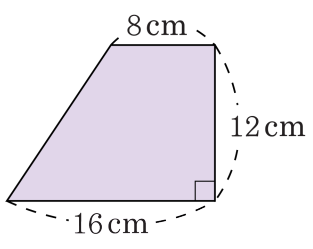

답: _____ cm^2

5. 정사각형 둘레의 길이를 구하라.

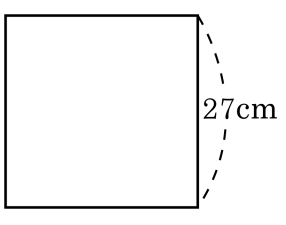

답: _____ cm

6. 직사각형의 둘레의 길이를 구하시오.

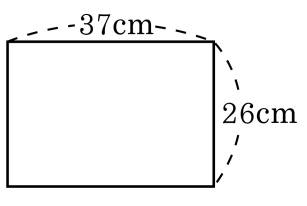

답: _____ cm

7. 다음 평행사변형의 높이는 몇 cm 입니까?

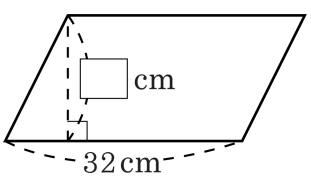

넓이 : $544\,cm^2$

답: _____ cm

8. 도형의 넓이를 구하시오.

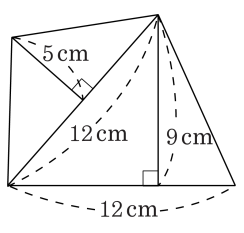

답: _____ cm^2

9. 다음 직사각형의 넓이를 이용하여 구한 마름모의 넓이를 구하시오.

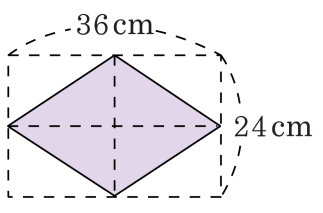

답: _____ cm^2

10. 다음 도형에서 사각형 ㄱㄴㄷㄹ의 넓이는 124cm^2 라고 할 때, 도형의 색칠한 부분의 넓이를 구하시오.

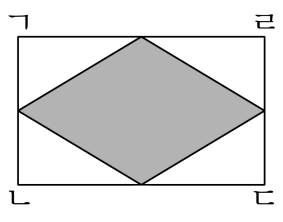

답: _____ cm^2

11. 다음 도형의 넓이가 112cm^2 라고 할 때, 나머지 한 대각선의 길이는 몇 cm 인지 구하시오.

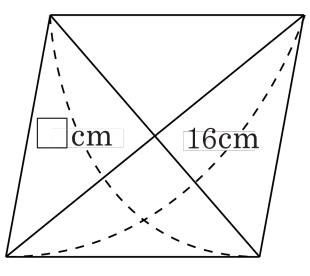

답: _____ cm

12. 다음 도형의 둘레는 몇 cm 인가?

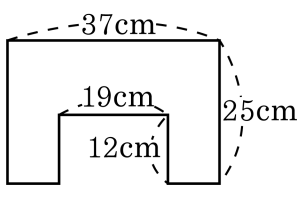

답: _____ cm

13. 다음 도형의 둘레는 몇 cm 인가?

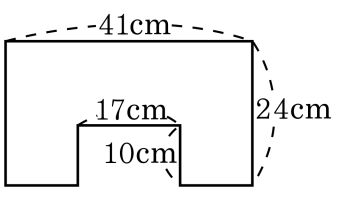

답: _____ cm

14. 태능에 있는 수영장에는 길이 800cm 의 정사각형 모양의 풀장과 가로 1100cm , 세로 1700cm 의 직사각형 모양의 풀장이 있다. 수영장에 있는 풀장의 넓이의 합은 몇 cm^2 인가?

답: _____ cm^2

15. 다음 도형의 넓이를 구하시오.

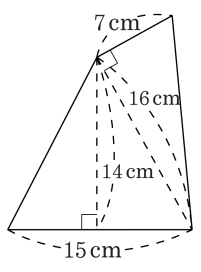

답: _____ cm^2

16. 밑변이 25 cm , 높이가 42 cm 인 삼각형이 있습니다. 이 삼각형과 넓이가 같고, 밑변이 35 cm 인 평행사변형의 높이는 몇 cm 입니까?

답: _____ cm

17. 다음 그림에서 도형 (가)와 직사각형 (나)의 넓이가 같을 때, ㉠의 길이는 몇 cm인지 구하시오.

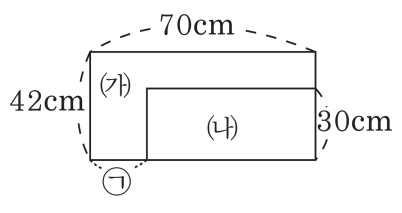

답: _____ cm

18. 다음 도형에서 색칠한 부분의 넓이를 구하시오.

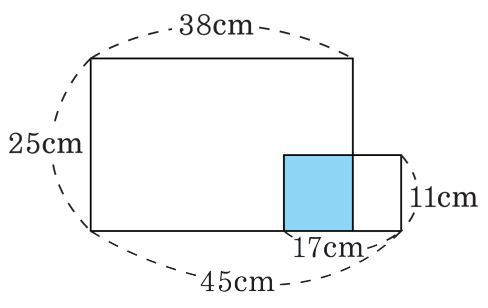

답: _____ cm^2

19. 다음 도형의 색칠한 부분의 넓이를 구하여라.

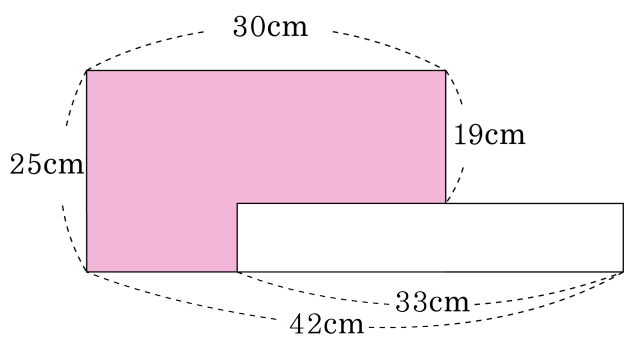

답: _____ cm^2

20. 다음 그림에서 삼각형 ㄱㄴㅁ의 넓이가 $24\,\mathrm{cm}^2$ 일 때, 색칠한 부분의 넓이를 구하시오.

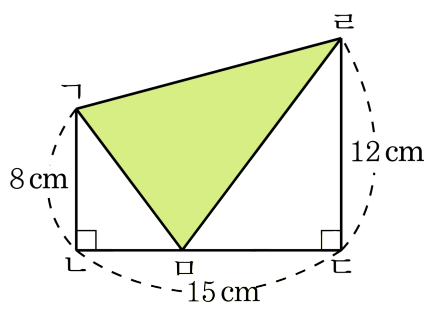

답: _____ cm^2