1. 오른쪽은 어느 마을의 동별 인구를 나타낸 그림그래프입니다. 인구가 가장 많은 동과 가장 적은 동의 차는 몇 명입니까?

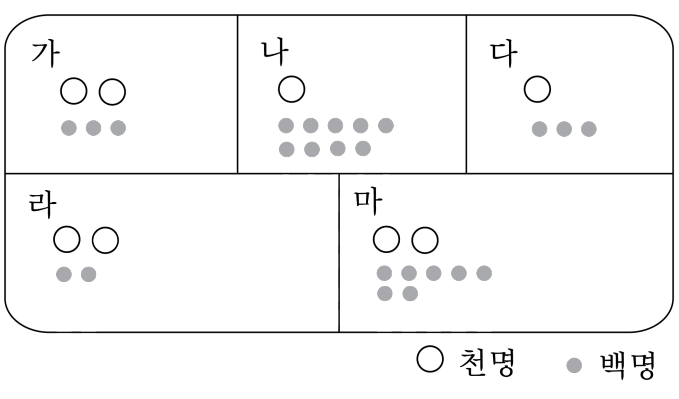

답: _____ 명

2. 표는 어느 지방의 마을별 콩 생산량을 나타낸 것입니다. 마을별 평균 생산량을 구하시오.

마을별 콩 생산량

마을	생산량	마을	생산량
가	●●○○	다	●●●●○
나	●●○○○	라	●●●

● 100 kg, ○ 10 kg

답: _____ kg

3. 영수네 학교 학생들이 좋아하는 계절을 조사하여 나타낸 것입니다. 봄을 좋아하는 학생은 전체 학생의 몇 %인지 구하시오.

좋아하는 계절

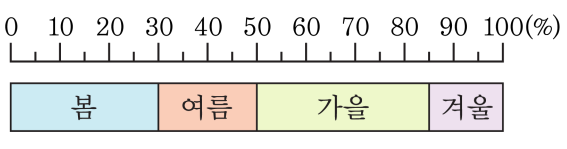

답: _____ %

4. 원그래프는 학생들이 좋아하는 프로그램을 조사한 것입니다. 학생들이 둘째로 좋아하는 프로그램은 무엇인지 적으시오.

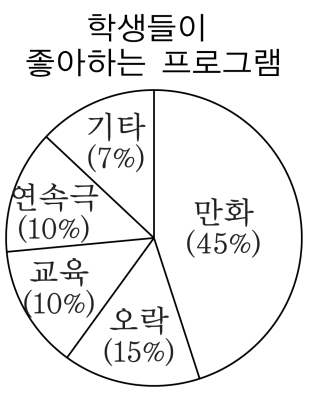

답: _____

5. 어느 학교 학생 400 명의 취미를 조사하여 나타낸 원그래프입니다. 독서가 취미인 학생은 몇 명인지 구하시오.

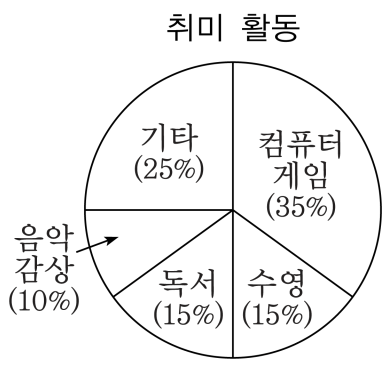

답: _____ 명

6. 다음 어느 마을의 종류별 신문 구독 부수를 조사하여 나타낸 띠그래프입니다. 이 마을의 신문 구독 부수가 1500부라면 라 신문의 구독 부수는 [ ]부가 된다고 합니다. [ ]안에 들어갈 알맞은 수를 구하시오.

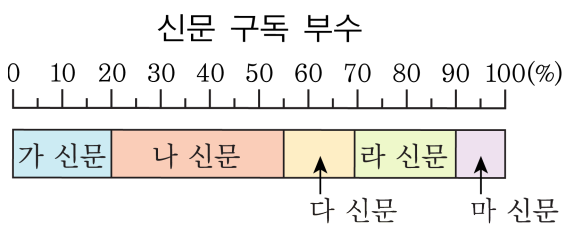

답: _____

7. 민수네 학교 학생들이 좋아하는 과일을 조사하여 나타낸 띠그래프입니다. 이 띠그래프의 전체 길이가 50cm 라면, 귤을 좋아하는 학생이 차지하는 길이는 몇 cm 인지 구하시오.

좋아하는 과일

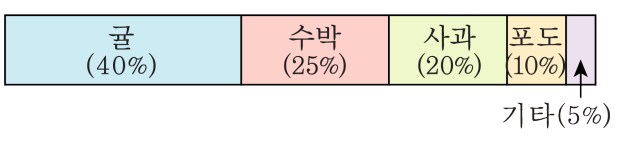

답: _____ cm

8. 백분율로 30 % 에 해당하는 양을 10 cm 인 띠그래프로 나타낼 때, 몇 cm 로 그려야 하는지 구하시오.

답: _____ cm

9. 표를 원그래프로 나타낼 때 수학이 차지하는 백분율은 몇 % 가 되는지 구하시오.

과목	국어	수학	사회	자연	체육	기타	계
학생수(명)	8	10	4	5	12	1	40

답: _____ %

10. 우리 마을에서 한 달 동안 발생하는 쓰레기의 양을 조사하여 나타낸 원그래프입니다. 음식물 쓰레기의 양은 나무 쓰레기의 양의 $\boxed{}$ 배라고 할 때, $\boxed{}$ 안에 들어갈 알맞은 수를 구하시오.

종류별 쓰레기 발생량

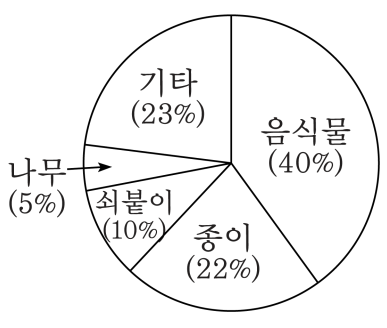

답: _____ 배

11. 진수네 학교 6 학년 학생들의 여가 활동을 조사하여 나타낸 원그래프입니다. 컴퓨터 다루기로 여가를 보내는 학생은 운동으로 여가를 보내는 학생의 몇 배인지 구하시오.

학생들의 여가 활동

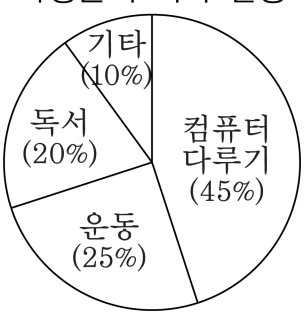

답: _____ 배

12. 다음 원그래프는 웅이네 마을의 토지 이용도를 나타낸 것입니다. 산림은 전체의 몇 % 인지 구하시오.

토지 이용도



답: _____ %

13. 한결이네 반 학생들이 좋아하는 운동을 나타낸 원그래프입니다. 한결이네 반 학생이 30 명이라면, 축구를 좋아하는 학생을 $\square$ 명이라 할 때, $\square$ 안에 들어갈 알맞은 수를 구하시오.

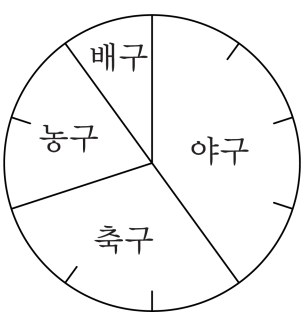

답: _____ 명

14. 원그래프는 회사에 취직하려는 사람들과 회사원을 뽑는 사람들이 좋아하는 얼굴 모양을 조사한 것입니다. 취업 관련자들이 좋아하는 얼굴형에서 남자의 경우와 여자의 경우가 비슷한 비율을 차지하는 것은 어떤 얼굴형인지 고르시오.

취업 관련자들이 좋아하는 얼굴형(단위:%)

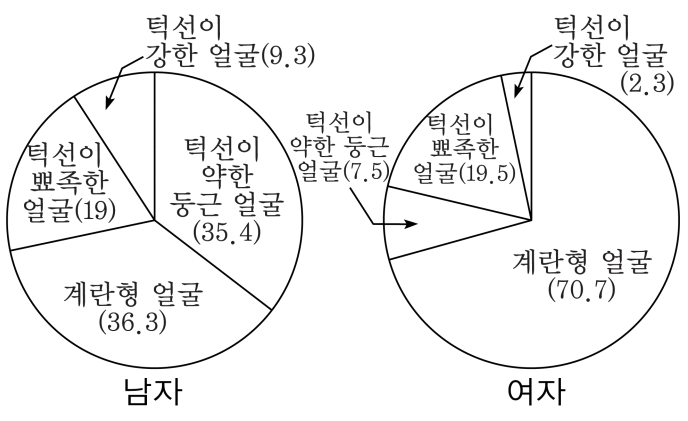

① 턱선이 약한 둥근 얼굴　　② 계란형 얼굴

③ 턱선이 뾰족한 얼굴　　④ 턱선이 강한 얼굴

⑤ 모두 비슷합니다.

15. 윤희네반 학생 40명의 혈액형을 조사한 것입니다. 다음 띠그래프에서 A형의 백분율로 바르게 나타낸 것은 어느 것입니까?

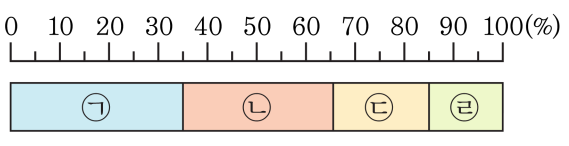

혈액형	A	B	O	AB
학생 수		14	6	8

① ㉠　　② ㉡　　③ ㉢

④ ㉣　　⑤ 알 수 없다.

16. 전체 길이가 24cm 인 띠그래프에서 학생 수가 13 명인 항목이 6cm 를 차지하고 있습니다. 조사한 학생은 모두 몇 명인지 구하시오.

답: _____ 명

17. 다음은 경순이네 학교 6학년 학생들의 거주지를 조사하여 만든 띠그래프인데 다 마을에 사는 학생이 라 마을에 사는 학생의 2배고 다 마을에 사는 학생은 32명입니다. 6학년 학생은 모두 [ ] 명이라고 할 때, [ ] 안에 알맞은 수를 구하시오.

6학년 학생들의 거주지

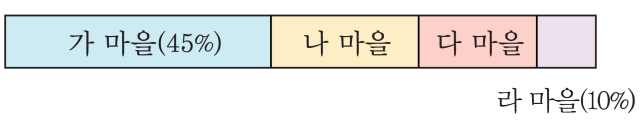

답: _____ 명

18. 다음은 인영이네 반 학생들이 좋아하는 운동을 조사하여 원그래프로 나타낸 것입니다. 수영을 좋아하는 학생이 농구를 좋아하는 학생의 2배일 때, 야구를 좋아하는 학생은 수영을 좋아하는 학생의 몇 배인지 구하시오.

좋아하는 운동

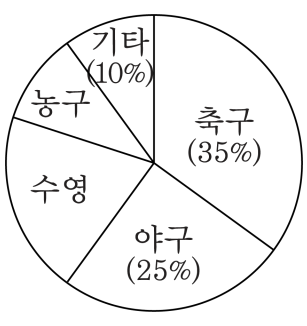

답: _____ 배

19. 전체를 20등분 한 원그래프에서 5칸을 차지하는 부분은 띠그래프로 나타낼 때 몇 %를 차지하겠는지 구하시오.

답: _____ %

20. 재희네 학교 6학년 학생 600명의 혈액형을 조사하여 띠그래프로 나타낸 것입니다. 위의 표를 전체를 25등분 한 원그래프로 그릴 때, B형인 학생은 몇 칸으로 나타내야 하는지 구하시오.

학생들의 혈액형 종류

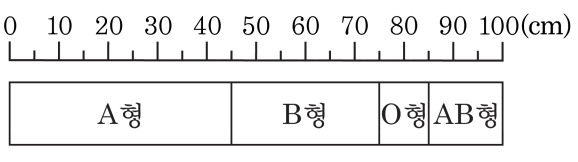

답: _____ 칸

21. 어느 농장에서 기르는 가축의 수를 조사하여 나타낸 그래프입니다. 띠그래프 전체 길이가 50 cm 일 때, 총 가축 수가 800 마리라면 소는 닭보다 몇 마리 더 많은지 구하시오.

기르는 가축의 수

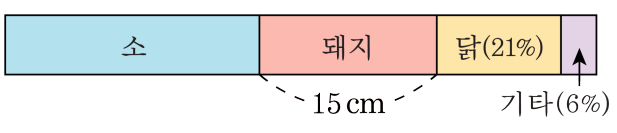

답: _____ 마리

22. 전체의 길이가 20cm인 띠그래프에서 학생 수가 56명인 항목이 8cm를 차지하고 있습니다. 조사한 학생은 몇 명인지 구하시오.

답: _____ 명

23. 다음은 어느 초등학교 6학년을 대상으로 가장 좋아하는 과일을 조사한 것입니다. 수박을 좋아하는 학생은 80명이고, 복숭아를 좋아하는 학생은 딸기를 좋아하는 학생의 4배이고, 포도를 좋아하는 학생은 딸기를 좋아하는 학생보다 40명이 더 많습니다. 6학년 전체 학생 수는 몇 명인지 구하시오.

좋아하는 과일

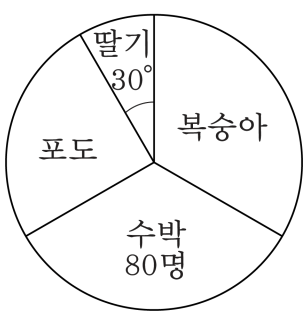

답: _____ 명

24. 진아는 4개월 동안 저금을 하였는데, 매달 전달의 2배만큼 저금하였습니다. 4개월 동안 저금한 금액으로 원그래프를 그릴 때, 첫 달은 전체의 몇 %인지 분수로 나타내시오.

답: _____ %

25. 반지름의 길이가 1 cm, 2 cm, 3 cm, 4 cm 인 원을 동일한 중심을 갖도록 배열하여 원그래프를 만든 것입니다. 원그래프의 색칠한 부분이 차지하는 비율을 띠그래프로 바꿔 그렸을 때, 띠그래프에서 차지하는 비율은 몇 %인지 구하시오.

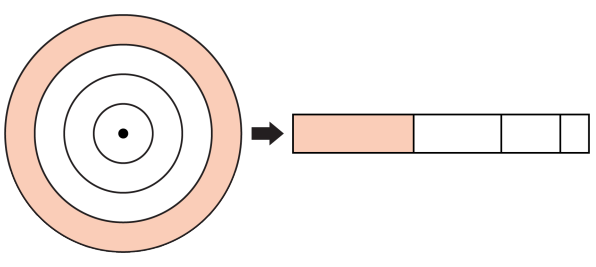

① 34 %　　② 40.5 %　　③ 43.75 %

④ 54 %　　⑤ 63.25 %