1. 다음 보기 중 옳은 것을 모두 고르시오.

보기

㉠ $2\sqrt{2} = \sqrt{8}$

㉡ $-2\sqrt{7} = -\sqrt{14}$

㉢ $\frac{\sqrt{3}}{2} = \sqrt{\frac{3}{4}}$

㉣ $\frac{\sqrt{7}}{3} = \sqrt{\frac{7}{3}}$

답: _____

답: _____

2. $3\frac{\sqrt{10}}{\sqrt{5}} - \sqrt{72}$을 간단히 하여라.

답: _____

3. $\dfrac{\sqrt{10}-3\sqrt{5}}{\sqrt{5}}$ 를 간단히 하면?

① $\sqrt{2}-3$ ② $\sqrt{2}-2$ ③ $\sqrt{2}-1$
④ $\sqrt{2}$ ⑤ $\sqrt{2}+1$

4. $2\sqrt{5}$ 의 정수 부분을 a, 소수 부분을 b 라 할 때, $a-b$ 의 값을 구하여라.

답: _____

5. 두 다항식 $4x^2 - 2xy$ 와 $2x^2 - 6xy^2$ 의 공통인 인수는?

① $2x$ ② $3x$ ③ xy ④ $2xy$ ⑤ $2x^2$

6. $x^2 - 7x - 8$ 를 인수분해하면?

① $(x+1)(x+8)$ ② $(x-1)(x-8)$ ③ $(x+1)(x-8)$
④ $(x-1)(x+8)$ ⑤ $(x-2)(x-4)$

7. $\left(6x-\frac{1}{2}y\right)\left(x+\frac{3}{4}y\right)$ 를 전개하였을 때, xy 의 계수를 구하여라.

답: _____

8. 인수분해공식을 이용하여 $13^2 - 12^2 = 13 + 12$ 로 계산하였다. 이 때, 이용된 공식은?

① $a^2 + 2ab + b^2 = (a+b)^2$

② $a^2 - 2ab + b^2 = (a-b)^2$

③ $a^2 - b^2 = (a+b)(a-b)$

④ $x^2 + (a+b)x + ab = (x+a)(x+b)$

⑤ $acx^2 + (ad+bc)x + bd = (ax+b)(cx+d)$

9. 다음 식에서 $\square$ 안에 들어갈 알맞은 숫자로 짝지어진 것은?

(ㄱ) $\sqrt{4^2}$ 은 $\square$ 와 같다.
(ㄴ) 제곱근 $\square$ 는 7 이다.
(ㄷ) 제곱근 100 은 $\square$ 이다.

① (ㄱ) 16 (ㄴ) 49 (ㄷ) ± 10
② (ㄱ) 4 (ㄴ) 49 (ㄷ) ± 10
③ (ㄱ) 4 (ㄴ) 49 (ㄷ) 10
④ (ㄱ) -4 (ㄴ) 7 (ㄷ) -10
⑤ (ㄱ) 4 (ㄴ) 49 (ㄷ) -10

10. $a < 0$ 일 때, $\sqrt{4a^2} - \sqrt{(-2a)^2}$ 을 간단히 하면?

① 0 ② $-6a$ ③ $6a$ ④ $-4a$ ⑤ $4a$

11. 다음 보기 중에서 가장 큰 수를 구하면?

① $\frac{1}{2}$ ② $\sqrt{\frac{3}{4}}$ ③ $\sqrt{7}$ ④ 3 ⑤ $\sqrt{8}$

12. $P(x)$ 을 $-\sqrt{x} < n < 0$ 인 정수 n 의 개수라 할 때, $P(16) - P(2.5)$ 의 값을 구하여라.

답: _____ 개

13. 다음 중 옳은 것은?

① 0 을 제외한 모든 수의 제곱근은 2 개이다.

② $\sqrt{(-4)^2}$ 의 제곱근은 ± 2 이다.

③ $\sqrt{9} + \sqrt{16} = \sqrt{9+16}$ 이다.

④ $2\sqrt{3} = \sqrt{6}$ 이다.

⑤ π 는 유리수이다.

14. 다음 수직선 위에서 무리수 $-1-\sqrt{5}$ 에 대응하는 점은?

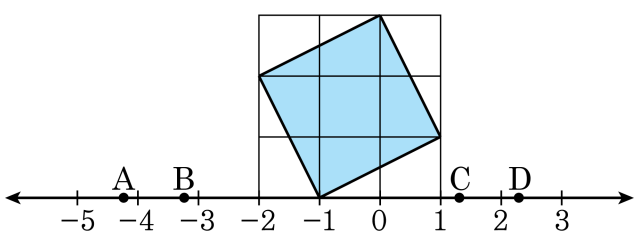

① A ② B ③ C

④ D ⑤ 알 수 없다.

15. 다음 두 실수의 대소를 비교한 것 중 옳지 <u>않은</u> 것은?

① $\sqrt{3}+7<9$

② $\sqrt{15}-\sqrt{8}<4-\sqrt{8}$

③ $\sqrt{11}-5<\sqrt{11}-\sqrt{26}$

④ $\sqrt{50}+7>14$

⑤ $-\sqrt{5}-3>-\sqrt{6}-3$

16. $\sqrt{2} = x$, $\sqrt{3} = y$ 라고 할 때, 12 를 x, y 를 이용해 나타낸 것으로 옳은 것은?

① x^4y^3 ② x^4y^2 ③ x^7 ④ x^3y^3 ⑤ x^3y^4

17. 제곱근표에서 $\sqrt{3} = 1.732$ $\sqrt{30} = 5.477$ 일 때, $\sqrt{0.03}$ 와 $\sqrt{0.003}$ 의 값으로 바르게 짝지어진 것은?

① 0.001732 , 0.5477
② 0.05477 , 0.1732
③ 0.1732 , 0.05477
④ 0.5477 , 0.01732
⑤ 0.1732 , 0.001732

18. $A = \sqrt{81} + \sqrt{(-7)^2} \div \sqrt{\frac{49}{16}} - \left(-\sqrt{6}\right)^2$ 일 때, A^2 의 값은?

① 1 ② $\frac{6}{7}$ ③ 7 ④ $\frac{36}{49}$ ⑤ 49

19. $\sqrt{2}\times\sqrt{3}\times\sqrt{a}\times\sqrt{12}\times\sqrt{2a}=24$ 일 때, 자연수 a 의 값을 구하여라.

답: $a=$ _____

20. $\sqrt{\frac{6}{128}}$ 을 근호 안의 수가 가장 작은 자연수가 되도록 하면 $\frac{\sqrt{a}}{b}$ 가 된다. 이 때, 자연수 a, b의 합 $a+b$의 값은?

① 5 ② 6 ③ 8 ④ 11 ⑤ 16

21. 다음 그림의 삼각형과 직사각형의 넓이가 서로 같을 때, 삼각형의 높이 x 의 값을 구하여라.

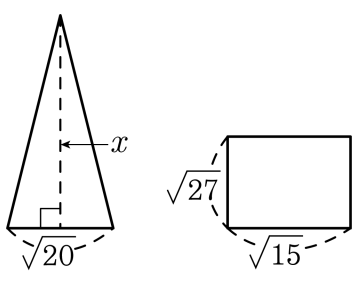

답: $x =$ _____

22. $a^2 = 3 + 2\sqrt{2}$ 일 때, $\dfrac{a^3 + a^2 - 3a - 3}{a + 1}$ 의 값을 구하면?

① $2\sqrt{2}$ ② $2 + \sqrt{2}$ ③ $2\sqrt{2} - 1$
④ $4\sqrt{2}$ ⑤ $4\sqrt{2} - 2$

23. 다음과 같이 수직선 위의 점 A(-4), B(-2)에 대하여 선분 AB를 한 변으로 하는 정사각형 ABCD가 있다. 점 B를 중심으로 하고, 대각선 BD를 반지름으로 하는 반원의 넓이를 구하여라.

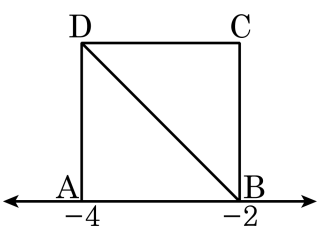

답: _____

24. 다음 식을 간단히 하여라.

$$(2a-b)^2-(2a+b)^2$$

답: _____

25. $x^3 - y^3 = -2,\ xy = -1$ 일 때, $x + y$ 의 값을 구하여라. (단, $x < y$)

답: $x + y =$ _____