1. 다음 중 가장 큰 수는 어느 것입니까?

① 만이 270이고, 일이 5782인 수

② 삼백이십육만 육천오

③ 3000000보다 10 큰 수

④ 3999999

⑤ 삼백이십육만 육천오십

2. 뛰어세기를 하여 [ ]안에 알맞은 수를 차례대로 쓴 것은 어느 것입니까?

(1) [ ] – 210조 – [ ] – 310조 – [ ]
(2) [ ] – 8000억 – 9000억 – [ ] – [ ] – [ ]

① (1)150조, 250조, 350조 (2) 7000억, 1조, 1조 1000억, 1조 2000억
② (1)160조, 260조, 360조 (2) 7000억, 1조, 1조 1000억, 1조 2000억
③ (1)160조, 260조, 360조 (2) 7000억, 1조, 1조 2000억, 1조 4000억
④ (1)170조, 270조, 370조 (2) 7000억, 1조, 1조 1000억, 1조 2000억
⑤ (1)160조, 260조, 360조 (2) 7000억, 1조, 1조 2000억, 1조 4000억

3. 다음 중 가장 큰 수는 어느 것입니까?

① $5000000 + 600000 + 90 + 8$

② 6825360

③ 육백팔만 구천구백구십구

④ 7000000보다 십만 작은 수

⑤ 만이 628이고, 1이 1863인 수

4. 다음과 같은 그림이 있다. (　　)안에 예각은 '예', 둔각은 '둔'으로 나타낼 때, 둔각은 모두 몇 개입니까?

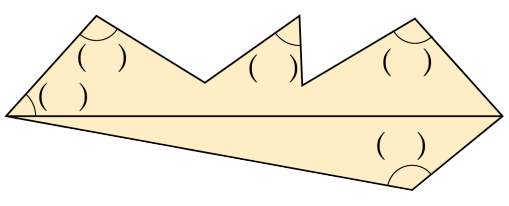

① 5개　② 4개　③ 3개　④ 2개　⑤ 1개

5. 다음 중 몫이 큰 것부터 차례대로 기호를 쓴 것은 어느 것입니까?

㉠ $180 \div 30$	㉡ $560 \div 70$
㉢ $250 \div 50$	㉣ $360 \div 40$

① ㉠, ㉣, ㉢, ㉡ ② ㉡, ㉣, ㉢, ㉠ ③ ㉢, ㉠, ㉡, ㉣
④ ㉣, ㉠, ㉡, ㉢ ⑤ ㉣, ㉡, ㉠, ㉢

6. 몫이 큰 것부터 차례로 기호를 쓴 것은 어느 것입니까?

㉠ $350 \div 50$	㉡ $180 \div 30$
㉢ $240 \div 60$	㉣ $320 \div 40$

① ㉠, ㉣, ㉢, ㉡　② ㉠, ㉢, ㉡, ㉣　③ ㉢, ㉠, ㉡, ㉣
④ ㉣, ㉢, ㉡, ㉠　⑤ ㉣, ㉠, ㉡, ㉢

7. 다음 나눗셈식에 알맞은 검산식은 어느 것인지 구하시오.

$841 \div 57 = 14 \cdots 43$

① $57 + 14 + 43$ ② $14 + 43 + 57$ ③ $57 \times 14 + 43$
④ $57 \times 43 + 14$ ⑤ $57 + 14 \times 43$

8. 도형을 시계 방향으로 360°만큼 돌렸을 때의 도형을 가, 나 중 고르시오.

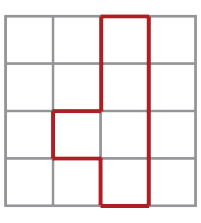

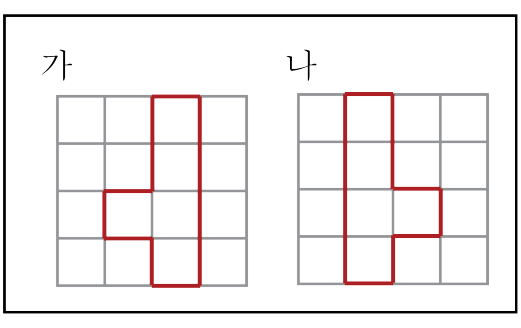

답: _____

9. 1000 원짜리를 10000 장씩 묶은 돈이 2550 묶음 있습니다. 모두 얼마입니까?

답: _____ 원

10. 다음 $\boxed{}$ 안에 알맞은 각도를 써넣으시오.

$$1\,\text{직각} + 63^\circ = \boxed{}$$

답: _____ °

11. 다음 도형에서 ㉮의 크기를 구하시오.

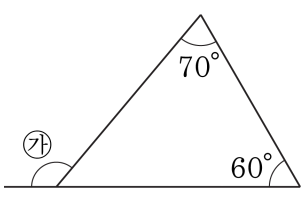

답: _____ °

12. $\square$ 안에 알맞은 각도를 써넣으시오.

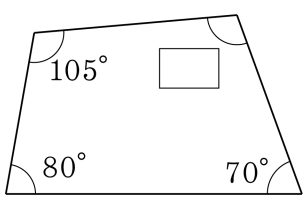

답: _____ °

13. 다음 그림의 도형에 대한 설명으로 옳은 것은 어느 것입니까?

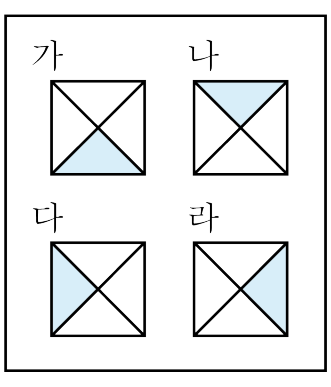

① 가 도형을 시계 방향으로 180°만큼 돌리면 라 도형이 됩니다.

② 나 도형을 시계 방향으로 90°만큼 돌리면 다 도형이 됩니다.

③ 다 도형을 시계 방향으로 270°만큼 돌리면 가 도형이 됩니다.

④ 다 도형을 시계 반대 방향으로 90°만큼 돌리면 나 도형이 됩니다.

⑤ 라 도형을 시계 반대 방향으로 360°만큼 돌리면 다 도형이 됩니다.

14. 도형을 왼쪽으로 6번 뒤집고 시계 반대 방향으로 180°만큼 돌렸을 때의 도형은 어느 것입니까?

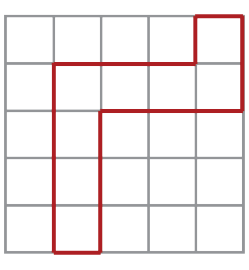

①
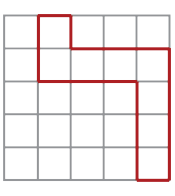

②
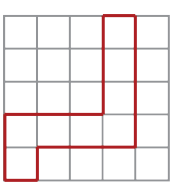

③
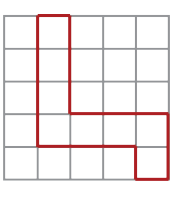

④
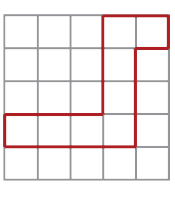

⑤
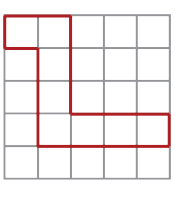

15. 다음 중 뒤집기를 한 무늬와 돌리기를 한 무늬가 다르게 될 수 있는 모양은 어느 것입니까?

① 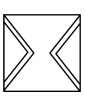

② 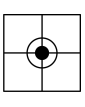

③ 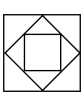

④ 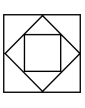

⑤

16. 어떤 초등학교 4학년 반별 교내 글짓기 대회에서 참가한 학생 수를 조사하여 나타낸 막대그래프입니다.

〈교내 글짓기 대회의 참가 학생 수〉

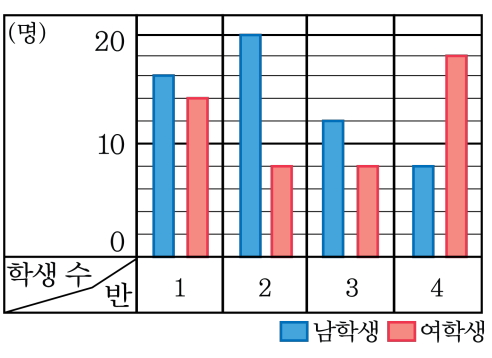

교내 글짓기 대회의 참가 학생 수가 남학생보다 여학생이 더 많은 반에서의 (여학생 수)−(남학생 수)는 얼마입니까?

답: _____

17. 미술 대회에 참가한 학생수를 조사하여 학교별로 나타낸 막대그래프입니다.

〈미술 대회 참가 학생 수〉

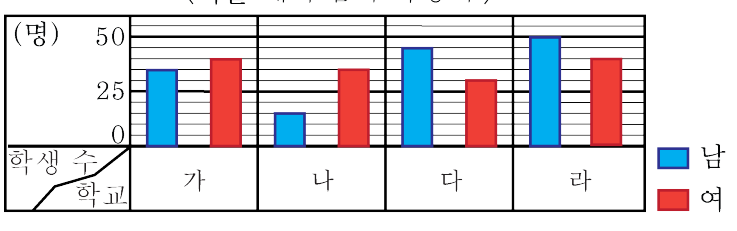

참가한 학생 수가 가장 많은 학교는 어느 학교입니까?

답: _____

18. 목성에서 태양까지의 거리는 약 7억 7830만 km 입니다. 만약 목성에서 태양까지의 거리를 100 cm 자로 잰다면 몇 번을 재야 합니까?

답: _____ 번

19. 한 켤레의 삼각자를 다음과 같은 모양으로 놓았습니다. ㉠ + ㉡의 크기를 구하시오.

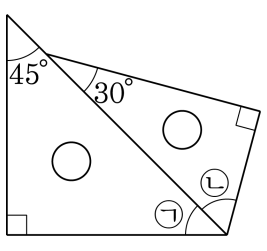

답: _____ °

20. 수빈이네 반의 학생 수는 40 명입니다. 선생님께서 공책 182 권을 학생들에게 될 수 있는대로 많게 하여 똑같이 나누어 주려고 합니다. 한 명에게 공책을 ☐권씩 나누어 줄 수 있고, ☐권이 남습니다. ☐안에 알맞은 수를 차례대로 쓰시오.

답: _____

답: _____

21. $\square$안에 들어갈 수 있는 자연수의 개수를 구하시오.

$57 \times \square < 654$

답: _____ 개

22. 도형의 배열을 보고 여섯째에 알맞은 도형에서 사각형의 수를 구하시오.

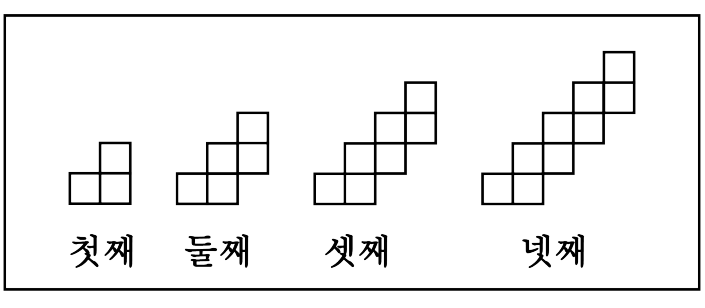

답: _____

23. 다음 숫자 카드를 두 번씩 사용하여 14자리 수를 만들 때, 십억 자리의 숫자가 2인 수 중에서 가장 큰 수를 구하시오.

$\boxed{7}$ $\boxed{1}$ $\boxed{0}$ $\boxed{8}$ $\boxed{2}$ $\boxed{5}$ $\boxed{9}$

답: _____

24. 다음 모양을 시계 방향으로 90°돌린 다음, 왼쪽으로 계속해서 두 번 뒤집으면 어떤 모양이 됩니까?

①

②

③

④

⑤

25. 도형 속의 수를 보고 빈 곳의 수를 구하는 계산식이 아닌 것을 고르시오.

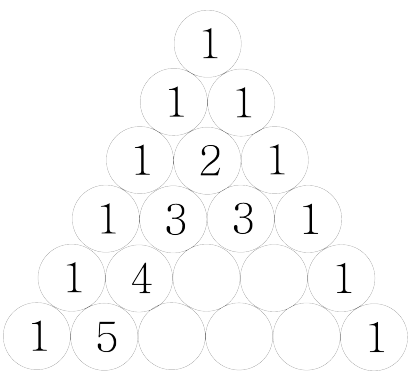

① 3+3=6 ② 3+1=4 ③ 4+1=5
④ 5+5=10 ⑤ 4+6=10