1. 10 억 원은 만 원짜리 몇 장과 같습니까?

답: _____ 장

2. 다음 $\square$ 안에 알맞은 수를 넣어 1 조가 되도록 바르게 구한 것은 어느 것입니까?

(1) 1 조 = 9000 억 + $\square$
(2) 1 조 = 1000 억 × $\square$
(3) 1 조 = 9800 억 + $\square$
(4) 1 조 = 1 억 × $\square$

① (1) 1000 억 (2) 10 억 (3) 200 억 (4) 10000

② (1) 1000 억 (2) 10 (3) 20 억 (4) 10000

③ (1) 100 억 (2) 10 (3) 200 억 (4) 10000

④ (1) 100 억 (2) 10 억 (3) 200 억 (4) 10000

⑤ (1) 1000 억 (2) 10 (3) 200 억 (4) 10000

3. $\boxed{}$ 안에 알맞은 수를 써넣으시오.

$$2\text{ 직각}+\boxed{}^\circ = 275^\circ$$

답: _____ °

4. $\square$안에 알맞은 각의 크기를 구하시오.

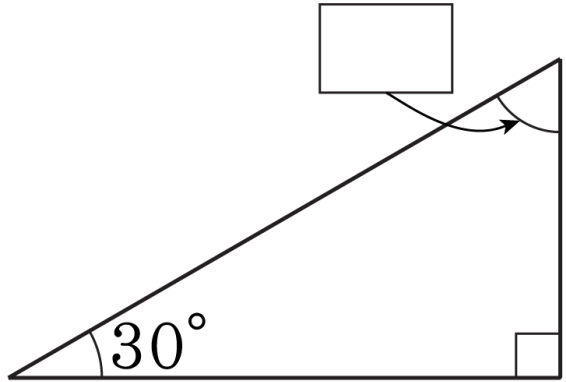

답 : _____ °

5. 다음 도형에서 ㉠과 ㉡의 각도의 합을 구하시오.

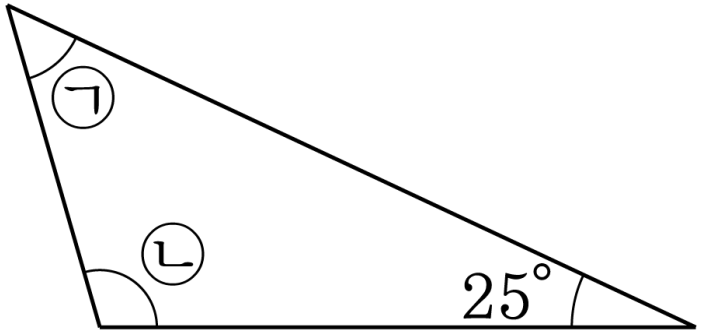

답: _____ °

6. 다음 중 나눗셈의 몫이 다른 하나는 어느 것입니까?

① $23 \div 20$ ② $34 \div 20$ ③ $36 \div 30$

④ $77 \div 40$ ⑤ $89 \div 40$

7. 다음 중 나눗셈의 나머지가 5인 것은 어느 것인지 고르시오.

① $65 \div 14$ ② $75 \div 14$ ③ $81 \div 20$

④ $86 \div 23$ ⑤ $78 \div 15$

8. 다음 그림의 도형에 대한 설명으로 옳은 것은 어느 것입니까?

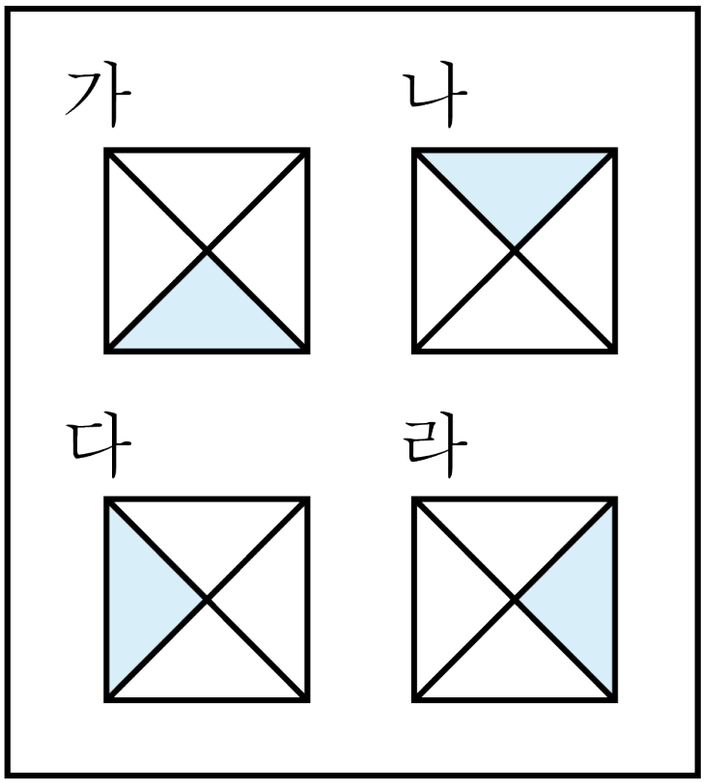

① 가 도형을 시계 방향으로 180°만큼 돌리면 라 도형이 됩니다.

② 나 도형을 시계 방향으로 90°만큼 돌리면 다 도형이 됩니다.

③ 다 도형을 시계 방향으로 270°만큼 돌리면 가 도형이 됩니다.

④ 다 도형을 시계 반대 방향으로 90°만큼 돌리면 나 도형이 됩니다.

⑤ 라 도형을 시계 반대 방향으로 360°만큼 돌리면 다 도형이 됩니다.

9. 도형을 왼쪽으로 6번 뒤집고 시계 반대 방향으로 180°만큼 돌렸을 때의 도형은 어느 것입니까?

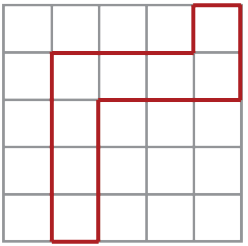

① 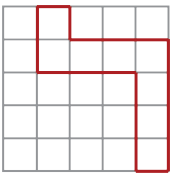

② 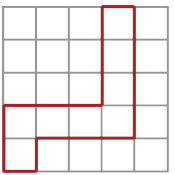

③ 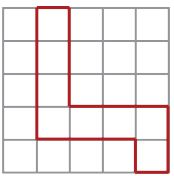

④ 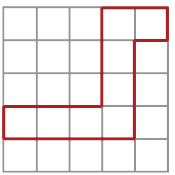

⑤ 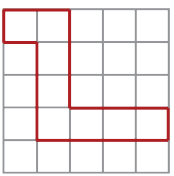

10. 다음 그림과 같은 모양 조각으로 만들 수 <u>없는</u> 무늬는 어느 것인지 고르시오.

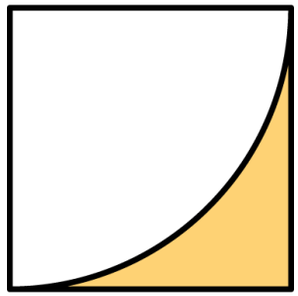

① 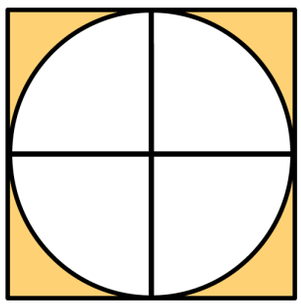

② 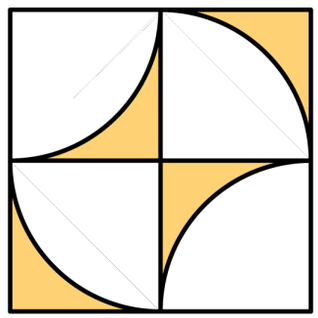

③ 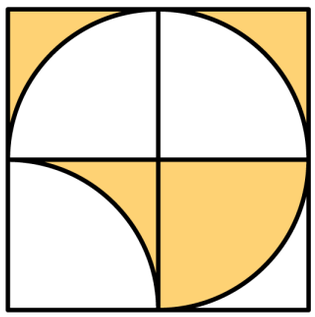

④ 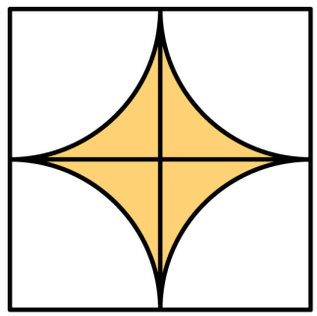

⑤ 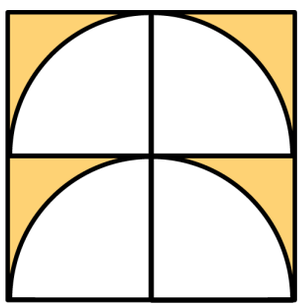

11. $\square$ 안에 알맞은 수를 써넣으시오.

7020000은 1000000이 5, 100000이 $\square$, 10000이 25, 1000이 60, 100이 100인 수이다.

답: _____

12. 숫자 카드 $\boxed{1}$, $\boxed{2}$, $\boxed{3}$, $\boxed{4}$, $\boxed{5}$가 있습니다. 이 숫자 카드를 한 번씩만 써서 가장 큰 수를 만들 때, 숫자 3이 나타내는 수는 얼마입니까?

① 3000　② 30　③ 3

④ 300　⑤ 30000

13. 다음 숫자 카드를 한 번씩만 사용하여 만든 여덟 자리 수 중에서 두 번째로 작은 수를 구하시오.

0	0	7	3	5	8	4	9

답: _____

14. 시계 바늘이 3 시 20 분을 가리키고 있습니다. 시침과 분침이 만든 각 중 작은 쪽의 각의 크기를 구하시오.

답: _____ °

15. 지원이는 오이를 178 개 땄고, 다솔이는 145 개를 땄습니다. 두 사람이 딴 오이를 한 상자에 25 개씩 담는다면, 몇 상자가 되고 몇 개가 남는지 순서대로 구하시오.

답: _____ 상자

답: _____ 개

16. 지우개는 한 상자에 20 개씩 담고, 연필은 한 상자에 12 자루씩 담으려고 합니다. 지우개 719 개와 연필 925 자루를 각각 상자에 담았다면 어느 것이 얼마나 더 남았는지 차례대로 구하시오.

답: _____

답: _____ 개

17. 다음 중 도형을 뒤집었을 때의 모양이 나머지와 다른 하나는 어느 것입니까?

① 오른쪽으로 4번 뒤집기

② 왼쪽으로 3번 뒤집기

③ 위쪽으로 2번 뒤집기

④ 아래쪽으로 6번 뒤집기

⑤ 오른쪽으로 1번, 왼쪽으로 1번 뒤집기

18. 우진이네 학교에서 4학년 학생이 반별로 남학생과 여학생이 모은 폐휴지의 무게를 조사하여 나타낸 막대그래프입니다.

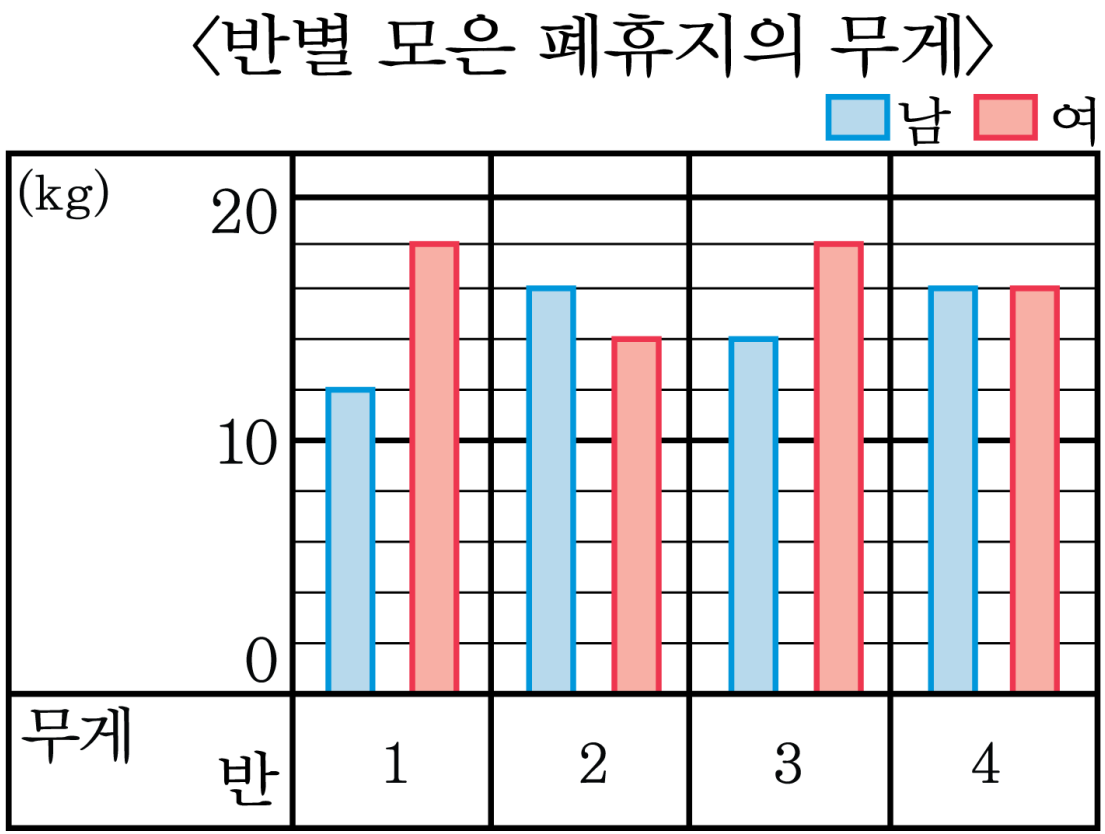

1반과 3반에서 모은 폐휴지는 모두 몇 kg인지 쓰시오.

답: _____ kg

19. 모형으로 만든 도형의 배열에서 다섯째 도형의 모형의 수는 몇 개입니까?

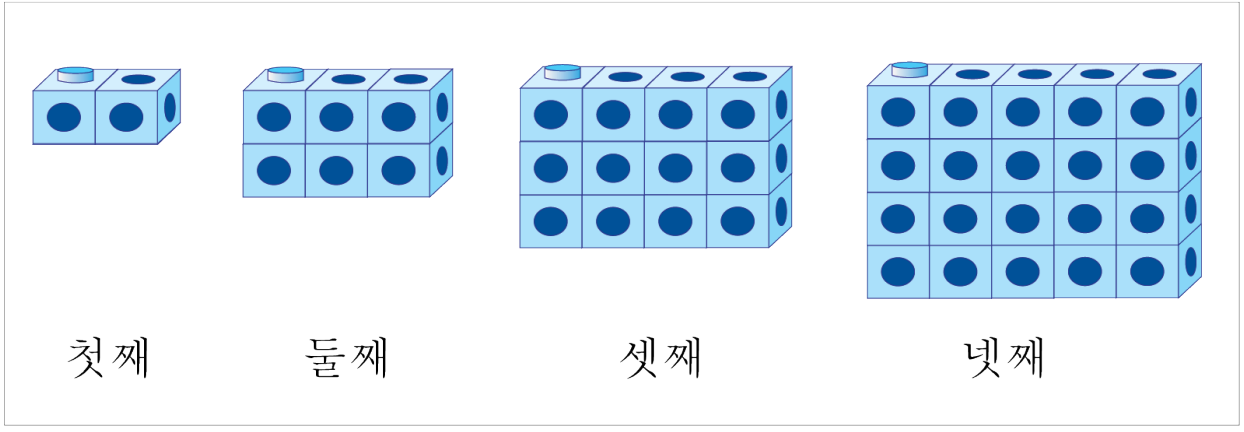

① 24개 ② 25개 ③ 30개 ④ 36개 ⑤ 42개

20. 달력의 $\square$ 안에 있는 수의 배열에서 규칙적인 계산식을 찾은 것입니다. 다음 중 규칙이 다른 하나는 어느 것입니까?

일	월	화	수	목	금	토
				1	2	3
4	5	6	7	8	9	10
11	12	13	14	15	16	17
18	19	20	21	22	23	24
25	26	27	28	29	30	31

① $4+5+6=5\times3$

② $5+7=12$

③ $6+7+8=7\times3$

④ $7+8+9=8\times3$

⑤ $15+16+17=16\times3$