1. 어떤 수를 10만씩 5번 뛰어 세었더니 6950782가 되었습니다. 다음 중 어떤 수는 어느 것입니까?

① 6950732 ② 7450782 ③ 6945782
④ 6900782 ⑤ 6450782

2. <보기>의 각보다 큰 각을 모두 찾아 기호를 쓴 것은 어느 것인지 고르시오.

보기

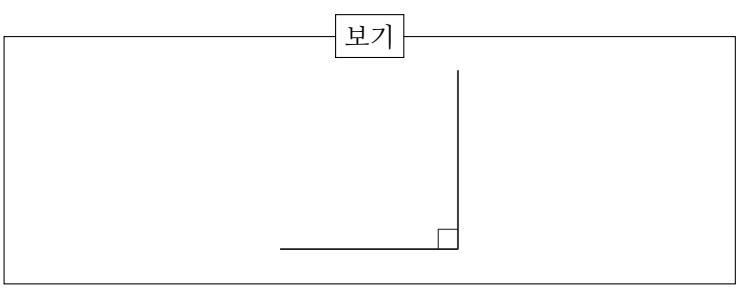

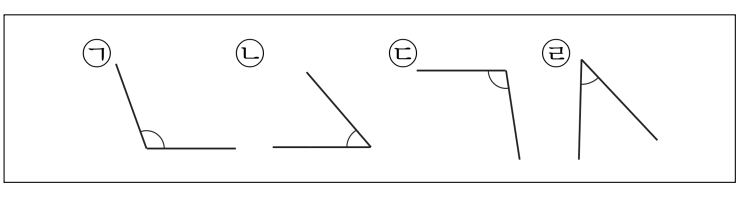

① ㉠, ㉡, ㉢　② ㉠, ㉢　③ ㉡, ㉢
④ ㉠, ㉢, ㉣　⑤ ㉠, ㉡, ㉢, ㉣

3. 다음 중에서 예각은 어느 것입니까?

①

② 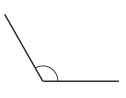

③

④

⑤ 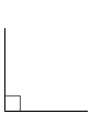

4. 다음 무늬 중 모양을 이어 붙인 방법이 나머지 넷과 다른 하나는 어느 것입니까?

① 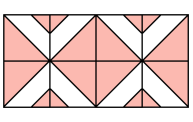

② 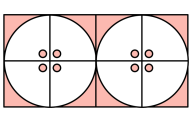

③ 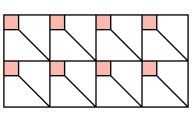

④ 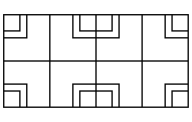

⑤ 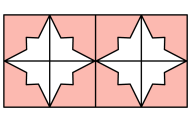

5. 다음 그림의 모양을 이용하여 만든 무늬가 <u>아닌</u> 것은 어느 것인지 고르시오.

①

②

③

④

⑤

6. 다음은 작년 한해 부산의 계절별 비온 날 수를 조사한 막대그래프입니다.

〈계절별 비 온 날 수〉

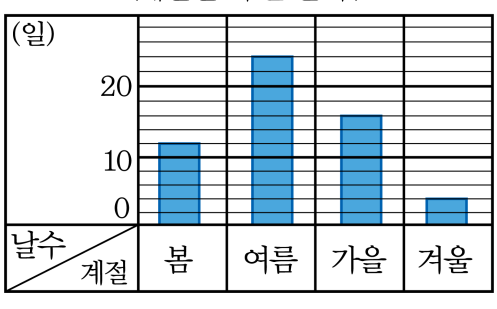

세로의 작은 눈금 한 칸은 몇 일을 나타냅니까?

① 1일 ② 2일 ③ 3일 ④ 4일 ⑤ 5일

7. ☐ 안에 들어갈 알맞은 수를 고른 것은 어느 것입니까?

(1) 10000은 9900보다 ☐ 큰 수입니다. (2) 10000은 9990보다 ☐ 큰 수입니다.

① (1) 100 (2) 10
② (1) 1000 (2) 10
③ (1) 100 (2) 100
④ (1) 2000 (2) 100
⑤ (1) 1000 (2) 100

8. 다음을 숫자로 나타낼 때 각각 0 은 몇 개를 써야 하는지 알맞게 고른 것은 어느 것입니까?

(1) 이천구백삼십조 팔백이만 백칠

(2) 사천구백조 천백사십오만 삼천사

① (1) 10개 (2) 8개
② (1) 9개 (2) 8개
③ (1) 10개 (2) 9개
④ (1) 8개 (2) 9개
⑤ (1) 9개 (2) 9개

9. 다음은 뛰어세기를 한 수입니다. ☐안에 알맞은 수를 차례대로 쓴 것은 어느 것입니까?

(1) 9456만 – 9656만 – 9856만 – ☐ – ☐
(2) 6조 8000만 – 6조 9000만 – ☐ – 7조 1000만 – ☐

① (1) 1억 56만, 1억 156만 (2) 7조, 7조 2000만

② (1) 1억 56만, 1억 256만 (2) 7조, 7조 3000만

③ (1) 1억 56만, 1억 256만 (2) 7조, 7조 2000만

④ (1) 1억 56만, 1억 1256만 (2) 7조, 7조 2000만

⑤ (1) 1억 156만, 1억 256만 (2) 7조, 7조 2000만

10. ☐안에 알맞은 수를 차례대로 쓴 것은 어느 것입니까?

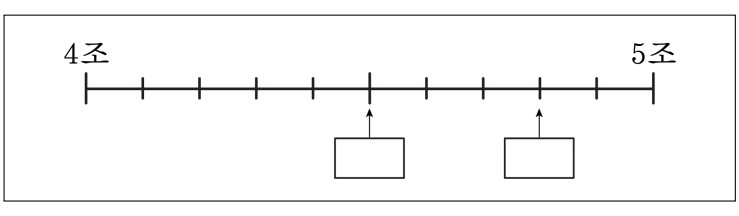

① 4조 5천억, 4조 8천억
② 4조 5천억, 4조 9천억
③ 4조 6천억, 4조 9천억
④ 4조 4천억, 4조 7천억
⑤ 4조 6천억, 4조 8천억

11. 두 수의 크기를 비교하여 >, <를 바르게 나타낸 것은 어느 것입니까?

(1) 450800 ◯ 450799

(2) 6027134 ◯ 6057134

(3) 327억 4020만 ◯ 326억 9999만

(4) 376조 3108억 9000만 ◯ 376조 3118억 50만

① >, <, >, <　　② >, >, >, <　　③ >, <, <, >

④ <, <, >, <　　⑤ <, >, <, <

12. □안에 들어갈 수 있는 숫자가 아닌 것은 어느 것입니까?

$$2\square480543210 < 23970465210$$

① 0 ② 1 ③ 2 ④ 3 ⑤ 4

13. 다음 중 몫이 한 자리 수인 것은 어느 것인지 구하시오.

① 423÷ 25 ② 638÷ 51 ③ 339÷ 34
④ 902÷ 47 ⑤ 614÷ 19

14. 다음 중 나머지가 가장 큰 것은 어느 것인지 고르시오.

① $528 \div 15$ ② $354 \div 28$ ③ $486 \div 49$

④ $732 \div 84$ ⑤ $632 \div 51$

15. 다음은 나눗셈에 대한 설명입니다. 바르게 설명한 것은 어느 것입니까?

① 나머지는 몫보다 작아야 합니다.

② 나머지는 나누는 수보다 커야 합니다.

③ 나머지는 나누는 수보다 작거나 같아야 합니다.

④ 나머지는 나누는 수보다 작아야 합니다.

⑤ 나머지와 나누는 수는 상관없습니다.

16. 다음 무늬는 어떤 모양을 돌리기 한 것입니까?

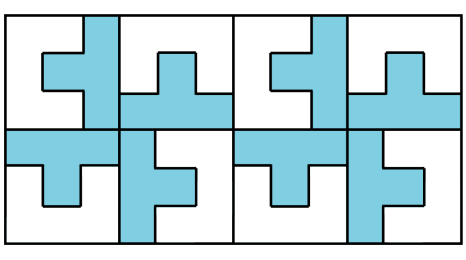

①

②

③

④

⑤

17. 시각이 다음과 같을 때, 시침과 분침이 이루는 작은 각이 예각인 경우는 어느 것입니까?

① 3 시 ② 1 시 45 분 ③ 3 시 30 분
④ 5 시 50 분 ⑤ 10 시 30 분

18. 계산 결과의 크기를 비교하여 큰 것부터 차례로 기호를 쓴 것은 어느 것입니까?

㉠ 528×50	㉡ 408×80
㉢ 876×30	㉣ 925×20

① ㉠, ㉡, ㉢, ㉣　② ㉡, ㉢, ㉠, ㉣　③ ㉡, ㉠, ㉢, ㉣
④ ㉢, ㉡, ㉣, ㉠　⑤ ㉢, ㉡, ㉠, ㉣

19. 다음 $\boxed{}$ 안에 알맞은 곱셈식을 차례대로 써넣은 것은 어느 것입니까?

$$\begin{array}{rl} 863 & \\ \times\quad 47 & \\ \hline 6041 & \cdots(\quad ① \quad) \\ 3452 & \cdots(\quad ② \quad) \\ \hline 40561 & \cdots(\ 863\times 47\ ) \end{array}$$

① 863×7 , 863×4

② 863×70 , 863×4

③ 863×7 , 863×40

④ 863×70 , 863×47

⑤ 863×7 , 863×47

20. 다음 나눗셈을 했을 때 알맞은 검산식을 고르시오.

$$18\overline{)89}$$

① $18 \times 3 + 35 = 89$
② $18 \times 4 + 17 = 89$
③ $18 \times 4 + 16 = 89$
④ $18 \times 5 + 17 = 89$
⑤ $18 \times 5 + 1 = 89$

21. 다음 막대그래프는 민수네 반 학생들이 가장 좋아하는 과일을 조사하여 나타낸 것입니다.

〈가장 좋아하는 과일〉

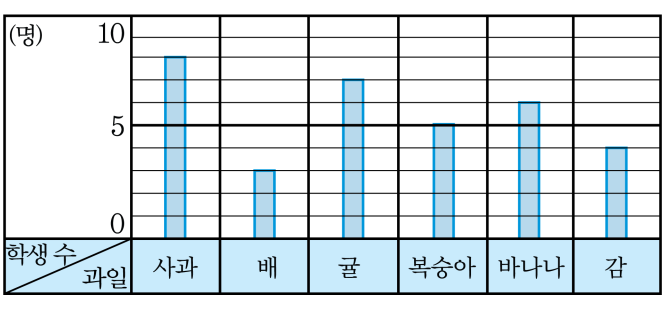

학생 수를 나타내는 눈금을 2명으로 하여 막대그래프를 다시 그리면, 바나나는 막대 몇 칸으로 나타내야 합니까?

① 1칸 ② 2칸 ③ 3칸 ④ 4칸 ⑤ 6칸

22. 희수네 학교 학생들이 좋아하는 음식을 조사한 표입니다.

<좋아하는 음식별 학생 수>

음식	떡볶이	김밥	떡국	볶음밥	합계
학생 수(명)	28	16	8	20	72

눈금 한 칸이 4명을 나타내는 막대그래프를 그린다면 떡볶이를 좋아하는 학생은 몇 칸으로 그려야 합니까?

① 6칸 ② 7칸 ③ 8칸 ④ 9칸 ⑤ 10칸

23. 미술대회에 참가한 학생수를 조사하여 학교별로 나타낸 막대그래프입니다.

〈미술 대회에 참가한 학생 수〉

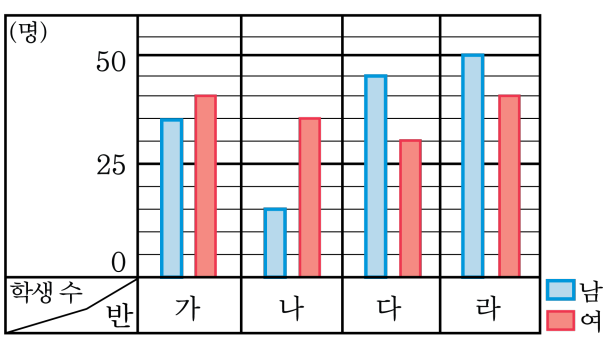

(나) 학교에서 참가한 여학생의 수보다 많은 남학생이 참가한 학교는 어느 학교인지 모두 고르면?

① 가, 다　② 가, 라　③ 다　④ 다, 라　⑤ 없음

24. 다음 숫자 중 위쪽으로 뒤집었을 때 처음 모양과 같지 않은 것을 모두 고르시오.

① 0 ② 1 ③ 6

④ 8 ⑤ 9

25. 다음 중 도형을 뒤집은 모양이 옳지 <u>않은</u> 것은 어느 것입니까?

①

②

③

④

⑤

26. 도형을 시계 방향으로 90°만큼 돌리고 아래쪽으로 뒤집었을 때의 도형은 어느 것입니까?

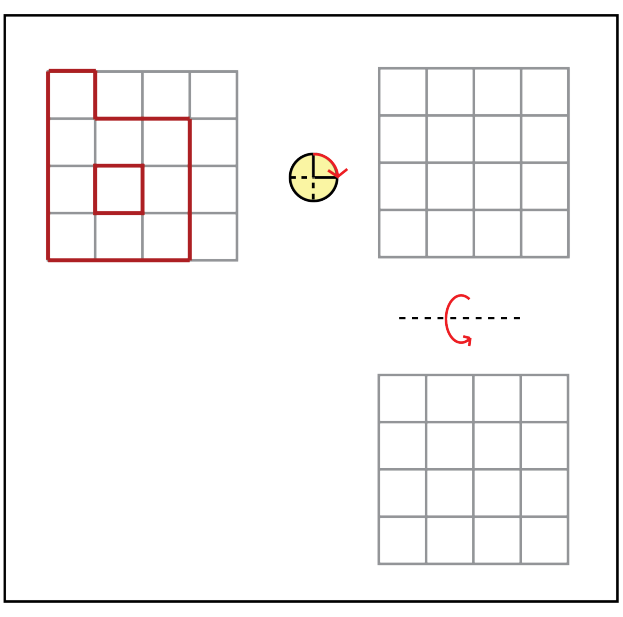

①
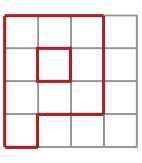

②
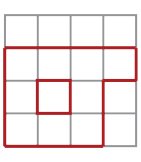

③
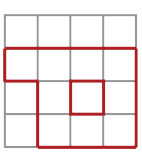

④
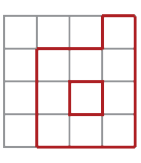

⑤
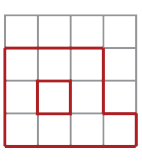

27. 모형으로 만든 도형의 배열에서 다섯째 도형의 모형의 수는 몇 개입니까?

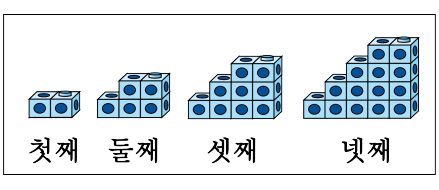

① 16개 ② 17개 ③ 18개 ④ 19개 ⑤ 20개

28. 곱셈식에서 규칙에 따라 계산한 값이 8888888811111111 이 되는 것은 언제입니까?

순서	곱셈식
첫째	$89 \times 99 = 8811$
둘째	$889 \times 999 = 888111$
셋째	$8889 \times 9999 = 88881111$
넷째	$888889 \times 99999 = 8888811111$

① 다섯째 ② 여섯째 ③ 일곱째
④ 여덟째 ⑤ 아홉째